2021 北京丰台高三（上）期末

地　　理

考生须知：

1.答题前，考生务必先将答题卡上的学校、年级、班级、姓名、准考证号用黑色字迹签字笔填写清楚，并认真核对条形码上的准考证号、姓名，在答题卡的“条形码粘贴区”贴好条形码。

2.本次考试所有答题均在答题卡上完成。选择题必须使用 2B 铅笔以正确填涂方式将各小题对应选项涂黑，如需改动，用橡皮擦除干净后再选涂其它选项。非选择题必须使用标准黑色字迹签字笔书写，要求字体工整、字迹清楚。

3.请严格按照答题卡上题号在相应答题区内作答，超出答题区域书写的答案无效，在试卷、草稿纸上答题无效。

4.本试卷满分共 100 分，作答时长 90 分钟。

一、选择题（下列各小题均有四个选项，其中只有一项是符合题意要求的。请将所选答案前的字母，按规定要求填涂在答题卡相应位置上。每小题 3 分，选对一项得 3 分，多选则该小题不得分，共 45 分）

第七次全国人口普查从 2020 年 11 月 1 日到 12 月 10 日进行入户登记。下图为 1950—2010 年我国少年儿童数量及占比变化统计图。读图，完成下面小题。

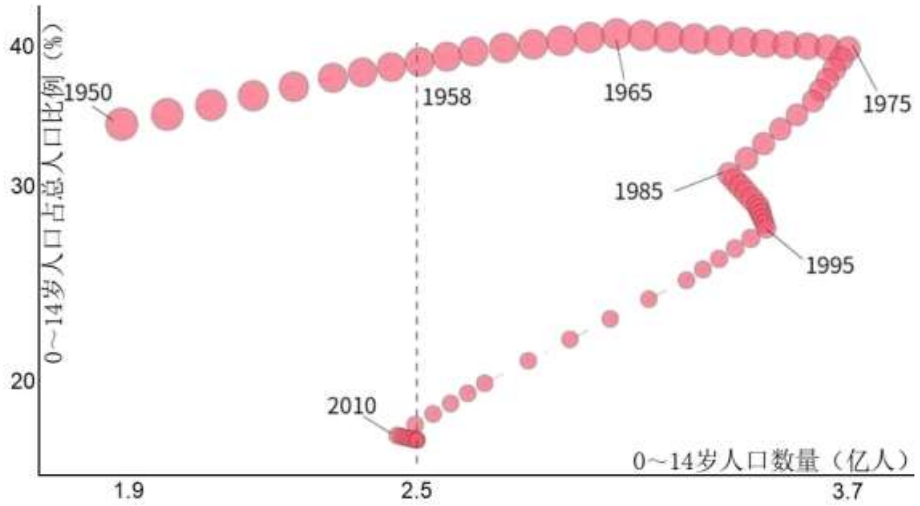

1. 据图可知（　）

A. 1950—1975 年间，我国人口增长迅速

B. 1950—2010 年间，1975 年的新生儿数量最多

C. 1985—1995 年间，少年儿童数量变化与计划生育政策密切相关

D. 第七次全国人口普查我国少年儿童数量将远少于 2010 年

2. 第七次全国人口普查可以（　）

①全面查清中国人口数量、结构、分布、城乡住房等方面情况

②利用中国北斗卫星导航系统确定调查对象的具体位置

③为科学制定国民经济和社会发展规划提供依据

④为实现可持续发展战略提供科学准确的统计信息支持

A. ①②③　　B. ①②④　　C. ①③④　　D. ②③④

万物土中生，有土斯有粮。实施“藏粮于地”战略是保障我国粮食安全的重要战略举措之一。下图表示 1949—2016 年我国粮食作物播种面积和粮食产量变化。读图，回答下面小题。

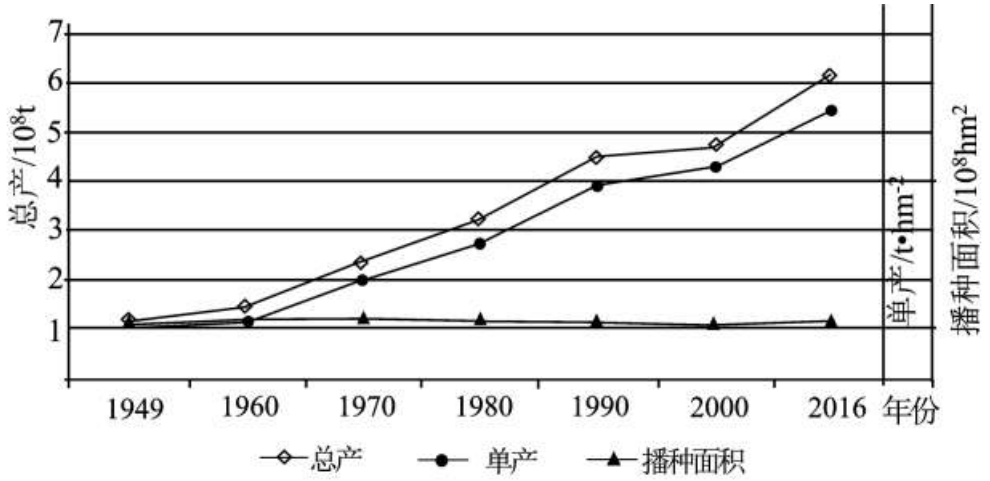

3. 1949—2016 年间，我国粮食（　）

A. 播种面积持续减少　　B. 单位面积产量加速上升

C. 进口数量不断下降　　D. 总产量总体呈增加趋势

4. 我国“藏粮于地”的有效途径有（　）

①扩大耕地面积②建设高标准农田③治理农田环境污染④增加劳动力投入

A. ①②　　B. ①④　　C. ②③　　D. ③④

我国东部某纺织企业以其深耕多年的新疆为中心布局棉花全产业链，并在越南也新建有生产基地。下图为棉花全产业链生产模式示意图。读图，完成下面小题。

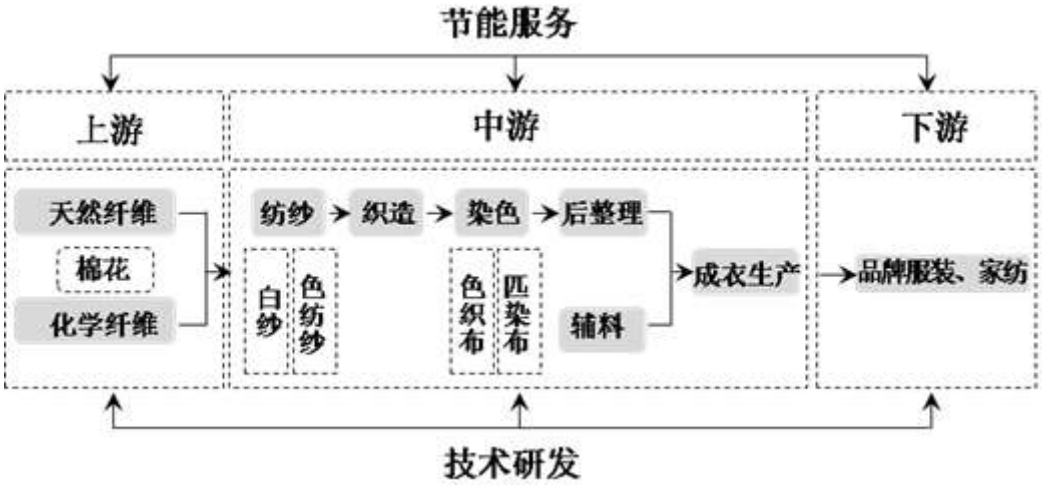

5. 该棉花全产业链生产模式（　）

①属环境友好型，符合可持续发展要求②产品创新性强，附加值较高

③生产制造过程分散，市场竞争力较弱④可提供稳定就业机会，吸引大城市人口迁入

A. ①②　　B. ③④　　C. ①③　　D. ②④

6. 与越南相比，以新疆为中心布局的棉花全产业链（　）

①地处“一带一路”沿线，距离国际市场更近②棉花资源丰富，品质好

③棉花产业基础好④发展受水资源制约

A. ①②③　　B. ②③④　　C. ①③④　　D. ①②④

农牧交错带指我国东部农耕区与西部草原牧区相连接的半干旱生态过渡带。下图为我国农牧交错带分布图。据此完成下面小题。

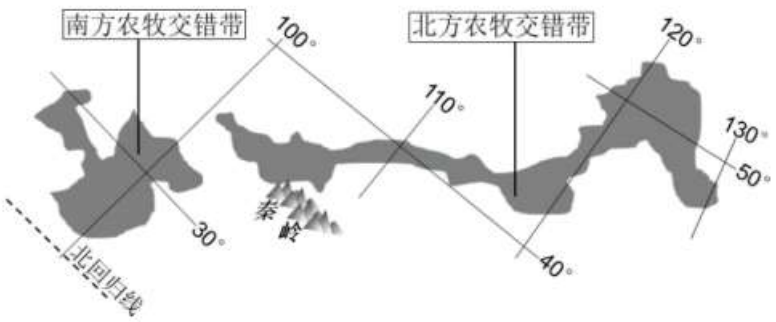

7. 农牧交错带有很强的过渡性，北方农牧交错带的过渡性表现为（　）

①高原地形向平原地形过渡②半干旱区向半湿润区过渡

③荒漠景观向草原景观过渡④人口稀疏区向密集区过渡

A. ①②③　　B. ②③④　　C. ①③④　　D. ①②④

8. 农牧交错带主要的生态环境问题表现为（　）

①耕地减少②水土流失③土地荒漠化④物种多样性减少

A. ①②　　B. ②③　　C. ③④　　D. ①④

9.　农牧交错带，宜（　）

A. 退耕还牧，扩大载畜量　　B. 开垦荒地，提高人均耕地面积

C. 退耕还林，大量植树造林　　D. 发展草、粮轮作，提高土壤肥力

华北平原地势低平，在平原上有许多起伏和缓的岗地，岗间为浅平封闭的洼地。洼地排水不畅，每到雨季，极易积水形成低湿地，限制了当地农业发展。治理低湿地的主要措施是“因洼制宜”采取“鱼塘—台田”模式。下图为低湿地区“鱼塘—台田”模式图。据此，完成下面小题。

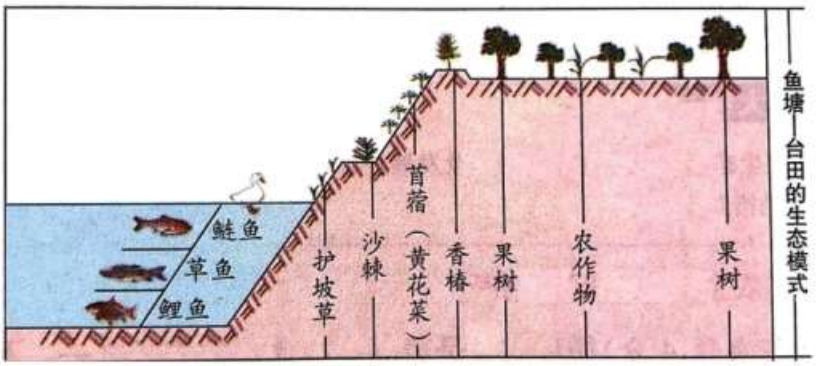

10. 图中的果树和农作物可能为（　）

A. 苹果树、棉花　　B. 桑树、水稻　　C. 梨树、甘蔗　　D. 柑橘树、小麦

11. “鱼塘—台田”模式产生的生态效益有（　）

A. 通过立体开发，促使当地农民脱贫致富

B. 挖塘筑台田，有效改造土壤盐渍化问题

C. 利用河网密布的优势，发展生态农业

D. 发展多种经营，优化了农业产业结构

12. 下图为某地麦田景观。读图，回答下题。



该麦田景观可能出现在（　）

A. 3 月份 阿根廷潘帕斯草原　　B. 6 月份 法国巴黎盆地

C. 9 月份 澳大利亚墨累—达令盆地　　D. 12 月份 中国华北平原

每年 10 月底至 11 月中旬，北京进入银杏观赏季。漫步在银杏大道，微风过处，耳边是“沙沙的天籁之音”，眼前落叶翻飞舞动，脚下阳光斑驳的金色大道伸向远方。下图为北京某处银杏大道景观图。据此，完成下面小题。



13. 下列景观与上述旅游景观的欣赏方法相同的是（　）

A. 两岸猿声啼不住，轻舟已过万重山

B. 飞流直下三千尺，疑是银河落九天

C. 落霞与孤鹜齐飞，秋水共长天一色

D. 横看成岭侧成峰，远近高低各不同

14. 银杏落叶景观（　）

A. 季相变化明显，树木高大、喜阴　　B. 体现了植物对自然环境的适应性

C. 植被属于亚热带、温带常绿阔叶林　　D. 是当地地貌、土壤综合作用的结果

15. 琅勃拉邦是老挝佛教中心，距今已有一千多年的历史，是该国现存最古老的一个城镇。有人说：走进琅勃拉邦，也就走进了老挝的历史。琅勃拉邦面积约 10 平方公里。这里自然风光优美、地域文化独特。结合下图，回答下题。

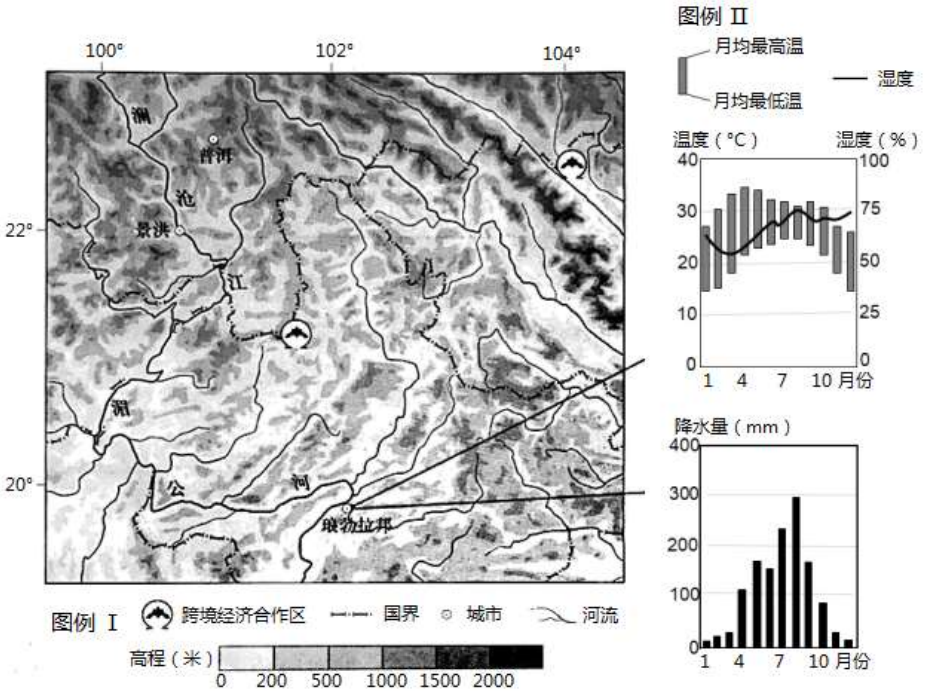

琅勃拉邦（　）

A. 最佳旅游时期应该是每年的 1—2 月份

B. 可鼓励游客采用自驾的方式游览古都

C. 旅游资源体现地域性和季节的多样性

D. 能让游人感受到旅游资源科学价值高

二、综合题（共 55 分）

16. 读下图，回答下列问题。

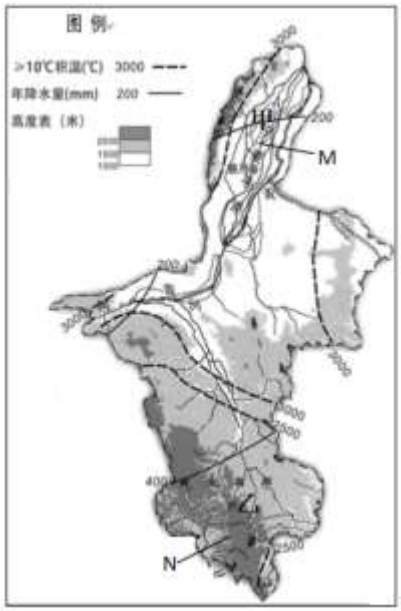

（1）绘制 M、N 两地间的≥10℃积温分布曲线图，并说明 M、N 两地≥10℃积温差异的形成原因。

区域资源环境承载力是指在保证资源合理开发利用和保护良好生态环境的前提下，区域的资源环境条件所能承载的人口数量。

（2）从自然资源的数量和质量角度，分析甲地区域资源环境承载力高于乙地的原因。

17. 读下图，回答下列问题

十年前，无锡市正式拉开了中国物联网发展的序幕。十年后，物联网产业发展构建了良好的“生态系统”，贡献出无锡智慧。

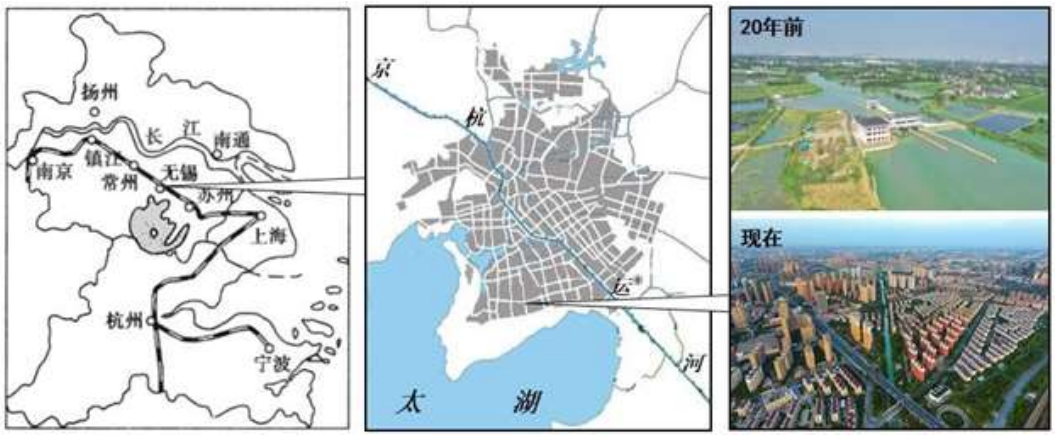

（1）指出无锡的地理位置。

物联网基地落户城南推动了无锡南部的城镇化进程。

（2）说出无锡南部城区的景观变化。

近年来，无锡市运用“物联网+”现代农业生产管理技术，利用远程控制的生产设备参与智慧农业生产过程，助推农业向高质量发展。

（3）与传统农业相比，概述智慧农业的特点。

18. 阅读下图和资料，回答下列问题。

唐代开通了南粤与北方繁华地区的“京广大水道”。



（1）简述在唐朝开通“京广大水道”的原因。

（2）指出“京广大水道”沟通的水系。

2012 年，中国第一条纵贯南北的高铁——京广高铁建成通车。京广高铁全长 2298 公里，一共经过 6 个省级行政区，连接了多个城市和城市群。

（3）简述京广高铁修建的意义。

19. 阅读图文材料，回答下列问题。

这个冬季，藏族小伙丁真以其帅气、纯真的外表火爆网络，并成为四川省甘孜藏族自治州理塘县旅游大使。幅员 14352 平方公里、约 7.3 万人、号称“世界高城”、“中国藏族赛马文化之乡”的理塘也因此热度大涨。丁真在为家乡做推介时说：“我是丁真，我的家就在四川甘孜州理塘县格聂雪山脚下。……冰川，草原，雪山，寺庙，白塔，还有唱不完的情歌，这就是我的世界。外面的世界很大，但我还是最爱我的家乡理塘。”左图、右图分别为理塘地形图和景观图。





（1）列举理塘可开发利用的旅游资源类型。

某地理兴趣小组对丁真家乡理塘的旅游资源开发条件做了初步评价后，对是否前往游览产生不同意见。

（2）如果你是小组中一员，请表明你的观点并阐释理由。

（3）指出大量游客涌入可能对理塘带来的环境问题。

20. 针对近年来咖啡店明显增多的现象,某校中学生进行了以咖啡为主题的探究活动。结合探究过程，回答下列问题。

探究任务一：市场咖啡知多少？——走访市场，了解中国咖啡市场行情

咖啡品类：速溶咖啡、现磨咖啡、即饮咖啡、胶囊咖啡、挂耳咖啡……

咖啡消费方式：“线上消费”、“办公室咖啡馆”、“便利店咖啡”、“新零售咖啡”……

咖啡产地：巴西、马来西亚、越南、哥伦比亚、古巴、埃塞俄比亚、墨西哥、印度尼西亚等

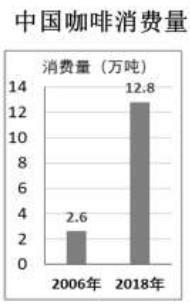



（1）归纳中国咖啡消费市场的特点。

探究任务二：咖啡世界寻国“迹”——查阅资料，探究中国咖啡产、消状况

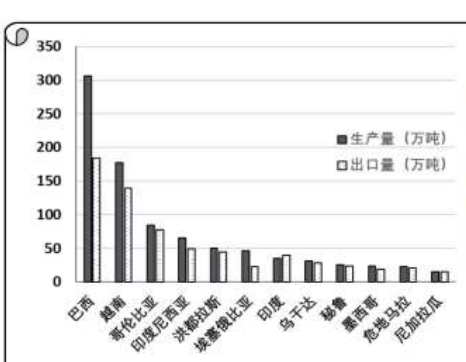

图甲 2017/2018 农事年全球咖啡生产量、出口量排名前12 国家

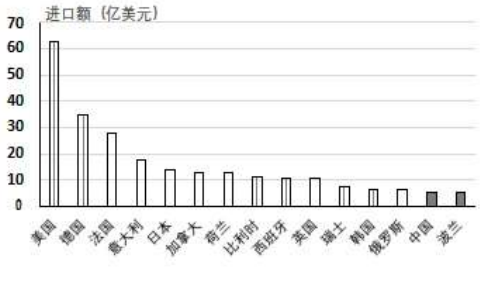

图 乙 2017 年全球咖啡进口额排名前 15 国家

（2）对比世界咖啡生产、出口国与消费国的差异。

（3）说出中国咖啡的生产、出口及消费在世界的地位。

探究任务三：咖啡好喝树可栽？——按图索骥，推知中国咖啡种植条件

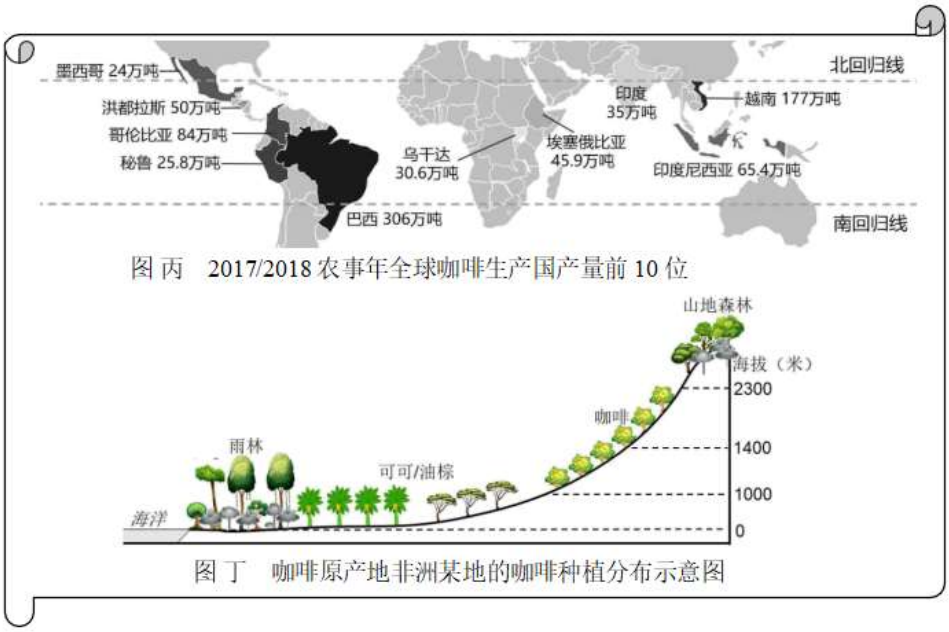

图丙　2017/2018 农事年全球咖啡生产国产量前 10 位

图丁　咖啡原产地非洲某地的咖啡种植分布示意图

（4）判断在我国大面积种植咖啡是否可行，并说明理由。

2021 北京丰台高三（上）期末地理

参考答案

一、选择题（下列各小题均有四个选项，其中只有一项是符合题意要求的。请将所选答案前的字母，按规定要求填涂在答题卡相应位置上。每小题 3 分，选对一项得 3 分，多选则该小题不得分，共 45 分）

【答案】1. A　2. C

【解析】

【分析】

【1 题详解】

读图我国少年儿童人口 1950 年约 1.9 亿，1975 年约 3.7 亿，且少年儿童占总人口比重从 35%左右上升到 40%左右，表明我国在 1950 年-1975 年之间，出生率高，自然增长率高，人口增长迅速，故 A 正确；读图 1975 年 0-14 岁人口数量最多，但无法判断新生儿的数量，故 B 错误；读图 1985 年-1995 年间，少年儿童数量增加，应受人口增长惯性的影响，故 C 错误；目前我国人口增长较为平稳，出生率有所下降，变化不大，但 2020 年人口总数大于 2010 年，所以 2020 年少年儿童人口数量和 2010 年相差不大，故 D 错误，所以该题选 A。

【2 题详解】

人口普查主要统计我国人口数量、结构、分布、人口的社会特征、家庭特征、教育特征、居住状况等，故①对；人口普查不用北斗导航确定调查对象的具体位置，故②错误；通过人口普查全面查清我国人口数量、结构和分布，准确把握人口变化趋势性特征，为科学制定国民经济和社会发展规划提供科学准确的人口信息支持，故③正确；摸清人力资源结构的信息，准确把握需求结构、城乡结构、区域结构、产业结构等状况，为实现可持续发展战略提供科学准确的统计信息支持，故④正确，所以该题选 C。

【点睛】我国第七次人口普查的项目主要有：姓名、公民身份证号码、性别、年龄、民族、受教育程度、行业、职业、迁移流动、婚姻生育、死亡、住房情况等。普查方式主要采用电子化方式开展普查登记。

【答案】3. D　4. C

【解析】

【分析】

【3 题详解】

由图可得，播种面积先增后减又增，A 错误。单位面积产量先加速上升后有减缓趋势，并不是一直加速上升，B 错误。进口数量材料和图中没有信息，无法判断，C 错误。总成量折线一直上升，所以总体呈增加趋势，D 正确。故选 D。

【4 题详解】

根据题目设问可知要选有效途径，四个选项都是途径，但要选择有效的、符合我国实际的途径。①我国目前退耕还林还草、工程房屋建设都需要大量占地，所以很难扩大耕地面积；②建设高标准农田可以提高产量从而

“藏粮于地”；③治理农田环境污染可以提高粮食的质量和产量，“藏粮于地”；④农业机械化生产比增加劳动力投入更有效和符合实际情况。A、B、D 错误，故选 C。

【点睛】中国农业资源丰富。土地资源类型多样，山地、丘陵和高原的面积占全国土地面积的 66%，平地占 34%。同时，半干旱与干旱地区所占比重大，约占全国土地面积的 50%以上。全国耕地面积 12339．22 万公顷（2003 年），主要集中在东部季风区的平原和盆地地区。种植业是中国最重要的农业生产部门，主要粮食作物有水稻、小麦、玉米、大豆等，经济作物有棉花、花生、油菜、甘蔗和甜菜等。

【答案】5. A　6. B

【解析】

【分析】

【5 题详解】

由图中信息及所学知识可知，新疆自然条件恶劣，该产品节能，属环境友好型，符合可持续发展的要求，①正确；根据材料“以深耕多年的新疆为中心布局棉花全产业链”，说明其强大的技术研发保证其产品的创新性，附加值较高，②正确；由材料“棉花全产业链生产模式”可知，集聚了纺织行业上下游企业，生产制造过程中，把上下游企业联系在一起，具有较强竞争力，③错误；该公司为新疆居民提供较为稳定的就业机会，增加了新疆的财政收入，但不会吸引大城市人口迁入，④错误；A①②正确。故选 A。

【6 题详解】

由图中信息及所学知识可知，距离中亚棉花产地及欧洲市场更近，且陆上交通更便利，①错误；新疆位于西北内陆地区，气候为温带大陆性气候，自然优越，棉花资源丰富且品质好，②正确，由于棉花种植需水量大，而该地区水资源短缺，棉花发展受水资源制约，④正确；以深耕多年的新疆为中心布局棉花全产业链，说明新疆棉花产业基础更好，③正确；B②③④正确。故选 B。

【点睛】考查区域产业经济的发展，主要考查考生获取和解读地理信息、描述和解释地理事物的能力，考查的核心素养是区域认知和综合思维。

【答案】7. D　8. B　9. D

【解析】

【分析】

【7 题详解】

北方农牧交错带位于内蒙古高原高原向东北平原、华北平原的过渡地带，故①正确；内蒙古高原为半干旱区，华北平原、东北平原为半湿润区，故②正确；内蒙古高原东部为草原带，华北平原和东北平原为森林带，所以是森林景观向草原景观的过渡，故③错误；该过渡带基本和黑河-腾冲一线重合，是人口稀疏区向密集区的过渡地带，故④正确。综上，正确的是①②④，所以本题正确答案为 D。

【8 题详解】

农牧交错带地处半干旱区向半湿润区过渡的地带，人类破坏植被后会导致水土流失、土地荒漠化等生态问题，故②③正确；该过渡区域，随着人口的增加，会出现草地减少，耕地增多的情况，故①错误；物种多样性减少不明显，故④错误。综上，正确的是②③，所以本题正确答案为 B。

【9 题详解】

该地地处半干旱区向半湿润区过渡的地带，扩大载畜量、开垦荒地都容易导致植被破坏，故 AB 错误；当地水分条件较差，大量植树造林，会造成当地水资源更加紧致，故 C 错误； 发展草、粮轮作，提高土壤肥力，有利于实现当地的可持续发展，故 D 正确。所以本题正确答案为 D。

【点睛】造成我国大规模季风降雨的水汽主要来自东南方的海洋，北方地理纬度较高，距东南方的海洋较远，当南方暖湿气流长途跋涉至北方以后，已成强弩之末，水汽基本上已消耗殆尽，所以越往北、往西伸入内陆，降水量就越少。农牧交错带正好位于我国东部季风区的北部边缘，降水量自然就较少。年降水量 400 毫米的等值线，大致自东向西横贯农牧交错带。年降水量南北的差异，形成了南北相对的农耕区和游牧区，于是产生了农牧交错的过渡带。

【答案】10. A　11. B

【解析】

【分析】

【10 题详解】

华北平原是温带季风气候，适宜苹果、棉花、梨、小麦的生长，不适宜水稻、甘蔗、柑橘的生长。选 A 正确。

【11 题详解】

“鱼塘—台田”模式，挖塘筑台田，及时排灌、减轻渍涝，能有效改造土壤盐渍化问题；促进农民脱贫致富、优化产业结构，都不是生态效益；当地不是河网密布的地形。选 B 正确。

【点睛】“鱼塘—台田”模式产生的生态效益核心是将平原改造成鱼塘-台田，进行引淡淋盐，井排井灌解决土地盐碱化；洪涝时，鱼塘可蓄水淋盐，台田可防涝；干旱时，鱼塘取水灌溉；低温时，鱼塘可防冻；台田坡面种植林-灌-草可防风沙侵袭。

12. 【答案】D

【解析】

【分析】

【详解】阿根廷潘帕斯草原的农业地域类型为大牧场放牧业，地表植被为草原，不是麦田，故 A 错误；法国巴黎盆地种植冬小麦，6 月份小麦接近成熟，小麦高度较高，颜色为黄色，故 B 错误；澳大利亚墨累-达令盆地为著名的小麦牧羊带，图中只有麦田，没有牧场，故 C 错误；中国华北平原，地形平坦开阔，以种植冬小麦为主，12 月份为初冬季节，小麦高度较低，由于气温变低，小麦基本停止生长，呈现图中所示景观，故 D 正确。所以本题正确答案为 D。

【答案】13. C　14. B

【解析】

【分析】

【13 题详解】

两岸猿声啼不住，轻舟已过万重山，峡谷景观乘舟观赏；飞流直下三千尺，疑是银河落九天，瀑布景观仰望观赏；落霞与孤鹜齐飞，秋水共长天一色，远看、近观秋天景色；横看成岭侧成峰，远近高低各不同，登高远看、俯看山地景观；观赏银杏叶的翻飞舞动、阳光斑驳的金色大道，可远看、近观秋季景色，与“落霞与孤鹜齐飞，秋水共长天一色”观赏方法相同。选 C 正确。

【14 题详解】

银杏是喜光植被，A 错；银杏秋季变黄落叶，体现了植物对自然环境的适应性，B 正确；银杏落叶，不是常绿植被，C 错；落叶主要是水分变少、气温变低影响，与地貌、土壤关系不大，D 错。选 B 正确。

【点睛】一般景观的观赏方法：

峰峦观赏------远距离俯视

江河曲线、湖海的旷景------远距离俯视

峡谷、洞、一线天------近距离观看

小的湖、沼、池塘------近距离观看

瀑布------适当距离仰视

山水组合------乘船

地貌的特色造型------深入其中观赏

15. 【答案】A

【解析】

【详解】由图中信息可知，琅勃拉邦地处热带，气候湿热，1-2 月份气温较低，降水较少，人体舒适度高，适合旅游，A 正确。该地区地处山区，地势起伏大，不应鼓励自驾游，B 错误。地处热带，旅游资源难以体现季节的多样性，C 错误。旅游资源具有独特性，但是并不能让游客感受到其科学价值高，D 错误。故选 A。

二、综合题（共 55 分）

16. 【答案】（1）据题意画图。横纵坐标名称及单位、线的端点（M、N）及趋势;与 N 地相比，M 虽地处较高纬度，但地势低，≥10℃积温高于 N 地。

（2）甲地地处平原，有黄河流经；乙地处高原山地，虽降水较多，但水土流失严重；甲地可耕作土地资源、水资源等均优于乙地；因而，甲地区域资源环境承载力高于乙地。

【解析】

【分析】

本题以宁夏为区域背景，考查影响气温的因素和资源环境承载力。

【详解】（1）本题考查作图能力和影响气温的因素。作图过程中要注意图示内容的完整性，包含横纵坐标的名称及单位、M 和 N 两端点。根据图中等值线数值变化趋势，可以看出 M 地积温为 3000℃-3500℃，N 地积温为 2000℃-2500℃，MN 与 3000℃、2500℃两条等积温线相交，四个点的积温值确定后，用光滑的曲线按照变化趋势连接起来即可。影响气温的主要因素包含纬度、大气环流、海陆位置、洋流、地形等，根据图中信息可知，两地距离较近，大气环流、海陆位置和洋流差异很小，M 地纬度高于 N 地，但差异不大，差异最大的是两地的海拔高度，根据分层设色图，M 地海拔为 1000 米-1500 米，N 地海拔为 2000 米-2500 米，因此 M 地虽然纬度较高，但由于地势比 N 地低得多，积温要高于 N 地。

（2）本题考查影响资源环境承载力的因素。本题的设问中已经限制了从自然资源的数量和质量角度，从图例和注记信息中可以看出两地在热量、降水、地形、水源等资源上都有显著差异，甲地位于黄河干流沿岸的冲积平原上，地形平坦，土壤深厚肥沃，灌溉水源充足，积温较高，而乙地位于山区，积温较少，地形坡度较大，虽然降水较多，但水土流失会比较严重，土层较薄、肥力较低，因此从气候资源、土地资源、水资源等角度可以判断甲地区资源环境承载力高于乙地。

【点睛】第（1）题等值线的判读可以从数值、疏密、走向、凸向（凸高为低、凸低为高）、闭合（大于大的、小于小的）五个方面出发。第（2）题注意答题的限制角度，虽然影响环境承载力的因素包含资源状况、科技水平、对外开放程度、消费水平四个方面，但设问中已经把角度限制在自然资源方向，要充分挖掘图中图例和注记中关于自然资源的信息并加以分析。

17. 【答案】（1）位于长江三角洲地区；北依长江，南临太湖；东联苏州、上海，西联常州、南京；大运河自西北向东南穿城而过。

（2）乡村景观演变为城市景观（乡村聚落演变为城市聚落）；农业用地减少，建筑用地增多。

（3）集约化、现代化、自动化、机械化程度高；依赖农业科技；生产效率高；受自然环境影响小；面向市场经营的生产方式。

【解析】

【分析】

本题以无锡物联网产业发展构建了良好的“生态系统”为载体，考查了无锡市的地理位置，发展状况及智慧农业。

【详解】（1）由图中信息及所学知识可知，无锡市地处中低纬度、亚热带地区；北有长江，南临太湖；位于长江三角洲经济大区；经过无锡的铁路东联苏州、上海，西联常州、镇江、南京；大运河自东南向西北穿城而过。

（2）由图中信息可以看到，20 年前，无锡以乡村聚落为主，农田分布广；20 年后，无锡以高楼大厦的城市景观为主，农田减少，建筑高大稠密。

（3）根据材料，与传统农业相比：“‘物联网+’现代农业生产管理技术”可知，该地农业实现集约化、现代化、自动化生产，农业机械化水平高；农业科技水平高，劳动生产效率高；根据材料“利用远程控制的生产设备参与智慧农业生产过程，助推农业向高质量发展”可知，智慧农业受自然环境影响小；产品质量好，商品率高。

【点睛】

18. 【答案】（1）唐朝时南北方物资运输需求量大，与当时的陆路交通方式相比，水路运输量大，运输成本低，资金和技术是保障。

（2）珠江水系、长江水系、淮河水系、黄河水系、海河水系。

（3）意义：完善我国综合交通运输体系，缓解北京与广州之间铁路运输紧张局面；加快沿线人流、物流、信息流、资金流等，推进城市化进程，促进区域经济协调发展等。

【解析】

【分析】

本题主要考查了交通建设的区位条件和意义等相关知识，要求考生准确获取和解读地理信息，调动与运动地理知识解决问题，难度一般。

【详解】（1）唐朝时交通运输发展较为落后，铁路、公路等运输方式还没有出现，水运的地位突出。水运具有运量大、运费低等突出优势。唐朝时南北方物资运输需求量大，且具备开通水道的的资金和技术条件。

（2）由中国河流水系分布可知，该水道沟通了珠江水系、长江水系、淮河水系、黄河水系、海河水系。

（3）高铁建设的意义可以从加强区际联系，改善交通条件，促进经济发展，增强城市的辐射能力，加快我国城市化的整体进程等方面进行回答。京广高铁的建设可以完善我国综合交通运输体系，缓解北京与广州之间铁路运输紧张局面；加快沿线人流、物流、信息流、资金流等，推进城市化进程，促进区域经济协调发展等。

19. 【答案】（1）自然旅游资源如冰川、草原，雪山等；人文旅游资源，如寺庙，人文活动等

（2）同意前往，理由：旅游资源集群状况好，地域组合好，美学价值高，游览价值高。

不同意前往，理由：理塘地理位置偏僻，交通通达度较低，当地基础设施配套较差，地区接待能力不足。

（3）环境破坏、环境污染、对正常社会秩序造成冲击。

【解析】

【分析】

本题主要考查旅游资源的类型、旅游资源开发条件评价和旅游环境保护等相关知识点。

【详解】（1）根据旅游资源本质属性，旅游资源分为自然旅游资源和人文旅游资源。自然旅游资源包括地质地貌景观、气象气候景观、水文地理景观、生物景观，材料中冰川、草原、雪山属于自然旅游资源；人文旅游资源包括建筑景观、文化艺术景观、风土民情，材料中的寺庙、白塔、情歌属于人文旅游资源。丁真在为家乡做推介时说：“我是丁真，我的家就在四川甘孜州理塘县格聂雪山脚下。……冰川，草原，雪山，寺庙，白塔，还有唱不完的情歌。由材料可知，理塘可开发利用的旅游资源类型有：冰川、草原，雪山等自然旅游资源；有寺庙、白塔和丰富的人文活动等人文旅游资源。

（2）同意前往的理由：理塘的游览价值：包括理塘旅游资源的质量、旅游资源的集群状况、景观的地域组合状况；理塘的交通位置和通达度；理塘与地理兴趣小组所在地之间的距离；理塘的接待能力等。由材料可知，理塘处于四川甘孜州理塘县格聂雪山脚下，有冰川、草原、雪山、寺庙、白塔、还有唱不完的情歌，旅游资源集群状况好，地域组合好，美学价值高，游览价值高。不同意前往的理由：读材料和图可知，四川甘孜州理塘

县格聂雪山地处边远地区，地理位置偏僻，海拔较高，市场距离较远且通达度低，基础设施配套较差，人口较少，经济欠发达，地区接待能力不足。

（3）大量游客涌入需要满足游客的食、宿、行、游、购、娱的需求，相关人工设施的建设，必将加大自然环境的压力，对自然环境造成各种污染，如大气污染、水污染、固体废弃物污染、噪声污染、视觉污染等，破坏当地的生态系统，外来文化的强力冲击、不文明的游客行为等，会扰乱当地正常社会秩序。

【点睛】

20. 【答案】（1）咖啡品类丰富，消费方式多样，产地主要位于热带国家，咖啡消费量和人均咖啡消费量不断增加。

（2）世界上咖啡的生产、出口以发展中国家为主，但消费主要以发达国家为主。

（3）（中国在生产、出口、消费方面均不在前列。

（4）不可行。从资料可知，咖啡主要种植带在南北回归线之间的热带地区；适宜在高温多雨、排水良好的地区生长；我国热带范围小，高温多雨且排水良好的、能满足咖啡生长需求的地区面积小。

【解析】

【分析】

本题考察农业的区位因素，考察学生获取和解读地理信息的能力，调动和运用地理知识分析问题、解决问题的能力。

【详解】（1）由图可知，归纳中国咖啡消费市场的特点，从咖啡品类、咖啡消费方式、咖啡产地、咖啡消费量及人均消费量等方面进行分析即可。从图中提取信息，可知咖啡品类丰富，消费方式多样，产地主要位于热带国家，咖啡消费量和人均咖啡消费量不断增加。

（2）由图可知，咖啡生产国和出口国排名前靠前的国家中巴西和越南生产量和出口量最多，所以以发展中国家为主，而从全球咖啡进口额度排名可知，排名靠前的国家为美国、德国、法国等发达国家为主。

（3）由图可知，全球咖啡生产量和出口量排名前 12 国家的图中并无中国，而全球咖啡进口额度中，中国也排名靠后，所以中国在生产、出口、消费方面均不在前列。

（4）本题考察农业生产条件。考察咖啡种植的自然条件从气候、地形、土壤和水源等方面进行分析。由图可知，咖啡原产于非洲，且咖啡主要的种植区分布于热带地区，属于喜热作物，生长于热带、亚热带地区。且从咖啡分布分布示意图中可知，咖啡主要分布于坡度较大的山地和丘陵地区，有力于排水，而我国热带范围较小，高温多雨且排水良好等满足咖啡种植条件的地区较少。

【点睛】