2022 北京昌平高三（上）期末

政　　治

一、本部分共 15 题，每题 3 分，共 45 分。在每题列出的四个选项中，选出最符合题目要求的一项。

1. 中国载人航天工程实施近 30 年来，我国的载人航天事业从无到有，从弱到强，以令人惊叹的速度，一路追赶、并跑、超越：从无人飞行到载人飞行，从一人一天到多人多天，从舱内实验到出舱活动，从单船飞行到组合体稳定运行，我们跨越了发达国家半个世纪的发展历程。中国载人航天从弱到强的发展历程（　　）

①说明中国科技发生质的飞跃，强国梦已经实现

②彰显了中国特色社会主义的无限生机与活力

③展示了伟大的中国道路、中国精神、中国力量

④是我国始终坚持以科技创新为中心的具体体现

A. ①②　　B. ①④　　C. ②③　　D. ③④

2. “一心中国梦，万古下泉诗”是南宋名句。今天我们所说的“中国梦”，与古人所言的“中国梦”有了根本的不同，是指实现中华民族伟大复兴的中国梦。要实现这一伟大梦想需要（　　）

①党领导人民进行伟大斗争、建设伟大工程、推进伟大事业

②青年人脚踏实地，在实现个人利益的过程中放飞青春梦想

③发挥中国共产党的主体作用，做中国梦的建设者和享受者

④解放和发展生产力，最大限度满足人民对美好生活的需要

A. ①②　　B. ①④　　C. ②③　　D. ③④

3. 国务院关于 2020 年度国有资产管理情况的综合报告提请十三届全国人大常委会第三十一次会议审议，亮出我国国有资产管理最新“账单”如下



关于国有资产以下说法正确的是（　　）

①国有资产是国有企业职工的共同财富，必须管好用好

②国有资产“家底”厚实，有利于增强国有经济　控制力、影响力

③公布国有资产管理情况，有利于提高国有资产管理的透明度和公信力

④体现了全社会对国有金融资本的监管，有利于防范化解重大金融风险

A. ①③　　B. ①④　　C. ②③　　D. ②④

4. 建设安全可靠、生态良好、天朗气清的网络空间符合人民利益和国家利益。网信事业越是发展，信息化服务越是普及，数字经济越是加速勃兴，各行各业对安全需求也就越来越高。下列做法有利于实现网络安全的是（　　）

①完善网络市场规则和标准、构建公平公正的市场环境

②全球范围内深化合作、共建网络空间命运共同体

③巩固非公经济在网络安全建设中的主导性地位

④提升公民网络安全意识，使其发挥决定性作用

A. ①②　　B. ①③　　C. ②④　　D. ③④

5. 据 2021 年 9 月国家统计局发布　数据显示，从累计增速看，2021 年 1-8 月份社会消费品零售总额仍保持两位数较快增长，消费市场持续恢复态势并未改变。下图是 2020 年 1 月至 2021 年 8 月社会消费品零售总额环比增速图。结合图表，以下关于社会消费品零售总额增速的变化合理的是（　　）

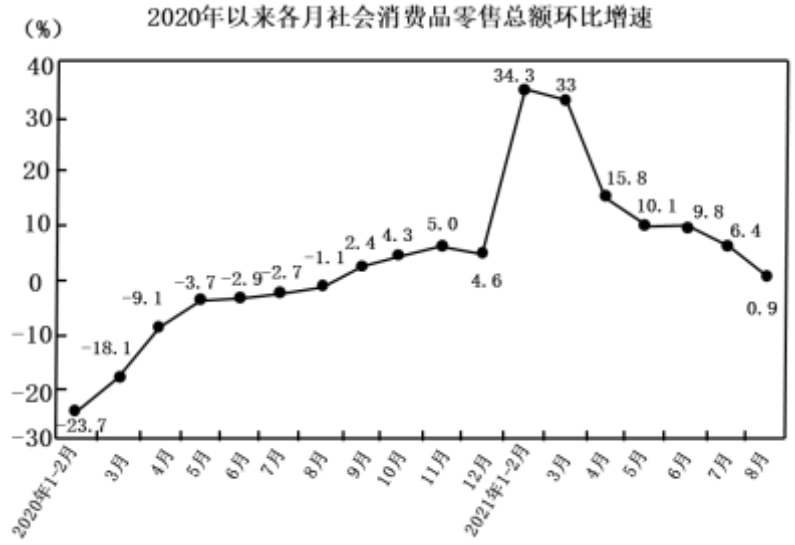

①2020 年 1-8 月,社会消费品零售总额持续增长

②2021 年 4-8 月,社会消费品零售总额增速下降带来恩格尔系数上升

③2021 年 1-3 月,节日消费带来社会消费品零售总额增长较快

④2020 年总体受疫情影响,消费市场低迷，会影响我国经济增速

A. ①②　　B. ①④　　C. ②③　　D. ③④

6. 2021 年 4 月，市场监管总局依据《中华人民共和国反垄断法》，对某互联网外卖平台在中国境内滥用市场支配地位行为立案调查。经调查市场监管总局依法作出行政处罚决定，责令该平台停止违法行为，并作出 34.42 亿元的行政处罚决定。市场监管总局的处罚，有利于（　　）

①推动行业健康发展、促进社会公平正义

②为市场主体创造更优化的发展环境

③强化政府职能，促进货币政策实施

④消除市场滞后性，促进企业自由竞争

A. ①②　　B. ①③　　C. ②④　　D. ③④

7. 截至 2021 年 9 月底，全国基本养老、失业、工伤保险参保人数分别为 10.21 亿人、2.26 亿人、2.79 亿人。1~9 月，向 1429 万失业人员发放失业保险待遇 783 亿元，向 150 万人次发放价格临时补贴 6 亿元。16 个省份提高了城乡居民养老保险省级基础养老金，超过 2020 年。这说明（　　）

①通过国民收入再分配，能够调节不同群体之间的利益关系

②社会优抚能够很好的防范和化解失业人员的生存危机

③社会保障通过风险分摊与责任共担，充分发挥社会互助功能

④社会福利是最高层次的社会保障，是我国社会保障体系的核心

A. ①②　　B. ①③　　C. ②④　　D. ③④

8. 时代楷模、优秀共产党员黄文秀研究生毕业后，自愿回到百色革命老区工作，主动请缨到贫困村担任驻村第一书记。在脱贫攻坚中她立下“不获全胜、决不收兵”的铿锵誓言，积极推动实施村屯亮化、道路硬化和蓄水池修建等工程项目，带领群众发展多种产业。2019 年黄文秀在突发山洪中不幸遇难，年仅 30 岁。黄文秀的先进事迹体现了（　　）

①党加强自身建设，不断提高执政能力和水平

②共产党员不忘初心、牢记使命的责任担当

③党完善领导方式，发挥党员的先锋模范作用

④共产党员坚定理想信念，永远跟党走的信心和决心

A. ①②　　B. ①③　　C. ②④　　D. ③④

9. 办证“零跑腿”、线上问诊、AI 信号灯、互联网法庭、高空抛物监控……这些曾经出现在科幻电影里的奇思妙想，如今正走进市民的现实生活，并且通过指尖就能轻松实现。杭州、重庆、天津、武汉、合肥……如今，越来越多的城市加入智慧城市行列，搭建出会思考的“城市大脑”，为城市管理提供新思路、新路径和新模式。建设智慧城市（　　）

①旨在促进政府性质转变，打造守法诚信的政府

②使信息技术完全取代人工管理，促进效率提升

③有助于提升市民幸福感，满足美好生活需要

④为社会治理现代化赋能，提升管理和服务水平

A. ①②　　B. ①③　　C. ②④　　D. ③④

10. 普法文化街、“一街一室一园”普法文化圈……在西长安街两侧，法治漫画和以案释法的法律小故事文化墙随处可见。这种用通俗易懂、寓教于乐的形式向居民阐述与生活密切相关的法律知识，让人们逐步形成了办事依法、遇事找法、解决问题用法、化解矛盾靠法的新思维。开展全民普法有利于（　　）

①将全民普法作为依法治国的长期基础性工作，建设法治社会

②提升公民　法治素养，完善中国特色社会主义法律体系

③增进社会共识，维护社会秩序，消除社会矛盾

④调动人民群众投身依法治国实践的积极性和主动性

A. ①③　　B. ①④　　C. ②③　　D. ②④

11. 援外 71 年来，我国已向 160 多个国家提供了各类援助，包括成套项目、物资援助、技术合作项目等。新冠疫情发生后，我国开展了新中国成立以来时间最集中、涉及范围最广的紧急人道主义援助，已向 150 多个国家和 13 个国际组织提供了防疫物资，向 106 个国家和 4 个国际组织提供了超过 15 亿剂疫苗。如果给此新闻配一个标题,最合适的是（　　）

A. 助力全球发展，中国展现大国担当

B. 推动抗疫合作，中国提供交流平台

C. 促进多边贸易，中国与世界共赢

D. 强化安全保障，中国重构世界秩序

12. 习近平指出：“历史一再证明，没有和平就没有发展，没有稳定就没有繁荣。各国安全紧密相关，没有哪个国家可以独善其身，也没有哪个国家可以包打天下。”下列能够诠释这一观点的有（　　）

①第十三届全国人民代表大会第三次会议在京开幕

②某大国正式退出旨在遏制气候变化的《巴黎协定》

③《区域全面经济伙伴关系协定》(RCEP)正式签署

④中国先后参加 25 项联合国维和行动，累计派出 4 万余人次维和人员

A. ①②　　B. ①③　　C. ②④　　D. ③④

13. 伽利略通过观察吊灯随风摇曳的现象发现了单摆等时定律；德国科学家魏格纳通过观察墙壁上挂着的世界地图创立了“大陆漂移”学说。同学们运用逻辑与思维的知识对此发表各自的看法，你认为正确的有（　　）

①小明：这说明思维在实践中产生，在实践中发展

②小刚：这说明思维具有概括性和社会历史性

③小亮：学习科学思维，有利于我们把握本质和发展规律

④小华：这说明科学思维的结果不具有可检测性

A. ①②　　B. ①③　　C. ②④　　D. ③④

14. 甲、乙、丙、丁四个人的血型各不相同，他们的血型是 A、B、O、AB 型四种中的一种。

甲说：“丙是 A 型。”

乙说：“丁是 O 型。”

丙说：“如果我是 A 型，丁就是 O 型。”

丁说：“我不是 O 型。”

经核查，四个人中只有一个人的说法不真实。下列选项正确的是（　　）

A. 甲和乙两人的判断是不一样的，必有一假，可得出结论：丁不是 O 型

B. 排中律表明，甲和乙两人的判断必有一真，可得出结论：丁是 O 型

C. 如果甲的说法是真的，可得出结论：丙是 A 型，丁是 B 型

D. 矛盾律表明，乙和丁两人的判断必有一假，且四人中只有一人讲话是假的，可得出结论：丁是 O 型

15. 党的十九大报告指出：“中国特色社会主义进入新时代，我国社会主要矛盾已经转化为人民日益增长的美好生活需要和不平衡不充分的发展之间的矛盾。”同时又指出：“我国社会主要矛盾的变化，没有改变我们对

我国社会主义所处历史阶段的判断，我国仍处于并将长期处于社会主义初级阶段的基本国情没有变。”对于中国特色社会主义社会“变”与“不变”的认识正确的是（　　）

①“变”是为了满足人民美好生活需要的发展，“不变”的是不平衡不充分的发展

②“变”是实事求是，“没有变”也是实事求是，是创造性地坚持和发展中国特色社会主义

③“不变”是绝对的、永恒的，“变”是相对的、暂时的

④党既要有“变化”的勇气，又要有“不变”的初心

A. ①②　　B. ①③　　C. ②④　　D. ③④

二、本部分共 6 题，共 55 分。

16. 2021 年是中国共产党建党 100 周年，百年奋斗、百年积累、百年风华写就一部厚重的党史书。

【图说党史】某校开展党史学习教育活动，请你按要求完成下列学习任务。



图一



图二



图三

（1）一张图片展现一段党的历史，请你为上述图片配上相应的主题。

图 1（　　）图 2（　　）图 3（　　）

【见证奇迹】中国共产党从无到有，由弱到强，从一个胜利走向另一个胜利，带领中国人民取得了一个个世界奇迹。

社会主义制度确立后，我国建立起独立的比较完整的工业体系和国民经济体系；初步满足了占世界 1/4 人口的基本生活需求；建筑、交通、运输等基础设施建设获得较快发展；科技发展取得重要突破，成为世界上有重要影响力的大国。	1978 年以来，我国国内生产总值由 3679 亿元增长到 2020 年的 101.59 万亿元，中国经济增速远高于同期世界经济增速。多年来中国对世界经济增长贡献率超过 30%。现在是世界第二大经济体、制造业第一大国、货物贸易第一大国、商品消费第二大国。	2020 年底，我国如期实现脱贫攻坚目标，使占世界人口近五分之一的中国全面消除绝对贫困，提前 10 年实现《联合国 2030 年可持续发展议程》减贫目标，不仅是中华民族发展史上具有里程碑意义的大事件，也是人类减贫史乃至人类发展史上的大事件，为全球减贫事业发展

		和人类发展进步作出了重大贡献。

（2）结合材料，运用所学知识，阐述中国共产党带领中国人民取得一个个世界奇迹说明了什么？

17. 近几年，由于温室气体排放导致的全球气候变化危机，引发世界广泛关注。

材料一　习近平主席在第七十五届联合国大会一般性辩论上的讲话指出：“中国将提高国家自主贡献力度，“二氧化碳排放力争于 2030 年前达到峰值，努力争取 2060 年前实现碳中和”。

碳达峰是指我国承诺 2030 年前，二氧化碳的排放不再增长，达到峰值之后逐步降低。碳中和是指企业、团体或个人测算在一定时间内直接或间接产生的温室气体排放总量，然后通过植树造林、节能减排等形式，抵消自身产生的二氧化碳排放量，实现二氧化碳“零排放”。

材料二　为解决我国发展中的碳排放问题，我国启动了碳权交易市场。政府给每个企业制定碳排放配额，根据过往碳排放情况等，发放减排目标。这个配额就可以在交易市场自由交易。企业如果用完配额，要么关门停产，要么向排放配额富足的企业购买，不然就要接受高额罚款。

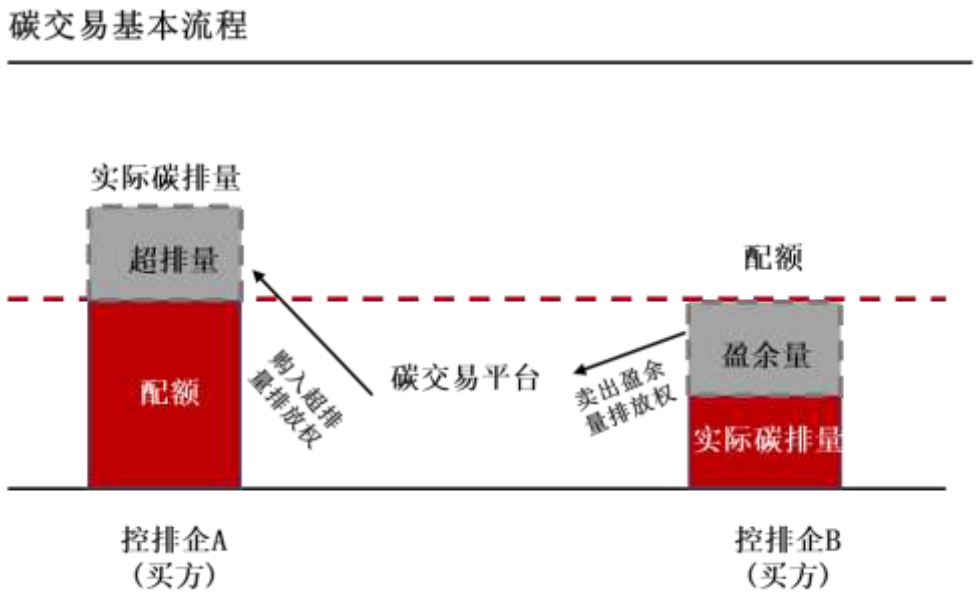

结合《经济与社会》相关知识，说明建立碳权交易市场如何助力我国实现碳达峰、碳中和目标的。

18. 西部大开发实施 20 多年来，我国西部发生了翻天覆地的变化。特别是党的十八大以来，西部地区经济社会发展取得重大历史性成就。进入新时代，西部地区正加速构建新发展格局，绘就一幅更加美丽、更加开放、更具活力的西部画卷。如今，在西部，一场从脱贫攻坚到乡村振兴的接力赛正在进行。

云南不断推动文旅融合新形式，持续带动村民增收；甘肃陇南深挖电商产业，花椒、核桃、中药材等特产源源不断走出大山；宁夏固原的福马社区安置了 500 多名群众，当地发展特色种养殖、服装加工等产业，不断拓宽村民们的增收渠道。
在西藏，生态保护红线面积已达 60.8 万平方公里，自治区一半的区域都被列入最严格的保护范围；在青海，实施生态补偿制度；就在这个月，内蒙古正式施行

《自治区草畜平衡和禁牧休牧条例》，用立法保护13.2亿亩草原休养生息。到2020年底，西部地区累计退耕还林还草超过1.37亿亩，森林覆盖率超过19.3%。

贵州落子大数据产业，不断推动数字经济和传统产业深度融合；陕西成立秦创原创新驱动平台，打造西部创新“策源地”。不久前，《成渝地区双城经济圈建设规划纲要》正式发布，为推动成渝地区高质量发展、在推进新时代西部大开发中更好地发挥支撑作用提 供了指南。

向南，西部陆海新通道成为西部地区出海的新动脉。2020年，北部湾港集装箱吞吐量达505万标箱，首次跻身我国沿海港口前10。向西，中欧班列络绎不绝。新疆发挥霍 尔果斯、阿拉山口“双口岸”优势，一条贯通欧亚20多个国家和地区的国际联运大通道正加速形成。

结合材料，运用《经济与社会》相关知识，分析我国如何绘就更加美丽、更加开放、更具活力的西部画卷。

19. 这几年，电动自行车因其便捷、经济、环保等特点，成为居民的主要出行工具之一。与此同时，电动自行车引发的火灾数量也呈现明显上升趋势。应急管理部消防救援局发布的数据显示，全国每年发生约2000起与电动自行车有关的火灾，其中80%为充电时引发。2021年8月1日起实施的《高层民用建筑消防安全管理规定》明确规定，禁止在高层民用建筑公共门厅、疏散走道、楼梯间、安全出口停放电动自行车或者为电动自行车充电。国家明令禁止电动自行车进楼充电，但居民上楼入户充电行为依然屡禁不止。公共安全不可被悬于风险之中，需要各方发力，解决电动自行车充电问题。针对此问题，某校学生开展了社会调查活动并撰写调查报告。以下是调查报告的部分内容，请你补充完整。

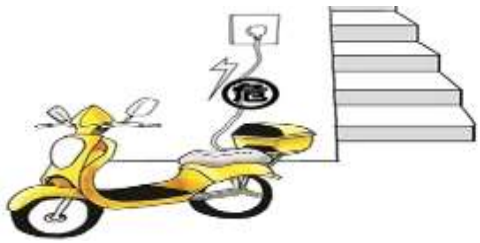

《关于电动自行车充电问题的调查》

（1）调查对象：居民、居委会、 _____、_____。

（2）原因分析：经过调查发现一些小区充电桩配套设施不全；或者有充电桩但是车棚设施简陋，缺乏消防喷淋等安全设施，同时由于管理混乱，存在“抢位”“占位”现象；一些充电桩收取的充电费一般由电费与服务费构成，往往高于居民用电价格；而当前电动自行车停车棚及集中充电设施缺乏权威标准、缺少统一安全技术指标的问题，而问题源头更不能被忽视——电池质量，谁来监管？类似这些问题都应该早做谋划，在电动车“保有量3亿”的前提下再行治理，其难度是可以想见的。

（3）解决措施（至少写出3条）：

（1）（　　）（　　）

（2）解决措施。

20. 立善法于天下，则天下治；立善法于一国，则一国治。人民群众美好生活需要有了新内涵，国家立法就有了新任务。

镜头一　适应信息技术和互联网的迅猛发展，立法“拥抱”电商时代，使电子商务不再是法外之地；个人信息保护法筑牢法治“防火墙”，最大限度保护个人信息权益；反电信网络诈骗法草案即将提请审议，有望对电信网络诈骗施以全链条打击，全国人大常委会以良法善治保障经济高质量发展、助推社会高效能治理、守护百姓高品质生活。

镜头二　全国人大常委会积极探索，不断拓展代表参与立法工作的广度与深度，健全代表参与立法机制——把办理代表议案建议与编制立法规划计划、制定修改法律更紧密地结合起来；改进邀请代表列席常委会会议工作，更加注重向基层代表倾斜；积极邀请代表参与立法调研、论证、评估，为代表全过程深度参与常委会立法工作提供充分保障。

镜头三　基层立法联系点作为国家立法“直通车”为人民群众有序参与国家立法提供了有效途径。截止2021 年 7 月，全国人大法工委建立的基层立法联系点扩大到 22 个，涉及 21 个省（区、市），覆盖全国 2/3 省份，辐射带动各省、设区的市立法联系点如雨后春笋般发展。

江山就是人民、人民就是江山。结合三组镜头，运用《政治与法治》相关知识，说明全国人大如何通过完善立法坚持人民主体地位　。

21. 材料一　1989 年 11 月，在澳大利亚的倡议下，澳大利亚、美国、加拿大、日本、韩国、新西兰和当时的东盟六国在澳大利亚首都堪培拉召开首届部长级会议，标志着亚太经合组织成立。此后，该组织不断扩大，截至 2019 年，共有 21 个成员，其中既有美国、日本等发达成员，也有中国、马来西亚、墨西哥等发展中成员。



（1）亚太经合组织属于（　　）国际组织。

（2）任选一个成员国写出其政体。

材料二　2021 年是中国加入亚太经合组织 30 周年。这 30 年，是中国深化改革、扩大开放的 30 年，也是亚太经济合作不断扩展的 30 年。30 年来，中国积极融入亚太区域合作，多次在 APEC 框架内采取行动大幅降低关税水平，推动区域贸易投资自由化和便利化水平，主持了 200 多个经济技术合作项目，涉及区域经济一体化、互联互通、基础设施建设、人力资源开发等多个领域；目前中国贸易的 62%、实际利用外资的 83%、对外直接投资的 68%都是与 APEC 成员进行的，这些助力亚太地区繁荣发展的“中国贡献”得到 APEC 成员人士广泛认可和高度评价。正如习近平总书记于 2021 年 11 月在亚太经合组织第二十八次领导人非正式会议上所言，中方愿同亚太各成员一道，积极推动构建亚太命运共同体，携手开创亚太经济合作新篇章。

（3）结合材料，运用《当代国际政治与经济》相关知识，阐述中国积极推动构建亚太命运共同体的意义。

参考答案

一、本部分共 15 题，每题 3 分，共 45 分。在每题列出的四个选项中，选出最符合题目要求的一项。

1. 中国载人航天工程实施近 30 年来，我国的载人航天事业从无到有，从弱到强，以令人惊叹的速度，一路追赶、并跑、超越：从无人飞行到载人飞行，从一人一天到多人多天，从舱内实验到出舱活动，从单船飞行到组合体稳定运行，我们跨越了发达国家半个世纪的发展历程。中国载人航天从弱到强的发展历程（　　）

①说明中国科技发生质的飞跃，强国梦已经实现

②彰显了中国特色社会主义的无限生机与活力

③展示了伟大的中国道路、中国精神、中国力量

④是我国始终坚持以科技创新为中心的具体体现

A. ①②　　B. ①④　　C. ②③　　D. ③④

【答案】C

【解析】

【详解】①：中国的强国梦并不是已经实现，①错误。

②③：中国载人航天从弱到强的发展历程彰显了中国特色社会主义的无限生机与活力，展示了伟大的中国道路、中国精神、中国力量，②③符合题意。

④：我国始终坚持以经济建设为中心，④错误。

故本题选 C。

2. “一心中国梦，万古下泉诗”是南宋名句。今天我们所说的“中国梦”，与古人所言的“中国梦”有了根本的不同，是指实现中华民族伟大复兴的中国梦。要实现这一伟大梦想需要（　　）

①党领导人民进行伟大斗争、建设伟大工程、推进伟大事业

②青年人脚踏实地，在实现个人利益的过程中放飞青春梦想

③发挥中国共产党的主体作用，做中国梦的建设者和享受者

④解放和发展生产力，最大限度满足人民对美好生活的需要

A. ①②　　B. ①④　　C. ②③　　D. ③④

【答案】B

【解析】

【详解】①④：今天我们所说的“中国梦”，与古人所言的“中国梦”有了根本的不同，是指实现中华民族伟大复兴的中国梦。要实现这一伟大梦想需要解放和发展生产力，最大限度满足人民对美好生活的需要，党领导人民进行伟大斗争、建设伟大工程、推进伟大事业，①④正确。

②：青年人脚踏实地，在实现人民利益的过程中放飞青春梦想，②排除。

③：发挥人民群众的主体作用，做中国梦的建设者和享受者，③排除。

故本题选 B。

3. 国务院关于 2020 年度国有资产管理情况的综合报告提请十三届全国人大常委会第三十一次会议审议，亮出我国国有资产管理最新“账单”如下



关于国有资产以下说法正确的是（　　）

①国有资产是国有企业职工的共同财富，必须管好用好

②国有资产“家底”厚实，有利于增强国有经济的控制力、影响力

③公布国有资产管理情况，有利于提高国有资产管理的透明度和公信力

④体现了全社会对国有金融资本的监管，有利于防范化解重大金融风险

A. ①③　　B. ①④　　C. ②③　　D. ②④

【答案】C

【解析】

【详解】①：国有资产是全体人民的共同财富，必须管好用好，①排除。

②③：国务院关于 2020 年度国有资产管理情况的综合报告提请十三届全国人大常委会第三十一次会议审议，亮出我国国有资产管理最新“账单”，说明国有资产“家底”厚实，有利于增强国有经济的控制力、影响力，公布国有资产管理情况，有利于提高国有资产管理的透明度和公信力，②③正确。

④：材料不涉及防范化解重大金融风险，④排除。

故本题选 C。

4. 建设安全可靠、生态良好、天朗气清的网络空间符合人民利益和国家利益。网信事业越是发展，信息化服务越是普及，数字经济越是加速勃兴，各行各业对安全需求也就越来越高。下列做法有利于实现网络安全的是（　　）

①完善网络市场规则和标准、构建公平公正的市场环境

②全球范围内深化合作、共建网络空间命运共同体

③巩固非公经济在网络安全建设中的主导性地位

④提升公民网络安全意识，使其发挥决定性作用

A. ①②　　B. ①③　　C. ②④　　D. ③④

【答案】A

【解析】

【详解】①②：完善网络市场规则和标准、构建公平公正的市场环境以及全球范围内深化合作、共建网络空间命运共同体都有利于实现网络安全，①②正确。

③：巩固非公经济在网络安全建设中不起主导性地位，③排除。

④：提升公民网络安全意识，但公民并不发挥决定性作用，④排除。

故本题选 A。

5. 据 2021 年 9 月国家统计局发布的数据显示，从累计增速看，2021 年 1-8 月份社会消费品零售总额仍保持两位数较快增长，消费市场持续恢复态势并未改变。下图是 2020 年 1 月至 2021 年 8 月社会消费品零售总额环比增速图。结合图表，以下关于社会消费品零售总额增速的变化合理的是（　　）

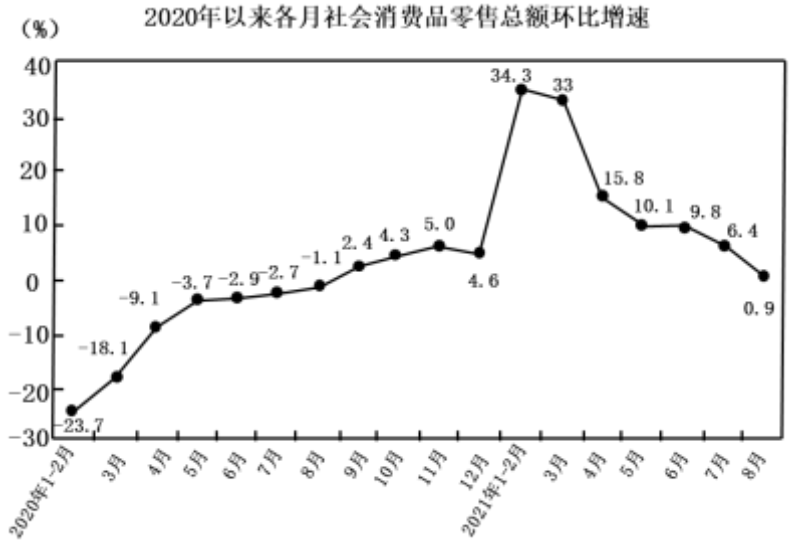

①2020 年 1-8 月,社会消费品零售总额持续增长

②2021 年 4-8 月,社会消费品零售总额增速下降带来恩格尔系数上升

③2021 年 1-3 月,节日消费带来社会消费品零售总额增长较快

④2020 年总体受疫情影响,消费市场低迷，会影响我国经济增速

A. ①②　　B. ①④　　C. ②③　　D. ③④

【答案】D

【解析】

【详解】①：图示显示，2020 年 1-8 月,社会消费品零售总额环比增速在增长，但不能得出“社会消费品零售总额持续增长”的结论，①排除。

②：“恩格尔系数上升”意味着食品支出占家庭消费总支出的比例增长，图示并不能得出该结论，②排除。

③：图示显示，2021 年 1-3 月，社会消费品零售总额增长较快，这是因为这一期间恰逢中国春节等传统节日，③符合题意。

④：图示显示，2020 年总体受疫情影响，消费市场低迷，会影响我国经济增速，④符合题意。

故本题选 D。

6. 2021 年 4 月，市场监管总局依据《中华人民共和国反垄断法》，对某互联网外卖平台在中国境内滥用市场支配地位行为立案调查。经调查市场监管总局依法作出行政处罚决定，责令该平台停止违法行为，并作出 34.42 亿元的行政处罚决定。市场监管总局的处罚，有利于（　　）

①推动行业健康发展、促进社会公平正义

②为市场主体创造更优化的发展环境

③强化政府职能，促进货币政策实施

④消除市场滞后性，促进企业自由竞争

A. ①②　　B. ①③　　C. ②④　　D. ③④

【答案】A

【解析】

【详解】①②：市场监管总局的处罚是在旅行强化政府职能，在运用行政手段规范市场秩序、进行宏观调控，推动行业健康发展、促进社会公平正义，为市场主体创造更优化的发展环境，①②符合题意。

③：市场监管总局的处罚是在旅行强化政府职能，在运用行政手段规范市场秩序、进行宏观调控，而不是促进货币政策实施，③排除。

④：市场的滞后性是市场本身所固有的缺陷，不能被消除，④错误。

故本题选 A。

7. 截至 2021 年 9 月底，全国基本养老、失业、工伤保险参保人数分别为 10.21 亿人、2.26 亿人、2.79 亿人。1~9 月，向 1429 万失业人员发放失业保险待遇 783 亿元，向 150 万人次发放价格临时补贴 6 亿元。16 个省份提高了城乡居民养老保险省级基础养老金，超过 2020 年。这说明（　　）

①通过国民收入再分配，能够调节不同群体之间的利益关系

②社会优抚能够很好的防范和化解失业人员的生存危机

③社会保障通过风险分摊与责任共担，充分发挥社会互助功能

④社会福利是最高层次的社会保障，是我国社会保障体系的核心

A. ①②　　B. ①③　　C. ②④　　D. ③④

【答案】B

【解析】

【详解】①③：发放失业保险待遇、发放价格临时补贴、提高城乡居民养老保险省级基础养老金，这是在通过国民收入再分配，能够调节不同群体之间的利益关系，也体现了社会保障通过风险分摊与责任共担，充分发挥社会互助功能，①③正确。

②：社会优抚是指国家和社会依法对现役军人、复员退伍军人以及军烈属等优抚对象实行物质照顾、生活和工作安置、精神抚慰的褒扬性、补偿性、优待性、综合性的特殊社会保障；因此，社会优抚并不能够很好的防范和化解失业人员的生存危机，②错误。

④：社会保险是我国社会保障体系的核心，④错误。

故本题选 B。

8. 时代楷模、优秀共产党员黄文秀研究生毕业后，自愿回到百色革命老区工作，主动请缨到贫困村担任驻村第一书记。在脱贫攻坚中她立下“不获全胜、决不收兵” 铿锵誓言，积极推动实施村屯亮化、道路硬化和蓄水池修建等工程项目，带领群众发展多种产业。2019 年黄文秀在突发山洪中不幸遇难，年仅 30 岁。黄文秀的先进事迹体现了（　　）

①党加强自身建设，不断提高执政能力和水平

②共产党员不忘初心、牢记使命的责任担当

③党完善领导方式，发挥党员的先锋模范作用

④共产党员坚定理想信念，永远跟党走的信心和决心

A. ①②　　B. ①③　　C. ②④　　D. ③④

【答案】C

【解析】

【详解】①：题意强调的是发挥党员的先锋模范作用，不涉及党的自身建设和执政水平的问题，①不符合题意。

②④：题中，时代楷模、优秀共产党员黄文秀立志脱贫攻坚工作，这表明共产党员不忘初心、牢记使命的责任担当，坚定理想信念，永远跟党走的信心和决心，②④符合题意。

③：题意不涉及党完善领导方式，③不符合题意。

故本题选 C。

9. 办证“零跑腿”、线上问诊、AI 信号灯、互联网法庭、高空抛物监控……这些曾经出现在科幻电影里的奇思妙想，如今正走进市民的现实生活，并且通过指尖就能轻松实现。杭州、重庆、天津、武汉、合肥……如今，越来越多的城市加入智慧城市行列，搭建出会思考的“城市大脑”，为城市管理提供新思路、新路径和新模式。建设智慧城市（　　）

①旨在促进政府性质转变，打造守法诚信的政府

②使信息技术完全取代人工管理，促进效率提升

③有助于提升市民幸福感，满足美好生活需要

④为社会治理现代化赋能，提升管理和服务水平

A. ①②　　B. ①③　　C. ②④　　D. ③④

【答案】D

【解析】

【详解】①：建设智慧城市，并没有转变政府性质，且其目的是建设服务型政府，①错误。

②："信息技术完全取代人工管理"不符合实际，②错误。

③：根据材料，"如今正走进市民的现实生活，并且通过指尖就能轻松实现"，这表明建设智慧城市有助于提升市民幸福感，满足美好生活需要，③符合题意。

④：根据材料，"为城市管理提供新思路、新路径和新模式"，这表明建设智慧城市，能为社会治理现代化赋能，提升管理和服务水平，④符合题意。

故本题选 D。

10. 普法文化街、"一街一室一园"普法文化圈……在西长安街两侧，法治漫画和以案释法的法律小故事文化墙随处可见。这种用通俗易懂、寓教于乐的形式向居民阐述与生活密切相关的法律知识，让人们逐步形成了办事依法、遇事找法、解决问题用法、化解矛盾靠法的新思维。开展全民普法有利于（　　）

①将全民普法作为依法治国　长期基础性工作，建设法治社会

②提升公民的法治素养，完善中国特色社会主义法律体系

③增进社会共识，维护社会秩序，消除社会矛盾

④调动人民群众投身依法治国实践的积极性和主动性

A. ①③　　B. ①④　　C. ②③　　D. ②④

【答案】B

【解析】

【详解】①④：用通俗易懂、寓教于乐的形式向居民阐述与生活密切相关的法律知识，让人们逐步形成了办事依法、遇事找法、解决问题用法、化解矛盾靠法的新思维，这有利于将全民普法作为依法治国的长期基础性工作，建设法治社会，调动人民群众投身依法治国实践的积极性和主动性，①④符合题意。

②："完善中国特色社会主义法律体系"属于立法工作，而试题指向的是普法，②排除。

③：社会矛盾不能被消除，③错误。

故本题选 B。

11. 援外 71 年来，我国已向 160 多个国家提供了各类援助，包括成套项目、物资援助、技术合作项目等。新冠疫情发生后，我国开展了新中国成立以来时间最集中、涉及范围最广的紧急人道主义援助，已向 150 多个国家和 13 个国际组织提供了防疫物资，向 106 个国家和 4 个国际组织提供了超过 15 亿剂疫苗。如果给此新闻配一个标题,最合适的是（　　）

A. 助力全球发展，中国展现大国担当

B. 推动抗疫合作，中国提供交流平台

C. 促进多边贸易，中国与世界共赢

D. 强化安全保障，中国重构世界秩序

【答案】A

【解析】

【详解】A：根据71年来我国已向160多个国家提供了各类援助的情况，如果给此新闻配一个标题,最合适的是“助力全球发展，中国展现大国担当”，A符合题意。

BCD：推动抗疫合作、促进多边贸易、强化安全保障等，都不能概括出中国外援的整体情况，不能反映中国为世界所作出的贡献，BCD与题意不符。

故本题选A。

12. 习近平指出：“历史一再证明，没有和平就没有发展，没有稳定就没有繁荣。各国安全紧密相关，没有哪个国家可以独善其身，也没有哪个国家可以包打天下。”下列能够诠释这一观点的有（　　）

①第十三届全国人民代表大会第三次会议在京开幕

②某大国正式退出旨在遏制气候变化的《巴黎协定》

③《区域全面经济伙伴关系协定》(RCEP)正式签署

④中国先后参加25项联合国维和行动，累计派出4万余人次维和人员

A. ①②　　B. ①③　　C. ②④　　D. ③④

【答案】D

【解析】

【详解】①：试题强调的是和平与发展的时代主题的问题，“第十三届全国人民代表大会第三次会议在京开幕”不涉及国际社会问题，①排除。

②：某大国正式退出旨在遏制气候变化的《巴黎协定》，这不利于发展问题的解决，不符合材料主旨，②排除。

③：《区域全面经济伙伴关系协定》(RCEP)的正式签署有利于加强RCEP成员国的合作与交流，③符合题意。

④：中国先后参加25项联合国维和行动，累计派出4万余人次维和人员，这有利于维护世界和平，促进共同发展，④符合题意。

故本题选D。

13. 伽利略通过观察吊灯随风摇曳的现象发现了单摆等时定律；德国科学家魏格纳通过观察墙壁上挂着的世界地图创立了“大陆漂移”学说。同学们运用逻辑与思维的知识对此发表各自的看法，你认为正确的有（　　）

①小明：这说明思维在实践中产生，在实践中发展

②小刚：这说明思维具有概括性和社会历史性

③小亮：学习科学思维，有利于我们把握本质和发展规律

④小华：这说明科学思维的结果不具有可检测性

A. ①②　　B. ①③　　C. ②④　　D. ③④

【答案】B

【解析】

【详解】①：伽利略通过观察吊灯随风摇曳的现象发现了单摆等时定律；德国科学家魏格纳通过观察墙壁上挂着的世界地图创立了“大陆漂移”学说，这说明思维在实践中产生，在实践中发展，①正确切题。

②：社会历史性不是思维的特征，②错误。

③：运用逻辑与思维的知识有利于我们把握本质和发展规律，③正确。

④：科学思维的结果具有可检验性，而不是不具有可检测性，④错误。

故本题选 B。

14. 甲、乙、丙、丁四个人的血型各不相同，他们的血型是 A、B、O、AB 型四种中的一种。

甲说：“丙是 A 型。”

乙说：“丁是 O 型。”

丙说：“如果我是 A 型，丁就是 O 型。”

丁说：“我不是 O 型。”

经核查，四个人中只有一个人的说法不真实。下列选项正确的是（　　）

A. 甲和乙两人的判断是不一样的，必有一假，可得出结论：丁不是 O 型

B. 排中律表明，甲和乙两人的判断必有一真，可得出结论：丁是 O 型

C. 如果甲的说法是真的，可得出结论：丙是 A 型，丁是 B 型

D. 矛盾律表明，乙和丁两人的判断必有一假，且四人中只有一人讲话是假的，可得出结论：丁是 O 型

【答案】D

【解析】

【详解】A：甲和乙两人的判断是针对丙和丁，无法得出必有一假的结论，故也不可得出结论：丁不是 O 型，A 排除。

B：排中律并不能表明甲和乙两人的判断必有一真，B 排除。

C：如果甲的说法是真的，可得出结论：丙是 A 型，但无法得出丁是 B 型，C 排除。

D：矛盾律表明，乙和丁两人的判断必有一假，且四人中只有一人讲话是假的，可得出结论：丁是 O 型，D 正确。

故本题选 D。

15. 党的十九大报告指出：“中国特色社会主义进入新时代，我国社会主要矛盾已经转化为人民日益增长的美好生活需要和不平衡不充分的发展之间的矛盾。”同时又指出：“我国社会主要矛盾的变化，没有改变我们对

我国社会主义所处历史阶段的判断，我国仍处于并将长期处于社会主义初级阶段的基本国情没有变。”对于中国特色社会主义社会“变”与“不变”的认识正确的是（　　）

①“变”是为了满足人民美好生活需要的发展，“不变”的是不平衡不充分的发展

②“变”是实事求是，“没有变”也是实事求是，是创造性地坚持和发展中国特色社会主义

③“不变”是绝对的、永恒的，“变”是相对的、暂时的

④党既要有“变化”的勇气，又要有“不变”的初心

A. ①②　　B. ①③　　C. ②④　　D. ③④

【答案】C

【解析】

【详解】①：“变”的是社会主要矛盾，“不变”的是我们对我国社会主义所处历史阶段的判断，我国仍处于并将长期处于社会主义初级阶段的基本国情没有变。①排除。

②④：对于中国特色社会主义社会“变”与“不变”，党既要有“变化”的勇气，又要有“不变”的初心，“变”是实事求是，“没有变”也是实事求是，是创造性地坚持和发展中国特色社会主义，②④正确。

③：“变”是绝对的、永恒的，“不变”是相对的、暂时的，③排除。

故本题选 C。

二、本部分共 6 题，共 55 分。

16. 2021 年是中国共产党建党 100 周年，百年奋斗、百年积累、百年风华写就一部厚重的党史书。

【图说党史】某校开展党史学习教育活动，请你按要求完成下列学习任务。



图一



图二



图三

(1) 一张图片展现一段党的历史，请你为上述图片配上相应的主题。

图 1（　　）图 2（　　）图 3（　　）

【见证奇迹】中国共产党从无到有，由弱到强，从一个胜利走向另一个胜利，带领中国人民取得了一个个世界奇迹。

社会主义制度确立后，我国建立起独立的比较完整的工业体系和国民经济体系；初步满足了占世界1/4人口的基本生活需求；建筑、交通、运输等基础设施建设获得较快发展；科技发展取得重要突破，成为世界上有重要影响力的大国。	1978年以来，我国国内生产总值由3679亿元增长到2020年的101.59万亿元，中国经济增速远高于同期世界经济增速。多年来中国对世界经济增长贡献率超过30%。现在是世界第二大经济体、制造业第一大国、货物贸易第一大国、商品消费第二大国。	2020年底，我国如期实现脱贫攻坚目标，使占世界人口近五分之一的中国全面消除绝对贫困，提前10年实现《联合国2030年可持续发展议程》减贫目标，不仅是中华民族发展史上具有里程碑意义的大事件，也是人类减贫史乃至人类发展史上的大事件，为全球减贫事业发展和人类发展进步作出了重大贡献。

(2) 结合材料，运用所学知识，阐述中国共产党带领中国人民取得一个个世界奇迹说明了什么？

【答案】(1) ①. 中国共产党成立 ②. 建立新中国 ③. 改革开放

(2) 角度：党的领导；人民群众；马克思主义基本原理同中国具体实际相结合，丰富发展中国特色社会主义道路、理论、制度、文化；只有社会主义才能救中国、只有中国特色社会主义才能发展中国、只有中国特色社会主义才能实现民族复兴等。

【解析】

【分析】背景素材：党的百年奋斗史

考点考查：《中国特色社会主义》的有关知识

能力考查：获取和解读信息，调动和运用知识，描述和阐述事物

核心素养：政治认同、科学精神

【小问1详解】

第一步：审设问，明确主体、作答范围、问题限定和作答角度

本题的设问主体为国家，需要调用《中国特色社会主义》的有关知识，为上述图片配上相应的主题。

第二步：审材料，通过标点符号、段落等，提取材料有效信息。

有效信息①：开天辟地的大事变→可联系中国共产党的成立。

有效信息②：开国大典→可联系中华人民共和国的成立。

有效信息③：党的十一届三中全会→可联系改革开放。

第三步：整合信息，组织答案。

得分点①：中国共产党的成立。

得分点②：中华人民共和国的成立。

得分点③：改革开放。

【小问 2 详解】

第一步：审设问，明确主体、作答范围、问题限定和作答角度。

本题的设问主体为公民，需要调用《中国特色社会主义》的有关知识，分析中国共产党带领中国人民取得一个个世界奇迹说明了什么？

第二步：审材料，通过标点符号、段落等，提取材料有效信息。

有效信息①：社会主义制度确立后，我国建立起独立的比较完整的工业体系和国民经济体系；初步满足了占世界 1/4 人口的基本生活需求；建筑、交通、运输等基础设施建设获得较快发展；科技发展取得重要突破，成为世界上有重要影响力的大国→可联系社会主义制度确立后，我国取得的成就。

有效信息②：1978 年以来，我国国内生产总值由 3679 亿元增长到 2020 年的 101.59 万亿元，中国经济增速远高于同期世界经济增速。多年来中国对世界经济增长贡献率超过 30%。现在是世界第二大经济体、制造业第一大国、货物贸易第一大国、商品消费第二大国→可联系改革开放的意义。

有效信息③：2020 年底，我国如期实现脱贫攻坚目标，使占世界人口近五分之一的中国全面消除绝对贫困，提前 10 年实现《联合国 2030 年可持续发展议程》减贫目标，不仅是中华民族发展史上具有里程碑意义的大事件，也是人类减贫史乃至人类发展史上的大事件，为全球减贫事业发展和人类发展进步作出了重大贡献→可联系中国特色社会主义进入新时代的意义。

第三步：整合信息，组织答案。

得分点①：社会主义制度确立后，我国取得的成就+只有社会主义才能救中国。

得分点②：改革开放的意义+只有中国特色社会主义才能发展中国。

得分点③：中国特色社会主义进入新时代的意义+只有中国特色社会主义才能实现民族复兴。得分点④：成功经验+马克思主义基本原理同中国具体实际相结合，丰富发展中国特色社会主义道路、理论、制度、文化。

【点睛】《中国特色社会主义》模块主观题的考查多以材料分析的形式进行，考生要根据试题材料联想相应的知识要点分析作答。本题考查考生对基础知识的识记和再现能力、分析推理能力，需从知识依据和材料依据上分析，试题难度一般。

17. 近几年，由于温室气体排放导致的全球气候变化危机，引发世界广泛关注。

材料一　习近平主席在第七十五届联合国大会一般性辩论上的讲话指出：“中国将提高国家自主贡献力度，“二氧化碳排放力争于 2030 年前达到峰值，努力争取 2060 年前实现碳中和”。

碳达峰是指我国承诺 2030 年前，二氧化碳的排放不再增长，达到峰值之后逐步降低。碳中和是指企业、团体或个人测算在一定时间内直接或间接产生的温室气体排放总量，然后通过植树造林、节能减排等形式，抵消自身产生的二氧化碳排放量，实现二氧化碳“零排放”。

材料二　为解决我国发展中的碳排放问题，我国启动了碳权交易市场。政府给每个企业制定碳排放配额，根据过往碳排放情况等，发放减排目标。这个配额就可以在交易市场自由交易。企业如果用完配额，要么关门停产，要么向排放配额富足的企业购买，不然就要接受高额罚款。

碳交易基本流程

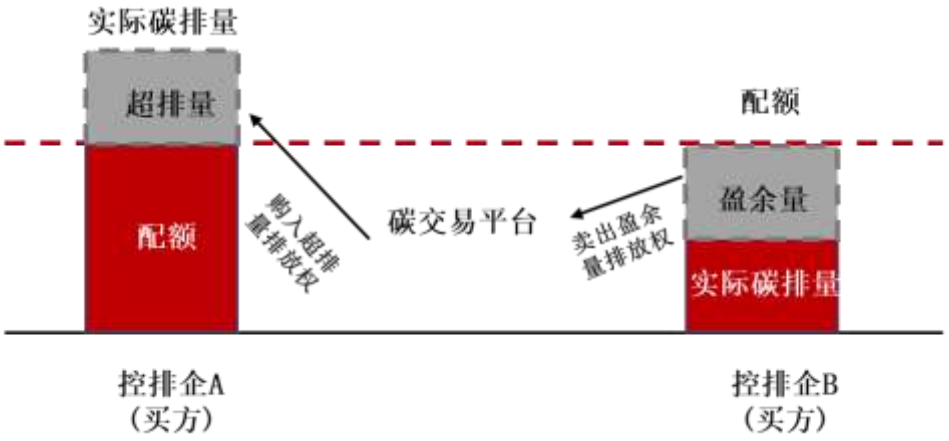

结合《经济与社会》相关知识，说明建立碳权交易市场如何助力我国实现碳达峰、碳中和目标的。

【答案】碳交易市场的建立是政府履行经济职能的表现。政府制定碳减排政策，加强体制机制创新，同时加大市场监管，引导企业绿色生产，节能减排。碳交易市场的建立，充分挥市场机制的调节作用，促使企业技术创新、节能改造，转变发展方式，走集约型发展道路，从而控制碳排放。碳权交易市场体现了有为政府与有效市场的紧密结合，从而助力我国如期实现双碳目标。

【解析】

【分析】背景素材：温室气体排放导致全球气候变化危机引发世界广泛关注

考点考查：《经济与社会》相关知识

能力考查：获取和解读信息、调动和运用知识、描述和阐释事物

核心素养：科学精神、法治意识、公共参与

【详解】第一步：审设问，明确主体、作答范围、问题限定和作答角度。

本题要求结合《经济与社会》相关知识，说明建立碳权交易市场是如何助力我国实现碳达峰、碳中和目标的。属于措施类主观题，知识没有具体限定。解答时，需要考生根据材料内容和设问要求调动教材知识，然后结合材料提取信息，坚持理论与材料相结合。

第二步：审材料，通过标点符号、段落等，提取材料有效信息。

有效信息①：为解决我国发展中的碳排放问题，我国启动了碳权交易市场。政府给每个企业制定碳排放配额，根据过往碳排放情况等，发放减排目标→从政府履行经济职能角度，说明建立碳交易市场，政府通过制定碳减排政策，加强体制机制创新，同时加大市场监管，引导企业绿色生产，节能减排；

有效信息②：这个配额就可以在交易市场自由交易。企业如果用完配额，要么关门停产，要么向排放配额富足的企业购买，不然就要接受高额罚款→从充分挥市场机制的调节作用角度，说明碳交易市场的建立，会促使企业技术创新、节能改造，转变发展方式，走集约型发展道路，从而控制碳排放；

有效信息③：综合整个材料→说明碳权交易市场体现了有为政府与有效市场的紧密结合，从而助力我国如期实现双碳目标。

第三步：整合信息，组织答案。

得分点①：政府履行经济职能+政府通过制定碳减排政策，加强体制机制创新，同时加大市场监管，引导企业绿色生产，节能减排

得分点②：充分挥市场机制的调节作用+碳交易市场的建立，会促使企业技术创新、节能改造，转变发展方式，走集约型发展道路，从而控制碳排放。

得分点③：碳权交易市场体现了有为政府与有效市场的紧密结合，从而助力我国如期实现双碳目标。

【点睛】措施类试题，解答这类题目时采用定点法，具体的解题思路是:一是从教材找答题要素。要认真回想教材相关方面的知识，不能随意乱想。二是从材料中答题要素。如果材料呈现的是问题，那么材料中问题的反面就是答题要素。三是从当前时政热点和党和国家重大政策中找答题要素。具体的解题程序:定点——联系——疏理——作答。

18. 西部大开发实施 20 多年来，我国西部发生了翻天覆地的变化。特别是党的十八大以来，西部地区经济社会发展取得重大历史性成就。进入新时代，西部地区正加速构建新发展格局，绘就一幅更加美丽、更加开放、更具活力的西部画卷。如今，在西部，一场从脱贫攻坚到乡村振兴的接力赛正在进行。

云南不断推动文旅融合新形式，持续带动村民增收；甘肃陇南深挖电商产业，花椒、核桃、中药材等特产源源不断走出大山；宁夏固原的福马社区安置了 500 多名群众，当地发展特色种养殖、服装加工等产业，不断拓宽村民们的增收渠道。
在西藏，生态保护红线面积已达 60.8 万平方公里，自治区一半的区域都被列入最严格的保护范围；在青海，实施生态补偿制度；就在这个月，内蒙古正式施行《自治区草畜平衡和禁牧休牧条例》，用立法保护 13.2 亿亩草原休养生息。到 2020 年底，西部地区累计退耕还林还草超过 1.37 亿亩，森林覆盖率超过 19.3%。
贵州落子大数据产业，不断推动数字经济和传统产业深度融合；陕西成立秦创原创新驱动平台，打造西部创新“策源地”。不久前，《成渝地区双城经济圈建设规划纲要》正式发布，为推动成渝地区高质量发展、在推进新时代西部大开发中更好地发挥支撑作用提 供了指南。
向南，西部陆海新通道成为西部地区出海的新动脉。2020 年，北部湾港集装箱吞吐量达 505 万标箱，首次跻身我国沿海港口前 10。向西，中欧班列络绎不绝。新疆发挥霍 尔果斯、阿拉山口“双口岸”优势，一条贯通欧亚 20 多个国家和地区的国际联运大通道正加速形成。

结合材料，运用《经济与社会》相关知识，分析我国如何绘就更加美丽、更加开放、更具活力的西部画卷。

【答案】坚持党的全面领导，西部地区坚持创新、协调发展，以创新为动力，推动产业结构优化升级，促进区域、产业、城乡协调发展；坚持绿色发展，加强生态文明建设，将绿色作为西部发展的重要底色，构建生态安

全屏障。坚持开放发展，积极融入“一带一路”，促进西部开放迈上新台阶。坚持共享发展，通过产业融合，促进农民增收致富，共享发展成果，实现共同富裕。西部地区坚持以人民为中心的发展思想，贯彻新发展理念，建设现代化经济体系，实现经济社会高质量发展。（产业调整升级、正确处理经济发展和环境保护的关系，满足人民对美好生活的需要）

【解析】

【分析】背景素材：西部大开发实施 20 多年来，我国西部发生了翻天覆地的变化

考点考查：《经济与社会》相关知识

能力考查：获取和解读信息、调动和运用知识、描述和阐释事物

核心素养：政治认同、科学精神、公共参与

【详解】第一步：审设问，明确主体、作答范围、问题限定和作答角度。

本题要求结合材料，运用《经济与社会》相关知识，分析我国如何绘就更加美丽、更加开放、更具活力的西部画卷。属于措施类主观题，知识没有具体限定。解答时，需要考生根据材料内容和设问要求调动教材知识，然后结合材料提取信息，坚持理论与材料相结合。

第二步：审材料，通过标点符号、段落等，提取材料有效信息。

有效信息①：云南不断推动文旅融合新形式，持续带动村民增收；甘肃陇南深挖电商产业，花椒、核桃、中药材等特产源源不断走出大山→说明绘就更加美丽、更加开放、更具活力的西部画卷，需要坚持党的全面领导，以创新为动力，推动产业结构优化升级；

有效信息②：在西藏，生态保护红线面积已达 60.8 万平方公里，自治区一半的区域都被列入最严格的保护范围；在青海，实施生态补偿制度；就在这个月，内蒙古正式施行《自治区草畜平衡和禁牧休牧条例》，用立法保护 13.2 亿亩草原休养生息。到 2020 年底，西部地区累计退耕还林还草超过 1.37 亿亩，森林覆盖率超过 19.3%→说明绘就更加美丽、更加开放、更具活力的西部画卷，需要坚持绿色发展，加强生态文明建设，将绿色作为西部发展的重要底色，构建生态安全屏障；

有效信息③：贵州落子大数据产业，不断推动数字经济和传统产业深度融合；陕西成立秦创原创新驱动平台，打造西部创新“策源地”。不久前，《成渝地区双城经济圈建设规划纲要》正式发布，为推动成渝地区高质量发展、在推进新时代西部大开发中更好地发挥支撑作用提 供了指南→说明绘就更加美丽、更加开放、更具活力的西部画卷，需要坚持协调发展，促进区域、产业、城乡协调发展；

有效信息④：向南，西部陆海新通道成为西部地区出海的新动脉。2020 年，北部湾港集装箱吞吐量达 505 万标箱，首次跻身我国沿海港口前 10。向西，中欧班列络绎不绝。新疆发挥霍 尔果斯、阿拉山口“双口岸”优势，一条贯通欧亚 20 多个国家和地区的国际联运大通道正加速形成——说明绘就更加美丽、更加开放、更具活力的西部画卷，需要坚持开放发展，积极融入“一带一路”，促进西部开放迈上新台阶；

有效信息⑤：宁夏固原的福马社区安置了 500 多名群众，当地发展特色种养殖、服装加工等产业，不断拓宽村民们的增收渠道——说明绘就更加美丽、更加开放、更具活力的西部画卷，需要坚持共享发展，通过产业融合，促进农民增收致富，共享发展成果，实现共同富裕。

有效信息⑥：综合整个材料——说明绘就更加美丽、更加开放、更具活力的西部画卷，需要西部地区坚持以人民为中心的发展思想，贯彻新发展理念，建设现代化经济体系，实现经济社会高质量发展。

第三步：整合信息，组织答案。

得分点①：坚持党的全面领导坚持以人民为中心的发展思想，贯彻新发展理念，建设现代化经济体系，实现经济社会高质量发展+改造基础设施，提高人民生活。

得分点②：西部地区坚持创新发展+以创新为动力，推动产业结构优化升级。

得分点③：西部地区坚持协调发展+促进区域、产业、城乡协调发展。

得分点④：坚持绿色发展+加强生态文明建设，将绿色作为西部发展的重要底色，构建生态安全屏障。

得分点⑤：坚持开放发展+积极融入“一带一路”，促进西部开放迈上新台阶。

得分点⑥：坚持共享发展+通过产业融合，促进农民增收致富，共享发展成果，实现共同富裕。

【点睛】非选择题的审题要求：

（1）审设问：一是明确题目考查的知识范围和考查意图，正确联想相关知识，形成综合性的信息认识；二是明确设问的指向性和规定性，分清题干要求答题的类别，即回答“是什么”、或“为什么”、或“怎么样”、或“怎样体现”中哪一类。

（2）审主体：明确主体有几个，不同主体的言论和行为各是什么。这些应从解读设问和材料中获取。

（3）审材料：获取材料中有效信息，抓住关键词、关键句子。这样做，一是为了正确联想相关知识，二是进一步明确答题的主体，不同主体的言论和行为各是什么；三是关键的句子要作为“材料语言”写入答案要点中。审材料实质上就是为了进一步证实“审设问和审主体”的正确与否。

19. 这几年，电动自行车因其便捷、经济、环保等特点，成为居民的主要出行工具之一。与此同时，电动自行车引发的火灾数量也呈现明显上升趋势。应急管理部消防救援局发布的数据显示，全国每年发生约2000起与电动自行车有关的火灾，其中80%为充电时引发。2021年8月1日起实施的《高层民用建筑消防安全管理规定》明确规定，禁止在高层民用建筑公共门厅、疏散走道、楼梯间、安全出口停放电动自行车或者为电动自行车充电。国家明令禁止电动自行车进楼充电，但居民上楼入户充电行为依然屡禁不止。公共安全不可被悬于风险之中，需要各方发力，解决电动自行车充电问题。针对此问题，某校学生开展了社会调查活动并撰写调查报告。以下是调查报告的部分内容，请你补充完整。

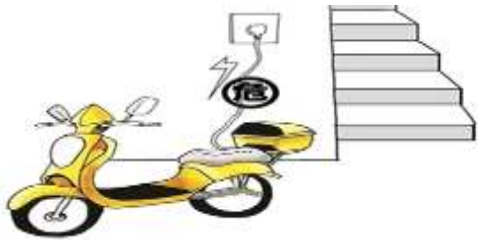

《关于电动自行车充电问题的调查》

（1）调查对象：居民、居委会、 _____、_____。

（2）原因分析：经过调查发现一些小区充电桩配套设施不全；或者有充电桩但是车棚设施简陋，缺乏消防喷淋等安全设施，同时由于管理混乱，存在“抢位”“占位”现象；一些充电桩收取的充电费一般由电费与服务费构成，往往高于居民用电

价格；而当前电动自行车停车棚及集中充电设施缺乏权威标准、缺少统一安全技术指标的问题，而问题源头更不能被忽视——电池质量，谁来监管？类似这些问题都应该早做谋划，在电动车“保有量 3 亿”的前提下再行治理，其难度是可以想见的。

（3）解决措施（至少写出 3 条）：

（1）（　　）（　　）

（2）解决措施。

【答案】 (1)　①. 物业人员、街道办等。　②. 社区党支部（社区党支部成员）、业委会等。

(2) 制定、完善相应的法律法规和政策。履行法治政府的职能，加强对电动自行车电池的质量监管，提供公共服务。实行民主管理，就电动自行车棚管理和使用集思广益，解决抢位、占位等现象。公民应树立安全意识与法治意识，坚持权利与义务相统一原则，为解决电动自行车充电问题提出自己合理的建议并按照规定执行。

【解析】

【分析】背景素材：关于电动自行车充电问题的调查

考点考查：基层民主自治、法治政府、全民守法等相关知识

能力考查：调动和运用知识、描述和阐述事物、论证和探究问题

核心素养：政治认同、科学精神、公共参与、法治意识

【小问 1 详解】

第一步：审设问，明确主体、作答范围、问题限定和作答角度。

本题的设问需要联想“基层民主自治”的有关知识，推测调查对象。

第二步：审材料，通过标点符号、段落等，提取材料有效信息。

有效信息①：经过调查发现一些小区充电桩配套设施不全；或者有充电桩但是车棚设施简陋，缺乏消防喷淋等安全设施；一些充电桩收取的充电费一般由电费与服务费构成，往往高于居民用电价格→物业人员、街道办加强对电动车管理；

有效信息②：由于管理混乱，存在“抢位”“占位”现象→社区党支部（社区党支部成员）、业委会等开展培训工作。

第三步：整合信息，组织答案。

得分点①：对电动车充电问题进行硬件设施建设的主体；

得分点②：对电动车充电进行有效秩序管理的主体。

【小问 2 详解】

第一步：审设问，明确主体、作答范围、问题限定和作答角度。

本题的设问主体为“关于电动自行车充电问题的解决措施”，需要调用“基层民主自治、法治政府、全民守法”的有关知识，分析不同主体如何参与电动车充电问题的解决。回答措施类主观题，一般需要回答不同主体针对问题的具体解决措施。

第二步：审材料，通过标点符号、段落等，提取材料有效信息。

有效信息①：经过调查发现一些小区充电桩配套设施不全；或者有充电桩但是车棚设施简陋，缺乏消防喷淋等安全设施；一些充电桩收取的充电费一般由电费与服务费构成，往往高于居民用电价格；而当前电动自行车停车棚及集中充电设施缺乏权威标准、缺少统一安全技术指标的问题，而问题源头更不能被忽视——电池质量→可联系立法和执法两个方面进行分析。

有效信息②：同时由于管理混乱，存在“抢位”“占位”现象→联系居委会民主管理和公民等角度进行分析。

第三步：整合信息，组织答案。

得分点①：从立法（人大）角度--制定、完善相应的法律法规和政策。

得分点②：从执法（政府）角度--履行法治政府的职能，加强对电动自行车电池的质量监管，提供公共服务。

得分点③：从居委会（社区）角度--实行民主管理，就电动自行车棚管理和使用集思广益，解决抢位、占位等现象。

得分点④：从公民角度--公民应树立安全意识与法治意识，坚持权利与义务相统一原则，为解决电动自行车充电问题提出自己合理的建议并按照规定执行。

【点睛】措施类主观题思路方法：

分析设问，分析题型，明确问题指向；

寻找主体，明确知识范围，调动理论知识；

有效分析材料信息，将知识理论与材料高度结合。

20. 立善法于天下，则天下治；立善法于一国，则一国治。人民群众美好生活需要有了新内涵，国家立法就有了新任务。

镜头一　适应信息技术和互联网的迅猛发展，立法“拥抱”电商时代，使电子商务不再是法外之地；个人信息保护法筑牢法治“防火墙”，最大限度保护个人信息权益；反电信网络诈骗法草案即将提请审议，有望对电信网络诈骗施以全链条打击，全国人大常委会以良法善治保障经济高质量发展、助推社会高效能治理、守护百姓高品质生活。

镜头二　全国人大常委会积极探索，不断拓展代表参与立法工作的广度与深度，健全代表参与立法机制——把办理代表议案建议与编制立法规划计划、制定修改法律更紧密地结合起来；改进邀请代表列席常委会会议工作，更加注重向基层代表倾斜；积极邀请代表参与立法调研、论证、评估，为代表全过程深度参与常委会立法工作提供充分保障。

镜头三　基层立法联系点作为国家立法“直通车”为人民群众有序参与国家立法提供了有效途径。截止2021年7月，全国人大法工委建立的基层立法联系点扩大到22个，涉及21个省（区、市），覆盖全国2/3省份，辐射带动各省、设区的市立法联系点如雨后春笋般发展。

江山就是人民、人民就是江山。结合三组镜头，运用《政治与法治》相关知识，说明全国人大如何通过完善立法坚持人民主体地位的。

【答案】全国人大顺应时代发展要求，坚持科学立法，回应现实需求，为满足人民群众美好生活需要提供法律保障，体现了我国社会主义国家性质。全国人大坚持依法立法，民主立法。拓宽人大代表参与立法的方式途径，通过设立基层立法联系点，开展立法协商、凝聚共识，提高立法质量，立法更好反映人民意愿，维护人民的根本利益，坚持人民主体地位。

【解析】

【分析】背景素材：全国人大完善立法工作。

考点考查：科学立法。

能力考查：获取和解读信息、调动和运用知识、描述和阐释事物。

核心素养：政治认同、科学精神、法治意识、公共参与。

【详解】第一步：审设问、明确主体、作答范围、问题限定和作答角度。

本题要求运用《政治与法治》相关知识，说明全国人大如何通过完善立法坚持人民主体地位的，知识限定明确，解答此题一方面要掌握教材知识，另一方面要能结合材料进行具体分析。

第二步：审材料，通过标点符号、段落等，提取材料有效信息。

①：根据材料，“全国人大常委会以良法善治保障经济高质量发展、助推社会高效能治理、守护百姓高品质生活”，这表明全国人大顺应时代发展要求，坚持科学立法，为满足人民群众美好生活需要提供法律保障，体现了我国的国家性质。

②：根据材料，“不断拓展代表参与立法工作的广度与深度，健全代表参与立法机制”，设立基层立法联系点等，这表明全国人大坚持依法立法，民主立法。

第三步：整合信息，组织答案。

综上所述，本题从全国人大坚持科学立法、依法立法、民主立法的角度结合有关材料展开具体阐述即可。

【点睛】非选择题的审题要求：

（1）审设问：一是明确题目考查的知识范围和考查意图，正确联想相关知识，形成综合性的信息认识；二是明确设问的指向性和规定性，分清题干要求答题的类别，即回答“是什么”、或“为什么”、或“怎么样”、或“怎样体现"中哪一类。

（2）审主体：明确主体有几个，不同主体的言论和行为各是什么。这些应从解读设问和材料中获取。

(3) 审材料：获取材料中有效信息，抓住关键词、关键句子。这样做，一是为了正确联想相关知识，二是进一步明确答题的主体，不同主体的言论和行为各是什么；三是关键的句子要作为“材料语言”写入答案要点中。审材料实质上就是为了进一步证实“审设问和审主体”的正确与否。

21. 材料一　1989 年 11 月，在澳大利亚的倡议下，澳大利亚、美国、加拿大、日本、韩国、新西兰和当时的东盟六国在澳大利亚首都堪培拉召开首届部长级会议，标志着亚太经合组织成立。此后，该组织不断扩大，截至 2019 年，共有 21 个成员，其中既有美国、日本等发达成员，也有中国、马来西亚、墨西哥等发展中成员。



(1) 亚太经合组织属于（　　）国际组织。

(2) 任选一个成员国写出其政体。

材料二　2021 年是中国加入亚太经合组织 30 周年。这 30 年，是中国深化改革、扩大开放的 30 年，也是亚太经济合作不断扩展的 30 年。30 年来，中国积极融入亚太区域合作，多次在 APEC 框架内采取行动大幅降低关税水平，推动区域贸易投资自由化和便利化水平，主持了 200 多个经济技术合作项目，涉及区域经济一体化、互联互通、基础设施建设、人力资源开发等多个领域；目前中国贸易的 62%、实际利用外资的 83%、对外直接投资的 68%都是与 APEC 成员进行的，这些助力亚太地区繁荣发展的“中国贡献”得到 APEC 成员人士广泛认可和高度评价。正如习近平总书记于 2021 年 11 月在亚太经合组织第二十八次领导人非正式会议上所言，中方愿同亚太各成员一道，积极推动构建亚太命运共同体，携手开创亚太经济合作新篇章。

(3) 结合材料，运用《当代国际政治与经济》相关知识，阐述中国积极推动构建亚太命运共同体的意义。

【答案】 (1) 政府间、区域性、专门性的国际组织。

(2) 如中国是人民代表大会制度，美国是民主共和制总统制，日本为君主立宪制议会制等。

(3) 顺应经济全球化发展趋势，中国积极推动构建亚太命运共同体，通过大幅降低关税实现区域贸易投资自由化和便利化，有利于充分利用国际、国内两个市场、两种资源，完善社会主义市场经济体制，构建对外开放

新格局。中国与亚太地区加强互联互通，推动多个领域的合作，促进亚太地区经济发展、社会进步和民生改善，推动世界经济朝着更加开放、包容、普惠、平衡、共赢的方向发展。

【解析】

【分析】背景素材：亚太经合组织的设立与中国在亚太经合中发挥的作用

考点考查：亚太经合组织的性质、中国在国际组织中发挥的作用

能力考查：获取和解读信息调动和运用知识、描述和阐述事物、论证和探究问题

核心素养：政治认同、科学精神

【小问 1 详解】

本设问考查亚太经合组织的性质，明确亚太经合组织属于政府间、区域性、专门性的国际组织。

【小问 2 详解】

本设问考查国家政体，要求任选一个成员国写出其政体。明确“中国”“美国”“日本”各自的政体即可。

【小问 3 详解】

第一步：审设问，明确主体、作答范围、问题限定和作答角度。

本题的设问主体为“中国”，需要调用“当代国际政治与经济”的有关知识，分析中国积极推动构建亚太命运共同体的意义。回答原因意义类主观题，一般需要回答“这样说”“这样做”的依据，意义(重要性)、必要性等。

第二步：审材料，通过标点符号、段落等，提取材料有效信息。

有效信息①：中国积极融入亚太区域合作，多次在 APEC 框架内采取行动大幅降低关税水平，推动区域贸易投资自由化和便利化水平→顺应经济全球化发展趋势，通过大幅降低关税实现区域贸易投资自由化和便利化，构建对外开放新格局，推动自身发展；

有效信息②：目前中国贸易　62%、实际利用外资的 83%、对外直接投资的 68%都是与 APEC 成员进行的，涉及区域经济一体化、互联互通、基础设施建设、人力资源开发等多个领域→中国坚持多领域合作，推动亚太地区繁荣，促进世界经济发展。

第三步：整合信息，组织答案。

作答过程注意学科用语的使用。

得分点①：中国顺应经济全球化发展趋势＋具体做法＋对中国发展的意义。

得分点②：中国加强与亚太经合组织成员交流合作+具体做法＋对亚太地区的意义。

得分点③：中国坚持对外开放，开展多领域合作+具体做法＋对世界经济的意义。

【点睛】意义类答题思路方法：

①审题干，找到设问主体即“谁”“什么事”等；

②审材料，找到意义主体即对谁产生意义或影响；

③联系所学知识，结合学科术语；

④对应意义类作答格式：做法＋有利于＋主体＋具体什么意义和影响。