2021 北京房山高三二模

历　　史

本试卷共 10 页，共 100 分。考试时长 90 分钟。考生务必将答案答在答题卡上，在试卷上作答无效。考试结束后，将答题卡交回，试卷自行保存。

第一部分

本部分共 15 题，每题 3 分，共 45 分。在每题列出的四个选项中，选出最符合题目要求的一项。

1.2021 年四川三星堆遗址“上新”，再次惊艳世人。在三星堆遗址出土的文物羊头罍，与河南殷墟遗址和湖南炭河里遗址出土的一些文物有相似之处。结合下列出土在同一时代的青铜器，可以推断



四川三星堆遗址出土的羊头罍



湖南炭河里遗址出土的四羊方尊



河南殷墟遗址出土的三羊尊



河南殷墟遗址出土的亚址方尊

A.中原文明经丝绸之路传到巴蜀地区 B.各地文明独立发展体现多元性特征

C.商周时期各地区之间交流十分频繁 D.黄河流域与长江流域有文化的交流

2.学者研究认为，秦朝时期的中国是第一个发现南海诸多岛屿的国家。汉武帝时期国家在地图上将南沙的岛、礁、沙、滩一一标明，并划出南沙与异国的疆界。元朝政府设白沙水军，负责南海海域巡逻。清朝前期，整个南海诸岛海域都在海口、崖州和儋州营的巡逻、防守范围之内。以上材料反映了

A.封建君主专制制度不断强化 B.南海诸岛自古是中国领土

C.中国历代重视维护领海主权 D.古代在海南岛实行郡县制

3.下列是中国古代不同时期农业生产发展的示意图，对此解释正确的是

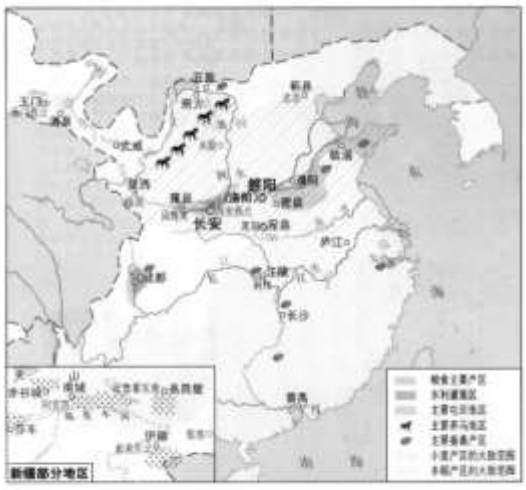

①两汉时期的农业

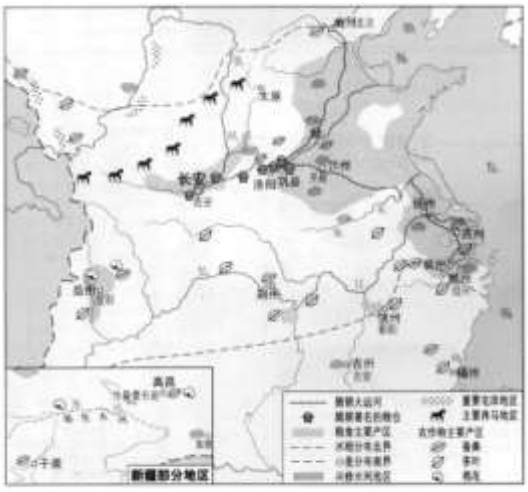

②隋唐时期的农业

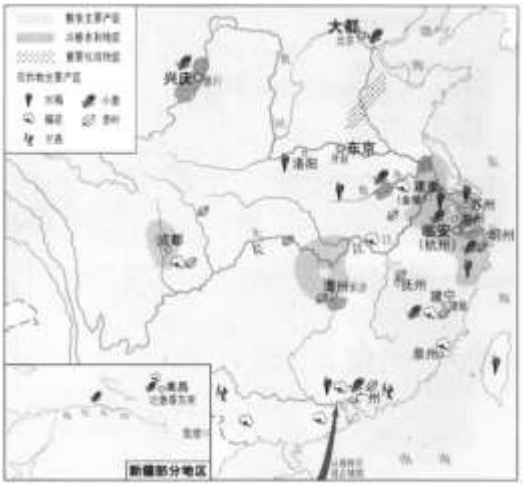

③宋元时期的农业

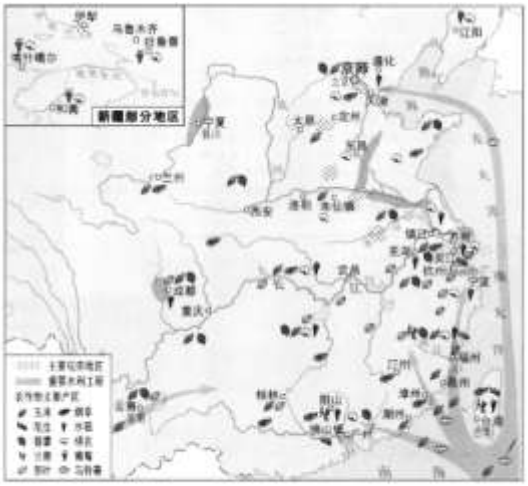

④明清时期的农业

A.①到②产粮区的变化说明政府抑商政策有效 B.大运河开通促进了江南地区农业生产的发展

C.③与②比粮食主产区面积缩小说明农业萎缩 D.明清时期高产作物传入使江南成为粮食中心

4.有一本著作，记录了我国北朝时期黄河中下游地区的农业生产经验，涉及畜牧业等。它的内容中“关于选择原理的明确记述”，对达尔文的进化论学说产生了一定影响。该著作为

A.《九章算术》B.《齐民要术》C.《农书》D.《本草纲目》

5.明朝张燮在《东西洋考》中记载：“文郎玛神（今印度尼西亚加里曼丹）初盛食以蕉叶为盘，及通中国，乃渐用磁（瓷）器。”非洲发现了大量明朝的陶瓷，如蒙巴萨发现的茶具。明朝永乐、宣德年间外销非洲的瓷器中，出现了带有伊斯兰风格的双耳扁瓶等。材料说明明朝对外贸易

①废止了明朝初期实行的闭关锁国政策

②影响到亚非一些地区人们的生活习惯

③推动了郑和下西洋持续开辟海外市场

④促进中国与亚非一些地区的文化交流

A.①②B.②③C.①④D.②④

6.魏源在《古微堂内集》中明确提出“治天下国家”的概念，怎样治理国家？他提出了两个关键词：一是“师夷”，二是“变古”。受到魏源这一思想影响，晚清时期先进中国人最初在实践上的探索是

A.洋务运动太平天国运动 B.戊戌变法义和团运动

C.洋务运动戊戌变法 D.清末新政辛亥革命

7.下列一组图片反映的历史主题是



上海耶松船厂



天津机器制造局



上海发昌机器厂



湖北汉阳铁厂

A.上海地区近代工业的出现 B.中国经济在近代的新变化

C.中国民族工业产生与发展 D.中国民族资本主义的兴起

8.1924 年 1 月 4 日，共产国际驻中国代表鲍罗廷信中说道:“我在上海得到共产国际与孙逸仙博士代表团在苏联期间通过的关于中国问题的提纲。……从孙中山的演说中可以看出，他已开始接受提纲的精神。这特别表现在他对待自己的三民主义以及对待工人阶级政党及其经济组织的态度上。”对材料解读合理的是

A.共产国际对国共合作有推动作用 B.国民党开始接受了马克思主义思想

C.国共两党直接接受共产国际领导 D.国共两党实现合作抗击日本的侵略

9.“金山银山，不如绿水青山”，随着改革开放的不断深入，中国政府颁布了一系列法律法规文件，下表反映出我国

年份	文件
1984 年	《中华人民共和国水污染防治法》
1989 年	《中华人民共和国环境保护法》
1996 年	《中华人民共和国环境噪声污染防治法》
2008 年	《中华人民共和国循环经济促进法》
2017 年	修正《中华人民共和国水污染防治法》

A.建国初期忽视环境保护 B.日益完善民主管理机制

C.社会主义法律体系形成 D.通过立法保护生态环境

10.下列新中国外交政策及成就与国际形势对应正确的是

	国际形势	新中国外交
A	美苏两极格局正式形成	开始奉行和平共处五项原则
B	二战后欧洲开始走向联合	中国在联合国的合法席位得到恢复
C	美国经济增长缓慢，霸主地位开始动摇	中国正式加入亚太经济合作组织
D	东欧剧变，苏联解体	坚持“和平与发展”是时代的主题

11.《十二铜表法》第五表规定：以遗嘱处分财产，或对其家属指定监护人。自 1540 年英国亨利八世颁布了《遗嘱法令》后，一切不动产都可以用遗嘱处分。对材料中古罗马与英国的法律内容理解准确的是

①遗嘱具有法律方面的效力②体现出对私有财产的保护

③英国法律均来自于罗马法④新贵族用法律来保障人权

A.①②B.②③C.①③D.③④

12.下表是拿破仑战争后，欧洲一些国家出现的新变化。这些现象说明了

1825 年	俄国	受启蒙思想影响的青年军官发动武装起义，拟定了《告俄国人民宣言》，宣布推翻沙皇政府，召开立宪会议，废除农奴制

1830 年	波兰	青年军官和学生在华沙发动了争取民族独立的起义
1848 年	奥地利和普鲁士	发生革命，要求建立统一的独立国家、制定宪法

A.农奴制被推翻是俄国历史长期发展的必然结果 B.拿破仑战争使欧洲一些国家民族民主意识增强

C.各国斗争的内容不同，彼此之间没有任何关联 D.东欧各国在对法国战争失败之后开始自我觉醒

13.19 世纪中期，英国利物浦每年有数千艘船运来紧压的生棉包。成千上万的工人负责将这些生棉包通过货车、火车运送到欧洲的纺纱厂。利物浦商人成了全球性棉花种植、制造和销售网络的主导者，在孟买阿波罗码头，美国南部种植园，商人们都紧张地等待着“利物浦价格”。材料反映了

A.奴隶制度是利物浦聚集财富的手段 B.英国已成为重工业为主的工业化国家

C.工业革命后世界经济联系不断加强 D.美国南部成为英国掠夺原料的殖民地

14.柯立芝总统时期，政府给大企业较为宽松的发展环境，1922 年起美国经济进入繁荣时期；1933 年罗斯福总统签署《全国工业复兴法》，成立国家复兴管理局和公共工程局，制订行业法规；里根总统执政后，大规模减税、削减社会福利开支、放松政府对经济的管制，促进了经济复苏。对材料分析正确的是

①“柯立芝繁荣”表明国家干预效果明显

②罗斯福政府开创了经济发展的新模式

③里根政府放弃国家干预，实行市场经济

④经济政策随着时代调整服务于经济发展

A.①②B.②③C.①③D.②④

15.有人评价一部作品是“浪漫主义抒情色彩最浓的一部悲剧，也是一曲反对封建主义，倡导自由平等、个性解放、婚姻自主的颂歌”，这部作品是



A　　B　　C　　D

第二部分

本部分共 5 题，共 55 分。

16.（10 分）“评价理学”

材料一明成祖曾说：“朕惟昔者圣王继天立极，以道治天下……所谓道者，人伦日用之理，初非有待于外也。……六经之道明，则天地圣人之心可见，而至治之功可成。六经之道不明，则人之心术不正，而邪说暴行寻蠹害。”

材料二清朝学者戴震认为：“天理者，节其欲而不穷人欲也。……圣人之道，使天下无不达之情，求遂其欲而天下治。后儒不知情之至于纤微无憾，是谓理，而其所无理者，同于酷吏之所谓法。酷吏以法杀人，后儒以理杀人，浸浸乎舍法而论理，死矣，更无可救矣。”

材料三胡适对理学家朱熹的“补格物传”作了阐释，认为“即物而穷其理”是通过研究具体事物而寻出物的道理来，“这便是归纳的精神”；“即凡天下之物，莫不因其已知之理而益穷之，以求至乎其极，这是很伟大的希望，科学的目的，也不过如此”。同时，胡适指出，程朱的格致说，作为科学方法，其本身也有一大缺点：“科学方法的两个重要部分，一是假设，一是实验。没有假设，便用不着实验。宋儒讲格物全不注重假设”。胡适又指出，“宋儒虽说‘即物而穷其理’，但他们终不曾说出怎样下手的方法”。

（1）概括材料一和材料二对理学的看法有何不同？（4 分）

（2）阅读材料三，结合所学，分析胡适对理学的评价及其原因。（6 分）

17.（13 分）中国共产党的历史分期

材料一有学者以中国共产党召开的重要会议作为节点，对党的历史进行分期，整理为“中国共产党历史分期示意图”如下：



材料二毛泽东同志指出：“我们是用整个党的发展过程做我们研究的对象，进行客观的研究，不是只研究哪一步，而是研究全部；不是研究个别细节，而是研究路线和政策”。

中国共产党党史分期应突出党的发展历程，即党在各个不同的历史时期针对具体的历史条件和任务制定的思想路线、政治路线、组织路线和方针政策以及执行情况。同时，应重视中国共产党在中国社会中的作用，即中国共产党发挥的社会历史作用与突出贡献。

（1）在材料一①②③处填写恰当的内容。（3 分）

（2）依据材料二，结合所学，任选材料一“示意图”中的两个时期，说明这样分期的理由。（8 分）

（3）结合上述材料和所学，谈谈你对中国共产党历史发展的认识。（2 分）

18.（11 分）黎塞留

时间	黎塞留的生平
1585—1615 年	1585 年 9 月 9 日生于巴黎贵族家庭，1614 年作为教士代表出席三级会议。他是 17 世纪法国的外交家、政治家。
1616 年	被任命为法国国王路易十三的国务秘书。集合军队对付贵族的联合反抗，处死或流放大批反叛的贵族；向各省派遣钦差审计官，监管地方司法、 行政、财政、警察等事务，钦差审计官直接对中央国务会议负责。
1624 年	被任命为宰相。推行重商主义，支持法国商人组织贸易公司在海外与荷兰竞争，扩大加拿大殖民地，并运用外交手段为法国商人在土耳其，伊朗和俄国找寻市场。
1625 年	把哈布斯堡王室（德意志、西班牙君主属于此王室）看作最危险的敌人，通过灵活的策略，形成针对西班牙的法英联盟；支持丹麦、瑞典以及德意志新教诸侯与神圣罗马帝国军队交战，改变了法国屈从西班牙的政策。
1630 年	创办法国历史上最早的报纸《法兰西报》，并将其作为集权政治的舆论工具。
1635 年	领导法国参加三十年战争（1618-1648 年），最终打败哈布斯堡王室，签订《威斯特伐利亚和约》，法国得到莱茵河畔的阿尔萨斯和洛林地区，逐渐取代了哈布斯堡王室在西欧的霸权地位。
1635 年	创立法兰西研究院。这座文化殿堂一直只保留 40 把椅子，即 40 位终身院士，只有院士辞世空出名额方能投票补选，入选的院士被称为“不朽者”，孟德斯鸠、雨果、梅里美、小仲马等先后入选。法兰西研究院将弘扬法兰西文化与追求文化多样性融合，发展成超越政治制度和时代局限的法国最高荣誉机构。

依据上表材料，从社会转型角度，结合所学，对黎塞留推行的措施进行解读。（11 分）（要求：提取信息充分，史实准确，史论结合，逻辑清晰。）

19.（13 分）人口迁移

材料一西晋永康元年（公元 300 年），北方的少数民族南下，入主中原腹地洛阳，中原汉族中王室贵族和富户、大户等相继南迁。……从明清到民国时期影响较大的国内移民现象是闯关东、走西口。闯关东（关东泛指今东北地区）即明清至近代向东北移民的简称，闯关的以山东、河北、河南、山西、陕西人为多，而其中又以山东人为最。关东之所以叫“闯”，是因为清朝把东北作为龙兴之地，不准内地人迁入。随着日、俄势力不断蚕食东北，清政府解除封禁，鼓励移民实边；走西口（西口泛指长城以北，主要是内蒙古一带）是由于山西当

时人口比较多，生活较困难，以及内蒙一带边防的需要，山西、陕西等地民众前往长城以外的内蒙古草原垦荒、经商的移民活动。

材料二“九一八”事变后，日军占领东北，大批难民涌入关内，达数十万之众。“七七”事变后，平津沦陷，市民为躲避战乱，或匿身附近农村，或迁居租界，许多人扶老携幼逃亡武汉、上海等地。抗日战争时期，约有10万难民迁入陕甘宁边区和中国共产党领导的抗日根据地。……河南发生近百年来罕见的特大灾荒，多灾多难的中原人民辗转洛阳，沿陇海路的方向前往西北“大后方”。

材料三1954年新疆生产建设兵团成立，10多万来自上海的知识青年和鲁、豫、赣、蜀等省的农民加入兵团。1968年黑龙江生产建设兵团、1969年内蒙古生产建设兵团也相继成立。20世纪80年代以来，大量的农村人口涌向城市，西部人口涌向东部、南部地区，如长江三角洲、珠江三角洲等地。

（1）依据材料一，在下图中分别画出“闯关东”、“走西口”的主要路线。（4分）

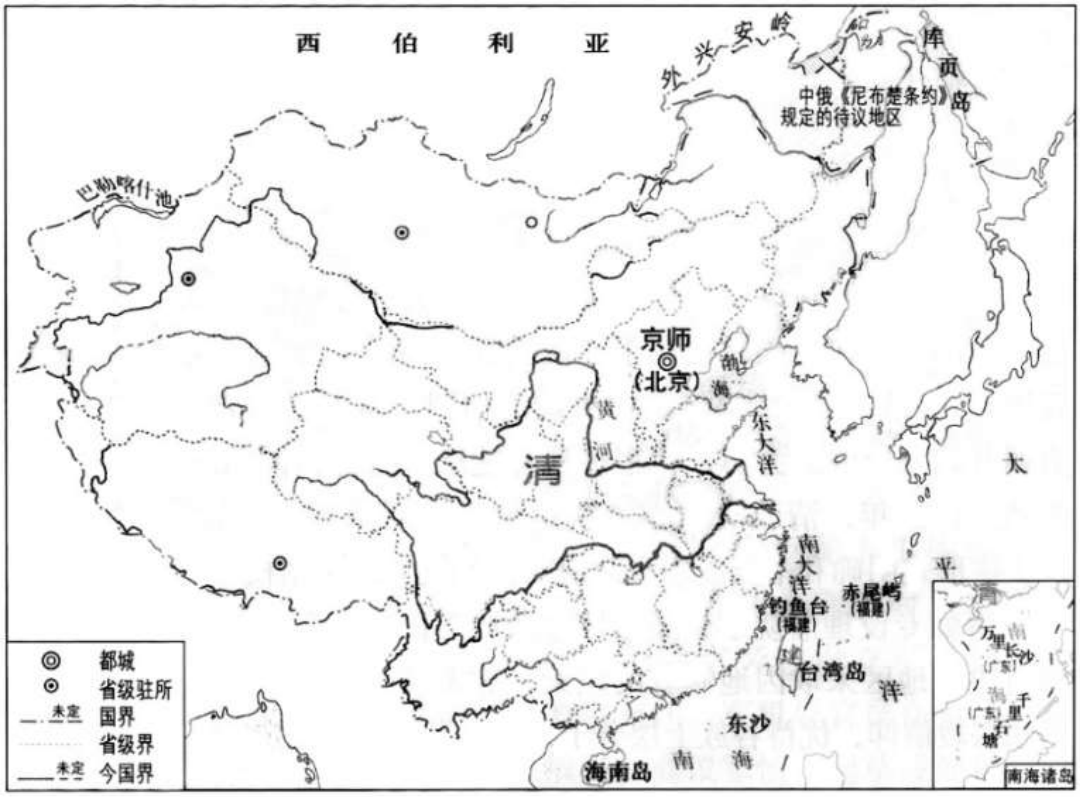

清朝疆域图（1820年）

（2）从上述材料中提炼三条影响中国人口迁移的因素，并结合所学加以说明。（9分）（要求：多角度思考，观点正确，史论结合，逻辑清晰。）

20.（8分）新经济政策

材料一列宁阅读了许多苏俄农民的来信和申诉书，接见了各地的农民代表，倾听他们的意见，1921年2月写成《农民问题提纲初稿》，其中提出：满足农民关于用粮食税代替余粮收集制的愿望；减低粮食税额；同意使税额与农民积极性相适应的原则；在缴足税款后，农民获得更大的自由来运用和支配其纳税以外的余粮。1921年3月，苏俄政府决定实行新经济政策。

材料二 1921 年 6 月列宁对美国商人阿曼德·哈默说：“我们是个落后的国家，资源丰富而未经开发，你们和我们可以取长补短。”不久后，哈默就成了第一个在苏俄经营租赁企业的美国人。他从德国和英国聘来技术人员创办铅笔厂，用美国的计件工资制度来管理生产，第一年产值达到 250 万美元。几年后，铅笔厂的产品不仅满足了苏联铅笔市场需要，还把 20%的产品出口到英国等十几个国家，很快成为世界上较大的铅笔厂之一。

阅读上述材料，结合所学，评析新经济政策。（8 分）

2021北京房山高三二模历史

参考答案

第一部分（共 45 分）

1	2	3	4	5	6	7	8	9	10
D	B	B	B	D	C	B	A	D	D
11	12	13	14	15					
A	B	C	D	A					

第二部分（共 55 分）

16.（10 分）（1）（4 分）

不同看法:材料一赞扬理学，理学有利于维护统治，有助于修身正心。（2 分）

材料二批判理学，理学忽视人正当的欲望，扼杀了人性。（2 分）

（2）（6 分）

评价：胡适一方面肯定了理学思想中“格物致知”反映的科学精神，另一方面也指出理学，只注重明道德之善，缺乏科学实验的实证方法。（两个方面，每一方面各 1 分，共 2 分）

原因：随着近代中国逐渐沦为半殖民地半封建社会，西方启蒙思想传入中国，客观上推动了一些中国人思想的变化，因此，西方思想中的理性和科学精神受到中国一些知识分子的推崇；（从西方思想传入与西方思想文的影响两个角度论述，每个角度 1 分，共 2 分）新文化运动代表人物胡适等借鉴西方思想，主张“民主”和“科学”，同时也想从中国传统文化中寻找相似的思想方法，以减少宣传新思想的阻力。（写出两个角度，每个角度 1 分，共 2 分）

17.（13 分）（1）（3 分）

内容：①遵义会议②1956 年 9 月③中共十一届三中全会（每空 1 分，共 3 分）

（2）（8 分）分期的理由（示例）：

第一时期：1921 年 7 月中共一大到 1935 年 1 月遵义会议召开。

这个时期为党成立并从幼稚走向成熟时期。1921 年 7 月，中共一大召开，标志着中国共产党的诞生。从此，中国共产党担负起了领导中国革命的重任。毛泽东、周恩来、朱德、刘少奇等领导人还没有能够成为党的领导核心，但已开始探索中国革命道路。中国共产党制定民主革命纲领，进行国共合作的国民革命运动，开展土地革命运动（南昌起义、秋收起义、井冈山革命根据地的建立等），探索农村包围城市的中国革命道路，形成工农武装割据思想。1935 年 1 月，遵义会议召开，中国共产党第一次独立自主地运用马列主义基本原理制定自己的路线、方针和政策，标志着中国共产党从幼稚走向成熟。使中国革命转危为安，挽救了红军和中国革命，从

此，中国革命在以毛泽东为核心的党中央及其制定的正确路线指引下，不断前进。（党在这一时期的方针、政策 2 分，作用、贡献 2 分，若答出党的领导核心，可以给 1 分，共 4 分）

第二时期：1935 年 1 月遵义会议到 1956 年 9 月中共八大召开。

这个时期为中国共产党成功领导中国革命取得胜利的时期。以毛泽东为核心的党的中央领导集体的领导得到全党公认，1949 年新中国成立，中国共产党成为执政党。从党的领导状况看，党对中国社会的认识已经成熟，不断探索中国革命道路和社会主义改造道路，成功地领导全国人民，通过抗日战争、解放战争，建国初期一五计划和三大改造，取得了新民主主义革命和社会主义革命的伟大胜利，毛泽东思想成为党的指导思想并不断发展，建立了新中国，确立了社会主义制度，将中国社会从半殖民地半封建社会转变为社会主义社会。

（党在这一时期的方针、政策 2 分，作用、贡献 2 分，共 4 分）

第三个时期：自 1956 年 9 月中共八大至 1978 年 12 月十一届三中全会召开。

这个时期称为中国社会主义建设道路的探索时期。党领导全国人民开始探索中国社会主义建设道路时期，有过成功，也有过曲折。从整体上看，这一时期党与全国各族人民，艰苦奋斗，通过几个五年计划，取得一系列建设成就，如原子弹爆炸成功，东方红一号卫星发射等。为中国特色社会主义建设道路成功探索及经济发展奠定基础，提供了经验和教训。

（党在这一时期的方针、政策 2 分，作用、贡献 2 分，共 4 分）

第四个时期：1978 年 12 月，党的十一届三中全会到 2002 年中共十六大召开。

这个时期为中国社会主义现代化建设新时期。十一届三中全会重新确立了马克思主义的思想路线、政治路线和组织路线，以邓小平为核心的党的中央领导集体开始形成，领导全国人民开始改革开放与社会主义现代化建设新时期。成功探索到了中国特色社会主义建设道路，逐渐形成中国特色社会主义建设的路线、方针及政策。全党在邓小平理论、“三个代表”重要思想指引下，以经济建设为中心，坚持四项基本原则，实行改革开放，领导中国社会主义现代化建设取得了举世瞩目的伟大成就。（党在这一时期的方针、政策 2 分，作用、贡献 2 分，若答出党的领导核心，可以给 1 分，共 4 分）

（3）（2 分）认识中国共产党坚持马克思主义为指导,在领导中国人民进行革命、建设和改革的伟大历程中把马克思主义基本原理与中国的具体实际相结合,实事求是，与时俱进，改革创新，形成中国化马克思主义成果，中国特色的革命道路与中国特色的社会主义现代化建设道路；坚持全心全意为人民服务的宗旨,使中国人民由站起来、富起来到强起来。（从中国共产党历史发展的整体上谈认识，写出两点，2 分）

18.（11 分）

解读示例：（背景）16--17 世纪世界历史向近代转型。当时法国国内封建贵族势力强大，王权弱小，资本主义发展。外部强国林立，争夺欧洲大陆霸主和抢夺海外殖民地的斗争激烈。（2 分）（措施及作用）黎塞留任职期间，政治上打压贵族，监管地方,加强了中央集权，推动法国专制王权进入极盛时期。经济上推行重商主义政策，争夺海外殖民地，推动法国资本主义发展，有利于实现国家富强。外交上以灵活的手段打败西班牙哈布斯堡王室，确立法国在欧洲的霸主地位。在思想文化领域，创办《法兰西报纸》和法兰西研究院，目的虽然是控制思想，强化专制王权，但在传播启蒙思想、弘扬法兰西文化方面起到了积极作用。（6 分）（总结或认识）综上，黎塞留虽出身于法国贵族，但他坚持民族、国家利益至上，采取一系列措施推进了法国统一和富强（1

分）；客观上为法国资本主义发展创造条件，有利于资产阶级成长，（1 分）推动了法国社会向近代的转型。（1 分）

等级赋分评分参考标准

等级四 （11—9 分）	能够从欧洲社会转型角度与当时法国历史发展角度分析措施的背景；能够从政治、经济、思想三个方面对其措施进行解读，每项措施至少列举一个史实作为论据；能够从社会转型的角度，对其措施进行整体上的客观全面评价；观点正确，史论结合，论证充分，逻辑清晰。
等级三 （8—6 分）	能具体分析措施的背景；能够从两个方面对其措施进行解读，并以史实作为论据；能从社会转型的角度，对其措施进行整体上的客观评价；观点正确，史论结合，逻辑清晰。
等级二 （5—3 分）	能从一个方面分析措施的背景；能从某一个方面对措施进行解读并简要评价；观点基本正确，基本做到史论结合，逻辑较为清晰。
等级一 （2—0 分）	不能分析措施的背景，对措施有说明，但仅列举史实或材料，观点不正确，不能做到史论结合，逻辑较混乱或逻辑不清晰。

19.（9 分）

（1）（4 分）

（地图略）主要线路方向基本正确，且用箭头标注。

（闯关东与走西口的主要路线各 2 分，共 4 分）

（2）影响因素：（9 分）如：

政府政策因素：国家政策影响人口的迁移。清政府解除封禁政策，鼓励移民实边，推动了大量山东等地人口迁往东北。新中国成立初期，为了巩固边防，开发建设边疆，促进民族团结，我国先后在新疆、内蒙古、黑龙江等地区建立了建设兵团，东部与内地一些地区的知识青年和农民迁到此地，加入兵团。

战争方面因素：社会动荡，战争不断影响人口的迁移。魏晋时期，北方少数民族入主中原，建立政权，战争不断，导致大量的中原人口迁往南方，抗日战争时期，大量人口由东北迁往关内，由沦陷区迁往根据地和大后方。

自然环境因素：人地矛盾影响人口的迁移。明清时期到近代，山东、山西等地人多地少，生活艰难，而东北、长城外的蒙古地区地广人稀，出现了走西口、闯关东的大规模的人口迁移。严重的自然灾害影响人口的迁移。20 世纪 40 年代河南发生特大灾荒，导致大量的河南人迁往关中、西北等地区。

经济发展因素：清朝山西、陕西等地经济不发达，民众前往长城以外的内蒙古草原垦荒、经商，形成移民活动；改革开放后，经济欠发达地区前往经济发达地区。我国东部、南部等沿海地区，经济发展迅速，城市经济水平高于农村，这一时期大量的人口由内地迁往东部、南部沿海地区，由农村涌入城市。

（提炼不同角度的三条因素，各 1 分，共 3 分，用材料说明每条因素，各 2 分，6 分，共 9 分。即每条因素及说明各 3 分，3 条，9 分）

等级赋分评分参考标准

等级四 （9—7 分）	能够准确从材料中概括三个影响人口迁移的因素，每个因素均选择至少两个材料中的史实、并能结合时代背景进行说明，逻辑准确清晰。
等级三 （7—5 分）	能够比较准确从材料中概括三个影响人口迁移的因素，每个因素均选择至少一个材料中的史实、结合时代背景进行说明，逻辑比较清晰。
等级二 （5—3 分）	能够比较从材料中概括两个影响人口迁移的因素，每个因素均选择至少一个材料中的史实、能结合时代背景进行说明，逻辑较为清晰
等级一 （2—0 分）	能够从材料中概括一个影响人口迁移的因素，选择至少一个材料中的史实。不能结合时代背景进行说明，逻辑不清晰。

20.（8 分）

评析示例：（背景）十月革命胜利后，苏俄利用战时共产主义政策向社会主义直接过渡，引发了经济危机和政治危机；1921 年 3 月为了恢复经济，巩固政权，苏维埃政府开始实行新经济政策。（每点 1 分，2 分）（内容）新经济政策实行粮食税，农民按国家规定交纳一定的粮食税，超过税额的余粮归个人所有；允许私人和外资企业管理国家暂时无力经营的企业。（每点 1 分，2 分）（特点）体现了无产阶级掌握国家政权的情况下，在一定时期内，可以以公有制为主体,多种所有制并存，利用商品货币关系恢复发展经济的特点。（2 分）（效果及评价）新经济政策实施调动了广大人民的生产积极性，恢复了经济，巩固了苏维埃政权；新经济政策的实施表明，列宁找到了一条小农经济占优势的俄国向社会主义过渡的正确途径，发展了马克思主义学说。（每点 1 分，2 分）