2022 北京顺义高三（上）期末历史

（第一次统练）

本试卷共 8 页。考试时长 90 分钟。考生务必将答案答在答题卡上，在试卷上作答无效。考试结束后，将本试卷和答题卡一并交回。

第一部分

本部分共15题，每题3分，共45分。在每题列出的四个选项中，选出最符合题目要求的一项。

1.下图是发现于陕西临潼的姜寨聚落遗址复原图，该图反映出姜寨文明的特征是



A.种植玉米，兼有饲养家畜

B.刀耕火种，形成青铜文明

C.阶级出现，形成早期国家

D.定居生活，形成原始聚落

2.下图为唐朝三省位置图，该图文说明唐朝三省



中书省负责草拟皇帝诏令，门下省负责审核诏令，尚书省负责执行，若发现差错，可以不奉诏，甚至封还诏书，但一般都是奉诏执

①都位于宫城之内是为了便于皇帝决策

②空间布局体现决策权与行政权的统一

③尚书省对门下省诏令具有一定否决权

④职权分工明确，相互牵制又分工配合

A.①②　　B.①④　　C.②③　　D.③④

3.下列中国古代科技成果出现的先后顺序排列正确的是

①祖冲之计算圆周率　　②蔡伦改进造纸术

③沈括编著《梦溪笔谈》　④宋应星编著《天工开物》

A.①②③④　　B.②①③④　　C.①②④③　　D.②③④①

4.下图是我国古代曹魏到北宋时期，入仕群体中寒门子弟所占的比例示意图，对此图解读正确的是

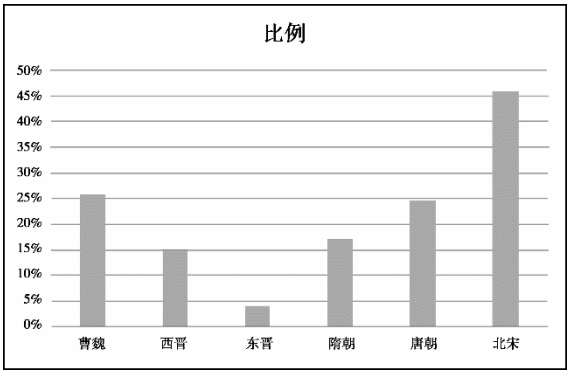

①魏晋时期门阀制度盛行，寒门子弟入仕受到限制

②隋唐时期推行了科举制，寒门子弟超过士族子弟

③北宋大批寒门子弟进入政坛，给政治增添了活力

④反映中国古代选官制度由重孝廉到重才能的演变

A.①③　　B.②③　　C.①④　　D.②④

5.晋商是指山西籍的商帮，明清时期非常活跃。下图是明清晋商的活动范围，可以说明晋商

①从事区域间长途贩运的商品贸易

②商业活动促进了高产农作物引进

③活动的范围远达东亚、南亚等地

④瓦解了中国自给自足的小农经济

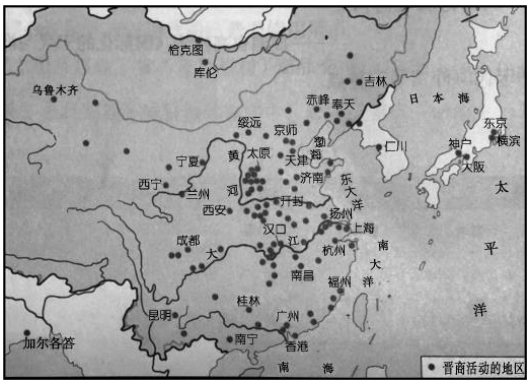

A.①②　　B．③④　　C．②④　　D．①③

6.19 世纪中期，面对列强的侵略，中国人民为寻求国家出路做出了一系列的探索，包括

①提出“师夷之长技以制夷”的思想　②发动革命，推翻满清政府

③学习西方技术，开展洋务运动　④国共合作，进行北伐战争

A.①②　　B.②③　　C.①③　　D.③④

7.竹枝词具有重要的史料价值。下列竹枝词可以反映的现象是

“都城一洗帝王尊，出入居然任脚跟。为问大家前二载，几人走过正阳门。”
“政局纷纷类弈棋，本来约法尚临时。四番总理曾更替，内阁从新组短期。”

A. 八国联军迫使光绪帝西逃　　B. 辛亥革命后共和政体的飘摇

C. 清政府组织了“皇族内阁”　　D. 孙中山在广州发动护国运动

8.下表是达尔文进化论学说在近代中国的传播。相关说法正确的是

时间	传播过程

1895 年	严复发表《原强》简要介绍了达尔文学说，进化论自此传入中国
1898 年	严复翻译赫胥黎的《进化论与伦理学》一书并以《天演论》为名正式出版。翻译过程中作者有所评论和发挥，他阐述了“优胜劣败、弱肉强存”也是人类社会的规律等思想，举国震动
1904 年	邹容在《革命军》中言“革命者，天演之公例也。”
辛亥革命前后	《天演论》发行了 30 多种版本
20 世纪 20 年代	达尔文原著翻译出版，中国人对达尔文学说有了比较正确的认识

①对进化论认识经历了曲折过程　　②进化论可以适用于整个人类社会

③进化论适应了当时革命的需要　　④全部国民都能正确地认识进化论

A.②③　　B.①②　　C.②④　　D.①③

9.1955 年 8 月国务院全体会议第十七次会议通过了《中国科学院科学奖金暂行条例》，这是新中国第一个鼓励自然科学和社会科学研究成果的国家条例。该条例

A. 加速了社会主义改造进程　　B.贯彻 了“双百”的方针

C. 表明新中国对科学的重视　　D.体现 “祖国统一”大业

10.下图是 2006 年全线开通的青藏铁路，它的修建克服了“多年冻土、高寒缺氧、生态脆弱”三大世界性工程技术难题。该铁路的修建

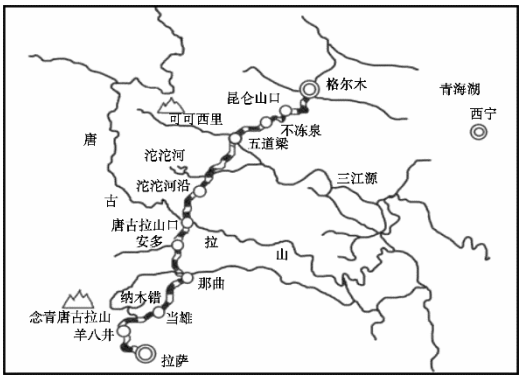

①诠释了“万众一心、共创伟业”的精神

②充分体现中国特色社会主义制度优越性

③有利于加强与世界各国的经济文化交往

④说明中国的高铁技术自主创新领先世界

A.①②　　B.①④　　C.③④　　D.②③

11.世界古代文明多元发展，产生了许多伟大的成就。下列关于成就的说法正确的是

①古巴比伦汉谟拉比法典是世界上现存最早的成文法典

②古印度的主要书写材料和重要的出口物资是莎草纸

③古埃及人创造了从 1 到 9 的数字，发明了“0”

④古希腊苏格拉底等人奠定了西方的哲学基础

A.①②　　B.②③　　C.①④　　D.③④

12.大学是西欧中世纪文明发展的重要成果和标志。阅读右面“大学兴起” 的示意图，其中 “？”处应填

A.专制王权的加强

B.城市的兴起发展

C.市民文学的产生

D.民族国家的统一

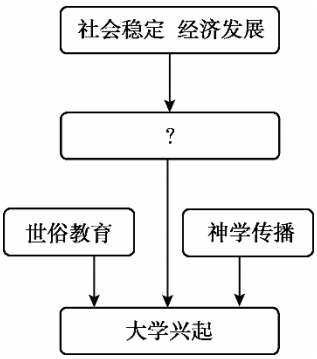

13.1870 年,英国最终确立了文官制度,实现了从直接任命官员到公开竞争、考试录用的重大转变。对此理解准确的是

①文官负责制定国家政策　　②英国是西方最早建立文官制度的国家

③全体文官与内阁共进退　　④适应工业革命和资本主义发展的需要

A．①②　　B．②③　　C．②④　　D．①④

14.19 世纪末至 20 世纪初,国际贸易总额不断增加，国际分工日益明确，世界各国联系更加密切，依赖程度不断加深。这表明

A.资本主义世界市场最终形成　　B.国际贸易发展趋于平衡

C.资本主义世界殖民体系确立　　D.世界各国已经连为一体

15.下列选项中，史实与结论相符的是

	史 实	结 论
A	中世纪阿拉伯民间集体创作《天方夜谭》	阿拉伯帝国成为东西文化的桥梁
B	古罗马颁布《十二铜表法》	成为后世一系列公民法的基础
C	日本平安时代紫式部创作《源氏物语》	日本古代文化受到中国文化影响
D	19 世纪中期英国人流行喝“下午茶”	中国茶文化传遍世界

第二部分

本部分共 5 题，共 55 分。请将所有答案 写在答题卡中。

16.（10 分）中国古代婚姻制度

材料一 西周实行嫡长子继承制，为保证嫡长子的纯洁性，周代实行一夫一妻多妾制，《周礼》记载：“王者立后、三夫人、九嫔、二十七世妇、八十一女御，以备内职焉”。西周礼制还规定，男子二十岁“冠而列丈夫”，女子则十五岁为“及笄”，男女未成年不得成婚。《礼记·曲礼》记载：“男女无媒不交。”西周婚姻的成立，程序上必须符合“六礼”。即纳采、问名、纳吉、纳征、请期、亲迎，在完成六礼后，婚姻关系才算成立。

材料二 汉代统治者重视儒家思想的教化和礼的调整作用，注重引礼入法。汉代不仅遵循一夫一妻制度，还强调和倡导女子从一而终。其中，汉代的“三纲五常”是伦理道德准则，也是立法的最高原则，其中“夫为妻纲”为婚姻关系中夫妻双方的地位做出了明确的规定，妻子必须遵循丈夫的想法和决定，以丈夫为尊。在结婚要件中，汉代遵循“父母之命，媒灼之言”和“六礼”；汉朝从人性出发，认为男女年龄太小做父母是不理性的，鼓励晚婚。

材料三 唐代，由于当时社会风气开化，社会理念开放，以及受到少数民族婚姻习俗的影响，唐代的礼俗具有了与众不同的变化。例如：离婚比较自由；妇女地位较高。在婚姻成立上，《唐律疏议·户婚》记载“为婚之法，必有行

媒”，说明“媒约”的介绍是唐代婚姻成立必不可少的条件。另外唐律首次提出了同姓不婚、亲属不婚、良贱禁婚以及宗教民族等一系列结婚的禁止性条件。

（1）阅读材料一、二，指出汉代婚姻制度和西周婚姻制度的异同，结合所学分析汉代婚姻制度注重“引礼入法”的原因。（6 分）

（2）阅读材料三，概括唐朝时期婚姻制度的主要特点。（4 分）

17.（10 分）北京城址变迁

材料一

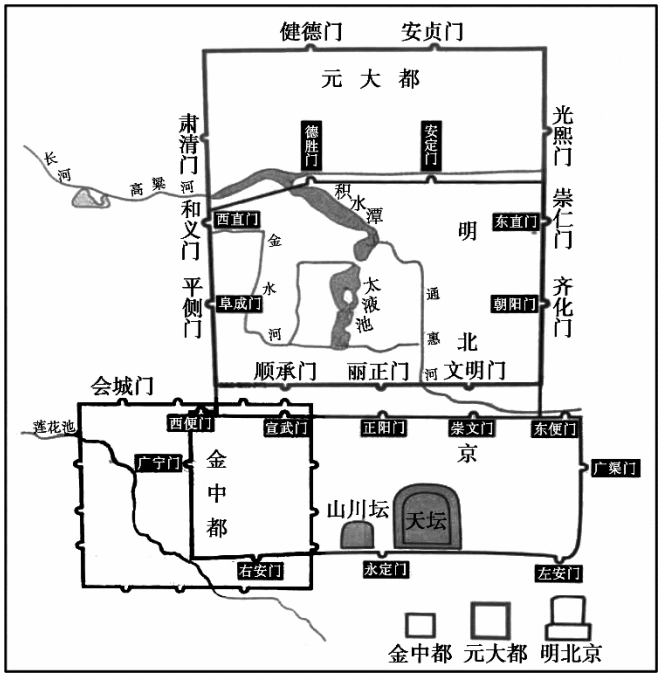

金、元、明北京城址变迁图

（1）依据上图对金、元、明北京城址变迁和城市布局进行简要说明。（6 分）

材料二 从辽、金朝起，中国政治上的统治重心开始北移，燕京（今北京）成为此后历朝统治的政治中心，使得长城南北在政治、经济、社会、文化上完全成为统一和不可分割的整体……由此开始民族得到了南北大调动、大迁徙、大融合，改变了民族人口分布的格局。民族意识、中国观念也发生了重大变化，契丹人、汉人、党项人、女真人，同是国人，今皆一家。

（2）依据材料和所学，分析辽金时期政治重心开始北移的影响。（4 分）

18.（8 分）容闳

容闳出生于广东香山的贫困农家，幼时就读于澳门的一所教会学校，学习英语和近代自然科学课程又兼习《四书》《五经》。后来容闳在校长的资助下进入美国马萨诸塞州一所学校就读，阅读了大量西方著作，尤爱读《爱丁堡评论》（苏格兰启蒙派的重要阵地）。1854 年他以优异成绩毕业于耶鲁大学，决心用自己的新知识改造旧中国。

容闳回国后，把改造中国的希望寄托在太平天国身上。1860 年他拜会洪仁玕时提出创办新式学校，创立现代银行、金融制度等建国之策。但经过一番考察，容闳对太平天国相当不满和失望。1863 年，容闳受曾国藩“三请”，帮助建立制造来复枪的工厂。容闳认为，中国最需要的不是制造枪炮的工厂，而是制造“机器母厂”。曾国藩采取这一建议并付诸实施。1854 年至 1872 年，历经 18 年的不懈努力，容闳最终促成首批 30 名官派幼童留学生赴美。留美幼童受到西方文明影响后发生巨大变化，被顽固派诬告为“毫无管束，遂致抛荒本业，纷纷入教”。1881 年，首批留学生被强令回国。人数不多的留美幼童在中国近代困难重重的转型中起了非同小可的作用。

1898 年，容闳参加了保国会成立大会。后来，容闳认识到难以在体制内改革清政府，于是走向了暴力革命，积极筹款支持革命派。孙中山就任临时大总统后给他写亲笔信，邀请他担任要职。

阅读材料，提取信息，结合所学，阐释容闳的个人经历所折射出的时代特征。（8 分）

要求：信息提取充分，史论结合，逻辑清晰。

19.（14 分）历史地图

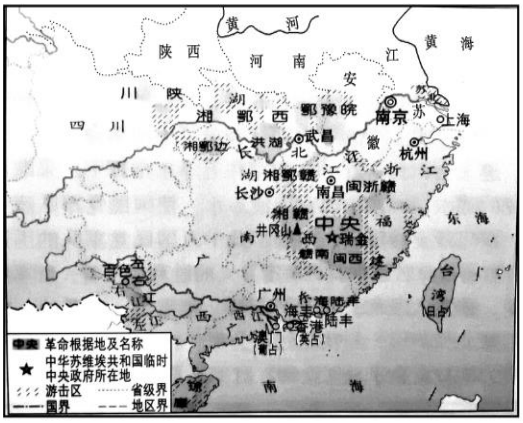

图 1

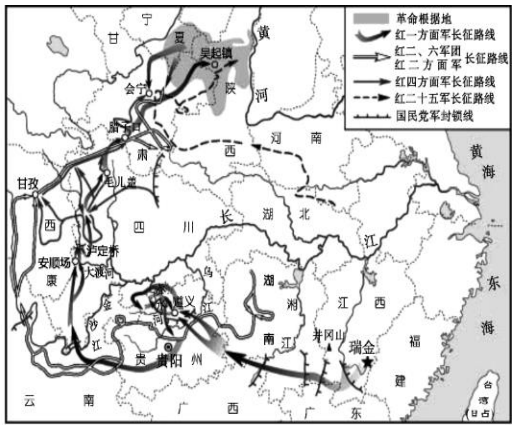

图 2

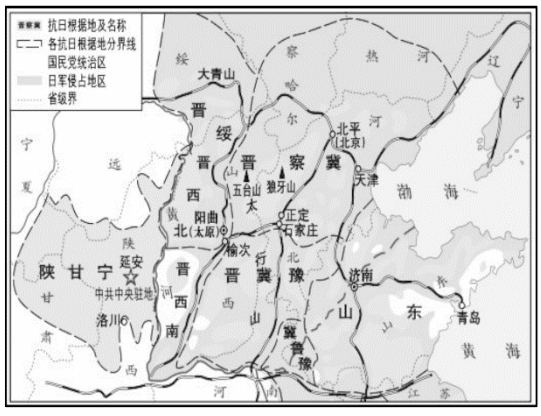

图 3

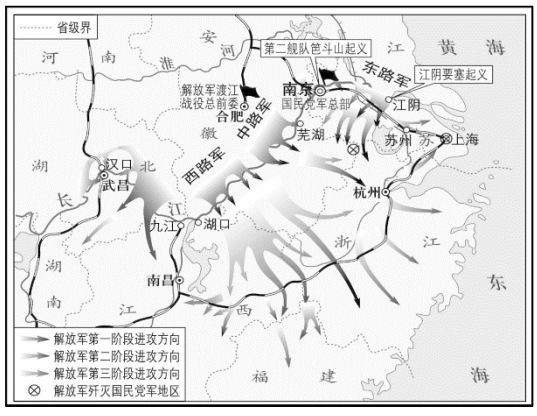

图 4

（1）观察以上四幅地图，提取地图信息，指出与其相对应的历史时期。（4 分）

（2）结合四幅地图和所学，分析中国共产党是如何领导中国革命走向胜利的。（10 分）

20.（13 分）时空观念

材料一 1494 年 1 月哥伦布写给西班牙国王夫妇的报告写道：“这里需要各种物资，粮食应该(继续)运到这里,直到我们在这里播种和栽种的作物收获为止。我们要的是小麦、大麦和葡萄藤。…… 应该运来一些活羊，最好是羊羔，母的比公的更好；还要公母都有的牛犊。……这里多么需要有角的牛羊和驮载的役畜……如果在一千个移民中有一百骑兵，那将很不错，而且是甚为有益的。”

材料二 马作为畜力的使用，改变了美洲以人力为主的劳动模式。羊随哥伦布于 1493 年到达。16 世纪初，牛也被引进美洲的峡谷地带和中美洲。美洲有大片肥沃的草场，特别适合放牧牛群、羊群。膘肥奶足的牛羊为人们提供了肉食和奶类，渐渐取代猪肉，促进了人口的营养和健康。牛仔们放牧牛群，催生了美洲的特色文化。除这些大动物之外，老鼠也藏在航船中漂洋过海到了美洲，这对美洲的生态链产生了巨大的影响。

（1）阅读材料一、二，谈谈你对哥伦布大交换影响的认识。（5 分）

材料三

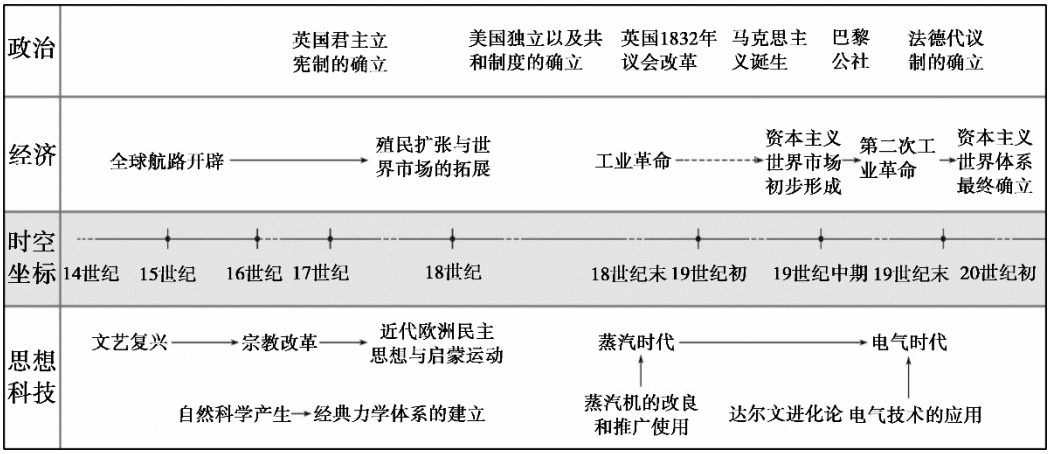

（2）依据材料三，并结合世界近现代史的具体史实，自拟论题进行论述。（8 分）

（要求：论题明确，史论结合，逻辑清晰。）

参考答案

1. 下图是发现于陕西临潼的姜寨聚落遗址复原图，该图反映出姜寨文明的特征是



A. 种植玉米，兼有饲养家畜　　B. 刀耕火种，形成青铜文明

C. 阶级出现，形成早期国家　　D. 定居生活，形成原始聚落

【答案】D

【解析】

【分析】

【详解】根据图片及所学可知，图中反映出姜寨文明已经修建了村落，生活逐渐稳定，形成了原始聚落，D 项正确；玉米是明朝传入中国的，排除 A 项；青铜器在商、周时期人们的社会生活中有非常重要的地位，因此，人们将这一时期称为“青铜文明”。材料无法体现刀耕火种，形成了青铜文明，排除 B 项；早期国家出现是在夏朝，排除 C 项。故选 D 项。

【点睛】

2. 下图为唐朝三省位置图，该图文说明唐朝三省

	中书省负责草拟皇帝诏令，门下省负责审核诏令，尚书省负责执行，若发现差错，可以不奉诏，甚至封还诏书，但一般都是奉诏执行。

①都位于宫城之内是为了便于皇帝决策②空间布局体现决策权与行政权的统一

③尚书省对门下省诏令具有一定否决权④职权分工明确，相互牵制又分工配合

A. ①②　　B. ①④　　C. ②③　　D. ③④

【答案】D

【解析】

【详解】根据图示内容无法体现三省布局的意图，看不出决策权和行政权的统一，①②不符合题意；根据“尚书省负责执行，若发现差错，可以不奉诏”可知尚书省对门下省的诏令具有一定的否决权，③符合题意；根据“中书省负责草拟皇帝诏令，门下省负责审核诏令，尚书省负责执行”可知三省分工明确，相互牵制又分工合作，④符合题意。综上所述可知 D 项正确，排除 ABC 项。故选 D 项。

3. 下列中国古代科技成果出现的先后顺序排列正确的是

①祖冲之计算圆周率②蔡伦改进造纸术③沈括编著《梦溪笔谈》④宋应星编著《天工开物》

A. ①②③④　　B. ②①③④　　C. ①②④③　　D. ②③④①

【答案】B

【解析】

【详解】祖冲之计算圆周率是南北朝时期，蔡伦改进造纸术是东汉时期，沈括编著《梦溪笔谈》是北宋时期，宋应星编著《天工开物》是明代，因此按照时间先后顺序排列应该是②①③④，B 项正确，排除 ACD 项。故选 B 项。

4. 下图是我国古代曹魏到北宋时期，入仕群体中寒门子弟所占的比例示意图，对此图解读正确的是

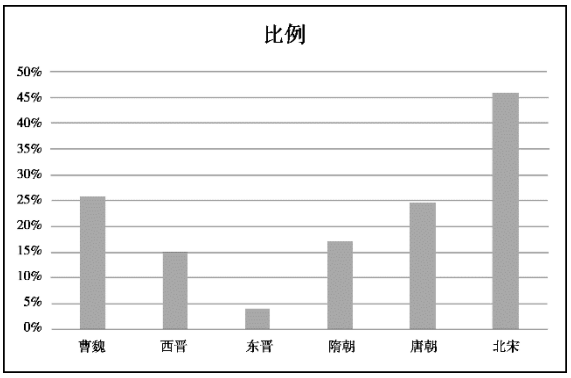

①魏晋时期门阀制度盛行，寒门子弟入仕受到限制②隋唐时期推行了科举制，寒门子弟超过士族子弟③北宋大批寒门子弟进入政坛，给政治增添了活力④反映中国古代选官制度由重孝廉到重才能的演变

A ①③　　B. ②③　　C. ①④　　D. ②④

【答案】A

【解析】

【详解】根据图示内容可知，魏晋时期寒门子弟所占比例较低，入仕群体以门阀子弟为主，说明寒门子弟入仕受到限制，①符合题意；隋唐时期寒门子弟入仕比例上升，但也没有超过士族子弟，②不符合题意；北宋寒门子弟比例

大幅上升，大批寒门子弟进入政坛，给政治增添了活力，③符合题意；仅根据入仕群体比重的变化，无法看出选官标准的演变，④不符合题意。综上所述可知，A 项正确，排除 BCD 项。故选 A 项。

5. 晋商是指山西籍的商帮，明清时期非常活跃。下图是明清晋商的活动范围，可以说明晋商

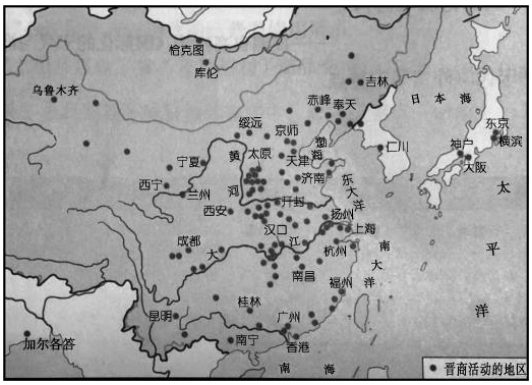

①从事区域间长途贩运的商品贸易②商业活动促进了高产农作物引进

③活动的范围远达东亚、南亚等地④瓦解了中国自给自足的小农经济

A. ①②　　B. ③④　　C. ②④　　D. ①③

【答案】D

【解析】

【详解】根据晋商的活动范围并结合所学内容可知，晋商从事区域间长途贩运的商品贸易，而且活动的范围远达东亚、南亚等地，①③符合题意，D 项正确；根据图示内容无法看出促进高产作物的引进，②不符合题意；自给自足的小农经济的瓦解始于鸦片战争以后，④不符合题意，排除 ABC 项。故选 D 项。

6. 19 世纪中期，面对列强的侵略，中国人民为寻求国家出路做出了一系列的探索，包括

①提出“师夷之长技以制夷”的思想②发动革命，推翻满清政府

③学习西方技术，开展洋务运动④国共合作，进行北伐战争

A. ①②　　B. ②③　　C. ①③　　D. ③④

【答案】C

【解析】

【详解】结合所学内容可知，19 世纪中期，面对列强的侵略，中国人民为寻求国家出路做出了一系列的探索，包括提出“师夷长技以制夷”的思想，学习西方技术，开展洋务运动，①③符合题意，C 项正确；发动革命，推翻满清政府和国共合作，进行北伐战争都是在 20 世纪，②④不符合题意，排除 ABD 项。故选 C 项。

7. 竹枝词具有重要的史料价值。下列竹枝词可以反映的现象是

“都城一洗帝王尊，出入居然任脚跟。为问大家前二载，几人走过正阳门。” “政局纷纷类弈棋，本来约法尚临时。四番总理曾更替，内阁从新组短期。”

A. 八国联军迫使光绪帝西逃　　B. 辛亥革命后共和政体的飘摇

C. 清政府组织了“皇族内阁”　　D. 孙中山在广州发动护国运动

【答案】B

【解析】

【详解】根据材料“都城一洗帝王尊”“政局纷纷类弈棋，本来约法尚临时。四番总理曾更替，内阁从新组短期”及所学知识可知，竹枝词所反映的现象是辛亥革命后民国初年的混乱局面，共和政体的飘摇，社会局势动荡，B 项正确；材料反映的是辛亥革命后共和政体的飘摇，而八国联军侵华战争发生在辛亥革命前，排除 A 项；清政府组织“皇族内阁”发生在辛亥革命前，排除 C 项；材料反映的是辛亥革命后共和政体的飘摇，孙中山发动的护国运动与材料无关，排除 D 项。故选 B 项。

8. 下表是达尔文进化论学说在近代中国　传播。相关说法正确的是

时间	传播过程
1895 年	严复发表《原强》简要介绍了达尔文学说，进化论自此传入中国
1898 年	严复翻译赫胥黎　《进化论与伦理学》一书并以《天演论》为名正式出版。翻译过程中作者有所评论和发挥，他阐述了“优胜劣败、弱肉强存”也是人类社会的规律等思想，举国震动
1904 年	邹容在《革命军》中言“革命者，天演之公例也。”
辛亥革命前后	《天演论》发行了 30 多种版本
20 世纪 20 年代	达尔文原著翻译出版，中国人对达尔文学说有了比较正确的认识

①对进化论认识经历了曲折过程②进化论可以适用于整个人类社会

③进化论适应了当时革命的需要④全部国民都能正确地认识进化论

A ②③　　B. ①②　　C. ②④　　D. ①③

【答案】D

【解析】

【详解】根据材料及所学知识可知，从 1895—20 世纪 20 年代，达尔文进化论学说在近代中国历经了不同的发展历程，体现了国人对进化论认识经历了曲折过程；“进化论可以适用于整个人类社会”说法绝对，不符合史实；进化论在近代中国的传播，适应了当时革命的需要；“全部国民都能正确地认识进化论”说法绝对，不符合史实。因此，①③说法正确，D 项正确；②④说法错误，排除 ABC 项。故选 D 项。

9. 1955 年 8 月国务院全体会议第十七次会议通过了《中国科学院科学奖金暂行条例》，这是新中国第一个鼓励自然科学和社会科学研究成果的国家条例。该条例

A. 加速了社会主义改造进程　　B. 贯彻了“双百”的方针

C. 表明新中国对科学的重视　　D. 体现“祖国统一”大业

【答案】C

【解析】

【详解】根据“这是新中国第一个鼓励自然科学和社会科学研究成果的国家条例”可知这一条例是奖励自然科学和社会科学的研究成果，由此可知体现了新中国对科学的重视，C 项正确；这一条例和社会主义改造无关，排除 A 项；1956 年才提出了“双百”方针，排除 B 项；这一条例主要是体现对科学的重视，而非体现“祖国大业”，排除 D 项。故选 C 项。

10. 下图是 2006 年全线开通的青藏铁路，它的修建克服了“多年冻土、高寒缺氧、生态脆弱”三大世界性工程技术难题。该铁路的修建

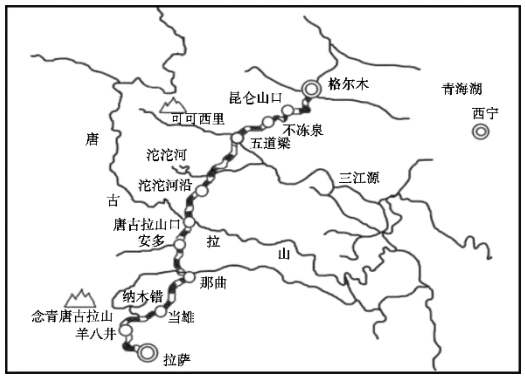

①诠释了“万众一心、共创伟业”的精神②充分体现中国特色社会主义制度优越性

③有利于加强与世界各国的经济文化交往④说明中国的高铁技术自主创新领先世界

A. ①②　　B. ①④　　C. ③④　　D. ②③

【答案】A

【解析】

【详解】根据“它的修建克服了‘多年冻土、高寒缺氧、生态脆弱’三大世界性工程技术难题”等信息并结合所学内容可知，青藏铁路的修建，诠释了“万众一心、共创伟业”的精神，充分体现中国特色社会主义制度优越性，①②符合题意，A 项正确；青藏铁路和与世界各国的经济文化交往无关，③不符合题意；青藏铁路不是高铁，不能说明中国的高铁技术自主创新领先世界，④不符合题意，排除 BCD 项。故选 A 项。

11. 世界古代文明多元发展，产生了许多伟大的成就。下列关于成就的说法正确的是

①古巴比伦汉谟拉比法典是世界上现存最早的成文法典②古印度的主要书写材料和重要的出口物资是莎草纸③古埃及人创造了从 1 到 9 的数字，发明了“0”④古希腊苏格拉底等人奠定了西方的哲学基础

A. ①②　　B. ②③　　C. ①④　　D. ③④

【答案】C

【解析】

【详解】根据所学知识可知，古巴比伦汉谟拉比法典是世界上现存最早的成文法典；古代埃及主要的书写材料和重要的出口物资是莎草纸；阿拉伯人创造了从 1 到 9 的数字，发明了“0”；古希腊苏格拉底等人奠定了西方的哲学基础。因此，①④说法正确，C 项正确；②③说法错误，排除 ABD 项。故选 C 项。

12. 大学是西欧中世纪文明发展的重要成果和标志。阅读下面“大学兴起”的示意图，其中“？”处应填

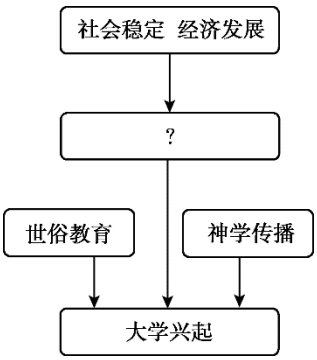

A. 专制王权的加强　　B. 城市的兴起发展

C. 市民文学的产生　　D. 民族国家的统一

【答案】B

【解析】

【详解】结合所学内容可知，中世纪欧洲社会稳定，经济发展，促进了城市的兴起，城市的兴起为大学的兴起奠定了基础，B 项正确；中世纪欧洲社会稳定，经济发展主要是带来了城市的兴起发展，而非专制王权的加强和市民文学的产生，更不是民族国家的统一，排除 ACD 项。故选 B 项。

13. 1870 年,英国最终确立了文官制度,实现了从直接任命官员到公开竞争、考试录用的重大转变。对此理解准确的是

①文官负责制定国家政策②英国是西方最早建立文官制度的国家

③全体文官与内阁共进退④适应工业革命和资本主义发展的需要

A. ①②　　B. ②③　　C. ②④　　D. ①④

【答案】C

【解析】

【详解】根据材料及所学知识可知，文官负责日常行政事务，不负责制定国家政策；英国是西方最早建立文官制度的国家；全体文官保持中立，与内阁不存在共进退关系；英国的文官制度适应工业革命和资本主义发展的需要。因此，②④理解准确，C 项正确；①③理解错误，排除 ABD 项。故选 C 项。

14. 19 世纪末至 20 世纪初,国际贸易总额不断增加，国际分工日益明确，世界各国联系更加密切，依赖程度不断加深。这表明

A. 资本主义世界市场最终形成　　B. 国际贸易发展趋于平衡

C. 资本主义世界殖民体系确立　　D. 世界各国已经连为一体

【答案】A

【解析】

【详解】根据材料中的时间和“国际贸易总额不断增加，国际分工日益明确，世界各国联系更加密切，依赖程度不断加深”并结合所学内容可知，此时资本主义世界市场最终形成，A 项正确；材料反映的是资本主义世界市场形成，无法体现国际贸易趋于平衡和殖民体系的确立，排除 BC 项；各国连为一体的说法过于夸张，排除 D 项。故选 A 项。

15. 下列选项中，史实与结论相符的是

	史实	结论
A	中世纪阿拉伯民间集体创作《天方夜谭》	阿拉伯帝国成为东西文化的桥梁
B	古罗马颁布《十二铜表法》	成为后世一系列公民法的基础
C	日本平安时代紫式部创作《源氏物语》	日本古代文化受到中国文化影响
D	19 世纪中期英国人流行喝“下午茶”	中国茶文化传遍世界

A. A　　B. B　　C. C　　D. D

【答案】B

【解析】

【详解】《十二铜表法》是古代罗马的第一部成文法，成为古罗马后世一系列公民法的基础，B 项正确；《天方夜谭》只能说明阿拉伯文化的成就，不能说明成为东西文化的桥梁，排除 A 项；《源氏物语》体现的是日本的风格，并不能说明日本古代文化受到中国文化的影响，排除 C 项；英国人流行喝“下午茶”并不代表中国茶文化传遍世界，排除 D 项。故选 B 项。

第二部分

本部分共 5 题，共 55 分。请将所有答案写在答题卡中。

16. 中国古代婚姻制度

材料一 西周实行嫡长子继承制，为保证嫡长子的纯洁性，周代实行一夫一妻多妾制，《周礼》记载：“王者立后、三夫人、九嫔、二十七世妇、八十一女御，以备内职焉”。西周礼制还规定，男子二十岁“冠而列丈夫”，女子则十五岁为“及笄”，男女未成年不得成婚。《礼记·曲礼》记载：“男女无媒不交。”西周婚姻的成立，程序上必须符合“六礼”。即纳采、问名、纳吉、纳征、请期、亲迎，在完成六礼后，婚姻关系才算成立。

材料二 汉代统治者重视儒家思想的教化和礼的调整作用，注重引礼入法。汉代不仅遵循一夫一妻制度，还强调和倡导女子从一而终。其中，汉代的“三纲五常”是伦理道德准则，也是立法的最高原则，其中“夫为妻纲”为婚姻关系中夫妻双方的地位做出了明确的规定，妻子必须遵循丈夫的想法和决定，以丈夫为尊。在结婚要件中，汉代遵循“父母之命，媒灼之言”和“六礼”；汉朝从人性出发，认为男女年龄太小做父母是不理性的，鼓励晚婚。

材料三 唐代，由于当时社会风气开化，社会理念开放，以及受到少数民族婚姻习俗的影响，唐代的礼俗具有了与众不同的变化。例如：离婚比较自由；妇女地位较高。在婚姻成立上，《唐律疏议·户婚》记载“为婚之法，必有行媒”，说明“媒约”的介绍是唐代婚姻成立必不可少的条件。另外唐律首次提出了同姓不婚、亲属不婚、良贱禁婚以及宗教民族等一系列结婚的禁止性条件。

（1）阅读材料一、二，指出汉代婚姻制度和西周婚姻制度的异同，结合所学分析汉代婚姻制度注重“引礼入法”的原因。

（2）阅读材料三，概括唐朝时期婚姻制度的主要特点。

【答案】（1）相同点：都重视程序和礼仪；原则上都实行一夫一妻制；男女不平等。

不同点：西周重视周礼，汉代重视儒家思想的教化（或引礼入法）；汉代更鼓励晚婚。

原因：维护统治秩序；推崇儒家思想。

（2）特点：婚姻比较自由，妇女地位提高；婚姻必须有证明；立法规定不能结婚的条件。

【解析】

【详解】（1）相同点：根据“男女未成年不得成婚。《礼记·曲礼》记载：‘男女无媒不交。’西周婚姻的成立，程序上必须符合‘六礼’”、“汉代统治者重视儒家思想的教化和礼的调整作用，注重引礼入法”得出都重视程序和礼仪；原则上都实行一夫一妻制；根据“男子二十岁‘冠而列丈夫’，女子则十五岁为‘及笄’”、“妻子必须遵循丈夫的想法和决定，以丈夫为尊”可知男女不平等。不同点综合材料内容可知，西周重视周礼，汉代重视儒家思想的教化；汉代更鼓励晚婚。原因主要是为了维护统治秩序；汉代更推崇儒家思想。

（2）特点：根据“离婚比较自由；妇女地位较高”得出婚姻比较自由，妇女地位提高；根据“‘媒约’ 介绍是唐代婚姻成立必不可少的条件。另外唐律首次提出了同姓不婚、亲属不婚、良贱禁婚以及宗教民族等一系列结婚的禁止性条件”得出婚姻必须有证明；立法规定不能结婚的条件。

17. 北京城址变迁

材料一

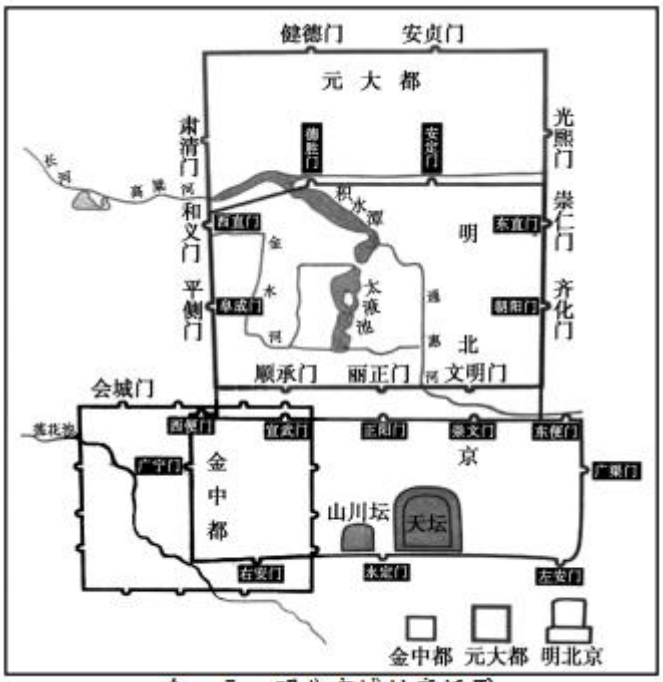

金、元、明北京城址变迁图

（1）依据上图对金、元、明北京城址变迁和城市布局进行简要说明。

材料二 从辽、金朝起，中国政治上的统治重心开始北移，燕京（今北京）成为此后历朝统治的政治中心，使得长城南北在政治、经济、社会、文化上完全成为统一和不可分割的整体……由此开始民族得到了南北大调动、大迁徙、大融合，改变了民族人口分布的格局。民族意识、中国观念也发生了重大变化，契丹人、汉人、党项人、女真人，同是国人，今皆一家。

（2）依据材料和所学，分析辽金时期政治重心开始北移的影响。

【答案】（1）说明：金、元、明三代虽然都在北京建都，但都城位置不同；随着历史的发展，北京城城址在空间上的变化趋势是不断扩大；北京旧城城址虽然曾多次变迁，但从图中可以看出，无论城址怎样变迁，城区附近始终靠近水源；北京旧城格局形成于元、明两代，明代城市格局呈“凸”字轴线形，整个布局沿南北延伸的中轴线对称分布，给人一种整体感和稳定感。

（2）影响：有利于南北政治、经济、文化和民族的交融；民族人口分布的格局发生了变化；民族意识和中国观念逐渐兴起，促进了统一多民族国家的发展和巩固。

【解析】

【详解】（1）说明：根据图示内容可以看出，金、元、明三代虽然都在北京建都，但都城位置不同；总体来看，随着历史的发展，北京城城址在空间上的变化趋势是不断扩大；北京旧城城址虽然曾多次变迁，但从图中可以看出，无论城址怎样变迁，城区附近始终靠近水源；北京旧城格局形成于元、明两代，明代城市格局呈“凸”字轴线形，整个布局沿南北延伸的中轴线对称分布，给人一种整体感和稳定感。

（2）影响：根据“燕京（今北京）成为此后历朝统治的政治中心，使得长城南北在政治、经济、社会、文化上完全成为统一和不可分割的整体……由此开始民族得到了南北大调动、大迁徙、大融合，改变了民族人口分布的格局”可知政治重心的北移有利于南北政治、经济、文化和民族的交融；民族人口分布的格局发生了变化；根据“民族意识、中国观念也发生了重大变化，契丹人、汉人、党项人、女真人，同是国人，今皆一家”可知民族意识和中国观念逐渐兴起，促进了统一多民族国家的发展和巩固。

18. 容闳

容闳出生于广东香山的贫困农家，幼时就读于澳门的一所教会学校，学习英语和近代自然科学课程又兼习《四书》《五经》。后来容闳在校长的资助下进入美国马萨诸塞州一所学校就读，阅读了大量西方著作，尤爱读《爱丁堡评论》（苏格兰启蒙派的重要阵地）。1854 年他以优异成绩毕业于耶鲁大学，决心用自己的新知识改造旧中国。

容闳回国后，把改造中国的希望寄托在太平天国身上。1860 年他拜会洪仁玕时提出创办新式学校，创立现代银行、金融制度等建国之策。但经过一番考察，容闳对太平天国相当不满和失望。1863 年，容闳受曾国藩“三请”，帮助建立制造来复枪的工厂。容闳认为，中国最需要的不是制造枪炮的工厂，而是制造“机器母厂”。曾国藩采取这一建议并付诸实施。1854 年至 1872 年，历经 18 年的不懈努力，容闳最终促成首批 30 名官派幼童留学生赴美。留美幼童受到西方文明影响后发生巨大变化，被顽固派诬告为“毫无管束，遂致抛荒本业，纷纷入教”。1881 年，首批留学生被强令回国。人数不多的留美幼童在中国近代困难重重的转型中起了非同小可的作用。

1898 年，容闳参加了保国会成立大会。后来，容闳认识到难以在体制内改革清政府，于是走向了暴力革命，积极筹款支持革命派。孙中山就任临时大总统后给他写亲笔信，邀请他担任要职。

阅读材料，提取信息，结合所学，阐释容闳的个人经历所折射出的时代特征。要求：信息提取充分，史论结合，逻辑清晰。

【答案】示例：容闳的个人经历折射出中国近代的艰难转型。容闳就读于教会学校并留学美国的求学经历折射出中国人逐步接受西方的文化和思想，中国逐渐由封闭走向开放；容闳建议曾国藩建立制造机器的工厂，被采纳并付诸实施，折射出中国工业近代化的艰难起步；容闳建议并推动清政府派遣留学生，但遭到顽固派的阻挠与破坏，折射出中西方文化交流的不断扩大以及中国教育近代化举步维艰；容闳为实现救国强国的政治理想，先后向清政府提出种种方案，并考察、参与或支持太平天国运动、维新变法运动及辛亥革命等政治运动，折射出中国近代先进知识分子为探索救国救民的道路而孜孜以求的爱国情怀和中国由专制走向民主的艰难历程。

【解析】

【详解】根据“经过一番考察，容闳对太平天国相当不满和失望”、“历经 18 年的不懈努力，容闳最终促成首批 30 名官派幼童留学生赴美。留美幼童受到西方文明影响后发生巨大变化，被顽固派诬告为‘毫无管束，遂致抛荒本业，纷纷入教’”、“容闳认识到难以在体制内改革清政府，于是走向了暴力革命，积极筹款支持革命派”等信息可知，中国近代的转型是艰难的，不是一帆风顺的。结合太平天国运动、洋务运动的内容和影响以及维新变法运动、辛亥革命等进行阐述即可。从中可知折射出中国近代先进知识分子为探索救国救民的道路而孜孜以求的爱国情怀和中国由专制走向民主的艰难历程。

19. 历史地图

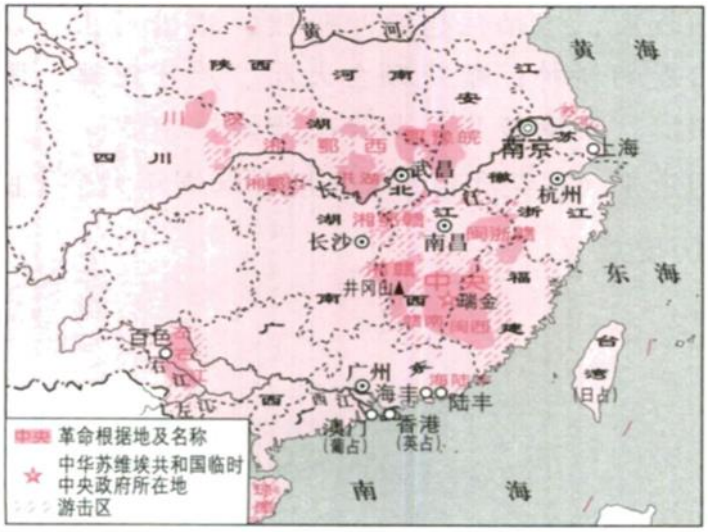

图1



图2



图3



图4

（1）观察以上四幅地图，提取地图信息，指出与其相对应的历史时期。

（2）结合四幅地图和所学，分析中国共产党是如何领导中国革命走向胜利的。

【答案】（1）图 1 的地图信息：根据地主要在南方省界交接处，由此判断是国共对峙时期或工农武装割据时期。图 2 的地图信息：从中央革命根据地出发，经过湖南、贵州、四川、甘肃到达陕北，由此判断是红军长征时期。图 3 的地图信息：根据地主要分布在北方各省，由此判断是抗日战争时期。图 4 的地图信息：解放军三路进攻，渡过长江，歼灭国民党军队，由此判断是解放战争时期。

（2）分析：1927 年，国民革命失败后，中国共产党领导起义受挫，毛泽东、朱德率队到达井冈山，创建第一个农村革命根据地，开始了农村包围城市，武装夺取政权的道路。到 1930 年，全国已建立起十几块农村革命根据地。根据地的建立威胁到国民党的反动统治，蒋介石派兵五次“围剿”。由于敌众我寡，1934 年中央红军开始战略转移，进行长征，经过了爬雪山、过草地等多次艰难险阻，最后到达陕北，取得了长征的胜利，打开了中国革命的新局面。1937 年卢沟桥事变标志着全民族抗战的开始，中国共产党奉行全面抗战路线，在敌后建立抗日根据地，打击日本侵略者，成为抗日战争的中流砥柱。抗日战争胜利后，国民党政府坚持内战独裁的方针，发动全面内战。中国共产党领导中国人民坚决反击，进行三大战役取得了胜利。1949 年 4 月，为了统一全国，中国共产党发动渡江战役，攻占南京，推翻了国民党政权的统治，取得了新民主主义革命的胜利。

【解析】

【详解】（1）图 1 的地图信息：根据图一信息可知，这一时期根据地主要在南方省界交接处，由此判断是国共对峙时期或工农武装割据时期。图 2 的地图信息：根据图二信息可知，从中央革命根据地出发，经过湖南、贵州、四川、甘肃到达陕北，由此判断是红军长征时期。图 3 的地图信息：根据图三信息可知，根据地主要分布在北方各省，由此判断是抗日战争时期。图 4 的地图信息：根据图四信息可知，解放军三路进攻，渡过长江，歼灭国民党军队，由此判断是解放战争时期。

（2）分析：结合四幅地图可知，四幅图列举了国共对峙时期、红军长征时期、抗日战争时期、解放战争时期，结合所学知识可知，1927 年，国民革命失败后，中国共产党领导起义受挫，毛泽东、朱德率队到达井冈山，创建第一

个农村革命根据地，开始了农村包围城市，武装夺取政权的道路。到 1930 年，全国已建立起十几块农村革命根据地。根据地的建立威胁到国民党的反动统治，蒋介石派兵五次“围剿”。由于敌众我寡，1934 年中央红军开始战略转移，进行长征，经过了爬雪山、过草地等多次艰难险阻，最后到达陕北，取得了长征的胜利，打开了中国革命的新局面。1937 年卢沟桥事变标志着全民族抗战的开始，中国共产党奉行全面抗战路线，在敌后建立抗日根据地，打击日本侵略者，成为抗日战争的中流砥柱。抗日战争胜利后，国民党政府坚持内战独裁的方针，发动全面内战。中国共产党领导中国人民坚决反击，进行三大战役取得了胜利。1949 年 4 月，为了统一全国，中国共产党发动渡江战役，攻占南京，推翻了国民党政权的统治，取得了新民主主义革命的胜利。

20. 时空观念

材料一 1494 年 1 月哥伦布写给西班牙国王夫妇的报告写道：“这里需要各种物资，粮食应该（继续）运到这里,直到我们在这里播种和栽种的作物收获为止。我们要的是小麦、大麦和葡萄藤。……应该运来一些活羊，最好是羊羔，母的比公的更好；还要公母都有的牛犊。……这里多么需要有角的牛羊和驮载的役畜……如果在一千个移民中有一百骑兵，那将很不错，而且是甚为有益的。”

材料二 马作为畜力的使用，改变了美洲以人力为主的劳动模式。羊随哥伦布于 1493 年到达。16 世纪初，牛也被引进美洲的峡谷地带和中美洲。美洲有大片肥沃的草场，特别适合放牧牛群、羊群。膘肥奶足的牛羊为人们提供了肉食和奶类，渐渐取代猪肉，促进了人口的营养和健康。牛仔们放牧牛群，催生了美洲的特色文化。除这些大动物之外，老鼠也藏在航船中漂洋过海到了美洲，这对美洲的生态链产生了巨大的影响。

（1）阅读材料一、二，谈谈你对哥伦布大交换影响的认识。

材料三

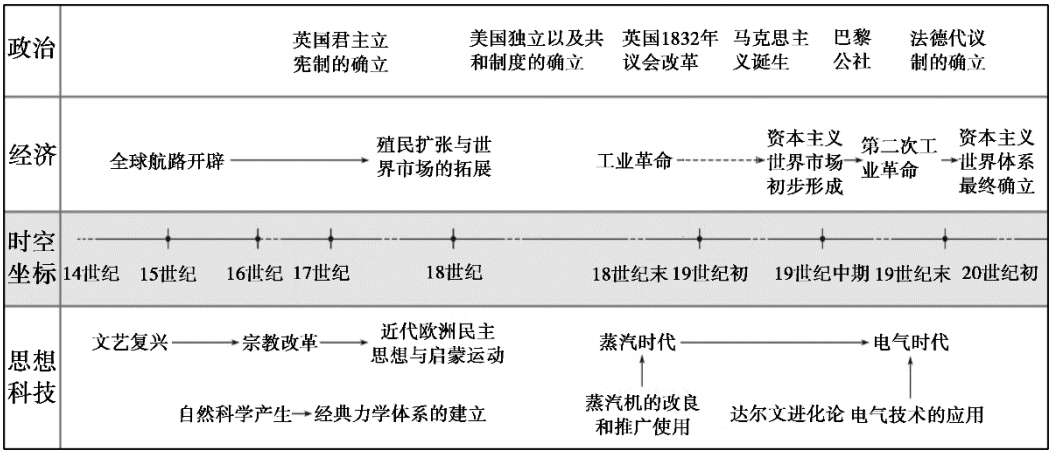

（2）依据材料三，并结合世界近现代史的具体史实，自拟论题进行论述。（要求：论题明确，史论结合，逻辑清晰。）

【答案】（1）认识：改变了美洲以人力为主的劳作方式；丰富了美洲的饮食结构；催生了美洲的特色文化；有利于殖民活动的开展，为殖民者创造了财富；给美洲印第安人带去了灾难；改变了美洲的生态链。

（2）示例：论题：资本主义市场的形成

论述：14-15 世纪，随着西欧商品经济的迅速发展，欧洲人对金银财富的需求和开拓新市场的愿望日益迫切，欧洲航海家迪亚士、哥伦布等人开辟了新航路。新航路的开辟导致了商业革命、价格革命、贸易中心转移，资本主义世界市场开始出现雏形。随着欧洲的殖民扩张，商品世界性流动，资本主义世界市场迅速拓展。18 世纪，工业革命从英国开始，迅速扩展，资本主义经济飞速发展，资本主义世界市场初步形成。19 世纪 70 年代，第二次工业革命开始，随着电力广泛应用、内燃机的创制和应用以及新交通工具的发明，世界各地联系更加紧密。19 世纪末至 20 世纪初，主要资本主义国家大肆扩张，瓜分殖民地，资本主义世界市场最终形成。

综上所述，资本主义世界市场是伴随资本主义的发展而来，这一市场是不平等的；资本主义列强对殖民地半殖民地大肆掠夺，造成了殖民地的落后；客观上也极大地冲击了殖民地半殖民地落后的社会经济体制，有利于资本主义的发展和社会的进步；进一步加强了世界各国各地区间的相互联系，推动世界向全球化发展。

【解析】

【详解】（1）认识：根据材料“马作为畜力的使用，改变了美洲以人力为主的劳动模式”可知，改变了美洲以人力为主的劳作方式；根据材料“美洲有大片肥沃的草场，特别适合放牧牛群、羊群。膘肥奶足的牛羊为人们提供了肉食和奶类，渐渐取代猪肉，促进了人口的营养和健康”可知，丰富了美洲的饮食结构；根据材料“牛仔们放牧牛群，催生了美洲的特色文化”可知，催生了美洲的特色文化；根据材料“这里多么需要有角的牛羊和驮载的役畜……如果在一千个移民中有一百骑兵，那将很不错，而且是甚为有益的”可知，有利于殖民活动的开展，为殖民者创造了财富；给美洲印第安人带去了灾难；根据材料“除这些大动物之外，老鼠也藏在航船中漂洋过海到了美洲，这对美洲的生态链产生了巨大的影响”可知，改变了美洲的生态链。

（2）根据题意要求，结合世界近现代史的具体史实，自拟论题进行论述。根据材料“全球航路开辟”“殖民扩张与世界市场的扩展”“工业革命”“资本主义世界市场初步形成”“第二次工业革命”“资本主义世界体系最终确立”，可拟定论题：资本主义市场的形成，结合世界近现代史的具体史实，从新航路开辟、早期殖民扩张、第一次工业革命、第二次工业革命对资本主义世界市场形成和发展的影响等角度进行论述。