2022 北京石景山高三（上）期末

历　　史

第一部分

本部分共 15 题，每题 3 分，共 45 分。

1. 考古学证明，大约相当于五帝后期的龙山文化时代邦国林立，《尚书》《左传》等文献也记载了这一历史现象。据此可知

①传世历史文献中的记载最为真实②考古学成果佐证了历史文献记载

③古史传说中隐含一定的历史信息④龙山文化是早期中华文明的代表

A. ①②③　　B. ②③④　　C. ①③④　　D. ①②④

2. 战国时期的"士"几乎与出身无关，可能来自贵族，也可能出身微贱，但他们都必须具有一定的知识、智慧或才能。出现这一变化的主要原因是

A. 社会发展的需要　　B. 个人发展的需要　　C. 人才流动的需要　　D. 百家争鸣的需要

3. 下表是东汉史学家班固《汉书·古今人表》中的部分人物及相应等级，班固评定人物等级的主要依据是

上上（圣人）	上中（仁人）	上下（智人）	中上	中中	中下	下上	下中	下下（愚人）
尧、舜 周文王 孔子	孟子 屈原 荀子	子贡 范蠡 廉颇	老子 商鞅 韩非	齐桓公 吕不韦 荆轲	秦始皇 李斯 陈胜	宋襄公	夏桀	商纣

A. 伦理道德和品行　　B. 思想主张和成就

C. 爱国情怀和壮举　　D. 聪明才智和影响

4. 根据下面知识卡片提供的信息，判断与之属于同一时代的科技成果是

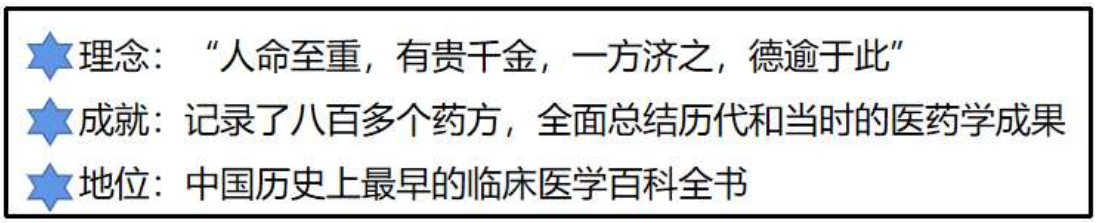

A.《九章算术》　　B.《齐民要术》　　C.《唐本草》　　D.《授时历》

5. 明朝徐光启与利玛窦合作翻译了古希腊数学家欧几里得《几何原本》的部分内容，使用了几何、点、线、面、平行线、直锐钝角等汉语数学概念，并评价此书"窃意百年之后必人人习之，即又以为习之晚也！"对此认识错误的是

A. 徐光启对《几何原本》表示了高度的推崇　　B. 中国古代抽象的几何学相对来说十分薄弱

C. 徐光启等人的译著当时并未产生巨大影响　　D. 徐光启初步提出向西方学习以自强的主张

6. 清末爱国人士黄遵宪评价某条约"敲骨吸髓，输此巨款，设机造货，夺我生产"。此条约是指

A.《南京条约》　　B.《北京条约》　　C.《马关条约》　　D.《辛丑条约》

7. 小说《子夜》描写20世纪30年代吴老太爷从乡下来到上海，坐进汽车里，像一具刚从棺材里爬出来　僵尸。南京路上，到处是光怪陆离的灯光和高耸的摩天大楼。最让吴老太爷大受刺激的，是一位身穿高开叉旗袍的时髦少妇……这情形，不禁让吴老太爷全身发抖。终于，吴老太爷大叫一声，昏死过去。吴老太爷的反应说明了

A. 近代上海社会风俗全盘西化　　B. 近代中国对女性束缚已解除

C. 国人大多坚持中西合璧观念　　D. 思想解放是一个渐进的过程

8. 2021年是中国共产党成立一百周年。一百年来，中国共产党在长期奋斗中构建起中国共产党人的精神谱系。下列伟大精神的形成时间按先后顺序排列正确的是

①铁人精神②延安精神③苏区精神④抗美援朝精神⑤西柏坡精神

A. ②③⑤④①　　B. ③②⑤④①　　C. ③⑤②①④　　D. ③②⑤①④

9. 从1952年和1956年我国国民经济公、私成分的比较表中，可以看出当时中国社会经济结构发生了很大变化。导致这一变化的主要原因是

所有制性质	经济成分	1952年	1956年
公有制经济	国营经济	19.1%	32.2%
	合作社经济	1.5%	53.4%
	公私合营经济	0.7%	7.3%
私有经济	资本主义经济	6.9%	0%
	个体经济	71.8%	7.1%

A. 第一个五年计划的提出　　B. 农村土地改革运动的开展

C. 国民经济得到全面恢复　　D. 社会主义三大改造的完成

10. 下图是新中国成立以来与各国建立外交关系情况简表（累计）。20世纪70年代迎来了与世界各国建交的又一次高潮，其原因有

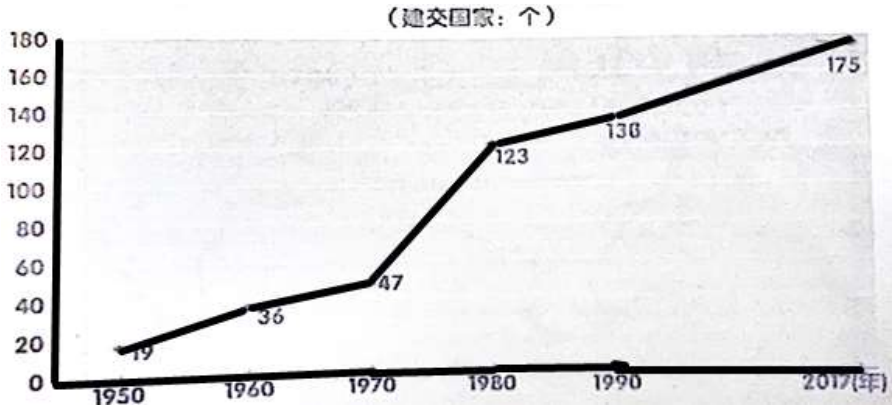

①新中国恢复在联合国一切合法权利②中美结束敌对状态开始关系正常化

③中国改革开放使综合国力大大提高④中国加入世贸组织被国际社会认可

A. ①②　　B. ②④　　C. ①③　　D. ③④

11. 下列图片中　内容与世界某一古老文明有关。该文明是


刻有楔形文字的泥板



现代出版的《吉尔伽美什》


刻有《汉莫拉比法典》的石碑


乌尔王陵竖琴琴头

A. 两河流域文明　　B. 古埃及文明　　C. 古罗马文明　　D. 古希腊文明

12. 在世界历史上，5—15 世纪一般被称为"中古时期"。这一时期西欧封建社会的基本特征包括

①封君封臣制②庄园与农奴制③教会地位显赫④王权至高无上

A. ①②③　　B. ②③④　　C. ①③④　　D. ①②③④

13. 16 世纪中后期，西班牙开通了在菲律宾马尼拉和墨西哥阿卡普尔科之间的大帆船贸易（见下图）。由于该贸易的货物主要以中国的生丝和丝绸为主，因此墨西哥人直接把马尼拉大帆船叫做"中国船"。马尼拉大帆船贸易

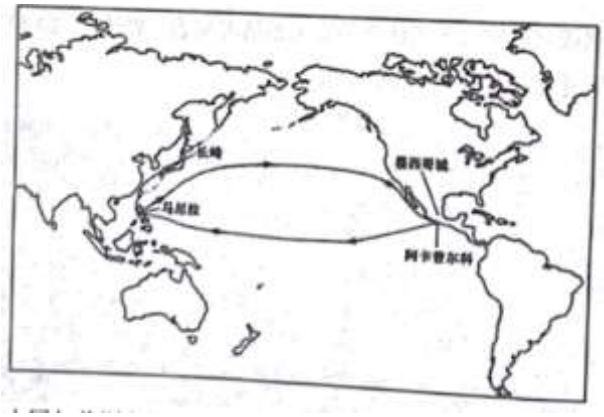

A. 推动中国与美洲之间的自由贸易往来　　B. 是早期全球贸易体系的重要组成部分

C. 致使西班牙完全垄断了对中国的贸易　　D. 促使世界贸易中心从欧洲转移到亚洲

14. 下图为英国革命和法国革命中　阶级关系示意图（摘自钱乘旦《西方那一块土》）。据此示意图可以推论出

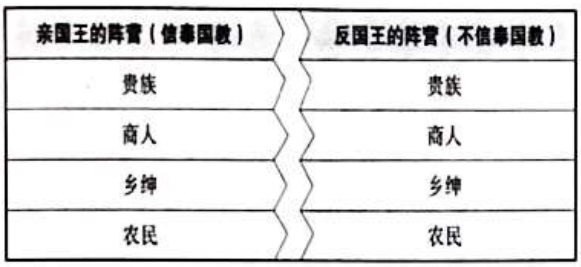

亲国王的阵营（信奉国教）	反国王的阵营（不信奉国教）
贵族	贵族
商人	商人
乡绅	乡绅
农民	农民

英国革命中的阶级关系



法国革命中的阶级关系

①英国革命深受宗教因素影响②英国革命的双方阵营利益一致

③法国革命的阶级对抗很激烈④法国革命比英国革命更有意义

A. ①②　　B. ②④　　C. ①③　　D. ③④

15. 与印度非暴力不合作运动、埃及的华夫脱运动、墨西哥的卡德纳斯改革等亚非拉民族民主运动的出现相关的是

①一战削弱了帝国主义势力②世界殖民体系崩溃

③十月革命胜利的极大鼓舞④不结盟运动的兴起

A. ①②　　B. ②③　　C. ①③　　D. ②④

第二部分

本部分共 5 题，共 55 分。

16. 历史地图包含了政治、经济、文化等多种信息。





（1）比较上面两幅示意图，指出唐朝和宋朝两个时期国内外贸易路线图　主要区别。

（2）结合所学知识说明造成这种区别的原因。

17. 阅读材料，回答问题。

材料 严复（1854～1921），福建侯官人。严复先后毕业于福州船政学堂和英国皇家海军学院，1879 年回国后任福州船政学堂教习。从 1880 年到 1900 年，严复一直在李鸿章创办的北洋水师学堂任教，培养了中国近代第一批海军人才，并给北洋水师学堂带来了西方现代海洋思想、现代海军管理方式和教学理论。他逐渐形成自己的海权思想，认为海权具有"国振驭远之良策，民收航海之利资"的政治与经济的双重目的，关系到国家的贫富强弱和国际地位高下。离开北洋水师学堂后，严复先后出任安徽高等学堂监督、复旦公学和北京大学等校校长，以教育救国为任。

严复系统地将西方的社会学、政治学、政治经济学、哲学和自然科学介绍到中国，他的译著是中国 20 世纪最重要启蒙译著。严复的翻译考究、严谨，他提出的"信、达、雅"的翻译标准对后世的翻译工作产生深远影响。

《天演论》是严复最有名的译作之一，以"物竞天择""适者生存"的生物进化理论阐发其救亡图存的观点，提倡鼓民力、开民智、新民德、自强自立。他的译作在当时的中国社会产生了重要的启蒙影响。严复后来的中西方思想文化比较观走向成熟，开始担忧中国丧失本民族的"国种特性"，趋向于复归传统文化。

——摘编自《严复：开启民智的一代宗师》

（1）根据材料并结合所学知识，概括严复的主要贡献。

（2）结合材料和所学，概述严复　海权思想，并分析其产生背景。

18. 歌词见证历史

材料

歌名	歌词节选
《国民革命歌》	打倒列强！打倒列强！除军阀！除军阀！努力国民革命！努力国民革命！齐奋斗！齐奋斗！打倒列强！打倒列强！除军阀！除军阀！国民革命成功！国民革命成功！齐欢唱！齐欢唱！
《大刀进行曲》	大刀向鬼子们的头上砍去，全国武装的弟兄们，抗战的一天来到了，抗战的一天来到了！前面有东北的义勇军，后面有全国的老百姓，咱们中国军队勇敢前进！看准那敌人，把他消灭！把他消灭！冲啊！大刀向鬼子们的头上砍去！杀！
《春天的故事》	1979 年，那是一个春天，有一位老人在中国的南海边画了一个圆……1992 年，又是一个春天，有一位老人在中国的南海边写下诗篇。……啊中国 啊中国！你展开了一幅百年的新画卷，你展开了一幅百年的新画卷，捧出万紫千红的春天。

上表是中国在革命和建设的不同时期传唱歌曲的歌词节选。请根据歌词内容并结合所学知识，判断每首歌曲创作的时期，并概括说明中国共产党在这一时期的主要贡献。（要求：点明时期，史实准确，论证充分，表述清晰。）

19. 法律是国家治理的重要工具

材料一 唐初先后颁布实施了《武德律》《贞观律》《永徽律》。由于律文言简意赅，再加上某些地方官刻意错误解读律文，导致法律在实施过程中存在误解、不统一现象。唐高宗永徽元年命长孙无忌对《永徽律》律文进行阐释、说明，于 653 年编成《唐律疏议》。这部法律成为唐以后宋元明清各朝立法的基本参照，并对东亚各国立法也产生了重要影响。

——摘编自《中国法制史》

材料二 在查士丁尼法典之前，罗马帝国编纂过三部法典。公元 528 年查士丁尼任命著名法学家特里波尼安等人，根据这些法典以及后来一些皇帝的谕令，删繁就简，剔除已经过时或矛盾的地方，于次年编辑成《查士丁尼法典》，它主要包括从哈德良皇帝至查士丁尼统治时期历代皇帝的谕令集。《查士丁尼法典》与另外几部法律文献合称为《罗马民法大全》，成为近代西方法律制度的渊源。

—-摘编自陈勇《查士丁尼法典评析》

材料三 英国是近代宪政的策源地，其宪法被西方学者誉为"近代宪法之母"，不过英国至今并无一部系统、完整的宪法，是不成文宪法的典型，其宪法的渊源包括三部分：成文的宪法性法律、不成文的宪法性惯例以及涉及宪法制度的判例。英国宪法是历史长期发展的产物，无论其成文的宪法性法律，还是不成文的惯例和判决，都是经过相当长时期的积累，逐渐定型、完善的。新的宪法原则和精神的发展并不意味着彻底否定旧的宪法渊源，而是对旧的渊源的继承和充实，使其能够顺应社会经济发展的需求。

——摘编自《外国法制史》

（1）根据材料一、二，概括《唐律疏议》和《查士丁尼法典》编撰的异同，并结合所学知识分别说明其历史价值。

（2）根据材料三，概括英国宪法的特点，并结合所学史实对文中画线部分的观点进行举例说明。

20. 阅读材料，回答问题。

材料一 1945 年在日本战败投降的前夕，美国提出以北纬 38 度线为界，即三八线，美国和苏联分别占领朝鲜半岛南部和北部的提议，并得到了苏联的认可，由此演变为后来朝鲜半岛分裂南北阵营的导火线。

——摘编自宋晓芹《苏联与朝鲜战争》

材料二 1950 年 6 月 25 日，朝鲜战争正式爆发。27 日，美国总统杜鲁门宣布美军直接参战，并派遣第七舰队封锁台湾海峡。7 月 7 日，联合国安理会在苏联代表缺席情况下通过决议，决定成立在美国统帅下的统一司令部，指挥以美军为主、由各会员国派遣军队参加的"联合国军"，扩大对朝鲜的武装干涉。……美军先头部队逼进鸭绿江边，并对我国东北地区狂轰滥炸。中国人民面临美帝国主义者的战争威胁，掀起抗美援朝保家卫国运动。

——摘编自中国社会科学出版社《国际政治大辞典》

材料三 （朝鲜战争）一方面，它加深了这个国家的分裂，另一方面，它对战后亚洲的国际局势产生了决定性的影响。

——《剑桥中华人民共和国史（1949～1965）》

（1）根据材料一、二并结合所学知识，简述朝鲜战争爆发并扩大为一场国际性的局部战争的原因。

（2）结合材料三和所学知识，简要分析朝鲜战争给朝鲜半岛和亚洲局势带来的影响。

2022 北京石景山高三（上）期末历史

参考答案

第一部分

本部分共 15 题，每题 3 分，共 45 分。

1. 考古学证明，大约相当于五帝后期的龙山文化时代邦国林立，《尚书》《左传》等文献也记载了这一历史现象。据此可知

①传世历史文献中的记载最为真实②考古学成果佐证了历史文献记载

③古史传说中隐含一定　历史信息④龙山文化是早期中华文明的代表

A. ①②③　　B. ②③④　　C. ①③④　　D. ①②④

【答案】B

【详解】根据所学知识可知，考古学成果佐证了历史文献记载，而且古史传说中隐含一定的历史信息，而龙山文化是早期中华文明代表，B 项正确；传世历史文献是二手史料，可信度不及考古资料，排除 A、C、D 项。故选 B 项。

2. 战国时期的"士"几乎与出身无关，可能来自贵族，也可能出身微贱，但他们都必须具有一定的知识、智慧或才能。出现这一变化的主要原因是

A. 社会发展的需要　　B. 个人发展的需要　　C. 人才流动的需要　　D. 百家争鸣的需要

【答案】A

【详解】根据材料可知，战国时期的“士”都具有一定的知识、智慧或才能；结合所学知识可知，春秋战国时期处于社会大变革时期，“士”人游学各国，思想活跃，具备一定才能才会被各国国君赏识，A 项正确；“士”具有一定的知识、智慧或才能，与个人发展、人才流动无关，排除 BC 项；“士”阶层的崛起为百家争鸣提供条件，排除 D 项。故选 A 项。

3. 下表是东汉史学家班固《汉书·古今人表》中的部分人物及相应等级，班固评定人物等级的主要依据是

上上（圣人）	上中（仁人）	上下（智人）	中上	中中	中下	下上	下中	下下（愚人）
尧、舜 周文王 孔子	孟子 屈原 荀子	子贡 范蠡 廉颇	老子 商鞅 韩非	齐桓公 吕不韦 荆轲	秦始皇 李斯 陈胜	宋襄公	夏桀	商纣

A. 伦理道德和品行　　B. 思想主张和成就

C. 爱国情怀和壮举　　D. 聪明才智和影响

【答案】A

【详解】从材料信息可知，尧舜、周文王、屈原、孔孟等人被评为上等人，说明评比　标准是伦理道德和品行，A 项正确；思想主张、爱国情怀及聪明才智并非是评比依据，排除 BCD 项。故选 A 项。

4. 根据下面知识卡片提供的信息，判断与之属于同一时代的科技成果是

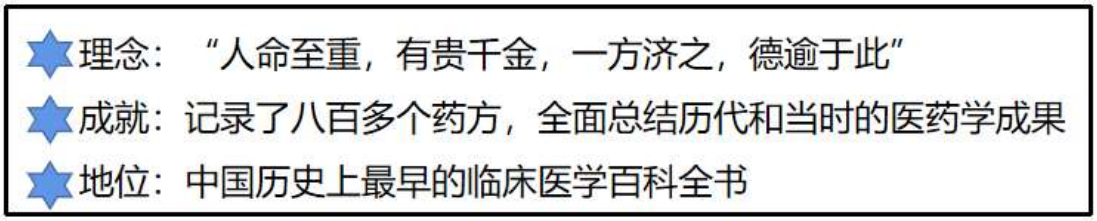

A.《九章算术》　　B.《齐民要术》　　C.《唐本草》　　D.《授时历》

【答案】C

【详解】根据“人命至重，有贵千金”“记录了八百多个药方，全面总结历代和当时的医药学成果”、“中国历史上最早的临床医学百科全书”等信息可知，知识卡片描述的是唐代孙思邈编著的《千金方》，所以与它同属于一个时代的有《唐本草》，C 项正确；《九章算术》成书于西汉时期，排除 A 项；《齐民要术》是北朝时期的一部农书，排除 B 项；《授时历》是元代编著的，排除 D 项。故选 C 项。

5. 明朝徐光启与利玛窦合作翻译了古希腊数学家欧几里得《几何原本》的部分内容，使用了几何、点、线、面、平行线、直锐钝角等汉语数学概念，并评价此书"窃意百年之后必人人习之，即又以为习之晚也！"对此认识错误的是

A. 徐光启对《几何原本》表示了高度　推崇　　B. 中国古代抽象的几何学相对来说十分薄弱

C. 徐光启等人的译著当时并未产生巨大影响　　D. 徐光启初步提出向西方学习以自强的主张

【答案】D

【详解】结合所学知识可知，初步提出向西方学习以自强的主张是在鸦片战争后，徐光启并未提出，D 项符合题意；从材料“窃意百年之后必人人习之，即又以为习之晚也”可知徐光启对《几何原本》表示了高度的推崇，中国古代抽象的几何学相对来说十分薄弱，排除 AB 项；徐光启等人的译著当时并未产生巨大影响，这是由当时的社会环境影响导致的，排除 C 项。故选 D 项。

6. 清末爱国人士黄遵宪评价某条约"敲骨吸髓，输此巨款，设机造货，夺我生产"。此条约是指

A.《南京条约》　　B.《北京条约》　　C.《马关条约》　　D.《辛丑条约》

【答案】C

【详解】根据材料中“敲骨吸髓，输此巨款，设机造货，夺我生产”可知，该条约是《马关条约》，允许日本在通商口岸开设工厂，列强对中国的经济侵略由商品输出为主变为资本输出为主，C 项正确；《南京条约》签订后，中国沦为半殖民地半封建社会，排除 A 项；《北京条约》签订后，中国进一步沦为半殖民地半封建社会，排除 B 项；《辛丑条约》签订后，中国完全沦为半殖民地半封建社会，排除 D 项。故选 C 项。

7. 小说《子夜》描写 20 世纪 30 年代吴老太爷从乡下来到上海，坐进汽车里，像一具刚从棺材里爬出来的僵尸。南京路上，到处是光怪陆离的灯光和高耸的摩天大楼。最让吴老太爷大受刺激的，是一位身穿高开叉旗袍的时髦少妇……这情形，不禁让吴老太爷全身发抖。终于，吴老太爷大叫一声，昏死过去。吴老太爷的反应说明了

A. 近代上海社会风俗全盘西化　　B. 近代中国对女性束缚已解除

C. 国人大多坚持中西合璧观念　　D. 思想解放是一个渐进的过程

【答案】D

【详解】吴老太爷的反映说明他对当时社会的变化无法接受，由此说明思想解放是一个渐进的过程，D 项正确；“全盘西化”的说法过于夸张，排除 A 项；近代中国对女性的束缚并没有解除，排除 B 项；仅根据吴老太爷的反映不能说明国人大多坚持中西合璧观念，排除 C 项。故选 D 项。

8. 2021 年是中国共产党成立一百周年。一百年来，中国共产党在长期奋斗中构建起中国共产党人的精神谱系。下列伟大精神的形成时间按先后顺序排列正确的是

①铁人精神②延安精神③苏区精神④抗美援朝精神⑤西柏坡精神

A. ②③⑤④①　　B. ③②⑤④①　　C. ③⑤②①④　　D. ③②⑤①④

【答案】B

【详解】结合所学知识可知，铁人精神形成于二十世纪五六十年代的全面建设社会主义时期；延安精神是在延安时期（1935-1949 年）形成的优良传统和作风；苏区精神是指土地革命战争中（1927-1937 年）由赣南、闽西革命根据地的基础上发展起来的中央革命根据地(中央苏区)人民和革命战士，在党领导创建、发展和保卫苏区革命实践中培育形成的伟大革命精神；抗美援朝精神（1950-1953 年）是人民军队宗旨、本色和作风的体现，是中华民族不畏强暴、敢于斗争的历史传统的弘扬，是中国人民极其宝贵的精神财富。西柏坡精神是红色革命精神之一，由毛泽东在西柏坡召开的中国共产党七届二中全会（1949 年）上提出，是指以毛泽东为首的党中央在驻西柏坡期间，所体现和创立的一系列革命精神。综合可知，这些伟大精神的形成时间按先后顺序排列正确的是③②⑤④①，B 项正确，排除 ACD 项。故选 B 项。

9. 从 1952 年和 1956 年我国国民经济公、私成分的比较表中，可以看出当时中国社会经济结构发生了很大变化。导致这一变化的主要原因是

所有制性质	经济成分	1952 年	1956 年
公有制经济	国营经济	19.1%	32.2%
	合作社经济	1.5%	53.4%
	公私合营经济	0.7%	7.3%
私有经济	资本主义经济	6.9%	0%
	个体经济	71.8%	7.1%

A. 第一个五年计划的提出　　B. 农村土地改革运动的开展

C. 国民经济得到全面恢复　　D. 社会主义三大改造的完成

【答案】D

【详解】根据表格信息可知，从 1952 到 1956 年，我国经济成份中，公有制经济的比例不断增加，私有经济的比例不断下降，故可知社会主义三大改造的完成，实现了生产关系的变革，D 项正确；1953 年 5 月 14 日，全国开始实施第一个五年计划，且材料与五年计划无关，排除 A 项；土地改革运动开展于 1950-1952 年，排除 B 项；1952 年底国民经济得到全面恢复，但与材料整体信息不符，排除 C 项。故选 D 项。

10. 下图是新中国成立以来与各国建立外交关系情况简表（累计）。20 世纪 70 年代迎来了与世界各国建交的又一次高潮，其原因有

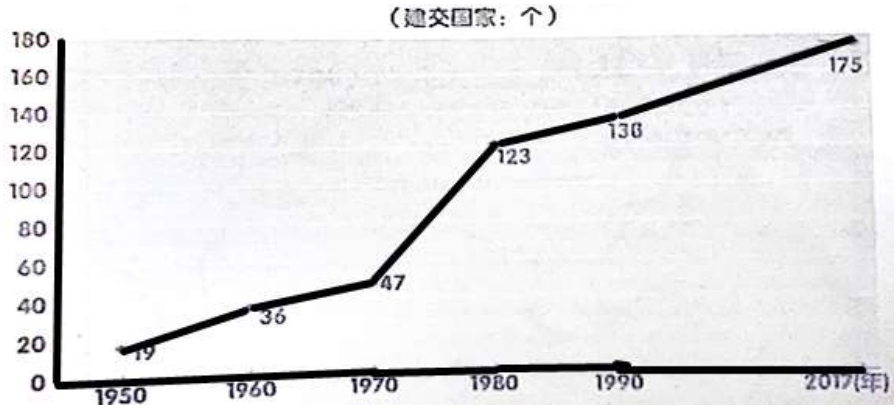

①新中国恢复在联合国一切合法权利②中美结束敌对状态开始关系正常化

③中国改革开放使综合国力大大提高④中国加入世贸组织被国际社会认可

A. ①②　　B. ②④　　C. ①③　　D. ③④

【答案】A

【详解】结合所学内容可知，20 世纪 70 年代，中国恢复了在联合国的合法席位，中美之间关系走向正常化，这些都推动了中国与世界各国建交高潮的出现，①②符合题意，A 项正确；中国的改革开放是在建交高潮出现之后，③不符合题意；中国加入世界贸易组织是在 2001 年，④不符合题意。排除 BCD 项。故选 A 项。

11. 下列图片中的内容与世界某一古老文明有关。该文明是



刻有楔形文字的泥板　　现代出版的《吉尔伽美什》　刻有《汉莫拉比法典》的石碑　乌尔王陵竖琴琴头

A. 两河流域文明　　B. 古埃及文明　　C. 古罗马文明　　D. 古希腊文明

【答案】A

【详解】结合所学内容可知，楔形文字、《吉尔伽美什》、《汉谟拉比法典》等都是古代两河流域的文明成果，A 项正确；图示内容反映的是古代两河流域的文明成果，与古埃及、古罗马和古希腊无关，排除 BCD 项。故选 A 项。

12. 在世界历史上，5—15 世纪一般被称为"中古时期"。这一时期西欧封建社会的基本特征包括

①封君封臣制②庄园与农奴制③教会地位显赫④王权至高无上

A. ①②③　　B. ②③④　　C. ①③④　　D. ①②③④

【答案】A

【详解】根据材料和所学知识可知，以土地分封为基础形成了金字塔式的封君封臣制。以封建主为核心的庄园经济占主导地位，土地是当时最重要的财富；封建主将土地以份地的方式分给农民，把他们世代束缚在土地上。这些农民为获得份地的使用权，受到封建主的各种剥削和奴役，成为依附于封建领主的农奴。基督教会在西欧封建社会占

有统治地位。教会占有大量的地产，是欧洲最大的封建土地所有者。教会还长期垄断西欧封建社会的文化与教育，对人民进行精神统治，是西欧封建社会的精神支柱。故①②③正确，A 项正确；在西欧封建社会中，教皇的权力凌驾于皇权至上，④错误，排除 BCD 项。故选 A 项。

13. 16 世纪中后期，西班牙开通了在菲律宾马尼拉和墨西哥阿卡普尔科之间的大帆船贸易（见下图）。由于该贸易的货物主要以中国的生丝和丝绸为主，因此墨西哥人直接把马尼拉大帆船叫做"中国船"。马尼拉大帆船贸易

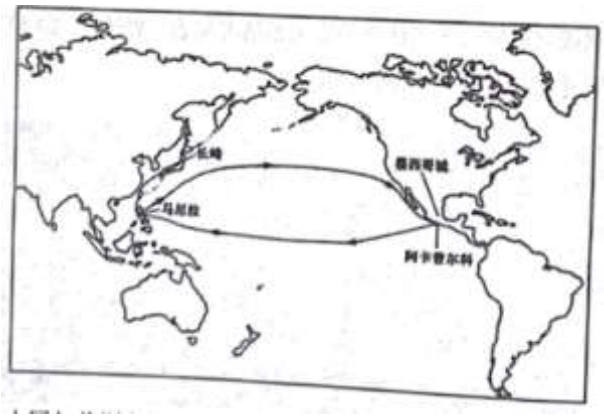

A. 推动中国与美洲之间的自由贸易往来　　B. 是早期全球贸易体系的重要组成部分

C. 致使西班牙完全垄断了对中国的贸易　　D. 促使世界贸易中心从欧洲转移到亚洲

【答案】B

【详解】根据材料可知，马尼拉大帆船贸易属于早期全球贸易体系的重要组成部分，有利于亚洲和美洲之间的经济往来，B 项正确；马尼拉大帆船贸易是菲律宾马尼拉和墨西哥阿卡普尔科之间的大帆船贸易，不是中国与美洲之间的自由贸易往来，排除 A 项；C 项中“完全”说法错误，排除 C 项；新航路开辟后，世界贸易中心逐渐转移到大西洋沿岸，排除 D 项。故选 B 项。

14. 下图为英国革命和法国革命中的阶级关系示意图（摘自钱乘旦《西方那一块土》）。据此示意图可以推论出

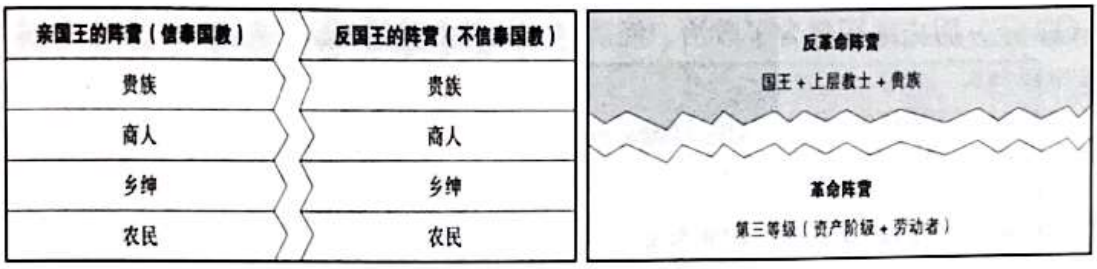

英国革命中的阶级关系　　法国革命中的阶级关系

①英国革命深受宗教因素影响②英国革命的双方阵营利益一致

③法国革命的阶级对抗很激烈④法国革命比英国革命更有意义

A. ①②　　B. ②④　　C. ①③　　D. ③④

【答案】C

【详解】根据材料中的英国资产阶级革命阵营分为信奉国教一方和不信奉国教一方可知，英国革命深受宗教因素影响，①符合题意；英国革命双方阵营利益并不一致，②错误；从材料可知，法国的第三等级深受一二等级的压迫，说明的是法国革命的阶级对抗很激烈，③符合题意；材料无法得出二者革命的影响，④错误。结合上述分析可知 C 项正确，排除 ABD 项。故选 C 项。

15. 与印度非暴力不合作运动、埃及的华夫脱运动、墨西哥的卡德纳斯改革等亚非拉民族民主运动的出现相关的是

①一战削弱了帝国主义势力②世界殖民体系崩溃

③十月革命胜利的极大鼓舞④不结盟运动的兴起

A. ①②　　B. ②③　　C. ①③　　D. ②④

【答案】C

【详解】结合所学知识可知，一战后民族解放运动兴起的原因主要有一战削弱了帝国主义势力、十月革命胜利的极大鼓舞等，①③符合题意，C 项正确；世界殖民体系崩溃于二战结束后，②错误；不结盟运动兴起于 1961 年，④错误，因此排除 ABD 项。故选 C 项。

第二部分

本部分共 5 题，共 55 分。

16. 历史地图包含了政治、经济、文化等多种信息。





（1）比较上面两幅示意图，指出唐朝和宋朝两个时期国内外贸易路线图的主要区别。

（2）结合所学知识说明造成这种区别的原因。

【答案】（1）区别：唐代海陆交通都很发达，宋代海路发达，陆路衰退。

（2）原因：唐朝国家统一政治安定；经济发展促进了商业繁荣；北方西域等民族关系融合；对外交流频繁宋朝民族政权并立，陆上丝绸之路衰落；经济重心南移；制瓷业、丝织业、茶叶等生产发达，造船航海技术发达，促进海路交通。

【详解】第（1）问，本题考察学生的读图能力和比较分析历史现象的能力。唐宋的外贸易路线图就是“丝绸之路”，从图上看，唐朝有三条陆上丝绸之路，宋朝没有陆上丝绸之路，通过比较可知，唐代海陆交通都很发达，宋代海路发达，陆路衰退。

第（2）问，“海上丝绸之路”是古代中国与外国交通贸易和文化交往的海上通道，该路主要以南海为中心，所以又称南海丝绸之路。海上丝绸之路形成于秦汉时期，发展于三国至隋朝时期，繁荣于唐宋时期，转变于明清时期，是已知的最为古老的海上航线。海上丝绸之路开辟后，在隋唐以前，它只是陆上丝绸之路的一种补充形式。但到隋唐时期，由于西域战火不断，陆上丝绸之路被战争所阻断，代之而兴的便是海上丝绸之路。唐宋时期“丝绸之路”的路线变化，应该结合唐宋时期的时代特征分析，从政治、经济、外交、科技、民族关系等方面分析。

17. 阅读材料，回答问题。

材料 严复（1854～1921），福建侯官人。严复先后毕业于福州船政学堂和英国皇家海军学院，1879 年回国后任福州船政学堂教习。从 1880 年到 1900 年，严复一直在李鸿章创办的北洋水师学堂任教，培养了中国近代第一批海军人才，并给北洋水师学堂带来了西方现代海洋思想、现代海军管理方式和教学理论。他逐渐形成自己的海权思想，认为海权具有"国振驭远之良策，民收航海之利资"的政治与经济的双重目的，关系到国家的贫富强弱和国际地位高下。离开北洋水师学堂后，严复先后出任安徽高等学堂监督、复旦公学和北京大学等校校长，以教育救国为任。

严复系统地将西方的社会学、政治学、政治经济学、哲学和自然科学介绍到中国，他的译著是中国 20 世纪最重要启蒙译著。严复的翻译考究、严谨，他提出的"信、达、雅"的翻译标准对后世的翻译工作产生深远影响。

《天演论》是严复最有名的译作之一，以"物竞天择""适者生存"的生物进化理论阐发其救亡图存的观点，提倡鼓民力、开民智、新民德、自强自立。他的译作在当时的中国社会产生了重要的启蒙影响。严复后来的中西方思想文化比较观走向成熟，开始担忧中国丧失本民族的"国种特性"，趋向于复归传统文化。

——摘编自《严复：开启民智的一代宗师》

（1）根据材料并结合所学知识，概括严复的主要贡献。

（2）结合材料和所学，概述严复的海权思想，并分析其产生背景。

【答案】（1）主要贡献：培养了中国近代第一批海军人才，投身办学，以教育教国为己任：是我国倡导翻译标准的先驱者，献身于译介和传播西方思想文化的事业：宣传维新变法，起到了思想启蒙、开启民智的作用。

（2）观点：严复认为掌握海权具有维护国家安全、促进经济交流和发展的双重目的，关系到国家的实力和国际地位高下，产生背景：西方现代海洋思想的影响：近代列强的侵略尤其日本发动甲午战争，民族危机加深：民族资本主义经济的发展。

【详解】（1）主要贡献：根据“，培养了中国近代第一批海军人才，并给北洋水师学堂带来了西方现代海洋思想、现代海军管理方式和教学理论”得出培养了中国近代第一批海军人才；根据“严复先后出任安徽高等学堂监督、复旦公学和北京大学等校校长，以教育救国为任”得出投身办学，以教育教国为己任；根据“提出的‘信、达、雅’的翻译标准对后世的翻译工作产生深远影响”得出是我国倡导翻译标准的先驱者，献身于译介和传播西方思想文化的事业；根据“阐发其救亡图存的观点，提倡鼓民力、开民智、新民德、自强自立。他的译作在当时的中国社会产生了重要的启蒙影响”得出宣传维新变法，起到了思想启蒙、开启民智的作用。

（2）观点：根据“认为海权具有‘国振驭远之良策，民收航海之利资’的政治与经济的双重目的，关系到国家的贫富强弱和国际地位高下”可知严复认为掌握海权具有维护国家安全、促进经济交流和发展的双重目的，关系到国家的实力和国际地位高下，产生背景结合所学内容可知，主要是西方现代海洋思想的影响，近代列强的侵略尤其日本发动甲午战争，民族危机加深以及民族资本主义经济的发展等。

18 歌词见证历史

材料

歌名	歌词节选
《国民革命歌》	打倒列强！打倒列强！除军阀！除军阀！努力国民革命！努力国民革命！齐奋斗！齐奋斗！打倒列强！打倒列强！除军阀！除军阀！国民革命成功！国民革命成功！齐欢唱！齐欢唱！
《大刀进行曲》	大刀向鬼子们的头上砍去，全国武装的弟兄们，抗战的一天来到了，抗战的一天来到了！前面有东北的义勇军，后面有全国的老百姓，咱们中国军队勇敢前进！看准那敌人，把他消灭！把他消灭！冲啊！大刀向鬼子们的头上砍去！杀！
《春天的故事》	1979年，那是一个春天，有一位老人在中国的南海边画了一个圆……1992年，又是一个春天，有一位老人在中国的南海边写下诗篇。……啊中国 啊中国！你展开了一幅百年的新画卷，你展开了一幅百年的新画卷，捧出万紫千红的春天。

上表是中国在革命和建设的不同时期传唱歌曲的歌词节选。请根据歌词内容并结合所学知识，判断每首歌曲创作的时期，并概括说明中国共产党在这一时期的主要贡献。（要求：点明时期，史实准确，论证充分，表述清晰。）

【答案】《国民革命歌》：国民革命时期。中国共产党与国民党合作，开展以“打倒列强，除军阀”为目标的国民革命，发起北伐战争，基本推翻了北洋军阀的反动统治。

《大刀进行曲》：抗日战争时期。中国共产党积极领导人民进行抗战，组织东北抗日联军等：在中国共产党的推动下，以国共两党合作为基础，有社会各界广泛参加的抗日民族统一战线形成，中国人民最终赢得抗日战争的伟大胜利。

《春天的故事》：改革开放时期。中国共产党在农村实行家庭联产承包责任制，在城市进行经济改革，解放和发展了生产力；逐步建立社会主义市场经济体制；创办经济特区，形成全方位、多层次、宽领域的对外开放格局，综合国力大大提升。

【详解】《国民革命歌》：根据“打倒列强除军阀”可知，所需知识可知，《国民革命歌》流行于国民革命时期。根据所学知识可知，中国共产党与国民党合作，开展以“打倒列强，除军阀”为目标的国民革命，发起北伐战争，基本推翻了北洋军阀的反动统治。

《大刀进行曲》：根据材料“大刀向鬼子们的头上砍去”可知，这首歌流行于抗日战争时期。根据所学知识可知，抗战时期，中国共产党积极领导人民进行抗战，组织东北抗日联军等：在中国共产党的推动下，以国共两党合作为基础，有社会各界广泛参加的抗日民族统一战线形成，中国人民最终赢得抗日战争的伟大胜利。

《春天的故事》：根据材料时间1979年、1992年可知，这首歌创作于改革开放时期。根据所学知识可知，这一时期，中国共产党在农村实行家庭联产承包责任制，在城市进行经济改革，解放和发展了生产力；逐步建立社会主义市场经济体制；创办经济特区，形成全方位、多层次、宽领域的对外开放格局，综合国力大大提升。

19. 法律是国家治理的重要工具

材料一 唐初先后颁布实施了《武德律》《贞观律》《永徽律》。由于律文言简意赅，再加上某些地方官刻意错误解读律文，导致法律在实施过程中存在误解、不统一现象。唐高宗永徽元年命长孙无忌对《永徽律》律文进行阐释、说明，于653年编成《唐律疏议》。这部法律成为唐以后宋元明清各朝立法的基本参照，并对东亚各国立法也产生了重要影响。

——摘编自《中国法制史》

材料二 在查士丁尼法典之前，罗马帝国编纂过三部法典。公元528年查士丁尼任命著名法学家特里波尼安等人，根据这些法典以及后来一些皇帝的谕令，删繁就简，剔除已经过时或矛盾的地方，于次年编辑成《查士丁尼法

典》，它主要包括从哈德良皇帝至查士丁尼统治时期历代皇帝的谕令集。《查士丁尼法典》与另外几部法律文献合称为《罗马民法大全》，成为近代西方法律制度的渊源。

—-摘编自陈勇《查士丁尼法典评析》

材料三 英国是近代宪政的策源地，其宪法被西方学者誉为"近代宪法之母"，不过英国至今并无一部系统、完整的宪法，是不成文宪法的典型，其宪法的渊源包括三部分：成文的宪法性法律、不成文的宪法性惯例以及涉及宪法制度的判例。英国宪法是历史长期发展的产物，无论其成文的宪法性法律，还是不成文的惯例和判决，都是经过相当长时期的积累，逐渐定型、完善的。新的宪法原则和精神的发展并不意味着彻底否定旧的宪法渊源，而是对旧的渊源的继承和充实，使其能够顺应社会经济发展的需求。

——摘编自《外国法制史》

（1）根据材料一、二，概括《唐律疏议》和《查士丁尼法典》编撰的异同，并结合所学知识分别说明其历史价值。

（2）根据材料三，概括英国宪法的特点，并结合所学史实对文中画线部分的观点进行举例说明。

【答案】（1）同：都是适应社会发展需要对法律进行修订；都是由最高统治者任命专业人员进行编纂。异：《唐律疏议》丰要是对已有法律的闸释说明：《查士丁尼法典》主要是对之前法典和历代皇帝谕令的整理。

历史价值：《唐律疏议》体现了礼法结合的特点，标志着中华法系的形成，对中国古代的法律以及周边地区的法律产生了深远影响；《查士丁尼法典》推动罗马法成为系统、完整的法律体系，成为近代西方法律的重要渊源。

（2）特点：形成早，影响大；无系统、完整的成文宪法；经历了长期的积累和完善；有极强的延续性。举例说明：从《大宪章》到《权利法案》，限制王权是一贯的精神。从确立法律至上的原则到强调议会权力，反映出随着时代的变迁，英国宪法在继承中不断发展。

【小问 1 详解】

关于概括《唐律疏议》和《查士丁尼法典》编撰的异同，进行比较即可知道相同点和不同点。关于同，根据材料“唐高宗永徽元年命长孙无忌对《永徽律》律文进行阐释、说明，于 653 年编成《唐律疏议》”“公元 528 年查士丁尼任命著名法学家特里波尼安等人，根据这些法典以及后来一些皇帝的谕令，删繁就简，剔除已经过时或矛盾的地方，于次年编辑成《查士丁尼法典》”等信息，可从适应社会发展需要对法律进行修订、由最高统治者任命专业人员进行编纂等方面回答。关于不同，根据材料“唐高宗永徽元年命长孙无忌对《永徽律》律文进行阐释、说明，于 653 年编成《唐律疏议》”“它主要包括从哈德良皇帝至查士丁尼统治时期历代皇帝的谕令集”等信息可从《唐律疏议》丰要是对已有法律的闸释说明：《查士丁尼法典》主要是对之前法典和历代皇帝谕令的整理回答不同即可。关于历史价值，根据材料和结合所学知识可知，《唐律疏议》体现了礼法结合的特点，标志着中华法系的形成，对中国古代的法律以及周边地区的法律产生了深远影响；《查士丁尼法典》推动罗马法成为系统、完整的法律体系，成为近代西方法律的重要渊源。

小问 2 详解】

关于特点，根据材料“其宪法被西方学者誉为‘近代宪法之母’”得出形成早，影响大；根据材料“不过英国至今并无一部系统、完整的宪法，是不成文宪法的典型，其宪法的渊源包括三部分：成文的宪法性法律、不成文的宪法性惯例以及涉及宪法制度的判例。”得出无系统、完整的成文宪法；根据材料“英国宪法是历史长期发展的产物，无论其成文的宪法性法律，还是不成文的惯例和判决，都是经过相当长时期的积累，逐渐定型、完善的。”得出经历了长期的积累和完善；有极强的延续性。关于举例说明：结合所学知识可知，从《大宪章》到《权利法案》，限制王权是一贯的精神。从确立法律至上的原则到强调议会权力，反映出随着时代的变迁，英国宪法在继承中不断发展。

20. 阅读材料，回答问题。

材料一 1945 年在日本战败投降的前夕，美国提出以北纬 38 度线为界，即三八线，美国和苏联分别占领朝鲜半岛南部和北部的提议，并得到了苏联的认可，由此演变为后来朝鲜半岛分裂南北阵营的导火线。

——摘编自宋晓芹《苏联与朝鲜战争》

材料二 1950 年 6 月 25 日，朝鲜战争正式爆发。27 日，美国总统杜鲁门宣布美军直接参战，并派遣第七舰队封锁台湾海峡。7 月 7 日，联合国安理会在苏联代表缺席情况下通过决议，决定成立在美国统帅下的统一司令部，指挥以美军为主、由各会员国派遣军队参加的"联合国军"，扩大对朝鲜的武装干涉。……美军先头部队逼进鸭绿江边，并对我国东北地区狂轰滥炸。中国人民面临美帝国主义者的战争威胁，掀起抗美援朝保家卫国运动。

——摘编自中国社会科学出版社《国际政治大辞典》

材料三 （朝鲜战争）一方面，它加深了这个国家的分裂，另一方面，它对战后亚洲的国际局势产生了决定性的影响。

——《剑桥中华人民共和国史（1949～1965）》

（1）根据材料一、二并结合所学知识，简述朝鲜战争爆发并扩大为一场国际性的局部战争的原因。

（2）结合材料三和所学知识，简要分析朝鲜战争给朝鲜半岛和亚洲局势带来的影响。

【答案】（1）原因：二战后美苏两大阵营对峙，两极格局逐渐形成；二战后朝鲜半岛南北两个政权的对立；美国进一步推行霸权政策，遏制共产主义，组织“联合国军”扩大对朝鲜的武装干涉，也威胁到了新中国安全；中国人民志愿军抗美援朝，保家卫国。

（2）影响：进一步加剧朝鲜半岛的分裂，加剧了亚洲局势的紧张；朝鲜战争的结束，保卫了中朝两国独立和安全，使中国赢得了相对和平的发展时期；提高了中国的国际威望。

【小问 1 详解】

原因：由材料“1945 年在日本战败投降的前夕，美国提出以北纬 38 度线为界，即三八线，美国和苏联分别占领朝鲜半岛南部和北部的提议，并得到了苏联的认可，由此演变为后来朝鲜半岛分裂南北阵营的导火线”得出，二战后美苏两大阵营对峙，两极格局逐渐形成；由所学知识可知，二战后朝鲜半岛出现南北两个政权的对立；由材料“1950 年 6 月 25 日，朝鲜战争正式爆发。27 日，美国总统杜鲁门宣布美军直接参战，并派遣第七舰队封锁台湾海峡。7 月 7 日，联合国安理会在苏联代表缺席情况下通过决议，决定成立在美国统帅下的统一司令部，指挥以美军为主、由各会员国派遣军队参加的“联合国军”，扩大对朝鲜的武装干涉……美军先头部队逼进鸭绿江边，并对我国东北地区狂轰滥炸”得出，美国进一步推行霸权政策，遏制共产主义，组织“联合国军”扩大对朝鲜的武装干涉，也威胁到了新中国安全；由材料“中国人民面临美帝国主义者的战争威胁，掀起抗美援朝保家卫国运动”得出，中国人民志愿军抗美援朝，保家卫国。

【小问 2 详解】

影响：由材料“（朝鲜战争）一方面，它加深了这个国家的分裂，另一方面，它对战后亚洲的国际局势产生了决定性的影响”可知，朝鲜战争进一步加剧了朝鲜半岛的分裂，加剧了亚洲局势的紧张；由所学知识可知，朝鲜战争的结束，保卫了中朝两国的独立和安全，使中国赢得了相对和平的发展时期，提高了新中国的国际威望。