2025 北京丰台高三二模

地　　理

2025.5

本试卷共 8 页，100 分。考试时长 90 分钟。考生务必将答案答在答题卡上，在试卷上作答无效。考试结束后，将本试卷和答题卡一并交回。

第一部分

本部分共 15 题，每题 3 分，共 45 分。在每题列出的四个选项中选出最符合题目要求的一项。

下图为我国某主题博物馆所在城市（部分）分布示意图。读图，完成下面小题。

1. 该类博物馆的主题最可能是（　　）

A. 地质　　B. 海洋

C. 汽车　　D. 运河

2. 图中（　　）

A. 城市间最远距离约 2 千米

B. 以直辖市或省会城市为主

C. 立春日杭州白昼时长最长

D. 夏至日各城市日落西南方

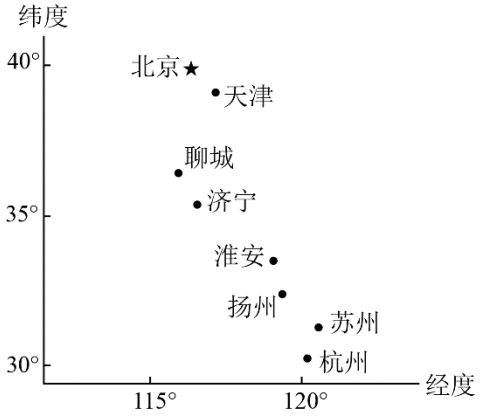

沉香是一种珍贵香料和药材，其种植收益周期一般在 5 年左右。广州市某区是我国最大的沉香种植和产品集散地。目前我国沉香种植总面积较小，野生沉香资源濒临枯竭。下图为沉香形成过程示意图。读图，完成下面小题。



注：沉香树种喜光，适宜生长在年均温20℃以上，年降水量1500－2000mm的区域

图 2

3. 我国最大的沉香种植和产品集散地的优势区位条件有（　　）

①气候适宜　②交通便利　③水源充足　④地价低廉

A. ①②　　B. ①④　　C. ②③　　D. ③④

4. 我国沉香种植总面积较小的主要原因是（　　）

①树种资源枯竭　②农民种植意愿较低　③技术难度较高　④沉香市场需求量小

A. ①②　　B. ①④　　C. ②③　　D. ③④

新能源汽车充电站是中国新基建战略的重要组成部分，建设时通常会考虑与其他公共设施邻近布局，以满足司乘人员在汽车充电时就近获得其他服务。研究表明，一些城市存在充电站服务超负荷区，即公共设施服务能力超过充电站服务能力的区域。下图为某城市局部地区充电站服务超负荷区分布示意图。读图，完成下面小题。

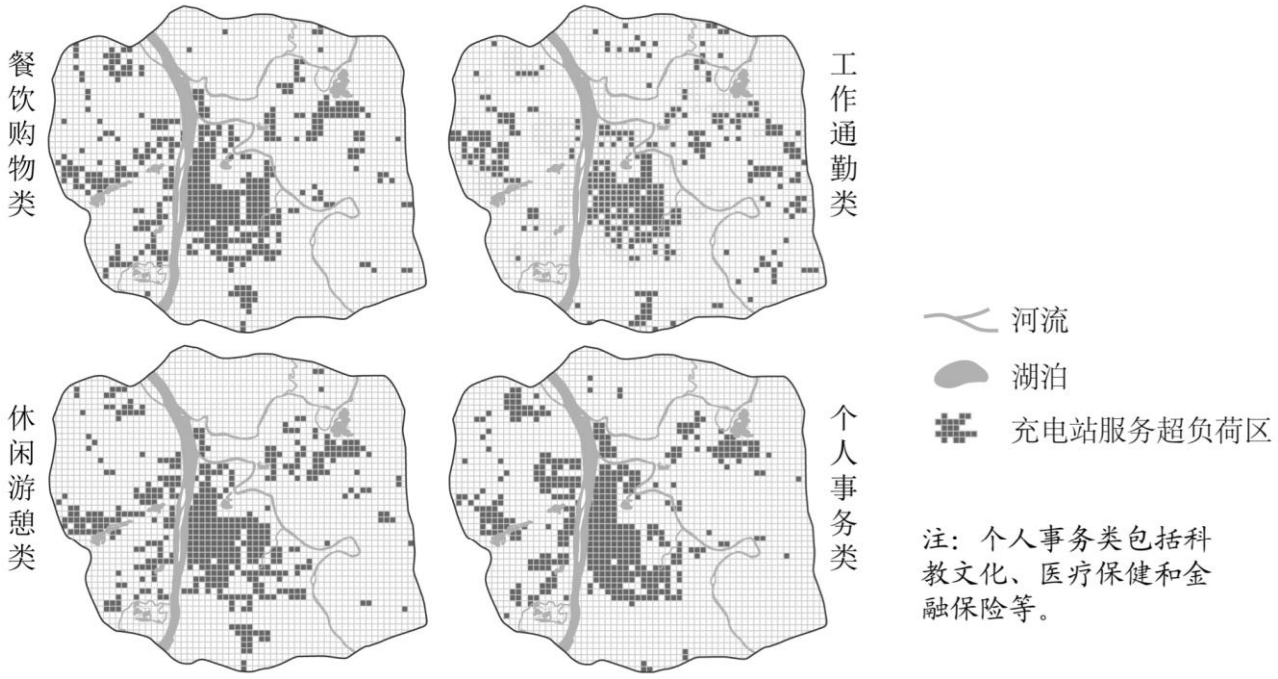

图 3

5. 图中充电站服务超负荷区最常出现于该城市的（　　）

A. 工业区　　B. 商业区　　C. 住宅区　　D. 文教区

6. 该研究可以用来（　　）

A. 指导城市空间规划　　B. 确定人口合理容量　　C. 判断城市辐射功能　　D. 调整城市发展方向

7. 下图为我国安徽省七月平均气温分布示意图。读图，甲、乙两城市七月平均气温相近的主要影响因素是（　　）

A. 山体坡向、洋流性质

B. 海陆位置、大气环流

C. 太阳辐射、海拔高度

D. 人类活动、天气系统

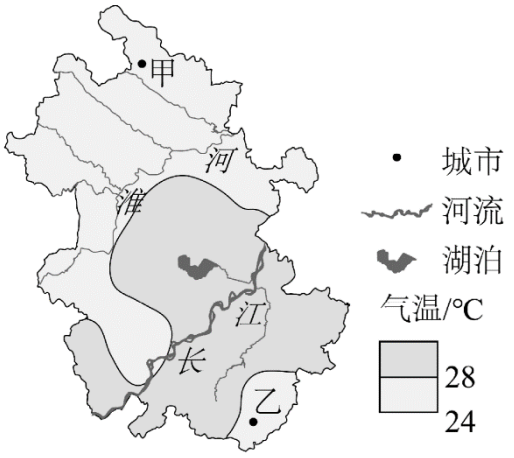

图 4

我国某地为治理生态环境问题，采用三种坡地治理方式进行比较研究。下图为坡地治理方式示意图。读图，完成下面小题。

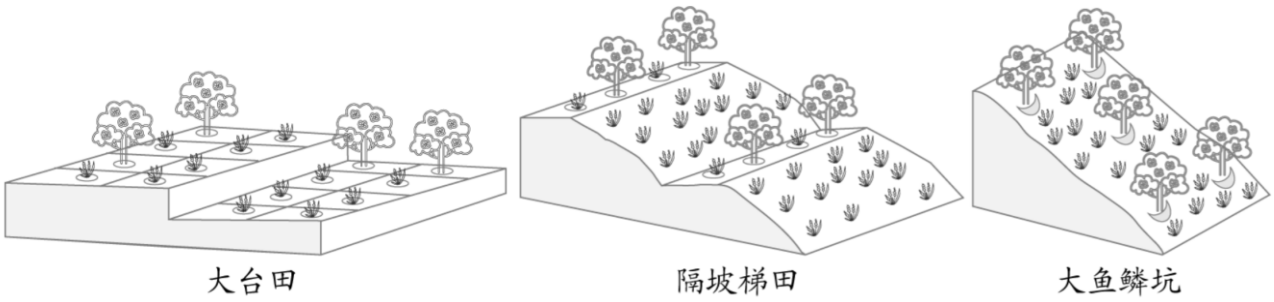

图 5

8. 该区域可能面临的生态环境问题是（　　）

A. 水土流失　　B. 草场退化　　C. 农业污染　　D. 土地盐碱化

9. 三种模式中，隔坡梯田生态治理效益最佳，其优势主要有（　　）

①利于规模化生产　②坡面径流量大　③坡面稳定性较好　④对坡度要求较低

A. ①②　　B. ①③　　C. ②④　　D. ③④

下图为青海湖东岸局部地区地貌分布示意图。读图，完成下面小题。

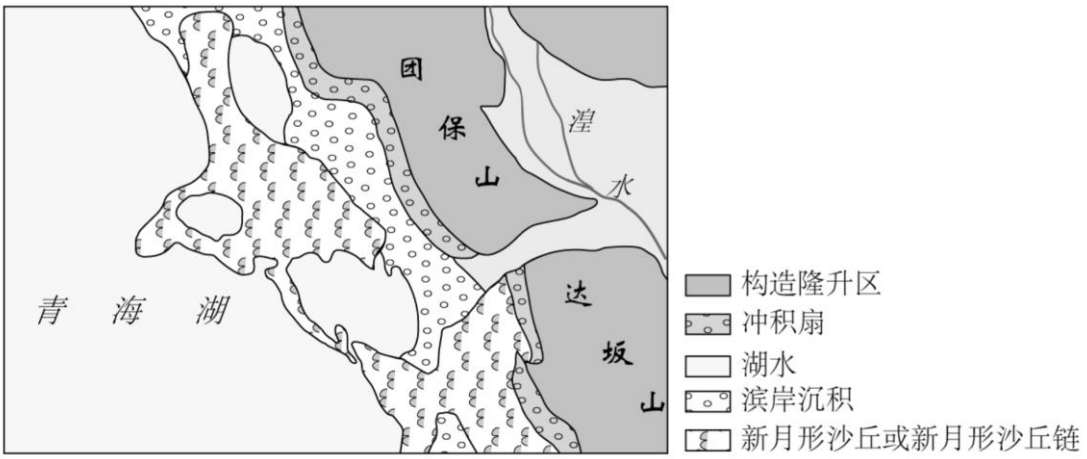

图 6

10. 图示地区（　　）

A. 沙丘链走向与盛行风一致　　B. 青海湖因构造凹陷积水而成

C. 秋末冬初湖泊的水位升高　　D. 滨岸沉积物由潜水搬运而来

11. 近二十年来当地湖泊水位呈上涨趋势，主要影响因素是（　　）

A. 流域面积　　B. 构造运动　　C. 风力大小　　D. 气候变化

12. 下图为某地区地质剖面示意图。读图，图中（　　）

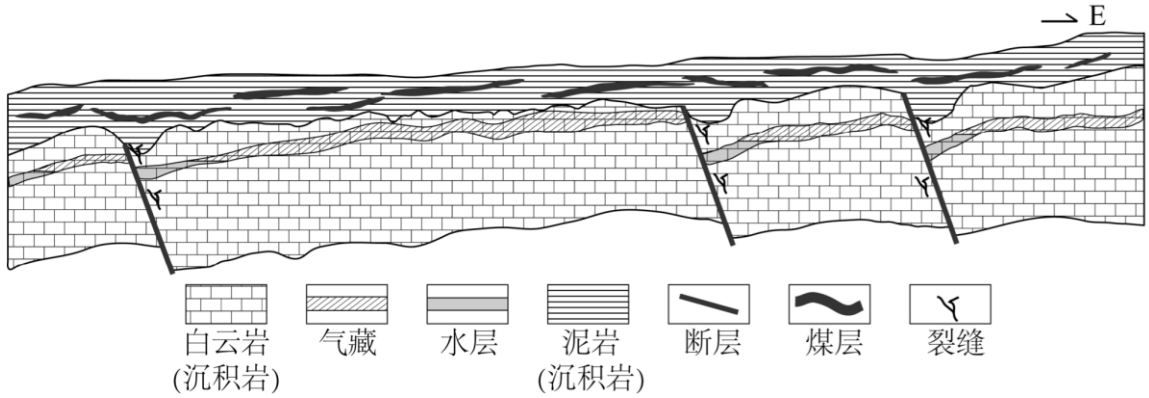

图 7

A. 煤、气等资源丰富　　B. 地势西高东低　　C. 断层形成早于泥岩　　D. 岩浆活动频繁

印度棉花种植主要依赖雨水灌溉。种植历史约五千年，种植面积居全球首位。但是单位面积产量较低。读下图，完成下面小题。

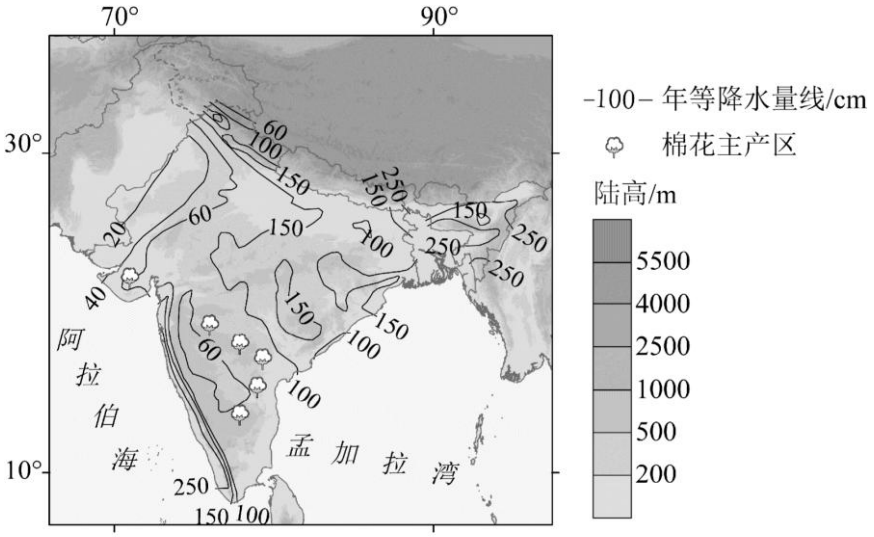

图 8

13. 印度东北部年降水量大的主要影响因素有（　　）

①西南季风　②气旋　③东北信风　④地形

A. ①②③　　B. ①②④　　C. ①③④　　D. ②③④

14. 印度棉花种植面积广的主要原因有（　　）

①纬度较低，光照和热量条件优越　②河流众多，沉积物促进黑土形成

③植被覆盖率较高，生态环境较好　④种植经验丰富，生产体系较稳定

A. ①③　　B. ①④　　C. ②③　　D. ②④

15. 印度棉花单位面积产量较低的可能原因有（　　）

①生长周期较长　②机械化程度低　③劳动力成本低　④灌溉设施落后

A. ①③　　B. ①④　　C. ②③　　D. ②④

第二部分　本部分共 5 题，共 55 分。

16. 阅读材料，完成下面小题。

某校地理小组赴贵州省安顺市关岭布依族苗族自治县开展研学活动。当地石灰岩等可溶性岩石广布，

形成 1 厘米厚度的土壤一般需 5000 年以上。读图，回答下列问题。

任务一：调研本底特征

同学们走访当地居民得知，“土如黄金水如油，满山遍野大石头”曾是当地自然环境特征的真实写照。

（1）简述当地“土如黄金水如油”的自然原因。（5 分）

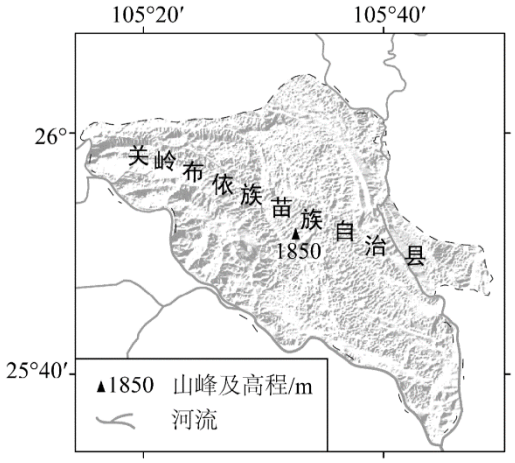

图 9（a）

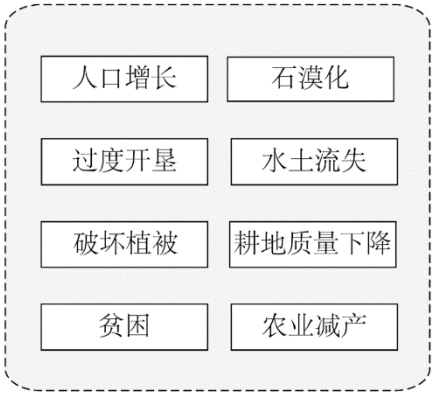

图 9（b）

任务二：探究环境问题

20 世纪 90 年代，当地石漠化问题日益严重。

（2）结合图 1（b），绘制结构框图，用以说明当地石漠化日益严重的主要原因。（4 分）

任务三：考察综合治理

当地“治石”与“治贫”相结合，实现了生态美和百姓富。图 2 为当地石漠化治理措施布局示意图。

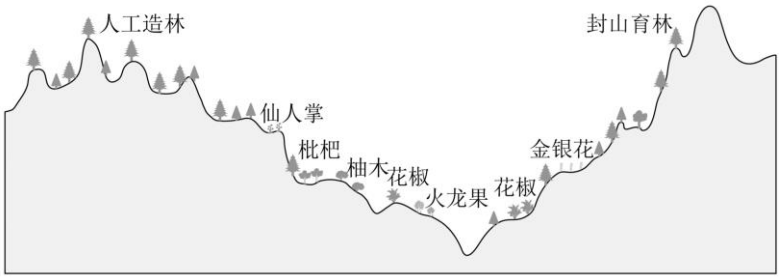

图 10

（3）概括当地生态治理措施对区域发展的影响。（5 分）

17. 阅读材料，完成下面小题。

深圳沙井从宋代就开始养蚝，当地蚝民自清朝起形成“三区养殖”体系。下图为“三区养殖”体系示意图。读图，回答下列问题。



图 11

（1）说明传统“三区养殖”体系的优点。（4 分）

生蚝可以滤食水体中的藻类及浮游植物，在生长期形成主要成分为碳酸钙的贝壳，生蚝礁可以为鱼类、甲壳类等海洋生物提供庇护所，规模化生蚝养殖设施可削弱海浪冲击力。

（2）简述生蚝养殖的生态效益。（4 分）

上世纪 80 年代中期，由于城镇化和工业化快速发展，生蚝养殖业迁出沙井，蚝豉、蚝油和蚝罐头等加工业保留下来。近年来，当地通过举办金蚝节、建设博物馆等方式传承蚝文化。

（3）分析沙井迁出生蚝养殖业和保留蚝加工业的主要原因。（5 分）

18. 阅读材料，完成下面小题。

位于通州区核心区域的北京城市副中心站将建成为亚洲最大的地下综合交通枢纽，其上方空间进行酒店、商业、办公和会议等产业开发，同时规划城市中心公园带，串联起运河水岸带、路通公园、花园车站和六环高线公园。下图为枢纽站地下空间立体功能分区示意图。读图，回答下列问题。

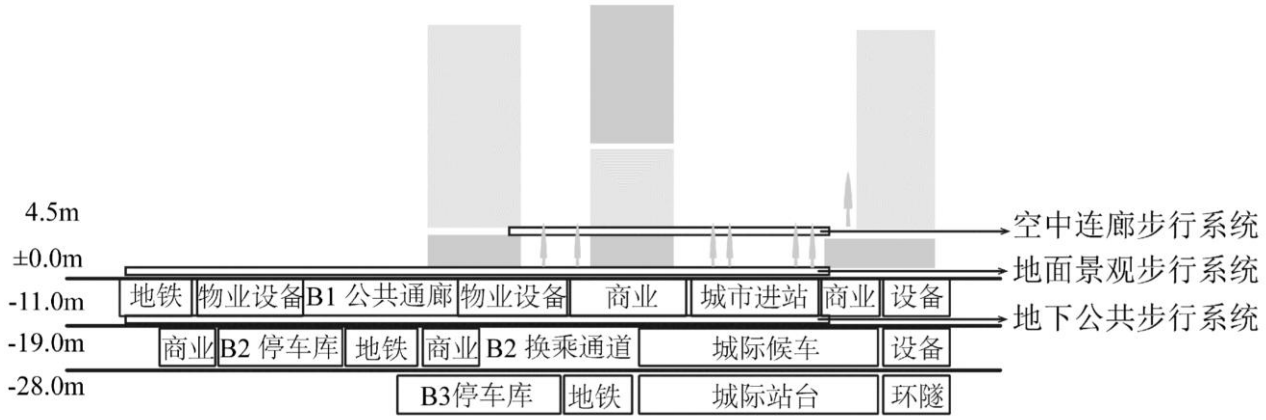

图 12

北京城市副中心站将集成 2 条城际铁路、1 条国铁干线、5 条城市轨道交通、1 条市郊铁路和 15 条公交接驳线，可高效实现站内换乘，车站日单向客流量可达 50 万人次。

（1）结合区域发展需要，说明城市副中心站的布局原则。（4 分）

（2）概述北京城市副中心站空间布局的优点。（4 分）

19. 阅读材料，完成下面小题。

天津市崔黄口镇是一座沿河小镇。清朝末期，商贾云集，镇上开办的地毯铺声名鹊起。20 世纪初，崔黄口镇的地毯远销欧美，各地手工艺人慕名而来，促进地毯业蓬勃发展。如今，当地地毯企业已达 1200 多家，全镇 5.2 万人口中有一半地毯从业人员，形成了“一镇一业”的产业格局。在镇政府支持下，当地建成地毯文化展览馆，馆内设有中国地毯图样基因库及其智能化分类系统。

（1）归纳不同时期崔黄口镇地毯产业的主要区位因素。（5 分）

（2）概述崔黄口镇形成和发展的过程。（3 分）

近年来，崔黄口镇通过物流仓储和电子商务为主的产业来带动区域的协同发展，打造物流商贸型特色城镇。

（3）列举崔黄口镇打造物流商贸型特色城镇的主要措施。（5 分）

20. 读图，回答问题。

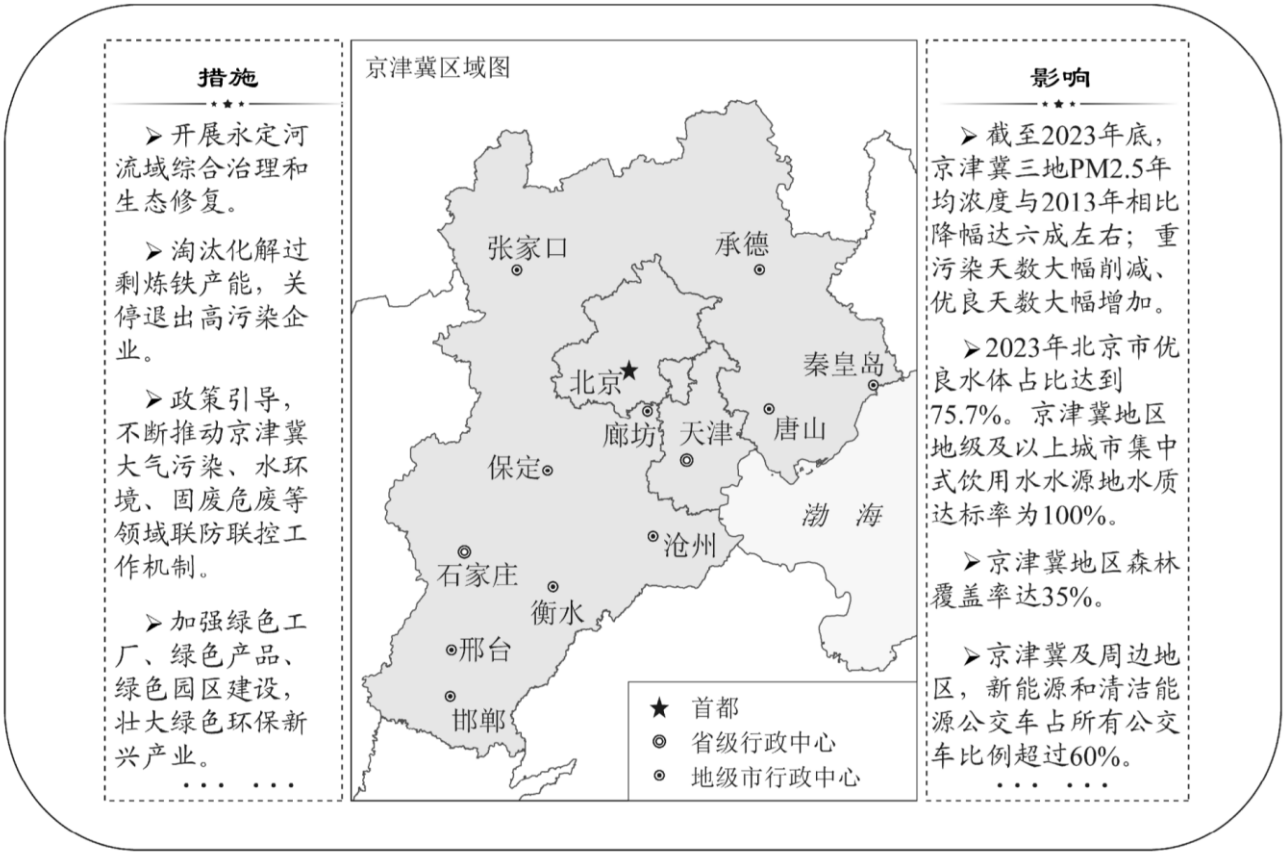

图 13

结合资料，论述京津冀生态协同发展的地理意义。（7 分）

参考答案

第一部分

本部分共15题，每题3分，共45分。在每题列出的四个选项中选出最符合题目要求的一项。

【答案】1. D　2. C

【1题详解】

图中所示城市大体沿京杭大运河分布（自北京向南经天津、济宁、淮安、扬州、苏州直至杭州），因此该主题博物馆最可能与运河相关，D正确；地质博物馆通常与地质构造、矿产资源相关，分布可能与地质资源丰富的地区相关，但图中城市在地质、矿产方面无明显优势，A错误；海洋博物馆通常位于沿海城市，图中城市除天津外，多属于内陆城市，B错误；汽车博物馆可能位于汽车工业发达的城市，但图中城市汽车工业都不是各自的支柱产业，C错误。故选D。

【2题详解】

在我国立春时节（2月4日或5日）仍属冬半年，纬度越高白昼越短，图中杭州纬度最低，白昼时长相对最长，C正确；依据同一条经线上，纬度相差1°，其距离相差约111千米，图中城市间最远距离应当是天津与聊城，两地纬度差明显超过1°，不可能相距只有约2千米，A错误；图中既有直辖市也有普通地级市，并非直辖市或省会为主，B错误；夏至日太阳于东北升、西北落，各城市不可能日落西南方，D错误。故选C。

【点睛】京杭大运河流经北京、天津、沧州、衡水、德州、泰安、聊城、济宁、枣庄、宿迁、淮安、扬州、常州、无锡、苏州、嘉兴、湖州、杭州18城。沟通了海河，黄河，淮河，长江，钱塘江五大水系。

【答案】3. A　4. C

【3题详解】

沉香树生长需要特定的气候条件，广州市某区气候温暖湿润，适合沉香树的生长，①正确；作为产品集散地，交通便利是必不可少的条件，广州市某区交通发达，便于沉香的运输和销售，②正确；广州某区与周围其他区域相比，水源不是突出的区位优势，③不正确；广州某区经济发达，且作为集散地，地价并不低廉，④不正确。故选A。

【4题详解】

材料中提到野生沉香资源濒临枯竭，但并未枯竭，且沉香可以人工栽培，故种植总面积较小与树种资源枯竭关系不大，①错误；沉香种植收益周期较长，农民可能因为收益周期长而不愿意种植，②正确；沉香种植需要一定的技术，技术难度较高可能限制了种植面积的扩大，③正确；我国人口众多，沉香作为珍贵香料和药材，市场需求量应该较大，④错误。故选C。

【点睛】农业区位因素主要包括自然因素和社会经济因素，其中自然因素为农业生产提供基础条件，而社会经济因素则决定了农业生产的类型、规模和效益。

【答案】5. B　6. A

【5题详解】

根据图示信息可知，充电站服务“超负荷区”分布在城市中心区域，通常对应城市商业繁华地段，商业区通常集中了大量餐饮、购物、娱乐等公共服务设施（对应图中的餐饮购物类和休闲游憩类），车辆流量大、

充电需求旺盛，最易出现充电站服务超负荷现象，B 正确； 工业区、文教区、住宅区对于充电站的需求相对较小，不易出现超负荷现象，ACD 错误。故选 B。

【6 题详解】

通过研究公共设施与充电站的空间布局及服务供需匹配状况，可以为今后在城市中合理选址、增设与改进充电站等公共设施提供依据，从而更好地指导城市空间规划，A 正确；确定城市人口容量、判断城市整体辐射功能或直接调整城市发展方向都不是该研究的直接应用，BCD 错误。故选 A。

【点睛】充电站的合理布局可以确保电动自行车和电动汽车用户在出行过程中能够方便地找到合适的充电地点，提升车辆的使用效率，特别是在商业区、居民区和交通枢纽等人流密集的地方设置充电站，能够极大地方便用户，避免因找不到充电设施而导致的焦虑。

7. 【答案】C

【详解】安徽省地势总体呈南高北低，甲位于纬度较高的北部平原，乙位于纬度稍低但海拔较高的南部山区，由于南部山区海拔升高导致气温下降，抵消了因纬度降低带来的气温升高作用，使得甲、乙两地七月平均气温相近，故主要影响因素为太阳辐射和海拔高度，C 正确；两地的海陆位置、大气环流、人类活动等条件区别不大，BD 错误；安徽不是沿海省份，洋流影响小，A 错误。故选 C。

【点睛】影响气温的主要因素包括纬度、海陆位置、地形、洋流、人类活动等。

【答案】8. A　9. D

【8 题详解】

坡地治理通常是为了防止水土流失，尤其是在坡度较大的地区，雨水冲刷会导致土壤流失，进而影响生态环境，水土流失是该区域可能面临的主要生态环境问题，A 正确；草场退化通常发生在草原地区，而题目中明确提到的是“坡地治理”，因此草场退化与该区域的生态环境问题关联不大，B 错误；农业污染通常与化肥、农药的使用有关，而题目中讨论的是坡地治理，与农业污染的关联性不强，C 错误；土地盐碱化通常发生在干旱或半干旱地区，与坡地治理的关联性不大，D 错误。故选 A。

【9 题详解】

隔坡梯田的主要目的是通过梯田的形式减少水土流失，改善生态环境，而不是为了规模化生产，①错误；隔坡梯田的设计目的是减少坡面径流，通过梯田的台阶结构减缓水流速度，增加水分的下渗，从而减少水土流失，坡面径流量大与隔坡梯田的设计目标相矛盾，②错误；隔坡梯田通过将坡地分割成多个水平台阶，有效减少了坡面的坡度，增强了坡面的稳定性，减少了滑坡和泥石流等地质灾害的发生，③正确；隔坡梯田的设计可以适应不同的坡度条件，通过调整梯田的宽度和高度，可以在较陡的坡地上进行治理，因此对坡度的要求相对较低，④正确。综上，ABC 错误，D 正确。故选 D。

【点睛】坡地治理方式。梯田：在坡地上修建台阶状的田地，可以有效减少水土流失，增加土壤保水能力，适合种植农作物。隔坡梯田：在坡地上间隔修建梯田，保留部分自然坡面，既能减少水土流失，又能保持一定的自然生态功能。植被恢复：通过种植树木、草皮等植被，增加地表覆盖，减少水土流失，改善生态环境。

【答案】10. B　11. D

【10 题详解】

青海湖位于青藏高原东北部，是典型的构造湖盆，因地壳下沉形成凹陷积水而成，B 正确；很多个新月形沙丘连在一起形成沙丘链，沙丘链的延伸方向与盛行风方向大致垂直，A 错误；青海湖的水源主要来自于周边河流的汇入，其次是降水、冰雪融水以及地下水，这此河流的水源补给又主要是夏季降水和冰川融水，夏季水量最大，因此青海湖水位通常在夏季最高，秋冬时节因降水减少，气温下降，一般并不出现水位显著上升，C 错误；滨岸沉积物通常是由河流、波浪等外力作用搬运而来，潜水（存在于地表以下第一个稳定隔水层上的地下水）搬运的作用较小，D 错误。故选 B。

【11 题详解】

流域面积的变化通常是一个长期的过程，短期内对湖泊水位的影响较小。近二十年来流域面积没有发生显著变化，因此不是主要原因，A 错；构造运动确实可以影响湖泊水位，但这是一个非常缓慢的过程，近二十年的水位变化不太可能是由构造运动引起的，B 错；风力大小主要影响湖泊的蒸发速率和波浪活动，但对湖泊水位的长期变化影响较小，C 错；近二十年来青海湖水位上涨的主要原因是全球气候变暖导致冰川消融和降水增多，即气候变化因素，D 正确。故选 D。

【点睛】青海湖是中国最大的内陆湖泊，中国最大的内流湖、咸水湖，早期面积 4236.6 平方公里，环湖周长 360 多公里。湖平均水深 21 米以上，最大水深 32.8 米，蓄水量 1050 亿立方米，湖面高程 3260 米。

12.【答案】C

【详解】图中白云岩中的气藏层和泥岩中的煤层厚度不大，故“煤、气资源等丰富”的说法不准确，A 错；该剖面图地势整体上表现为东高西低趋势，B 错；图中断层位于泥岩层之下，且断层并未切割泥岩层，说明断层形成早于泥岩，C 正确；图中并无火成岩体或火山岩等迹象，岩浆活动并不频繁，D 错误。故选 C。

【答案】13. B　14. B　15. D

【13 题详解】

印度东北部雨量丰富，主要原因是夏半年盛行的西南季风带来丰沛水汽，①正确；印度地区夏季常有气旋（热带气旋）影响，能够带来降水，②正确；同时，该区域位于喜马拉雅山的迎风坡，地形抬升作用明显，多地形雨，④正确；东北信风多出现在冬半年，且相对干燥，不能带来丰富的降水，③错误。故选 B。

【14 题详解】

根据图示信息可知，印度棉花主产区纬度较低，热量充足，有利于棉花生长，①正确；该区域棉花种植历史久、经验丰富，形成了较稳定、分布广的棉花种植体系，④正确；黑土主要是由玄武岩风化而成，河流冲积物对黑土的贡献有限，②错误；植被覆盖率较高也并非印度种棉面积广的主要原因，③错误。故选 B。

【15 题详解】

印度棉花单产偏低，主要受种植技术和水利条件限制，机械化程度低，导致精细化管理水平不高，②正确；灌溉设施落后，主要靠季风雨水，水源不稳定，影响单位面积产量，④正确；劳动力成本低并不会直接降低产量，③错误；该区域热量条件好，生长周期不是限制该区域棉花单产的因素，①错误。故选 D。

【点睛】农业区位因素包括自然因素和社会经济因素，自然因素包括气候（光照、热量、昼夜温差、降

水）、地形、水源、土壤等，社会经济因素包括市场、交通、政策、劳动力、技术等。

第二部分

本部分共 5 题，共 55 分。

16.【答案】（1）石灰岩抗风化能力较强，成土过程缓慢。地势起伏大，土层薄。植被覆盖率较低的地区，遇暴雨时，土层易流失。可溶性岩石多裂隙，地表水易下渗。

（2）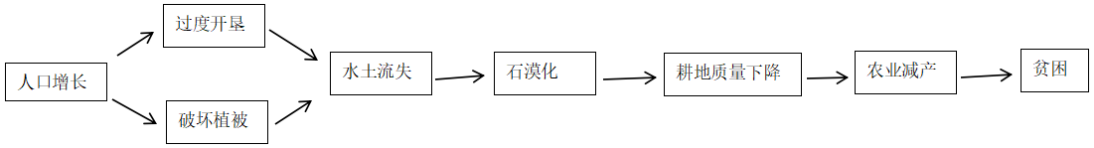

（3）提高森林覆盖率，涵养水源，保持水土。提高土地资源利用率，丰富农产品类型，增加收入，促进经济发展。

【分析】本题以贵州省安顺市关岭布依族苗族自治县开展研学活动为材料，涉及当地“土如黄金水如油”的自然原因、当地石漠化日益严重的主要原因、当地生态治理措施对区域发展的影响等相关内容，考查学生获取和解读地理信息、调动和运用地理知识和基本技能的能力，体现综合思维、区域认知以及地理实践力的地理核心素养。

【小问 1 详解】

石灰岩是一种可溶性岩石，其抗风化能力较强，意味着它在自然环境中不容易被风化和侵蚀，土壤的形成过程非常缓慢；贵州省安顺市关岭布依族苗族自治县的地势起伏较大，地形多为山地和丘陵，这种地形特征导致土层分布不均匀，且厚度较薄；植被覆盖率低意味着地表缺乏植物根系的固定作用，土壤结构较为松散，当遇到暴雨时，雨水会迅速冲刷地表，导致土壤流失；石灰岩等可溶性岩石通常具有较多的裂隙和孔隙，这些裂隙使得地表水容易下渗到地下。

【小问 2 详解】

人口数量增加，为了增加耕地面积，过度砍伐森林、开垦坡地，破坏了地表植被，加速了水土流失；水土流失严重，土层流失，肥力下降，造成当地石漠化等生态环境问题，进而造成耕地质量下降，农业出现减产，当地收入下降，出现贫困现象。如图：

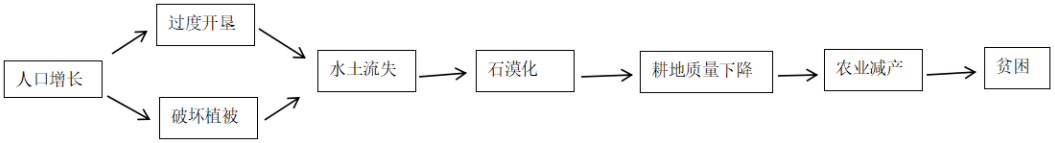

【小问 3 详解】

当地在石漠化治理过程中，通过植树造林等生态修复措施，增加了森林覆盖率，森林不仅能够涵养水源，减少地表径流，还能通过根系固土，防止水土流失；土地资源利用率的提高不仅解决了土地荒废的问题，还通过多样化的农业生产模式，增加了农民的经济收入，促进了区域经济的可持续发展。

17.【答案】（1）因地、因时制宜，充分利用海洋空间资源，避免对单一海域生物资源的过度消耗，提升生蚝品质和产量。

（2）净化水质，为海洋生物提供栖息地，保护生物多样性，增加海洋碳汇，保护海岸。

（3）城镇化和工业化发展，用地紧张，海水水质变差，生蚝养殖从业人员减少。蚝加工业产品附加值较高，能够带动文旅等相关产业发展。

【分析】本大题以深圳沙井生蚝养殖为材料设置试题，涉及海洋空间资源开发利用、生蚝养殖的生态效

益、产业转移的原因等相关内容，考查学生获取和解读地理信息，调动和运用地理知识和基本技能，论证和探讨地理问题的能力，体现综合思维、区域认知、地理实践力的地理核心素养。

【小问 1 详解】

读“三区养殖”体系示意图可知，分区养殖可以将采苗区、生长区、育肥区分开，便于根据不同海域的水文和生物条件采取因地因时管理，充分利用海洋空间资源。集中在生长适宜的海域采苗、养殖和肥育，避免海域环境压力过度集中，并充分利用近岸浮游生物资源，提高生蚝成活率和品质，提高产量。

【小问 2 详解】

根据材料可知，生蚝通过滤食藻类和浮游生物，能够有效清洁水体，净化水质。生蚝壳主要成分为碳酸钙，在形成过程中加强对碳的固定，增加海洋碳汇。根据材料可知，生蚝礁为鱼类、甲壳类等海洋生物提供栖息和繁衍场所，利于保护生物多样性。大规模生蚝养殖设施可削减海浪冲击力，起到一定的海岸防护作用。

【小问 3 详解】

根据材料可知，沙井地区城市建设和工业用地需求扩大，原有近岸水域被占用或环境污染加重，生蚝养殖条件恶化，而养殖业需要大面积水域环境，且投入产出比在城市化背景下不具优势，生蚝养殖从业人员减少，因而向外迁移。蚝产品加工历史悠久、形成了知名度高的地方特色品牌，加工产业占地小、附加值高，利于在当地继续保留。通过举办金蚝节、建设博物馆等，保留并延续蚝文化，同时推动加工产业和文化旅游融合发展。

18.【答案】（1）随着区域经济增长，交通运输需求量大且不断增长，城市副中心站交通运输布局需依据运输需求，发挥综合交通运输优势，适度超前布局，尽量少占土地。

（2）土地资源利用率高，联通效率高，产业集聚效应强，环境效益好。

【分析】本题以北京城市副中心站为材料，涉及城市副中心站的布局原则、北京城市副中心站空间布局的优点等相关内容，考查学生获取和解读地理信息、调动和运用地理知识和基本技能的能力，体现综合思维、区域认知以及地理实践力的地理核心素养。

【小问 1 详解】

区域经济增长通常伴随着人口增加、经济活动频繁，这会导致交通运输需求的增加；北京城市副中心站集成了多种交通方式（如城际铁路、国铁干线、城市轨道交通等），这种布局能够有效满足不同层次和方向的运输需求；北京城市副中心站通过集成多种交通方式，充分发挥了综合交通运输的优势，提高了运输效率；北京城市副中心站采用地下空间开发的方式，最大限度地减少了对地面土地的占用。

【小问 2 详解】

通过在地下建设交通枢纽，地上空间得以释放用于其他产业开发，避免了土地资源的浪费，提高了土地利用的集约化程度；多种交通方式的集中布局，减少了乘客换乘的时间和距离，提高了交通系统的整体效率；车站上方空间进行酒店、商业、办公和会议等产业开发，形成了多元化的产业集聚区；通过绿化和公园带的建设，改善了区域内的生态环境，提升了居民的生活质量，同时也为城市提供了更多的绿色空间。

19.【答案】（1）清朝末期，主要区位因素是交通；20 世纪初，主要区位因素是市场和劳动力；现今主要区位因素是市场、劳动力、政策和技术。

（2）因交通位置形成小镇，随着人口集聚，制毯产业发展促进城镇化。

（3）改善交通条件，完善基础配套设施，搭建电商平台，扩大消费市场，加强商贸活动和物流业间的协作融合。

【分析】本题以天津市崔黄口镇产业发展作为素材，创设学习探索情境，考查工业区位、城乡发展和服务业发展措施等知识，共 3 道小题。重点考查学生获取和解读地理信息、调动和运用地理知识、描述和阐释地理事物的能力，综合考查区域认知、综合思维等地理学科素养，体现了基础性、应用性、综合性的考查指向。

【小问 1 详解】

依据材料信息可知，清朝末期，崔黄口镇是一座沿河小镇，水陆交通便利，“商贾云集，镇上开办的地毯铺声名鹊起”，因此，这一时期地毯产业发展主要区位因素是交通。“20 世纪初，崔黄口镇的地毯远销欧美，各地手工艺人慕名而来，促进地毯业蓬勃发展”，因此这一时期地毯产业发展的主要区位因素是市场和劳动力；“如今，当地地毯企业已达 1200 多家，全镇 5.2 万人口中有一半地毯从业人员，……在镇政府支持下，……馆内设有中国地毯图样基因库及其智能化分类系统”。据此可知，现今该镇地毯产业的发展主要是市场、劳动力、政策和技术等因素的影响。

【小问 2 详解】

由材料可知，崔黄口镇形成和发展大体经历了三个阶段。初期阶段（清朝末期），依托沿河交通优势，形成商贸集散地，地毯铺兴起，形成小镇；扩张阶段（20 世纪初），随着地毯远销欧美，吸引外来手工艺人，人口集聚产业规模扩大；加速发展阶段，如今当地地毯企业数量已达 1200 多家，形成“一镇一业”格局，城镇化进入加速发展时期。

【小问 3 详解】

崔黄口镇打造物流商贸型特色城镇，可以充分利用本地地理位置优势，改善交通条件，完善仓储等配套设施，支持商贸流通；充分利用以电子商务为主的产业，搭建电商平台，通过“物流+电商+地毯”模式，扩大销售渠道；利用地毯文化展览馆和基因库提升品牌影响力；通过政府政策引导推动产业融合，加强商贸活动和物流业间的协作。

20.【答案】

京津冀生态协同发展，既能增强自然环境的稳定性，又能强化区域间的协作与互补，对实现京津冀一体化及生态文明建设具有重要意义。

整体提升区域生态环境质量。通过淘汰高污染企业、联动治理大气和水污染，京津冀地区 PM2.5 浓度显著下降、水质明显改善、森林覆盖率提高，整体生态系统趋于健康。

缓解资源环境压力，保障区域安全。永定河流域综合治理与生态修复有助于改善区域水资源状况，提升饮用水安全；加强绿色交通与新能源普及，有利于降低对化石能源的依赖。

促进区域协同发展与可持续利用。跨行政区联防联控机制打破行政壁垒，构建了更加紧密的环境治理合作模式，为产业转型升级和绿色经济发展提供了条件。

优化人居环境，提高社会福祉。空气质量好转、城市水体质量提升、绿地比例增加，显著改善京津冀居民的生活与健康条件，推动区域城市化向生态友好型转变。

总之，协同发展可在大气污染、水资源保护以及生态功能区建设等方面统一规划与管理，有效改善环境质量，促进资源合理利用，同时，保障首都北京的生态安全、提升城市群整体竞争力，对实现该区域的可持续发展具有重要地理意义。

【分析】本大题以京津冀发展举措为材料设置试题，涉及京津冀协同发展的意义相关内容，考查学生获取和解读地理信息、调动和运用地理知识、描述和阐述地理事物的能力，体现综合思维、区域认知、人地协调观等学科素养。

【详解】改善大气环境质量：通过削减过剩炼钢产能、关停高污染企业、推广清洁能源交通等措施，能够有效降低$PM_{2.5}$浓度，减少重污染天数，提升区域空气质量。保障水资源安全：对永定河流域的综合治理和生态修复，有利于保护并恢复水源地，提升城市供水水质达标率，增强区域对水资源短缺和污染风险的抵御能力。

推动产业结构升级：限制高耗能、高污染企业，鼓励绿色工厂和绿色产品建设，能逐步实现产业转型升级，形成可持续的绿色经济增长模式，减轻资源环境压力。

增加生态涵养功能：通过加强森林覆盖率、建设绿色园区等方式，改善区域生态系统结构与功能，为首都及周边城市构筑重要生态屏障，增强对沙尘暴等生态灾害的防御能力。提升区域协同发展水平：在环境治理、生态修复等方面建立联防联控机制，有利于突破行政区划壁垒，实现资源、环境与经济的统筹布局，提高京津冀作为城市群的整体竞争力和可持续发展能力。

京津冀生态协同发展通过对流域进行综合治理和生态修复，提升了区域水资源安全；同时淘汰过剩炼铁产能、关停高污染企业并推行跨区域的大气、水、固废联防联控，有效改善了区域生态环境质量；加快绿色产业、绿色交通建设，则在保障资源环境安全的同时，促进了区域经济的转型与可持续发展，提升了居民的宜居水平。