2023 北京昌平高三（上）期末

地　　理

2023.1

本试卷共 9 页，共 100 分。考试时长 90 分钟。考生务必将答案答在答题卡上，在试卷上作答无效。考试结束后，将答题卡交回。

第一部分 选择题

本部分共 15 小题，每小题 3 分，共 45 分。在每题列出的四个选项中，选出最符合题目要求的一项。

2013 年 4 月 5 日，我国职业帆船运动员郭川驾驶无动力帆船，创造了 40 英尺级帆船单人不间断环球航行世界纪录。下图为郭川环球航行路线示意图。读图，完成下面小题。

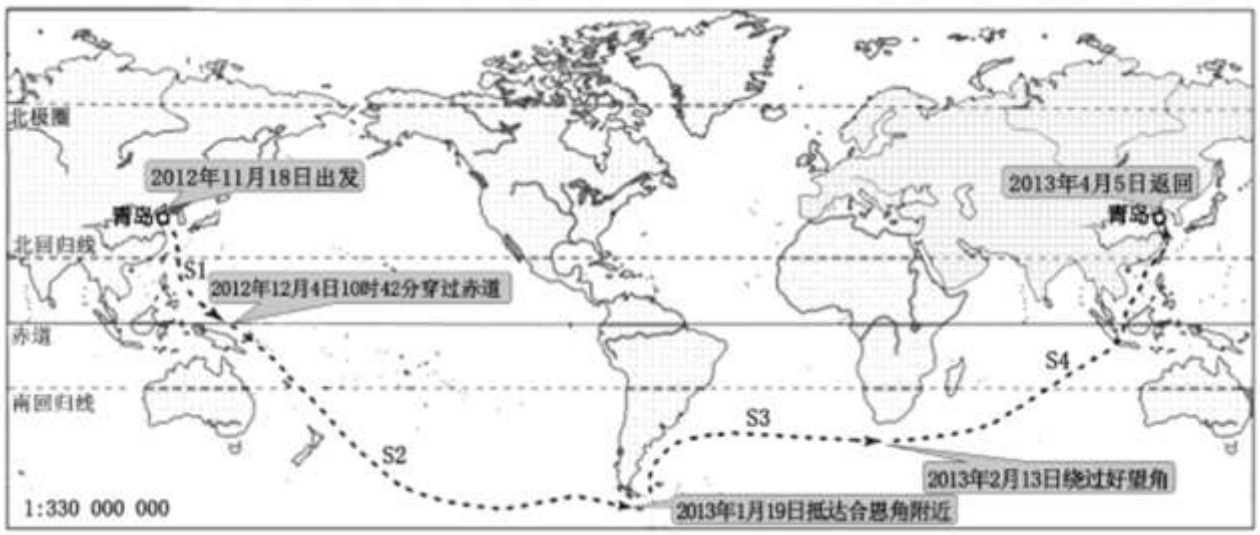

1. 在环球航行过程中（　　）

A. 依次经过太平洋、印度洋、大西洋　　B. 首次穿过赤道时，太阳在其西北方向

C. 小寒前后抵达合恩角，当地昼短夜长　　D. 绕过好望角当天，正午船帆影子南

2. 图中航段（　　）

A. S1 始终在我国领海范围内航行

B. S2 沿线表层海水盐度先增后减

C. S3 受西南风影响始终顺风顺水

D. S4 沿线表层海水温度逐渐降低

3. 下图为 2022 年 8 月 12 日某时亚洲局部海平面等压线分布图。读图，回答下题。

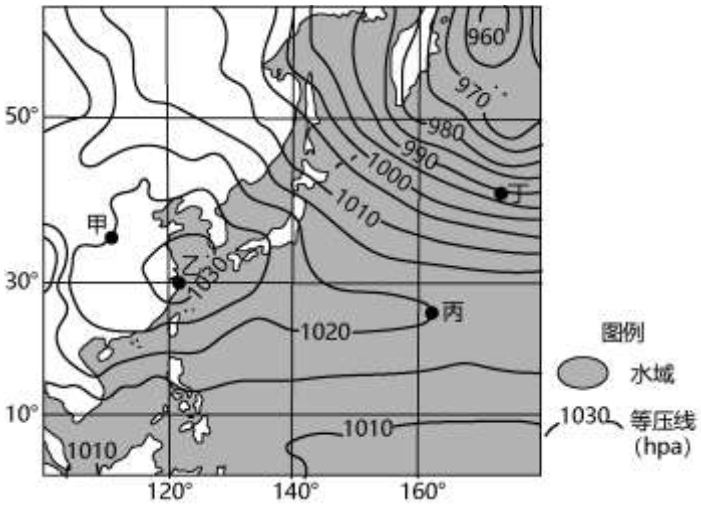

图中（　　）

A. 甲地吹偏南风，带来丰沛降水　　B. 乙地受高压控制，天气晴朗

C. 丙地位于高压脊处，气流辐合　　D. 丁地风力强劲，易诱发海啸

非常规油气是指在油气成因、成藏机理、赋存状态、分布规律或勘探开发技术等方面，有别于常规油气资源的烃类资源。一般包括致密砂岩油气、页岩油气、煤层气、天然气水合物等。读图，完成下面小题。

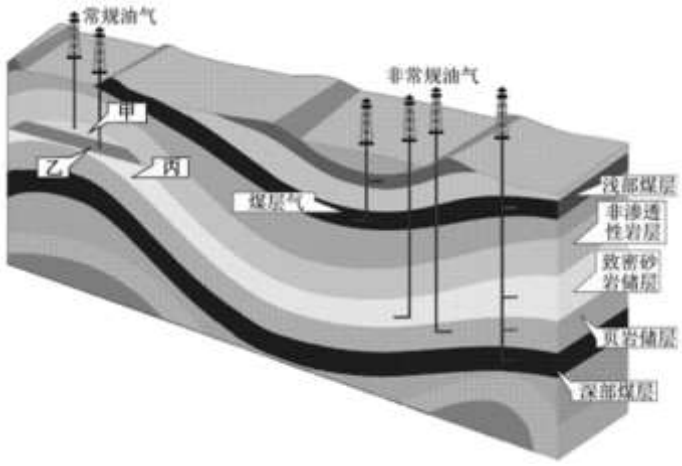

4. 甲、乙、丙依次可能为（　　）

A. 天然气、石油、地下水　　B. 天然气、地下水、石油

C. 石油、地下水、天然气　　D. 地下水、石油、天然气

5. 图中（　　）

A. 常规油气储存在向斜构造　　B. 煤层气存于变质岩储层中

C. 深部煤层分布在莫霍面以下　　D. 浅部煤层比深部煤层形成晚

北京某校中学生在密云水库周边开展“植被与土壤”的主题实践活动。经调查：水库周边的山地曾因常年采石，山体裸露，土层薄，森林覆盖率极低。近十几年，当地开展以植树造林为主的生态修复工程后，森林覆盖率已达90%以上。下图为学生手绘的活动地示意图。读图，完成下面小题。



6. 推测学生测得土壤含水量最高的地点可能是（　　）

A. 甲　　B. 乙　　C. 丙　　D. 丁

7 此地开展生态修复后（　　）

A. 降水量增加，气温日较差增大　　B. 水库含沙量减少，库容量增加

C. 水库流域面积增加，湖岸线变长　　D. 生物多样性增加，地表径流激增

读图，完成下面小题。



8. 上海市的产业基地（　　）

①集中连片分布在沿海地区　　②位于地价相对较低的郊区

③布局分散易共用基础设施　　④区位选择与产业特点相关

A　①②　　B. ①③　　C. ②③　　D. ②④

9. 上海市吸引世界 500 强企业国家级总部机构落户的优势条件有（　　）

①地理位置优越，海陆交通便利　　②自然资源丰富，工业基础雄厚

③经济腹地广阔，区域辐射力强　　④国家政策支持，国际影响力强

A. ①②③　　B. ①②④　　C. ①③④　　D. ②③④

阿拉伯联合酋长国是世界上最干旱的国家之一，也是无流国，年降水量在100毫米左右。一位富商计划在赫德岛附近选取一座南极冰山（长约2千米、宽约500米）拖运至阿拉伯联合酋长国沿海地区，以缓解该国水资源短缺问题。读图，完成下面小题。

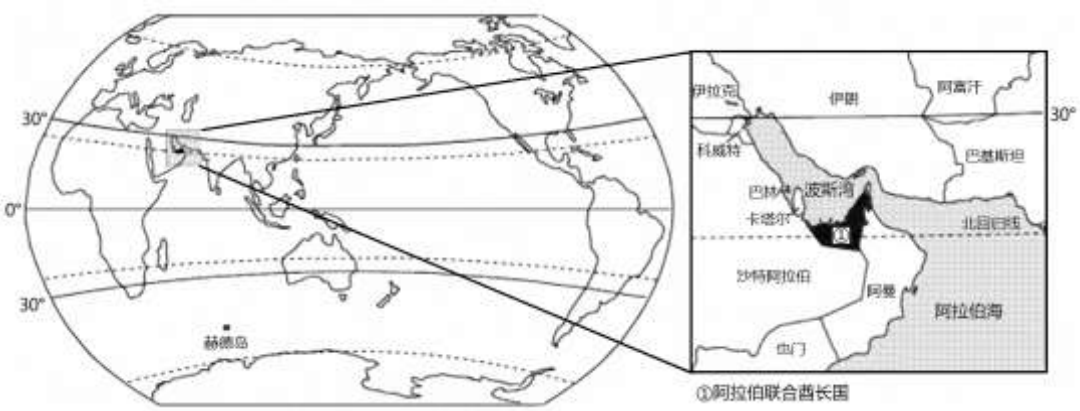

①阿拉伯联合酋长国

10. 阿拉伯联合酋长国缺水的自然原因（　　）

A. 纬度位置较低，全年高温对流较旺盛　　B. 受副热带高压带控制，盛行下沉气流

C. 河流水、湖泊水少，水量季节变化大　　D. 超采地下水，导致海水倒灌现象严重

11. 若实施该计划（　　）

A. 宜选择顺西风漂流、西澳大利亚暖流拖运

B. 任何季节皆可顺北印度洋洋流顺时针航行

C. 将破坏拖出地、拖入地及沿线　生态环境

D. 将彻底解决阿拉伯联合酋长国的缺水问题

2022年北京冬奥会闭幕式上，第25届冬奥会承办国意大利呈现了精彩的“8分钟”表演，凸显了国际时尚之都米兰和历史悠久滑雪小镇科尔蒂纳丹佩佐两联合承办地的不同特色。下图为意大利地图。读图，完成下面小题。

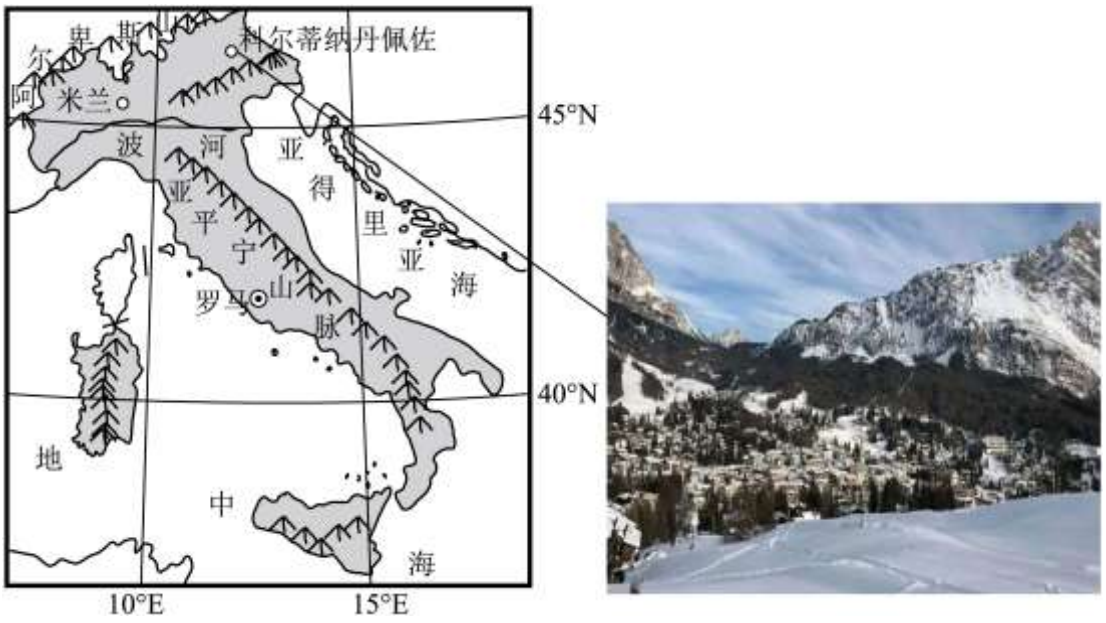

12. 意大利（　　）

A. 位于西半球，南临地中海　　B. 处于板块的生长边界，地势崎岖

C. 海岸线漫长，多优良港湾　　D. 首都罗马，人口自然增长率较高

13. 与米兰相比，科尔蒂纳丹佩佐（　　）

A　冬季气温较高　　B. 适合高山滑雪

C. 海陆交通便利　　D. 城市化水平高

下图为我国“十四五”期间（2021-2025 年）重点发展的九大清洁能源基地分布示意图。读图，完成下面小题。

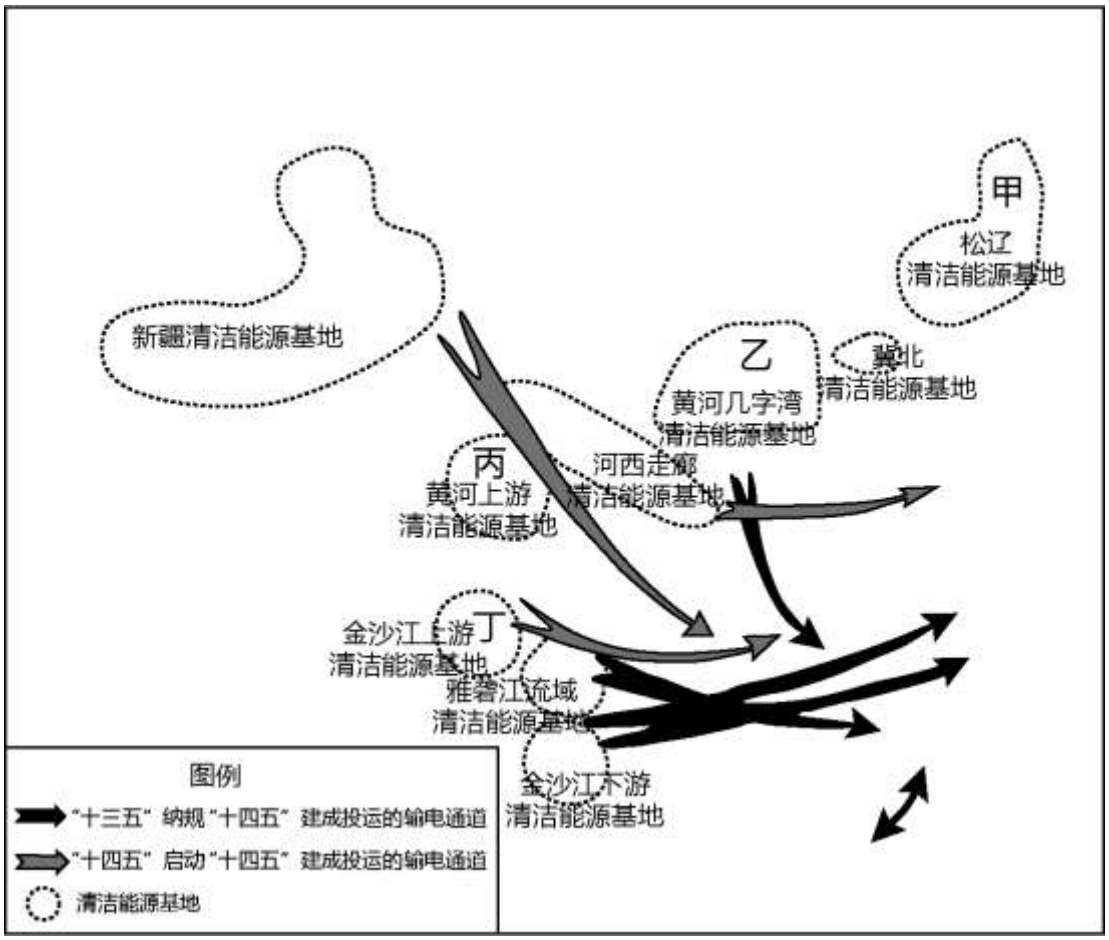

14. 图中基地（　　）

A. 甲所处纬度最高，太阳能资源最丰富　　B. 乙离夏季风源地近，风能资源较丰富

C. 丙位于第一级阶梯，水能资源最丰富　　D. 丁的风能、水能、太阳能都比较丰富

15. 输电通道的建成投运（　　）

①占用大量土地资源产生大气污染　　②促进新能源装备制造产业的发展

③将清洁能源全部输送到南方地区　　④可缓解沿海省区能源紧张的状况

A. ①②　　B. ①③　　C. ②④　　D. ③④

第二部分　非选择题

本部分共 4 题，共 55 分。

16. 2022 年，江苏兴化垛田灌排工程体系入选世界灌溉工程遗产名录。读图，回答下列问题。



兴化垛田景观



菜农给“龙香芋”浇水景观

唐代以来，兴化先民为了应对水患灾害，修捍海堤，筑圩堤，兴建排灌设施。明清时期，开河排水、围湖造田、挖泥堆垛，逐渐形成了“湖荡外河一（水闸）一内河-池塘一沟渠一（水闸）一农田”的垛田灌排工程体系。

（1）说出兴化垛田灌排工程　主要功能。

兴化龙香芋生长在垛田中，口感细腻，香味独特。龙香芋喜湿怕干，在田 150 来天需要天天浇水，七、八月份是龙香芋生长的关键期，需要上下午各浇水一次，该作物灌溉工作劳动强度较大。

（2）说明菜农在七、八月份给“龙香芋”浇水的主要目的。

（3）简述龙香芋栽种在垛田的有利条件。

17. 白鹤滩水电站位于云南省巧家县和四川省宁南县境内，是仅次于三峡水电站的世界第二大水电站，也是实施“西电东送”的国家重大工程，下图为白鹤滩水电站位置示意图及纪念邮票。读图，回答下列问题。

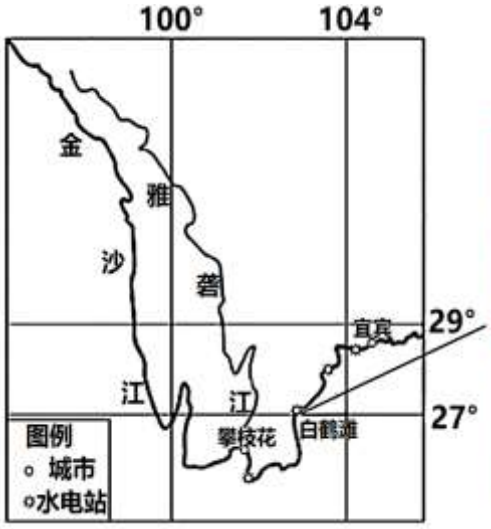



表：金沙江流域各月平均降水量

月份	1 月	2 月	3 月	4 月	5 月	6 月	7 月	8 月	9 月	10 月	11 月	12 月
降水量（毫米）	9.9	10.4	16.1	34.0	83.0	171.0	228.6	195.3	155.2	80.5	29.4	8.3

（1）依据表绘制金沙江流域降水量统计图，并推断金沙江干流流量特征。

白鹤滩水电站具有发电、防洪、拦沙等功能，水库水位的运行机制为每年5月底降至最低水位，6一8月按汛期限制水位（为保证水库安全，预留调洪库容设立的上限水位）运行，9月蓄至最高水位。

（2）结合金沙江流域的降水特点，说明白鹤滩水库水位运行机制的合理性。

白鹤滩水电站投产发电后，年均发电量可达624.43亿千瓦时，每年可节约标煤约1968万吨，减少排放二氧化碳5160万吨。

（3）说明白鹤滩水电站建设对国家安全的意义。

巧家县依托白鹤滩水电站建设和移民安置政策带来的机遇，大力发展清洁能源、围绕水电的特色文旅产业以及特色农业，正在实现“建设一个电站、带动一方经济、改善一片环境、造福一方百姓”的美好愿景。

（4）评价白鹤滩水电站建设对巧家县发展的影响。

18. 中亚地区是“一带一路”战略中“丝绸之路经济带”的重要节点。下图为中亚区域图。读图，回答下列问题。

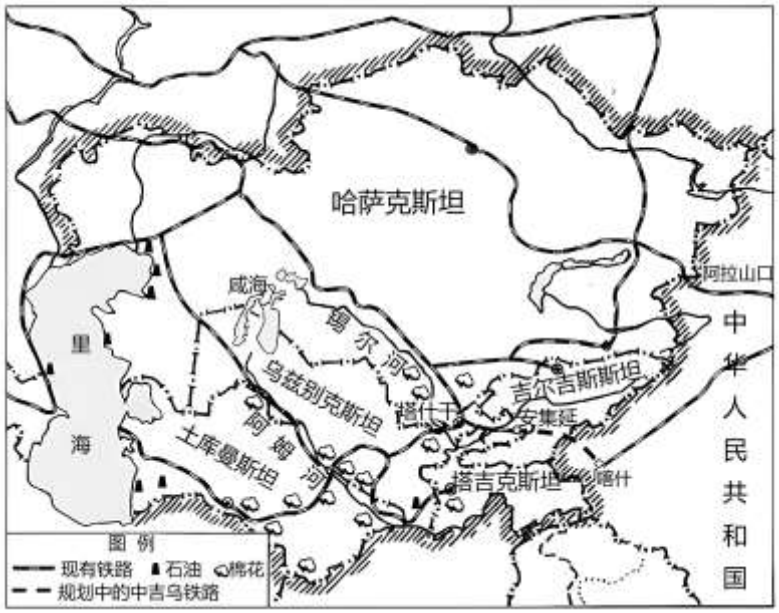

中亚的乌兹别克斯坦盛产棉花，棉花主要集中分布在安集延州为主的东部地区，素有“白金之国”的美誉。长期以来，当地农民引锡尔河水灌溉，发展棉花种植，使河口附近湖岸向湖心移动。

（1）分析河口附近湖岸位置变化的原因。

乌兹别克斯坦自然资源丰富，制造业和加工业相对落后。2009年，中国在乌兹别克斯坦投资建立首个中乌合资工业园区一鹏盛工业园。该工业园距首都塔什干市约70公里，有着“丝路明珠”的美誉。目前，园区已有瓷砖、皮革、制鞋等十余家中国企业入驻，发展成为集工业和农业为一体的综合产业园区。

（2）简述该园区吸引我国企业入驻的条件。

中吉乌铁路（我国新疆喀什一乌兹别克斯坦的安集延）是区域间互联互通的战略性工程，将于2023年开工建设。铁路建成后，将是我国到欧洲、中东的最短货运路线，将缩短货运路程900千米，节省时间7至8天。

（3）简述修建中吉乌铁路对我国的战略价值。

19. 2022 年 8 月，某同学到自然博物馆参观了“马赛人”展区：瞭望马赛人的村庄，走进马赛人的茅草屋，感受奇特马赛人的生活气息。下图为该同学制作的手抄报。读图，回答下列问题。



（1）绘制思维导图说明传统马赛人游牧的原因。

（2）举例说明马赛人适应游牧生活的具体表现。

（3）你是否赞同如今马赛人的生产、生活方式，说明理由。

参考答案

第一部分 选择题

本部分共 15 小题，每小题 3 分，共 45 分。在每题列出的四个选项中，选出最符合题目要求的一项。

【答案】1. D　　2. B

【解析】

【1 题详解】

从图中可以看出，在环球航行过程中依次经过太平洋、大西洋、印度洋，A 错误；首次穿过赤道时日期为 12 月 4 日，该日直射点位于南半球，赤道地区太阳日出东南方，正午时太阳位于正南方天空，日落西南方，故一天中太阳不会经过西北方向天空，B 错误；抵达合恩角日期为 1 月 19 日，该日直射点位于南半球，当地为南半球，所以昼长夜短，故 C 错误；绕过好望角当天为 2 月 13 日，直射点位于其所在纬度的北方，故正午时太阳位于正北方天空，影子朝南，D 正确。故选 D。

【2 题详解】

S1 航段南部位于菲律宾群岛以东太平洋，已经不在我国领海范围内，A 错误；世界大洋表层海水盐度以副热带海域最高，由此向赤道和两极逐渐降低，S2 沿线由赤道经过副热带向更高纬度航行，表层海水盐度先增后减，故 B 正确；S3 海域位于南半球中纬度受盛行西风影响，南半球盛行西风以西北风为主，C 错误；S4 沿线由高纬度向低纬度航行，表层海水温度逐渐升高，D 错误。故选 B。

【点睛】太阳一天的位置和方向：1、太阳直射赤道上，全球日出正东，日落正西；2、太阳直射北半球，全球日出东北，日落西北（极昼、极夜地区除外）；3、太阳直射南半球，全球日出东南，日落西南（极昼、极夜地区除外）。

3. 【答案】B

【解析】

【详解】读图并结合等压线的数值可知，甲地附近吹偏南风，甲地靠近高压中心，降水较少，A 错误；乙地地处高压中心，气流下沉，因此降水较少，天气晴朗，B 正确；丙地位于高压脊，高压脊处气流不会辐合，C 错误；丁地等压线密集，风力较大，但是大风天气与海啸的形成无关，D 错误；故选 B。

【点睛】海啸，是指由海底地震、火山爆发、海底滑坡或气象变化产生的破坏性海浪。海啸的波速高达每小时 700～800 千米，在几小时内就能横过大洋；波长可达数百公里，可以传播几千公里而能量损失很小；在茫茫的大洋里波高不足一米，但当到达海岸浅水地带时，波长减短而波高急剧增高，可达数十米，形成含有巨大能量的“水墙”。

【答案】4. A　　5. D

【解析】

【4 题详解】

水、石油、天然气三者的密度关系为：水>石油>天然气，密度大的会沉聚在下方，密度小的会浮在上方。因此在空间分布上天然气在上方，地下水在下方，故甲是天然气、乙是石油、丙是地下水。综上所述，本

题选 A。

【5 题详解】

油气的密度较小，会浮在地下水的上方，因此储存在背斜构造，A 错；煤层气是历史时期生物固定的太阳辐射，分布于沉积岩储层中，变质岩在形成过程中会经受高温高压的破坏，B 错误；煤层的形成需要地壳运动的参与，莫霍界面以上才是地壳，C 错；煤层所在岩石为沉积岩，一般情况下，先形成的在下层较深，后形成的在上层较浅，故浅部煤层是较晚时间形成的，D 正确。综上所述，本题选 D。

【点睛】煤炭是千百万年来植物的枝叶和根茎，在地面上堆积而成的一层极厚的黑色的腐植质，由于地壳的变动不断地埋入地下，长期与空气隔绝，并在高温高压下，经过一系列复杂的物理化学变化等因素，形成的黑色可燃沉积岩。

【答案】6. A　　7. B

【解析】

【6 题详解】

从图中可以看出，甲乙丙丁四地距密云水库的远近程度不一，甲地距离最近，因此甲地的土壤含水量最高，当地的土壤受密云水库的影响最明显，A 正确，故选 A。

【7 题详解】

从材料中可知，当地积极开展了植树造林活动，提高当地的植被覆盖率，伴随着至森林覆盖率的上升，当地的降水量会增加，气温的日较差也会减小，A 错误；因为植被变多，所以流入水库的地表径流中泥沙含量会变少，水库的含沙量会减少，水库中淤积的泥沙减少，其库容量会增加，B 正确；水库的流域面积与当地的植被覆盖率无关，C 错误；随着植被覆盖率的上升，当地的生物多样性也会增加，地表径流会减少，D 错误；故选 B。

【点睛】植被越多，地表植被覆盖率越大，大地比热容就越小，昼夜温差变小，气温趋于稳定。植被对气温的影响多体现在温差方面。植被（蒸腾+促进下渗补充地下水）——提供降水水汽——水+植被——地表比热容变小——温差小。

【答案】8. D　　9. C

【解析】

【8 题详解】

从图中可以看出，上海的产业基地分散布局在上海各地，并不是集中连片布局在沿海地区，在内陆地区也有分布，分散布局不利于共同利用基础设施，①③错误；从图中可以看出，产业基地都位于郊区，郊区距离市区较远，地价相对较低，②正确；图中的精品钢材产业基地位于宝山附近，靠近上海的宝山钢铁厂，与当地的产业特点相关，④正确，故选 D。

【9 题详解】

上海能够吸引众多的世界 500 强企业的国家级总部落户，是因为上海优越的地理位置，上海地处长江的入海口，中国海岸线的中点，因此上海的地理位置优越；其次上海依托长江和长三角，其经济腹地非常广阔，区域辐射能力强；上海有国家级开发区—浦东新区，国家的政策支撑上海的经济发展；上海的自然资源并不丰富，②错误；故选 C。

【点睛】上海，简称“沪”或“申”，是中华人民共和国省级行政区、直辖市、国家中心城市、超大城市、上海大都市圈核心城市，国务院批复确定的中国国际经济、金融、贸易、航运、科技创新中心 。

【答案】10. B　　11. C

【解析】

【10 题详解】

据图可知，阿拉伯联合酋长国位于北回归线附近，属于热带沙漠气侯，常年受副热带高压带控制，盛行下沉气流，全年炎热干燥、降水稀少，故 B 正确，对流旺盛，降水多，全年降水少，水量季节变化小，故 AC 错，超采地下水属于人为原因，故 D 错，本题选 B。

【11 题详解】

西澳大利亚是寒流，故 A 错，北印度洋洋流属于季风洋流，冬季该海域洋流呈逆时针，故 B 错，巨型冰山体积大，温度低，在拖运过程中将破坏拖出地、拖入地及沿线的生态环境，故 C 正确，不可能彻底解决阿拉伯联合酋长国的缺水问题，故 D 错，本题选 C。

【点睛】阿联酋地处中东，阿拉伯半岛，波斯湾南岸，拥有丰富的石油资源。地理上属于严重缺少的国家，但因为石油积攒了巨额的财富，再加上拥有先进的技术支持，可以大量淡化海水，以便解决先天的缺水困扰。

【答案】12. C　　13. B

【解析】

【12 题详解】

由图中经度范围可知，意大利位于东半球（20°W 向东至 160°E　经度范围），A 错误；由板块构造学说可知，该区域处于欧亚板块与非洲板块消亡边界，B 错误；意大利位于欧洲南部，包括亚平宁半岛及西西里、撒丁等岛屿，东、南、西三面临地中海，海岸线漫长，多优良港湾，C 正确；该国为欧洲发达国家，老龄化严重，D 错误。故选 C。

【13 题详解】

由图中位置及景观图可知，科尔蒂纳丹佩佐是意大利的一个山间小镇，平均海拔较高，与米兰相比，冬季气温应较低，A 错误；材料中提到“历史悠久滑雪小镇”可知，适合高山滑雪，B 正确；米兰位于世界上最富饶的地区之一波河平原的中心，该小镇交通没有米兰优越，且两地都不临海，C 错误；米兰是该国第二大城市，城市化水平高，科尔蒂纳丹佩佐是意大利的一个山间小镇，城市水平低，D 错误。故选 B。

【点睛】米兰是世界时尚艺术中心，世界设计之都，世界历史文化名城，欧洲四大经济中心之一；科尔蒂纳丹佩佐是意大利的一个山间小镇，仅 6 千人左右，但是它早就是驰名遐迩的冬季运动中心。

【答案】14. D　　15. C

【解析】

【14 题详解】

本道题主要考查我国清洁能源的分布状况，甲地纬度高，但气候比较湿润，因此太阳能资源相对不丰富，故 A 排除；乙距离冬季风源地近，故 B 排除；丙地位于第一级阶梯，但河流水量少，因此水能资源比丁欠缺，故 C 排除；丁地位于阶梯交界处，地势起伏大，海拔高，风力强劲，因此风能、水能、太阳能都比较

丰富，故 D 正确。因此排除 A、B、C，选择 D。

【15 题详解】

输电通道的建成投运会占用大量土地资源，清洁能源使用会减少大气污染，故①错误；多为清洁能源，输电通道的建成投运能够促进新能源装备制造，故②正确；输电过程中，会有损耗，因此不能全部输送到南方地区，故③错误；将清洁能源输送到沿海地区，能够缓解沿海地区能源紧缺状况，故④正确。因此组合②④正确，故排除 A、B、D，选择 C。

【点睛】清洁能源，主要分为狭义和广义两种概念。狭义的清洁能源是指可再生能源，如水能、生物能、太阳能、风能、地热能和海洋能。这些能源消耗之后可以恢复补充，很少产生污染。广义的清洁能源则包括在能源的生产、消费过程中，选用对生态环境低污染或无污染的矿产资源，如天然气、清洁煤和核能等。

第二部分　非选择题

本部分共 4 题，共 55 分。

16. 【答案】（1）发挥了排水、灌溉、防洪、航运、人居、生态、水土保持等复合完备的功能。

（2）龙香芋喜湿怕干，七、八月份是龙香芋生长的关键期，菜农在七、八月份给“龙香芋”浇水可以使保障其在生长关键期有足够的的水分以供生长发育，提高“龙香芋”的质量。

（3）地势高，排水良好；土壤肥沃，易耕作；四面环水，易浇灌；光照足；通风好；为传统的生态种植方式/种植经验丰富；劳动力丰富。

【解析】

【分析】本大题以江苏兴化垛田灌排工程体系为材料设置试题，涉及世界主要气候类型的成因、特征、分布、农业区位因素、区域发展差异与因地制宜、农业发展方向与措施相关内容，考查学生获取和解读地理信息、调动和运用地理知识、基本技能、描述和阐述地理事物、地理基本原理与规律、论证和探讨地理问题能力，综合思维、区域认知、地理实践力和人地协调观素养。

【小问 1 详解】

结合所学和材料所述，兴化垛田灌排工程的主要功能包括：利用垛田和河网的高度差进行排水；利用垛田周围河网进行灌溉；强降水期间，河网连接外河，可以疏导过量的地表水；河网便于菜农用船只运输作物和管理垛田；垛田提供了居住的土地资源；水田联合有利于生态环境的保护和水土保持，体现了人与自然和谐共处的精神。

小问 2 详解】

结合材料和所学，龙香芋喜湿怕干，在田 150 来天需要天天浇水，七、八月份是龙香芋生长的关键期，需要上下午各浇水一次，龙芋香在生长期需水量大，频繁浇水有利于保障其在生长关键期有足够的的水分以供生长发育；同时，给予龙芋香合适的生长环境有利于提高“龙香芋”的质量。

【小问 3 详解】

结合材料和所学，栽种在垛田的有利条件主要从适合龙芋香生长的自然环境和便于菜农管理龙芋香两方面分析。垛田周围水网密布，水分可以不断补给垛田；水系蒸发使得空气湿润，适合龙香芋生长发育；垛田周围水网密布，便于菜农进行浇水；地处亚热带季风气候区域，夏季降水多，垛田高于周围河流水位，便

于排水，防止龙香芋被淹涝。

17. 【答案】（1）

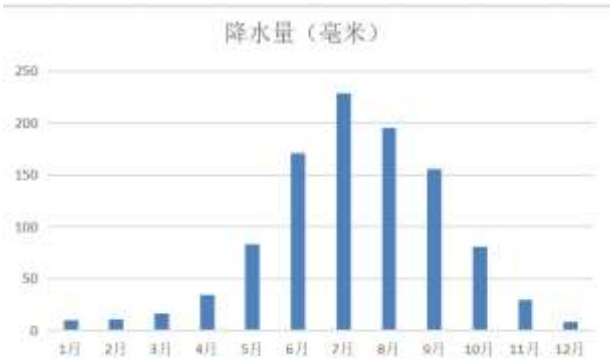

径流量大，径流量季节变化大，6-9 月为汛期。

（2）金沙江流域降水集中在 6-9 月，5 月底降至最低水位为雨季来临前腾空库容；水位，保障冬季发电的稳定性和供水需求。

（3）提供清洁能源，缓解我国东部地区能源紧张，优化能源消费结构，保证能源安全；减少污染物排放，提高大气环境质量，保证生态安全。

（4）有利影响：增加旅游资源，提高知名度，促进经济的发展；增加湿地面积，改善当地生态环境；完善基础设施；增加就业机会；增加收入。（经济、生态、社会）不利影响：淹没农田，需要大量移民，破坏生物生存环境等。

【解析】

【分析】本题以白鹤滩水电站的建设为材料，涉及河流水文特征、流域的综合开发等知识点，考查学生从材料中获取信息的能力以及应用所学知识的能力，考查学生的区域认知、综合思维及人地协调观方面的核心素养。

【小问 1 详解】

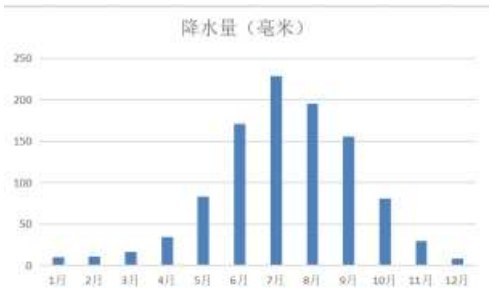

绘制降水量统计图结合表格数据进行，从数据可以看出，金沙江流域的降水量在整体上比较大， 因此降水比较丰富，其次从季节上看，金沙江流域的降水量季节分配不均，明显夏季 6-9 月降水多，冬春降水少。推断受降水影响，金沙江干流径流量大，径流量季节变化大，6-9 月为汛期。

【小问 2 详解】

从材料中可以看出，金沙江流域降水集中在 6-9 月，在这个时间段，金沙江流域的降水量非常大，金沙江的流量剧增，水位升高，如果这个时候才开始开闸，时间不够，因此在运行机制上，白鹤滩水库会在 5 月底降至最低水位，其主要目的是为雨季来临前腾空库容，更好的发挥抗洪的作用；其次 9 月份白鹤滩水库将水位抬到最高，是为了迎接干季，金沙江流域冬季降水少，因此为了保障冬季发电的稳定性和供水需求，白鹤滩水库需要提前蓄至最高水位。

【小问 3 详解】

白鹤滩水电站的建设对国家的意义有很多。比如白鹤滩的建设提供会为国家提供大量的清洁能源，可以缓解我国东部地区能源紧张，进一步优化能源消费结构，从而保证我国的能源安全；白鹤滩水电的建设可以减少很多污染物的排放，进而提高我国大气环境质量，从而保证生态安全。这些都是白鹤滩水电站的建设对我国国家安全的意义。

【小问 4 详解】

白鹤滩水电站的建设对巧家县的影响是有利有弊的。在有利影响的方面：水电站的建设会增加当地旅游资源，可以提高巧家县的知名度，从而促进经济的发展；白鹤滩水电的建设所形成的的水库会增加湿地面积，水库会改善当地生态环境；通过建设白鹤滩水电站，巧家县可以进一步完善当地的基础设施；也可以利用水电站的建设和运作来增加当地的就业机会和提高居民的收入。在不利影响方面：白鹤滩水电站的建设会淹没许多农田，当地的政府需要大量移民，其次，水电站的建设也会破坏当地生物生存环境，影响生物多样性等。

18. 【答案】（1）全球气候变暖，湖水蒸发量加大；种植棉花引河水灌溉，使入湖径流量减少，湖泊水位下降，导致河口附近湖岸向湖心移动。

（2）自然资源丰富；劳动力成本低/工资水平低；土地价格低/生产成本低；政策支持；园区基础设施完善。

（3）完善我国与中亚地区交通运输网，形成我国通往中亚、中东、欧洲的便捷运输通道；拓宽运输范围；缩短运输距离/节省运输时间/降低运输成本；利于对外联系/西部大开发；（有利于中亚、里海石油的开发和利用）增加我国石油进口来源。

【解析】

【分析】本题以乌兹别克斯坦的相关资料为材料，涉及自然环境的整体性、工业区位因素及交通运输对区域发展的影响等知识点，考查学生对材料的认知能力，以及获取信息的能力，考查了学生的区域认知及综合思维等核心素养。

【小问 1 详解】

分析河口附近湖岸的变化，应该从人类活动和自然方面方面入手。伴随着全球气候变暖，当地湖水蒸发量加大，造成湖水面积的缩小；从材料中可以看出，当地种植棉花引河水灌溉，这样使入湖径流量减少，进而湖泊水位下降，这些因素都会导致导致河口附近湖岸向湖心移动。

【小问 2 详解】

从材料中可以看出，乌兹别克斯坦的自然资源丰富，为工业发展提供原材料；当地是发展中国家，因此劳动力的成本低，利于降低成本；其次当地土地价格低。进而导致了生产成本低；从材料中可以看出我国企业入驻园区还有我国政府的政策支持；其次该园区基础设施完善也会吸引着大批中国企业的到来。

【小问 3 详解】

随着中吉乌铁路的建设，这条完善我国与中亚地区交通运输网，从而形成我国通往中亚、中东、欧洲的便捷运输通道，这会极大的方便中国的产品运输到欧洲等地；其次铁路的建设也拓宽运输范围、缩短运输距离、节省运输时间、降低运输成本；通过中吉乌铁路，我国对外联系也更加的方便了，这条铁路也有利于中亚、里海石油的开发和利用，方便我国的企业在当地投资兴建石油化工工业，也会增加我国石油进口来

源，保障我国的能源安全。

19. 【答案】（1）

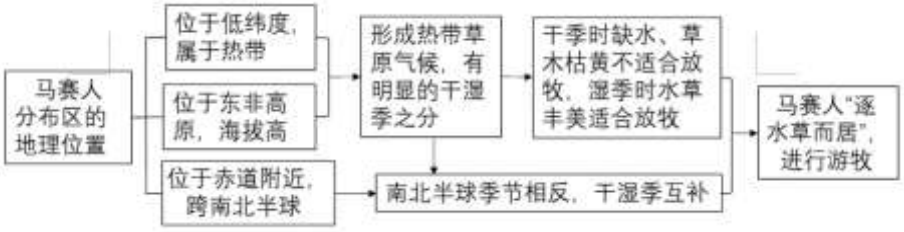

（2）房子是由泥土和牛粪堆积而成，便于就地取材，也便于迁徙；着装颜色鲜艳，爱用红色，有效地驱赶野兽；随身携带一根木棍，用于防身、赶牛；身高很高、弹跳力好、视力好，便于眺望，找寻食物等。

（3）赞成。马赛人坚持传统的生活方式，利于文化传承；传统文化有特色，可以用于发展旅游业；发展旅游业促进经济发展，促进就业，提高当地居民的生活水平，政府鼓励定居等。不赞成。马赛人坚持的传统生活方式比较落后，不利于现代化发展；发展旅游业可能带来生态破坏，引起文化冲突等。

【解析】

【分析】本题以马赛人　相关资料为材料，涉及自然环境的整体性等知识点，考查学生从材料中获取信息的能力以及区域认知和综合思维等核心素雅。

【小问 1 详解】

结合材料来绘制马赛人游牧的原因，注意结合当地的气候，当地是非洲的热带草原气候，成因是地处赤道附近，但海拔较高，形成了热带草原气候，其气候特征是全年高温，分为干湿两季，干湿两季的农业景观不同，这对于马赛人的迁徙有着影响。

【小问 2 详解】

从材料中可以看出，当地房子是由泥土和牛粪堆积而成，原因是就地取材，其次这种房子也便于迁徙；马赛人的着装颜色鲜艳，爱用红色，这种鲜艳的颜色可以有效地驱赶野兽；从材料中可以看出，马赛人随身携带一根木棍，用于防身、赶牛；而马赛人的身高很高、弹跳力好、视力好，这些身体条件都是为了他们便于眺望，找寻食物等。

【小问 3 详解】

赞同和不赞同都可以，注意要从不同的角度来回答。 赞成的话，马赛人坚持传统的生活方式有利于其文化传承，这些传统文化可以用于发展旅游业；而发展旅游业促进经济发展，促进就业，提高当地居民的生活水平。不赞成的话，马赛人坚持的传统生活方式比较落后，不利于现代化发展；发展旅游业可能带来生态破坏，引起文化冲突等。