2025 北京西城高三二模

历　　史

2025.5

本试卷共 8 页，100 分。考试时长 90 分钟。考生务必将答案答在答题卡上，在试卷上作答无效。考试结束后，将本试卷和答题卡一并交回。

第一部分

本部分共 15 题，每题 3 分，共 45 分。在每题列出的四个选项中，选出最符合题目要求的一项。

1．内蒙古鄂托克旗境内分布有秦昭王长城、秦始皇长城、隋长城、宋代烽燧和明长城，鄂托克民族服饰融合了晋陕蒙农耕民族与游牧民族服饰元素。以上涉及到的民族交往方式包括

①地缘性交往　　②语言交流　　③心理交融　　④习俗交融

A．①③　　B．①④　　C．②③　　D．③④

2．甘肃居延发现一批记录边塞屯戍人员名籍的汉简，下图汉简的释文为“戍卒淮阳郡西华南川里不更周充年廿三”“戍卒梁国已氏官里陈可置”。“不更”是爵位名，可免服在本郡县的徭役即更卒。梁国是汉景帝弟弟刘武及其后代的封国，已氏县位于今山东省。以下推论正确的是



A．戍边名册登记对象仅限于本郡

B．“里”是政府征派赋役的单位

C．王国或郡的百姓都需赴边屯戍

D．有爵位的男子可免服所有徭役

3．1036 年，辽朝皇帝下令纂修辽太祖以来的法令，参照唐代法制，编成《重熙新定条例》。1070 年，更定《条例》时，凡合于汉人《律令》者皆载入，不合者另行存列，按类分编，律例并行，成为《元典章》及明清律例的雏形。这反映出辽朝法律的特点是

①带有本民族原有法令的色彩　　②具备汉族唐宋法律的基本模式

③开创了法典律例合编的体例　　④从沿用习惯法到照搬汉族法律

A．①②　　B．①④　　C．②③　　D．③④

4．《回回药方》是元明之际的回回医学家编译的一部回回医药方剂汇集，该书用汉语书写，夹杂许多阿拉伯语与波斯语的医药术语。在针灸这部分内容中，“烙灸法”带有明显的阿拉伯医学特色，也出现了中医特有的针灸穴位。由此可知，《回回药方》

A．经由阿拉伯人直接传入中国境内　　B．分为中医与伊斯兰医学两大部分

C．极大地丰富了中医传统的本草学　　D．体现了伊斯兰医学与中医的融合

5.宋朝时，长江下游和太湖流域一带是丰饶的米仓。乾隆年间，长江水系粮食外运量的高峰期为四川 300 万石、湖南 800 万石、湖北 200 万石、江西 450 万石、安徽 100 万石，总量在 1850 万石以上，主要供沿海地区之用。这一变化说明清朝时

①长江下游和太湖流域农耕技术落后　　②长江水系是粮食运销的渠道

③全国经济重心移至长江中上游地区　　④沿海地区成为粮食的流入地

A．①②　　B．②③　　C．②④　　D．③④

6.1875 年，邝其照编写的《字典集成》第三版出版，其序言写道：“自中外通商以来，各处港口贸易日广，凡贸易必兼通洋文，而洋文以英文为正。但学英文者每苦其难，必有音义之可寻始能易于通晓。”由此推断，邝其照编写英汉词典的目的是

A．鸦片战争后清政府被迫开放门户　　B．人们对英语学习的需求不断扩大

C．为普通民众学英语提供实用工具　　D．取代西方人编纂的英华双语词典

7.《中华民国临时约法》颁布后，有人对“国务员辅佐临时大总统，负其责任”一条提出质疑：“是大总统无责任,而国务员独负责任乎？抑大总统自负责任，而国务员辅佐之以兼负责任乎？此为对议会负责任乎？为对大总统负责任乎？”此人认为《临时约法》

A．立法过于仓促，未经过科学论证　　B．是西方政治思想在中国的具体实践

C．基于中国国情，实现了制度创新　　D．未清晰界定总统、内阁和国会的权力

8．下方为“一五”计划期间我国民用工业企业和国防工业企业在不同地区的分布数量统计图（单位：个）。图中信息表明“一五”时期

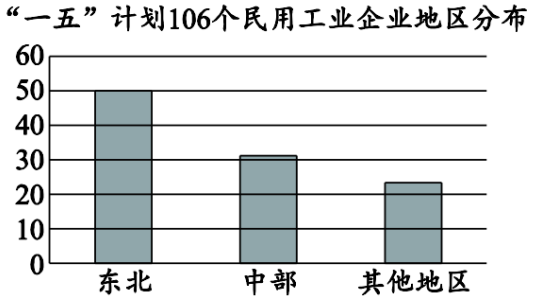

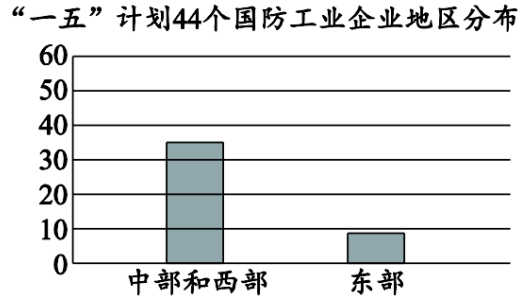

①东北地区民用工业企业数量多，国防工业企业数量少

②大多数国防工业分布在东部交通便利、资源丰富之地

③工业企业的空间规划蕴藏着统筹安全与发展的智慧

④我国工业企业分布不均衡的历史格局得到根本扭转

A．①③　　B．②③　　C．②④　　D．③④

9．20 世纪 80 年代以来，“汉语世界学术丛书”“早期中国研究丛书”“海外中国研究译丛”“海外中国研究丛书”等海外中国问题研究的大型学术丛书出版。既有外国人研究中国的著作，也有中国人用外语撰写的著作的回译。此举的重要意义在于

A．为中国推进改革开放提供各国的历史经验

B．保存古代中国和当代中国的宝贵原始资料

C．整理域外汉学成果，丰富国人的学术视野

D．通过梳理学术史推动中国史学研究的转型

10．15 世纪时，在尼德兰、英国、法国和德国的某些地区流行分成制。部分富裕农民本人参加劳动的同时雇用长工或短工，还提供部分生产资料，封建领主提供土地和另一部分生产资料，双方订立长期契约并按比例分配收成。这反映出欧洲经济发展的趋势是

A．自给自足的自然经济占主导　　B．越来越多的农产品进入市场

C．封建领主直接参与生产管理　　D．逐渐采用新的生产经营方式

11．1727 年，伏尔泰因反对法国专制统治流亡到英国，1734 年出版的《哲学通信》中极力推崇君主立宪制。孟德斯鸠来到英国后，结合见闻写了《论法的精神》一书，提出为防止君主政体演变成专制政体应实行三权分立。两位思想家的人生履历可以佐证

A．法国是欧洲启蒙运动的中心　　B．个人思想创新取决于所处的空间

C．思想解放是社会变革的先导　　D．启蒙运动发生和发展的空间轨迹

12．19 世纪初，英国罹患职业病被视为工人个体的不幸遭遇。1864 年，经过调查后,枢密院医疗官约翰·西蒙指出：“为了饱受职业病折磨的劳动者的利益，劳动卫生环境应纳入法律条款。”此后英国逐渐建起职业病防治体系。对职业病的认知

①推动英国率先发生工业革命　　②从“个人原因”向“劳动环境”转变

③促进了科学社会主义的诞生　　④反映出工业革命推动国家职能的扩大

A．①②　　B．①③　　C．②④　　D．③④

13．1867 年匈牙利在奥匈帝国中获得自治，1870-1871 德国和意大利完成统一，爱尔兰、波兰争取独立的斗争一直在延续。这反映出当时欧洲的发展趋势是

A．民族意识逐渐觉醒　　B．从分裂割据走向统一

C．普遍实行基层自治　　D．各国的联系日益紧密

14．1922 年埃及宣布独立后，中国报刊盛赞这是埃及人民多年奋斗的结果，同时也作出“埃及民族运动尚未成功，还待努力”的判断。可以支撑以上观点的是

①埃及人提出“埃及是埃及人的埃及”的口号

②国大党领导的非暴力不合作运动存在局限性

③埃及宣布为独立国家，其后颁布第一部宪法

④英国承认埃及为独立主权国家，但保留驻军

A．①②③　　B．①②④　　C．①③④　　D．②③④

15．下表为 2016 年全球主要经济合作区块的一组数据，同一区块未必地理位置相邻，相距较远贸易联系紧密的国家也能成为同一区块。表中信息反映出当前经济合作的特征是

区块名称	“一带一路”	欧亚经济联盟	美洲自由贸易区	欧洲	全面与进步跨太平洋伙伴关系协定	区域全面经济伙伴关系
驱动中心	中国	俄罗斯	美国	欧盟	日本	东盟
国家和地区数量	65	6	34	44	11	16
GDP 占全球份额%	30.67	1.98	33.32	25.21	13.42	31.5

A．合作区域覆盖所有国家和地区　　B．多驱动中心和区块化

C．以美国为中心和区域集团化　　D．出现“逆全球化”趋势

第二部分

本部分共 5 题，共 55 分。

16.（10 分）铜币与纸币

材料一 两宋时期，中国铜币成为东北亚、南亚和东南亚的硬通货。东北亚的高丽国原先不懂铸钱，掌握了铸钱技术后铸造的铜钱质量不如宋钱。隋唐时期中国铜币已经流行于日本，南宋覆灭之后的镰仓时代，宋钱依然被市场所接受。宋代大量向南亚和东南亚地区输出铜币并获取当地的产品，在波斯湾的阿拉伯地区也流通宋代铜币。

材料二 北部的纸币圈涵盖辽国、西夏、金国和 13 世纪开始的大蒙古国。金国吸纳了宋朝货币制度的经验，构建了纸币和金属货币并存的货币制度，至金章宗年间，纸币交钞的地位已经相当稳固。忽必烈为了填补金国灭亡的空白，在华北地区发行“交钞”和“中统钞”。在之后近二十年间，蒙古政权禁止黄金、白银和铜钱流通，中统钞成为与南宋货币互补的货币。元朝与南宋战争期间，忽必烈允许在其占领区继续使用南宋货币，最后通过实施公平的中统钞兑换，完成了货币制度的大一统。

摘编自《交子：世界金融史的中国贡献》

（1）依据材料一并结合所学，简述宋代铜币广泛流通的原因。（4 分）

（2）依据材料二并结合所学，概述忽必烈推进“货币制度大一统”的过程及意义。（6 分）

17.（13 分）文物见证历史

材料一 下列文物出自“希腊人一从阿伽门农到亚历山大”展览



图 1 青铜身份牌



图 2 抽签器

公元前 4 世纪的青铜身份牌，出土于雅典市政广场的公民法庭遗址区域。当时每一位公民都有一个刻着自己姓名的青铜

材料二 雅典陪审会亦称“陪审法庭”，古希腊雅典的最高司法机关。约创于公元前 6 世纪初梭伦改革时。公元前 5 世纪中叶成为雅典民主政治的重要机构，除参与审理案件外，也有监督公职人员之权，其成员计约 6000 人，每年从公民中抽签选出；分别组成 10 个委员会，轮流执行职务。

—摘自《辞海》

（1）依据以上材料并结合所学，说明图中文物反映的雅典政治制度的特点。（4 分）

材料三 1933 年，以英国收藏家为首的西方汉学界，倡议举办中国艺术国际展览会，以“谋中国艺术品之国际欣赏”，除向欧美各国征集外，还与中国驻英大使郭泰祺接洽。

中国政府选择“足以代表本国文化者”，“依艺术史上发展次第作为系统”参展。后又决定与本国有特殊重要价值之古物，或只有一件之绝品，不运往展览。最终展出的文物以故宫南迁文物为主，包括瓷器、家具、文具、景泰蓝、漆器、折扇等种类，共 1022 件。此前大多数西方人认为中国艺术品就是陶瓷器。郭泰祺强调中国书画绵延历三千余年，“实为创造力之象征”，并指出“中国今日在空前之困难中，而犹能奋勉从事国家复兴事业，端赖此创造力鼓起其精神”。在布展时，原本价值不高的乾隆宝座被英国人特意置于最显要位置，这受到故宫博物院随同人员的批评：“徒求迎合观众好奇之心理。”

1935 年 11 月至次年 3 月，“中国艺术国际展览会”在伦敦成功举办。这是中国文物第一次出国展览，共计接待参观者 42 万多人次，包括许多来自德国、意大利、法国、比利时、奥地利及美国等国的观众。

——摘编自《文物的力量——读徐婉玲〈变局与新局：伦敦中国艺术国际展览会始末〉》

（2）依据材料三并结合所学，评析伦敦中国艺术国际展览会。（9 分）

18.（6 分）“传邮万里，国脉所系

材料一

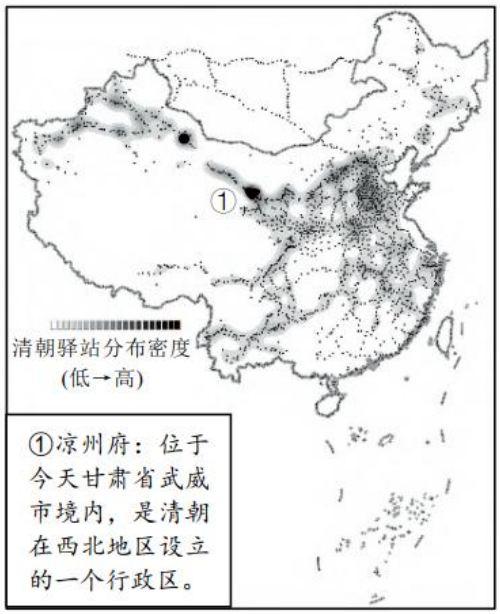

图 1 清朝驿站空间分布示意图

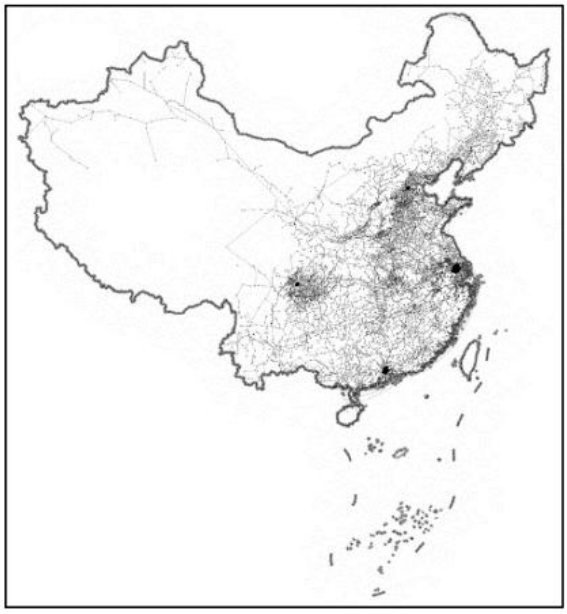

图 2　20 世纪 30 年代邮政代办点空间分布示意图

材料二　我国秦朝建立的全国邮传体系，至 1912 年裁撤。1896 年大清邮政建立，国营邮政在近代是全国唯一组网成功的官民通用的物流（轻薄物品）、信息流、金融流（汇兑）载体。

——摘编自《近代中国邮政网络与信息可达性（1907–1936）》

依据以上材料并结合所学，分别简述清朝驿站和 20 世纪 30 年代邮政代办点空间分布的特点及其形成原因。

19.（12 分）书写“商标的历史”

材料一　商标起源于原始部落或个人信仰的象征符号。随着生产的发展，标记符号普遍使用在商品上。商标具有来源识别、质量保证、广告和信誉承载等功能。

材料二　　中外商标图案



图 1:北宋刘家功夫针铺商标，是世界上最早的印刷品广告	图 2:18 世纪法国丝锦的商标	图 3:英国东印度公司商标上有“在英格兰国王和议会的授权下”字样	图 4:1920 年中国注册的“红三角”牌纯碱商标	图 5:伊朗航空公司的商标图案出自人首飞牛雕刻

注：图 4 中“黑圈套红角，内绘钳锅”，钳锅是化学工业标志，图样便于消费者识别国货。它在费城“万国博览会”上被誉为“中国工业进步的象征”，沿用至今。

材料三　　13-20 世纪商标发展大事简表

时间	事件（部分）
13 世纪	欧洲行会开始盛行，加入者必须在其产品上有一定的标记
1353 年	英国政府立法规定货物在运输中出现意外，可通过货物标记提出返还要求
1857 年至 19 世纪末	法国制定了世界上最早的商标法，到 19 世纪末多国颁布了本国的商标法。 商标在一国获准，只能在该国领域内发生法律效力，在其他国家无效
1875 年	在商人利益集团推动下，英国通过第一部商标法《注册商标法》，专门的商标保护立法是从建立商标注册制度开始的
1883 年	世博会期间签订《保护工业产权巴黎公约》，开创商标国际协调的先河
1902 年	中英两国签订《续议通商行船条约》，英方提出在华设立商标注册局所，成立后由海关负责其日常管理，最初 20 年注册商标几乎全为外国商标
1923 年	中国颁布了第一部付诸实施的《商标法》
1950 年	中国施行《商标注册暂行条例》，标志着新中国商标法制制度建设的开始
1970 年	世界知识产权组织成立，商标属于知识产权的一种，中国 1980 年加入
1993 年	《与贸易有关的知识产权协定》形成，知识产权贸易成为三大国际贸易之一

以“商标与_____”的格式，列出三个探究主题，（3 分）任选其一，撰写一篇历史短文。（9 分）（要求：立论正确，表达成文，史论结合，条理清晰。）

20.（14 分）使馆区与中国外交

材料一

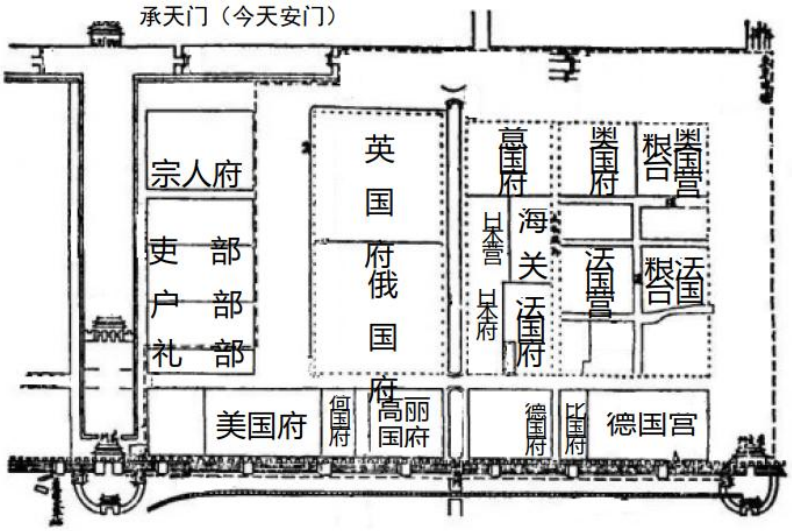

晚清时期北京各国使馆分布示意图

注：为他国外交人员提供使馆馆舍，是各国外交事务的惯例。粮台即存放粮食的台子。

材料二　中华人民共和国成立以来，在北京先后建设了三个使馆区。位于二环路建国门外的第一使馆区始建于1955年。使馆主要有波兰、捷克斯洛伐克、罗马尼亚、保加利亚、阿尔巴尼亚、蒙古、朝鲜和越南等国，面积都比较大。后来英美等国也被安排到这里。位于二环和三环之间的第二使馆区建于20世纪60至80年代，超过3/4的非洲国家大使馆在第二使馆区。位于三环外亮马桥东北边的第三使馆区在21世纪初才开始建设。该使馆区的用地需各国申请，使馆也由各国自行建设。美国、法国、日本等国在这里建设了新馆舍。第二使馆区拥有的国家使馆数比第一和第三使馆区加起来还要多。

（1）依据材料一，简要评价晚清时期北京使馆区的设立。（4分）

（2）依据材料二并结合所学，阐释中华人民共和国时期北京使馆区的变迁。（10分）

参考答案

第一部分共 15 题，每题 3 分，共 45 分。

1.B　2.C　3.A　4.D　5.C

6.C　7.D　8.A　9.C　10.D

11.D　12.C　13.A　14.C　15.B

第二部分共 5 题，共 55 分。

16.(10 分)参考答案要点：

(1)宋朝时期社会经济迅速发展；宋朝铸币技术高，宋币质量好：周边国家长期受中国影响而采用宋币：朝贡关系推动部分国家和地区使用宋币；两宋外贸繁荣推动了沿线地区流通宋币。

(2)首先，利用南宋和金国所奠定的基础，及时发行新纸币，使得政权交替之地带的经济交流得以持续；其次，禁止其他货币流通，扩大了中统钞的影响力：第三，占领南宋地区后沿用其货币，并公平兑换，最终平稳实现币制的统一。

17.(13 分)参考答案要点：

(1)每位公民都有刻着自己的青铜牌，体现出公民主权；国家权力由陪审庭等机构掌握，通过抽签。公民实际地参与民主政治实践。可见，雅典政治制度具有一定的民主性。

(2)参考示例：

伦敦中国艺术国际展览会是中国文物第一次出国展览，向来自各国的观众外系统展示悠久灿烂的中华文化。在世界法西斯国家开始扩张的复杂国际环境下，英国汉学界为“谋中国艺术品之国际欣赏”，举办中国文物国际展览会。中国政府为了更好地保护文物，同时让世界更多了解中国，精选系列文物远渡重洋。

此展览改变了西方人对中国文化的原有认识，一直为西方所忽视的书籍才是中国艺术的主流，但西方人对中国某些文物的价值内涵仍带有偏见。在中国抗战的背景下，一方面，文物承载着民族精神，承担起增强民族认同的历史任务，另一方面，增强了中英联系，对改善中国形象、争取外界对华的同情与善意具有积极影响。展览进一步提升了中华文化的国际影响力，也打开了中国对外交流的一条新通道。

文物是国家的至宝，是国家文明的象征，文物的曲折经历也反映出国家的命运，成为各国交流的重要媒介。

18.（6 分）参考答案要点：

清朝驿站的特点是遍布全国各地，北京周边和凉州府周边密度最高。原因：清朝时现代中国版图逐渐定型，国家治理能力增加，驿站分布主要受政治和军事影响，北京是政治中心，当时与西北地区战事较多。

近代邮政代办点的特点：延续清朝基本格局，形成多中心，北京、四川地区、长三角和珠三角均很密集。原因在于民国时期，中国经济、商业发展有鲜明的地域性，国营邮政网点靠近生产地城消费市场。

19.(12 分)

主题参考示例：商标与商品生产；商标与工业革命；商标与商业贸易；商标与法律制度：商标与社会生活；商标与文化传承与交流；商标与中国社会变迁；商标与殖民地经济等。

短文参考示例略。

20.(14 分)参考答案要点：

(1)近代外交制度建立后，按惯例互派使臣修建使馆区。此举推动中国外交与世界接轨，更好地了解世界信息，跟上世界发展潮流。同时。这些使馆集中在清王朝统治中心，便于列强对清政府的控制，获取更多侵

略权益，加深了中国半殖民地化程度。

(2)参考示例：

新中国成立后，我国按照“一边倒”的方针，先后与多个人民民主国家建立外交关系。在离市中心区较近的建箔门外为这些国家集中建设使馆。随着与西方国家关系的缓和，英美等西方大国的使馆也迁至此地，体现了对这些国家外交关系的重视。

20 世纪 50 年代末到 80 年代，众多亚非拉国家获得独立，中国冲破了西方国家的封锁，打开外交新局面，此时与中国建交的国家数量快速增长，建设新使馆区成为现实需要，反映了这一时期国际格局的变化和中国外交的进一步发展。

进入 21 世纪，中国积极致力于与各大国建立不同形式的伙伴关系，这些国家原有的使馆已无法满足需要，加之经济实力比较雄厚，因此他们积极建设新使馆，第三使馆区由此形成。这反映了中国国际地位的上升，北京成为世界外交重地。

综上，新中国北京使馆区的发展和变迁，反映我国外交适应国际格局变化和自身发展需求，是大国外交纵横捭阖的集中反映，也是中华民族从站起来到不断强起来的缩影。