2025 北京海淀高三二模

历　　史

本试卷共 8 页，100 分。考试时长 90 分钟。考生务必将答案答在答题卡上，在试卷上作答无效。考试结束后，将本试卷和答题卡一并交回。

第一部分

本部分共 15 题，每题 3 分，共 45 分。每题列出的四个选项中，选出最符合题目要求的一项。

1. 春秋时，继齐桓公率先提出“尊王攘夷”，成为王室承认的霸主之后，“尊王”和“攘夷”便成为中原大国争霸时竞相标榜的战略口号，大国诸侯纷纷开展会盟、朝聘、献捷、联姻等活动。以上做法（　）

A. 恢复了西周初宗法分封的格局　　B. 消除了春秋时期诸侯之间的矛盾

C. 有利于华夏共同体意识的发展　　D. 推动了奴隶主阶级掌握国家政权

2. 西汉在敦煌郡的悬泉置设置驿站。考古人员在悬泉置遗址发现了以墨书于墙的西汉末期《四时月令诏条》文书，文书主要内容涵盖了保护水土、动物、林木和依时令指导生产生活等。东汉《风俗通义》亦载：“光武中兴以来，五曹诏书（东汉经由尚书台发布的诏令）题乡亭壁，岁补正，多有阙谬。”这说明两汉时期（　）

①已形成了系统的文书行政制度②邮驿交通发达服务于民间信息的沟通

③注重基层治理，县下设置乡亭④已有保护环境与自然和谐共处的法令

A. ①②③　　B. ①②④　　C. ①③④　　D. ②③④

3. 陈寅恪《桃花源记旁证》指出：“陶渊明《桃花源记》寓意之文，亦纪实之文。”当今的研究者也认为，陶渊明描绘的桃花源并非纯属虚构，而是当时各地区占据山险、构建坞堡状况的理想化描述。据此，《桃花源记》的“纪实”应是（　）

A. 国家统一，社会经济繁荣　　B. 军事强大，不断开疆拓土

C. 政治清明，对外交通发达　　D. 社会动荡，人民渴望安定

4. “会讲”是中国古老的学术研讨方式，宋代尤为兴盛。1167 年朱熹从福建来到长沙，在岳麓书院与湖湘学派的理学大师张栻辩论《中庸》之义，三昼夜不辍，许多学子纷纷赶来听讲。这就是著名的“朱张会讲”。对此现象理解正确的是（　）

①表现出南方地区学术兴盛②确立了理学官方正统地位

③书院教育推动了文化发展④理学的思想体系得以形成

A. ①②　　B. ①③　　C. ①④　　D. ②④

5. 中国历史研究院主编的《中华文明史简明读本》指出，明清时期“与西方国家不同的是，中华文明则以和平性为主旨”。在与世界各地区文明的交流互鉴中，中华文明在政治、经济、文化等方面都呈现出诸多创新气象。能支持以上观点的是（　）

①君主专制发展到中国封建社会的顶峰②开明士大夫翻译和传播西方科技著作

③郑和下西洋构建和平交流为主的秩序④边界条约的出现推动国家观念清晰化

A. ①②③　　B. ①②④　　C. ①③④　　D. ②③④

6. 第二次鸦片战争前，清政府把西方列强要求公使驻京看作古代互遣“监守”或“质子”一类的政治行为，拒绝接受。战后，清政府被迫接受各国遣使驻京的要求。面对中外交涉日益频繁的局面，清政府在1875年向“有约各国”派遣常驻外交使节。上述变化（　）

①背景是民族危机的不断加深②维护了国家领土主权的完整

③说明清朝接受近代外交制度④推动了近代国际法不断发展

A. ①②　　B. ③④　　C. ①③　　D. ②④

7. 1920年8月，《劳动界》在《本报欢迎工人投稿》启事中声明：“本报宗旨，是要改良劳工阶级的境遇的，对于工人现在的情况，当然尽力调查，尽心记载。”《劳动界》提供《劳动调查表》的调查内容，涉及工厂、矿山、工人与家庭等34个小条目。《劳动界》的做法（　）

A. 提高了广大工人群众的政治地位　　B. 推动了五四新文化运动的兴起

C. 促进了知识分子与工人阶级结合　　D. 扩大了中国共产党的政治影响

8. 下列版画是版画家古元1943年在延安创作的作品，对其解读正确的有（　）



图1　减租会



图2　部队秋收

①版画生动反映了抗日根据地的经济生活②图1所反映的史事废除了封建剥削制度

③图2描绘的事件减轻了根据地农民负担④上述作品宣传了中国共产党的方针政策

A. ①②③　　B. ①③④　　C. ①②④　　D. ②③④

9. 1956年党中央发出“向科学进军”的号召，国家制定了《1956—1967年科学技术发展远景规划》，1960年毛泽东在中央工作会议上明确指出：“要下定决心，搞尖端技术。”1963年国家制定了《1963—1972年科学技术规划纲要》。对以上决策的作用叙述正确的是（　）

A. 促进了社会主义基本制度的建立　　B. 推动了“两弹一星”的成功研制

C. 表明“科教兴国”战略开始实施　　D. 保障载人航天飞行技术取得突破

10. 下列年代尺所呈现的历史事件（　）



①标志着国家基本医疗卫生体系建立②进一步完善了农村的医疗保障体制

③彻底地解决了区域性整体贫困问题④基本保障了世界上最多人口的健康

A. ①② B. ①③ C. ②④ D. ③④

11. 如图是乌尔（古代苏美尔人的城邦）墓地出土的一件距今 4500 年的木盒（局部）。盒上镶嵌着波斯湾的贝壳、印度的红色大理石和阿富汗的青金石。盒子一面描绘了战车碾过敌军和抓获俘虏的场景，另一面描绘了国王和随从享受盛宴、百姓献上贡品的场景。此文物可以佐证当时（ ）



①苏美尔人有较高的手工技艺水平②乌尔与亚洲其他地区有物品交流

③乌尔建立了统一的西亚北非帝国④车战是苏美尔人的一种作战方式

A. ①②③ B. ②③④ C. ①②④ D. ①③④

12. 15 世纪，东非从中国进口的瓷器数量增多，价格下降，当地上层人士纷纷改用瓷器取代陶器，原来用树叶盛放食品的下层居民也改用模仿中国瓷器的粗制陶器盛放食品。上述现象（ ）

A. 体现了中华文化对东非的影响 B. 推动了津巴布韦制瓷业进步

C. 促成东非沿海地区国家的形成 D. 改变了非洲地区的饮食结构

13. 19 世纪的空想社会主义认为，资本主义社会违背人类理性，所以是不合理的、罪恶的；而社会主义之所以是理想社会，是因为社会主义符合人类理性。他们将社会改造的希望寄托于资本家的善心之上。这表明空想社会主义（ ）

A. 体现了唯心主义史观 B. 忽视了工人阶级利益 C. 接受了剩余价值学说 D. 促进了启蒙运动兴起

14. 1884 年的国际子午线会议上，法国力图将巴黎天文台所在位置确定为零度经线。但是与会国家代表投票表决，最终将位于泰晤士河畔格林尼治天文台所在位置确定为零度经线，将格林尼治时间作为国际标准时。法国直到 1911 年才最终加入国际标准时体系。这表明（ ）

A. 将巴黎地区作为零度经线更为科学 B. 英法矛盾是帝国主义国家的主要矛盾

C. 标准时随着国家实力变化及时调整 D. 英国拥有世界霸权和最广阔的殖民地

15. 2015 年，亚洲基础设施投资银行（简称亚投行）成立。截至 2021 年，亚投行共批准了 240 多亿美元贷款，惠及 28 个亚洲域内和域外经济体。抗击新冠疫情期间，亚投行还设立规模达 130 亿美元的“恢复基金”，批准了总额超 78 亿美元的 30 个项目，帮助 20 个成员抗击疫情和稳定经济。由此可见亚投行（ ）

①体现了致力于构建人类命运共同体的努力②是环太平洋地区层级最高的经济合作机制

③有利于亚洲地区各国经济合作和危机应对④构建了亚洲的政治、经济合作一体化体系

A. ①② B. ①③ C. ①④ D. ③④

第二部分

本部分共 5 题，共 55 分。

16. 经学与史学

材料一　孔子创立儒学，整理“六经”，后世据此为经典，训释传记，从而逐渐形成经学。经过孔子整理的“六经”，作为上古三代时期的“先王政典”，本身就是重要的史料，其中的《尚书》《春秋》等典籍实为先秦史籍之源。“六经”亦经亦史的特点，表明早在先秦经史起源时期二者就结下了不解之缘。汉代经学体现官方统治思想和意识形态，因而拥有至高无上的学术地位。汉代史籍在目录分类上尚未形成独立的部类，而是主要依附于经书“六艺略”的《春秋》经下，司马迁撰《史记》以“继《春秋》”为其撰述旨趣，以“六经”来统帅其史著。

材料二　魏晋南北朝时期，南北方政权皆设立专职史官，记述史事。北魏、北齐、北周等政权设有修国史的著作郎。十六国各政权都设置史官，撰修了自己的史书。记载这段历史的重要史籍《十六国春秋》正是依据了这些史书编撰的。

魏晋时期，官方藏书分为甲乙丙丁四部，史书属于乙部。唐代魏征主编的《隋书》在图书分类中“别为史部”，此后，经史子集的分类取代甲乙丙丁的代号。

唐初统治者重视史学，唐高祖《命萧瑀等修六代史诏》，提出“务加详核，博采旧闻”“义在不刊，书法无隐”的修撰原则。唐太宗时至唐高宗初年，撰成晋、梁、陈、北齐、北周、隋六个朝代的史书和《南史》《北史》，史称“唐初八史”，占据二十四史的三分之一，建立并健全了后朝为前朝撰写“正史”的制度，从而使这一制度成为中华文明的一个优良传统。

——摘编自周一良《魏晋南北朝史学发展的特点》等

（1）根据材料一，结合所学，说明先秦两汉时期经学与史学的关系。

（2）根据材料二，结合所学，分析魏晋南北朝至唐初史学发展变化折射的时代背景。

17. 废除不平等条约

材料一　《马关条约》签订后，维新派认为“和约中通商各条，将兵权、利权、商务、税务一同打尽，随地可造机器，可制土货，又将火轮、舟车、开矿、制造等利一网打尽”。对此，维新派主张“出口免税，入口重税，涓滴皆操之自我，而不授于外洋，以杜漏卮之有渐”，“夺回税务司包办海关权”，提出联英、俄以制日，希望能够“浼（恳求之意）二国居间胁日本，废去遍地通商之约”。

辛亥革命时期，革命党人强调不平等条约是对中国的无形瓜分，认为要废除不平等条约，除推翻清政府外，“别无挽救之法也”，并且需要“结成团体，为产业之组织”，发展近代工商业，增强国家实力。

——摘编自朱英《中国近代史十五讲》等

（1）比较资产阶级政治派别对不平等条约的认识。

材料二　随着国民革命时期反帝运动高涨，列强在一定程度上放弃固守条约特权的立场。南京国民政府利用这一有利形势开展“改订新约”的修约外交，取得成果。1929 年 12 月 7 日，国民政府正式颁布《中华民国海关进口税税则》，决定 1930 年 2 月 1 日起实施新税则，有效期一年。该税则采用差等税率，将税率分为 7 级，即 7.5%、10%、12.5%、15%、17.5%、22.5%、27.5%。相对于原来协定关税的一律“值百抽五”有了明显进步。

后来，国民政府又调整税率，对进口的工业制成品提高税率，对轻工业所需原料、五金机器等则课以

轻税。1926—1936 年间，中国进口关税平均税率由 3.8%提高至 29.7%，进口税额由 1926 年的 5856 万元增至 1936 年的 25460 万元。

——摘编自李育民《近代中外条约关系通史》等

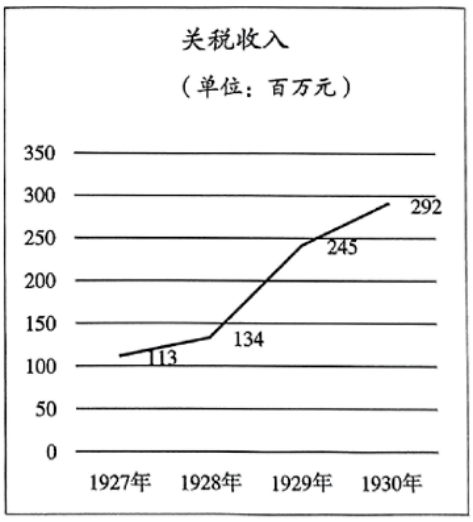

（2）阅读材料二，结合所学，评析关税收入的变化。

18. 科学：想象与产业化

材料一　文艺复兴时期科学家开普勒的《梦，或月球天文学》，内容是主人公经历月球之旅，从月球看到的地球外观和天体运动，在该书的注释中，开普勒直言“我写《梦，或月球天文学》的目的在于以月球为例建立起一个支持地动说的论证”，因为在当时的社会，“科学的探究在可能的宗教迫害面前蒙受着危险”。19 世纪，爱伦·坡的《一千零二夜的故事》中，出现了“能战胜几乎所有人类棋手的自动下棋机器人”和“智力远超越其创造者，能在 1 秒内完成 5 万人一年计算量的生物”。

——摘编自杨湃湃从《“可能世界”到“实在世界”：科幻小说与现实》

材料二　在历史上那些从事自然研究的人曾有各式各样的社会角色：有希腊的自然哲学家，有阿拉伯的医师和天文学家等。像今天的科学家这样的社会角色是在 19 世纪才开始出现的。1887 年赫兹发现了电磁波的真实存在。意大利的马可尼获悉这一消息后，立即着手研究一种技术装置，把电磁波用于无线电报传输，并筹建公司开发其商业应用。1899 年他第一次把电报信号传过了英吉利海峡，1901 年又成功地实现了跨越大西洋的无线电报传输。科学和工业生产技术的界线已很难分清。马可尼原来只想解决海上航行的船只与陆地通讯的问题，从没有想到过收音机，更不会想到在 20 世纪 20 年代实现了无线电广播的商业性播出后，随之发生的令人瞠目结舌的社会变化。

——摘编自 J．麦克莱伦Ⅲ等《世界科学技术通史》

（1）阅读材料一，从中可以看到“实在世界”的哪些信息？

（2）阅读材料二，结合所学，分析科学技术发展的新特点和影响。

19. 世界贸易

材料一

时间	重要事件

1846 年	英国废除《谷物法》，率先奉行自由贸易政策。
1848 年	约翰·穆勒《政治经济学原理》在论述政府与市场关系时提出了“自由放任”思想，认为市场经济“一般应实行自由放任原则”等。
1930 年代	面对 1929—1933 年经济危机，各国推行贸易保护政策，美国将关税税率从 1929 年的 16%提升至 40%以上。1932 年，英国通过《进口税法》，对制成品征收 30%—40%进口税，德、日等纷纷效尤，全球贸易额大幅度下降。
1947 年	关税与贸易总协定生效，通过削减关税和其他贸易壁垒促进国际贸易，为促进贸易自由化和拓展多边贸易谈判提供了框架。
1995 年	世界贸易组织成立，通过实施市场开放、非歧视和公平贸易等原则，来实现世界贸易自由化的目标。

材料二　2001 年中国加入世界贸易组织，获得了与其他成员相互平等和非歧视多边谈判并进行贸易的机会；其他成员自动获得向中国出口商品和进口中国产品的无条件最惠国待遇。中国加入世界贸易组织，为其他成员确立了稳定的政策预期，为世界提供了一个巨大的市场。20 多年来，中国关税从加入前的 50%甚至 100%，降低到现在的平均 7.4%，这对世界贸易组织始终致力的关税壁垒降低起到了极大的推动作用。2020 年中国已是 120 多个国家和地区的主要贸易伙伴，2021 年中国和 26 个贸易伙伴签署了 19 个自贸协定。中国还积极参与电子商务、投资便利化等诸边协定的谈判，维护世贸组织的多边贸易体制。近年中国对世界经济增长的年平均贡献率接近 30%。2001 年中国经济总量只有 10.9 万亿元，位居全球第六，2021 年中国经济总量已达到 101.6 万亿元，位居世界第二，稳居发展中国家首位。

——摘编自陈斌杰陈俊侠《“机遇与贡献”是中国“入世”20 年的关键词》等

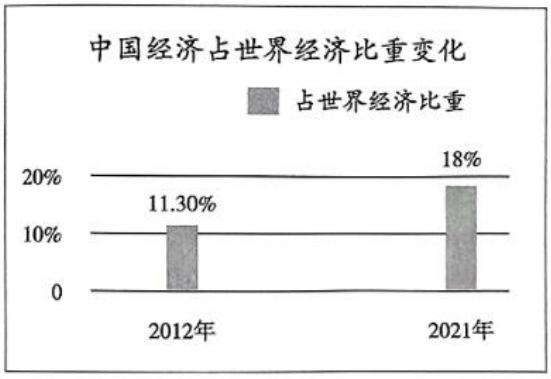

阅读材料，结合史实，简述 19、20 世纪世界贸易发展演变的趋势。从“机遇与贡献”的角度说明中国加入世界贸易组织后发挥的积极作用。

20. 北京是历史文化名城

北京地区重要的古代和近代历史遗址或历史事件发生地（部分）示意图

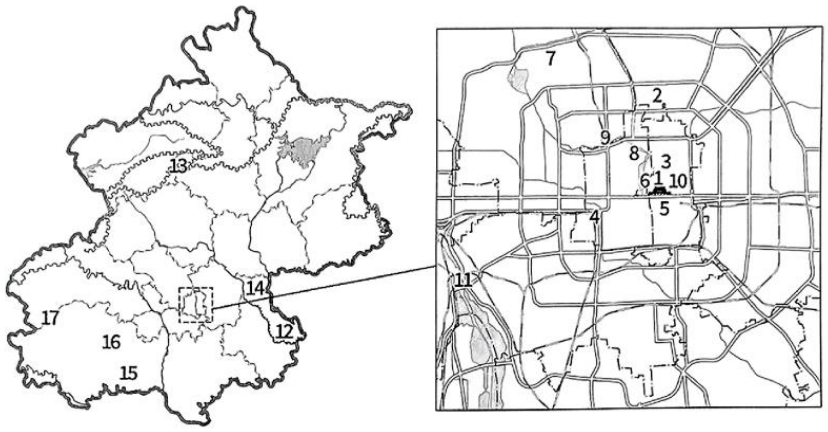

说明

1．明清皇宫　2．元大都城墙遗址　3．五四大街北京大学红楼　4．辽代建天宁寺塔

5．使馆界（东交民巷）　6．中南海怀仁堂　7．圆明园　8．一二·九运动纪念碑

9．京张铁路西直门站　10．总理衙门旧址　11．卢沟桥　12．京杭大运河

13．明代长城　14．平津战役指挥部旧址　15．燕国都城遗址　16．金代皇陵遗址

17．平西抗日根据地

上述历史遗址或地点与重要历史事件或现象相关。依据材料，结合所学，任选三个视角，简述相关历史事件或现象所反映的中国历史的进程。（要求：三个视角应该包括中国古代史 1—2 个视角和中国近代史 1—2 个视角。）

参考答案

第一部分

本部分共15题，每题3分，共45分。每题列出的四个选项中，选出最符合题目要求的一项。

1.【答案】C

【详解】据本题主题干的设问词，可知这是影响题。据本题时间信息可知准确时空是：春秋时期（中国）。根据材料可知，大国诸侯开展会盟、朝聘等活动，以“尊王攘夷”为口号，“尊王”强调对周王权威的尊崇，“攘夷”则区分华夏与夷狄，这种活动加强了中原各国联系与认同，促进文化交流融合，有利于华夏共同体意识发展，C项正确；西周分封以血缘宗法为基础，而春秋诸侯争霸打破等级秩序，如晋国曲沃代翼、楚国僭越称王均违背宗法原则，周王室权威名存实亡，排除A项；诸侯争霸加剧矛盾，如城濮之战、鄢陵之战均是会盟后矛盾激化的结果，战国时期兼并战争更趋激烈，排除B项；春秋时期井田制瓦解，私田兴起，新兴地主阶级逐渐掌权，如鲁国“初税亩”、齐国“相地而衰征”均体现社会转型，题干中会盟活动未强化奴隶主统治，排除D项。故选C项。

2.【答案】C

【详解】本题是组合选择题。据题干时间信息可知准确时空是：两汉时期（中国）。据材料可知，考古人员在悬泉置遗址发现了以墨书于墙的西汉末期《四时月令诏条》文书；而且东汉《风俗通义》亦载：“光武中兴以来，五曹诏书（东汉经由尚书台发布的诏令）题乡亭壁，岁补正，多有阙谬”，这些说明两汉时期已形成了系统的文书行政制度，①正确；材料未涉及“邮驿交通发达服务于民间信息的沟通”的内容，②错误；据材料东汉《风俗通义》亦载：“光武中兴以来，五曹诏书（东汉经由尚书台发布的诏令）题乡亭壁，岁补正，多有阙谬”可知，注重基层治理，县下设置乡亭，③正确；据材料可知，考古人员在悬泉置遗址发现了以墨书于墙的西汉末期《四时月令诏条》文书，文书主要内容涵盖了保护水土、动物、林木和依时令指导生产生活等，这说明两汉时期已有保护环境与自然和谐共处的法令，④正确。C项正确。排除A、B、D项。故选C项。

3.【答案】D

【详解】根据题干设问词，可知是推断题。据本题时间信息可知准确时空是古代（中国）。根据材料可知，在社会动荡的时期，人们为了躲避战乱、保障自身安全，会选择占据山险构建坞堡这种相对安全的居住形式，这正符合《桃花源记》所反映的当时社会状况以及人们渴望安宁的心理，D项正确；如果是国家统一、社会经济繁荣的状况，不太可能出现人们需要占据山险构建坞堡来保障自身安全和生活的情况，排除A项；军事强大不断开疆拓土与人们在当地占据山险构建坞堡没有直接关联，不是构建坞堡这种现象背后所反映的社会经济状况，排除B项；政治清明、对外交通发达的社会环境下，不需要通过占据山险构建坞堡来维持生活，排除C项。故选D项。

4.【答案】B

【详解】本题是组合选择题。时空是宋代（中国）。根据材料可知，“朱张会讲”发生于南宋时期，朱熹从福建(南方)到长沙(南方)与张栻辩论，材料体现南方学术交流频繁，故①正确；理学在南宋末成为官方正统思想，具体是宋理宗时期(1224年-1264年在位)，题干时间为1167年，可见未确立官方正统地位，

故②错误；会讲作为书院教育形式，吸引学子听讲并促进思想传播，说明书院推动文化发展，故③正确；理学思想体系的形成以北宋二程(程颢、程颐)奠基、南宋朱熹集大成为标志，会讲是理学内部的学术探讨，而非体系形成的标志，故④错误。因此，①③理解正确，B 项正确；②④理解错误，排除 ACD 项。故选 B 项。

5.【答案】D

【详解】本题是组合选择题。时空是明清时期中国。根据材料“中华文明则以和平性为主旨”“交流互鉴中呈现创新气象”并结合所学可知：开明士大夫翻译西方科技著作（如徐光启与利玛窦合译《几何原本》）体现了中西文化交流中的文化创新；郑和下西洋以和平朝贡贸易为主，符合“和平性主旨”；边界条约（如《尼布楚条约》）通过外交谈判划定边界，推动了近代国家主权观念的形成，属于政治创新，据结论可知②③④正确，D 项正确。君主专制顶峰（如清朝军机处）属于内部集权强化，与对外和平交流及创新无关，①错误，排除 ABC 项。故选 D 项。

6.【答案】C

【详解】本题是组合选择题。时空是 19 世纪中后期的中国。根据材料“战后，清政府被迫接受各国遣使驻京的要求。面对中外交涉日益频繁的局面，清政府在 1875 年向‘有约各国’派遣常驻外交使节”可知，清政府外交的变化背景是民族危机的不断加深，①正确；根据材料“战后，清政府被迫接受各国遣使驻京的要求。面对中外交涉日益频繁的局面，清政府在 1875 年向‘有约各国’派遣常驻外交使节”可知，清政府外交的变化说明清朝接受近代外交制度，③正确；材料没有涉及维护国家领土主权完整的信息，②错误；材料中没有涉及推动近代国际法不断发展的信息，④错误。C 项正确，排除 A、B、D 项。故选 C 项。

7.【答案】C

【详解】据本题主题干的设问词，可知这是影响题。据本题时间信息可知准确时空是：1920 年（中国）。根据材料可知，《劳动界》的宗旨是改良劳工阶级的境遇和调查、记载工人情况，有利于增进对工人阶级的了解和认识，进而促进了知识分子与工人阶级结合，C 项正确；“提高了广大工人群众的政治地位”夸大了《劳动界》的作用，不符合材料主旨，排除 A 项；五四新文化运动早已兴起，B 项不符合材料时间，排除 B 项；此时中国共产党还未成立，排除 D 项。故选 C 项。

8.【答案】B

【详解】本题是组合选择题。时空是 1943 年的中国。据材料信息可知，《减租会》对应“减租减息”政策下的经济关系调整；《部队秋收》反映大生产运动中军队参与生产的经济活动。 两幅作品均符合以经济生活为核心场景，延安时期“发展生产、保障供给”的实践，①正确；军队参与生产（秋收），减少向农民征粮， 直接减轻农民经济负担，③正确；《减租会》呼吁落实减租政策，《部队秋收》弘扬自力更生精神，两幅版画都宣传了中国共产党的方针政策，④正确，B 项正确；彻底废除封建剥削制度发生于 1947 年解放区土地改革（《中国土地法大纲》颁布后），与 1943 年时间不符，②错误，排除 A、C、D 项。故选 B 项。

9.【答案】B

【详解】根据题干设问词，可知是正向题。据本题时间信息可知准确时空是：1956—1963 年（中国）。根

据材料“向科学进军”“搞尖端技术”及科技规划纲要并结合所学可知，这一时期国家集中力量发展尖端科技，为“两弹一星”（原子弹、导弹、人造卫星）的成功研制提供了政策支持和资源保障。例如，1964年第一颗原子弹爆炸、1967年氢弹试验成功、1970年“东方红一号”卫星发射均受益于这一时期的科技规划，B项正确；社会主义基本制度的建立以1956年三大改造完成为标志，与题干中科技规划的作用无关，排除A项；“科教兴国”战略提出于1995年，与题干时间不符，排除C项；中国载人航天飞行技术（如2003年神舟五号）取得突破是在21世纪，远晚于题干中的规划时间，排除D项。故选B项。

10.【答案】C

【详解】本题是组合选择题。时空是21世纪初的中国。根据材料“新型农村医疗合作制度”可知，新型农村医疗合作制度进一步完善了农村的医疗保障体制，②正确；根据材料“新型农村医疗合作制度”“新型农村医疗合作制度与城镇居民基本医疗保险合并为城乡居民基本医疗保险”可知，新型农村医疗合作制度基本保障了世界上最多人口的健康，④正确；国家基本医疗卫生体系建立是在20世纪60年代，①错误；材料中没有涉及区域性整体贫困问题，③错误。C项正确，排除A、B、D项。故选C项。

11.【答案】C

【详解】根据题干设问词，可知是组合型题。据本题时间信息可知准确时空是距今4500年（西亚）。根据材料可知，题干提到“木盒局部盒上镶嵌着波斯湾的贝壳、印度的红色大理石和阿富汗的青金石”，这表明制作木盒需要将不同材质的物品进行巧妙镶嵌组合，展现出了较高的手工技艺水平，所以苏美尔人有较高的手工技艺水平，①正确。“木盒上镶嵌着波斯湾的贝壳、印度的红色大理石和阿富汗的青金石”，这些材料分别来自不同地区，说明乌尔与这些地区存在物资往来，也就意味着乌尔与亚洲其他地区有物品交流，②正确。仅从一个木盒上描绘的场景，无法确凿地证明乌尔建立了统一的西亚北非帝国。虽然木盒描绘了战争和庆祝胜利等场景，但这远远不足以支撑建立庞大帝国这一结论，③错误。由“盒子一面描绘了战车碾过敌军和抓获俘虏的场景”可知，战车在当时苏美尔人的作战中被运用，即战车是苏美尔人的一种作战方式，④正确。综上①②④正确，C项正确；③错误，ABD错误，排除ABD项。故选C项。

12.【答案】A

【详解】据本题次题干的提示词，可知这是本质题、影响题。据本题时间信息可知准确时空是：15世纪（东非）。根据材料“当地上层人士纷纷改用瓷器取代陶器，原来用树叶盛放食品的下层居民也改用模仿中国瓷器的粗制陶器盛放食品”可知，东非从中国进口的瓷器数量增多，使其在人们的日常生活中发挥重要作用，因此，材料现象体现了中华文化对东非的影响，A项正确；津巴布韦位于南非，与材料内容无关，排除B项；C项说法夸大，15世纪前东非沿海地区国家就已出现，排除C项；使用瓷器并不能改变非洲地区的饮食结构，不符合材料主旨，排除D项。故选A项。

13.【答案】A

【详解】根据题干设问词，可知是本质题。据本题时间信息可知准确时空是：19世纪（欧洲）。根据材料“空想社会主义将社会改造的希望寄托于资本家的善心之上”并结合所学可知，空想社会主义者从抽象的道德理性出发批判资本主义，认为社会变革的实现依赖于人的理性和资本家的道德觉醒，而非社会物质基础和生产关系的发展规律，这体现了唯心主义史观（即意识决定社会存在），A项正确；空想社会主义的初衷是改善工人阶级的处境，并未忽视其利益，只是未找到正确途径，排除B项；剩余价值学说是马克思主

义的成果，空想社会主义者并未接受这一理论，排除C项；启蒙运动兴起于17—18世纪，早于空想社会主义，两者无直接因果关系，排除D项。故选A项。

14.【答案】D

【详解】据本题主题干的设问词，可知这是本质题。时空是19世纪末20世纪初的世界。据材料“1884年的国际子午线会议上，法国力图将巴黎天文台所在位置确定为零度经线。但是与会国家代表投票表决，最终将位于泰晤士河畔格林尼治天文台所在位置确定为零度经线，将格林尼治时间作为国际标准时。法国直到1911年才最终加入国际标准时体系”结合所学知识可知，19世纪英国通过工业、军事和殖民优势，主导了国际规则，其霸权具有“制度性权力”特征，格林尼治标准时的确立是这一进程的缩影，D项正确；零度经线的选择本质是政治经济博弈，而非单纯科学问题。英国凭借全球殖民地和航运霸权，使格林尼治成为国际标准，与“科学优越性”无关，排除A项；1884年，帝国主义国家间的主要矛盾已从英法竞争转向英德争霸，排除B项；法国在1911年才加入国际标准时体系，说明其并非“及时调整”，而是被迫接受英国主导的既成事实，排除C项。故选D项。

15.【答案】B

【详解】本题是组合选择题。时空是2015年至2021年（世界）。根据材料可知，亚投行惠及28个亚洲域内和域外经济体，并帮助20个成员抗击疫情和稳定经济，体现了致力于构建人类命运共同体的努力，同时有利于亚洲地区各国经济合作和危机应对，①③符合题意，B项正确；亚太经合组织是环太平洋地区层级最高的经济合作机制；亚投行属于经济组织，不能构建亚洲的政治合作一体化体系。②④不符合题意，排除ACD项。故选B项。

第二部分

本部分共5题，共55分。

16.【答案】（1）史学和经学同源；重要的经学著作同时又是史学著作；史学依附于经学，史学著述的目的是与经学的目标一致，并受到经学思想的影响。

（2）魏晋南北朝时，政权林立，各政权都重视史书的修撰，政府设立专职史官、专门机构修撰史书，史学著作数量和种类都大大增多，史学独立于经学，成为专门的学问，大量的史书得以保存。

唐代国家统一，经学归于一统，唐朝政府重视史学编撰，将魏晋南北朝时期的史书和隋代历史一起编为“唐初八史”，使史学进入大总结时期，并形成了后代修前代史的传统。

【小问1详解】

本题是特点题。时空是先秦两汉时期（中国）。根据材料“孔子创立儒学，整理‘六经’，后世据此为经典，训释传记，从而逐渐形成经学。经过孔子整理的‘六经’，作为上古三代时期的‘先王政典’，本身就是重要的史料，其中的《尚书》《春秋》等典籍实为先秦史籍之源”可知，史学和经学同源；根据材料“‘六经’亦经亦史的特点”可知，重要的经学著作同时又是史学著作；根据材料“汉代史籍在目录分类上尚未形成独立的部类，而是主要依附于经书‘六艺略’的《春秋》经下，司马迁撰《史记》以‘继《春秋》’为其撰述旨趣，以‘六经’来统帅其史著”可知，史学依附于经学，史学著述的目的是与经学的目标一致，并受到经学思想的影响。

【小问2详解】

本题是背景题。时空是魏晋南北朝至唐初（中国）。根据材料“魏晋南北朝时期，南北方政权皆设立专职史官，记述史事。北魏、北齐、北周等政权设有修国史的著作郎。十六国各政权都设置史官，撰修了自己的史书”“魏晋时期，官方藏书分为甲乙丙丁四部，史书属于乙部”和所学知识可知，魏晋南北朝时，政权林立，各政权都重视史书的修撰，政府设立专职史官、专门机构修撰史书，史学著作数量和种类都大大增多，史学独立于经学，成为专门的学问，大量的史书得以保存。根据材料“唐初统治者重视史学”“唐太宗时至唐高宗初年，撰成晋、梁、陈、北齐、北周、隋六个朝代的史书和《南史》《北史》，史称‘唐初八史’，占据二十四史的三分之一，建立并健全了后朝为前朝撰写‘正史’的制度，从而使这一制度成为中华文明的一个优良传统”和所学知识可知，唐代国家统一，经学归于一统，唐朝政府重视史学编撰，将魏晋南北朝时期的史书和隋代历史一起编为“唐初八史”，使史学进入大总结时期，并形成了后代修前代史的传统。

17.【答案】（1）认识：维新派和革命派都认识到不平等条约是民族危机的产物，都主张废除不平等条约。与维新派主张通过变法、利用列强之间的矛盾与冲突达到废除、修订不平等条约的方式不同，革命派对不平等条约的危害认识更为深刻，革命派认识到不平等条约的签订与清政府密切相关，主张要废除不平的条约，收回国家主权，必须推翻清政府。

（2）20 世纪二三十年代，国民革命中不断高涨的反帝运动打击了帝国在华势力，迫使其放弃部分特权，南京国民政府迫于民众的压力发起“改定新约”的修约外交，新制定关税税则，调整并提高税率，一定程度上改变了过去协定关税中的不利局面，关税收入得以提升，在客观上维护了国家主权，有利于民族工业发展。新中国成立后，彻底废除不平等条约，最终收回了关税自主权。

【小问 1 详解】

本题是对比题。据题干时间信息可知准确时空是：近代（中国）。认识：据材料“维新派认为‘和约中通商各条，将兵权、利权、商务、税务一同打尽，随地可造机器，可制土货，又将火轮、舟车、开矿、制造等利一网打尽’”可知，维新派认为“《马关条约》”签订，既是民族危机的产物，而条约签订后，列强对华资本输出，又进一步加剧了中华民族危机；据材料“辛亥革命时期，革命党人强调不平等条约是对中国的无形瓜分……”可知，材料强调不平等条约是对中国的无形瓜分，是民族危机的具体反映，即维新派和革命派都认识到不平等条约是民族危机的产物；据材料“……浼（恳求之意）二国居间胁日本，废去遍地通商之约”可知，材料反映的是维新派主张联合英俄，抵制日本，迫使日本废除不平等条约；据材料“……认为要废除不平等条约，除推翻清政府外”可知，材料反映的是革命党人只有推翻清政府，才能废除不平等条约，即二者都主张废除不平等条约。据材料“……提出联英、俄以制日，希望能够‘浼（恳求之意）二国居间胁日本，废去遍地通商之约’”可知，维新派主张通过自上而下的改革、利用列强（俄英与日本）之间的矛盾与冲突达到废除、修订不平等条约的方式；据材料“辛亥革命时期，革命党人强调不平等条约是对中国的无形瓜分，认为要废除不平等条约，除推翻清政府外……”可知，革命派对不平等条约的危害认识更为深刻，强调不平等条约是对中国的无形瓜分，革命派认识到不平等条约的签订与清政府密切相关，主张要废除不平的条约，收回国家主权，必须推翻清政府。

【小问 2 详解】

本题是评论解说题。据题干时间信息可知准确时空是：近代（中国）。评析：据材料“随着国民革命时期

反帝运动高涨，列强在一定程度上放弃固守条约特权的立场”并结合所学可知，20世纪二三十年代，国民革命中不断高涨的反帝运动打击了帝国在华势力，迫使其放弃部分特权；据材料“南京国民政府利用这一有利形势开展‘改订新约’的修约外交，取得成果”并结合所学可知，南京国民政府为了缓和中国人民的反帝斗争，制造对外“自主”的形象，同时也为扩大税源，解决内战军费，发起了要求帝国主义支持的“改定新约”运动；据材料“1929年12月7日，国民政府正式颁布《中华民国海关进口税税则》，决定1930年2月1日起实施新税则，有效期一年……”并结合所学可知，材料反映的是国民政府正式颁布关税新税则，调整并提高税率，一定程度上改变了过去协定关税中的不利局面，关税收入得以提升，在客观上维护了国家主权，有利于民族工业发展；据所学可知，新中国成立后，彻底废除不平等条约，最终收回了关税自主权。

18.【答案】（1）从开普勒的作品中可以看到16世纪科学革命中太阳中心说以及教会对科学探索的束缚；开普勒和爱伦·坡还预见到了现代信息技术的一些科学成就。

（2）科学家的身份发生了转变，出现了具备近代科学素质的专职科学家；科学理论与生产技术紧密结合，自然科学成果迅速转化为生产力；电力技术广泛运用。科技成果传播范围广。

新的科学理论和科技发明改变了人们的社会文化生活；推动了工业革命（生产力）的发展；使世界联系更加密切。

【小问1详解】

本题是特点题。时空是近代世界。根据材料“文艺复兴时期科学家开普勒的《梦，或月球天文学》，内容是主人公经历月球之旅，从月球看到的地球外观和天体运动，在该书的注释中，开普勒直言‘我写《梦，或月球天文学》的目的在于以月球为例建立起一个支持地动说的论证’，因为在当时的社会，‘科学的探究在可能的宗教迫害面前蒙受着危险’”可知，从开普勒的作品中可以看到16世纪科学革命中太阳中心说以及教会对科学探索的束缚；根据材料“19世纪，爱伦·坡的《一千零二夜的故事》中，出现了‘能战胜几乎所有人类棋手的自动下棋机器人’和‘智力远超越其创造者，能在1秒内完成5万人一年计算量的生物’”可知，开普勒和爱伦·坡还预见到了现代信息技术的一些科学成就。

【小问2详解】

本题是特点题、影响题。时空是近现代世界。新特点：根据材料“在历史上那些从事自然研究的人曾有各式各样的社会角色：有希腊的自然哲学家，有阿拉伯的医师和天文学家等。像今天的科学家这样的社会角色是在19世纪才开始出现的”可知，科学家的身份发生了转变，出现了具备近代科学素质的专职科学家；根据材料“1887年赫兹发现了电磁波的真实存在。意大利的马可尼获悉这一消息后，立即着手研究一种技术装置，把电磁波用于无线电报传输，并筹建公司开发其商业应用”可知，科学理论与生产技术紧密结合，自然科学成果迅速转化为生产力；根据材料“1899年他第一次把电报信号传过了英吉利海峡，1901年又成功地实现了跨越大西洋的无线电报传输。科学和工业生产技术的界线已很难分清。马可尼原来只想解决海上航行的船只与陆地通讯的问题，从没有想到过收音机，更不会想到在20世纪20年代实现了无线电广播的商业性播出后，随之发生的令人瞠目结舌的社会变化”可知，电力技术广泛运用；科技成果传播范围广。 影响：根据材料“1899年他第一次把电报信号传过了英吉利海峡，1901年又成功地实现了跨越大西洋的无线电报传输。科学和工业生产技术的界线已很难分清。马可尼原来只想解决海上航行的船只与

陆地通讯的问题，从没有想到过收音机，更不会想到在20世纪20年代实现了无线电广播的商业性播出后，随之发生的令人瞠目结舌的社会变化”和所学知识，可从新的科学理论和科技发明改变了人们的社会文化生活；推动了工业革命（生产力）的发展；使世界联系更加密切等方面分析。

19.【答案】演变趋势：19 世纪英国凭借工业革命的优势率先实施自由贸易政策，形成了市场自由放任的经济理论。西方国家奉行自由放任的贸易政策；20 世纪 30 年代世界经济危机发生，西方国家推行贸易保护政策破坏世界贸易和经济的发展；二战后消减关税、破除贸易壁垒成为国际共识，关贸总协定和世界贸易组织的成立促进了自由贸易，推动了国际贸易和世界经济的发展。

积极作用：中国加入世纪贸易组织，深层次参与经济全球化进程，使中国经济在全球化进程中获得参与制定规则和竞争的有利地位，从而获得更为广阔的发展空间，对经济体制改革和现代化建设产生深刻影响，标志着中国对外开放进入一个新的阶段，促进中国经济总量的快速增长，提高了中国的综合国力和人民生活水平。中国加入世界贸易组织，也为世界提供了一个空前广阔的市场，中国遵守世界贸易组织的规则，降低税率，积极参与世贸组织的多边谈判，推动了世界贸易组织治理体系的不断完善，稳定世界市场，促进了世界经济的发展，为世界经济发展做出了突出贡献。

【详解】本题是特点题、影响题。时空是19、20世纪世界。演变趋势：据材料一“英国废除《谷物法》，率先奉行自由贸易政策”、“约翰·穆勒《政治经济学原理》在论述政府与市场关系时提出了‘自由放任’思想，认为市场经济‘一般应实行自由放任原则’等”，可得19世纪奉行自由放任的贸易政策；据材料一“面对1929一1933年经济危机，各国推行贸易保护政策”，可得20世纪30年代推行贸易保护政策破坏世界贸易和经济的发展；据材料一“关税与贸易总协定生效，通过削减关税和其他贸易壁垒促进国际贸易”、“世界贸易组织成立，通过实施市场开放、非歧视和公平贸易等原则，来实现世界贸易自由化的目标”，可得二战后消减关税、破除贸易壁垒成为国际共识(关贸总协定、世界贸易组织)。积极作用：据材料二“获得了与其他成员相互平等和非歧视多边谈判并进行贸易的机会”、“中国加入世界贸易组织，为其他成员确立了稳定的政策预期，为世界提供了一个巨大的市场”等并结合所学知识，可以从使中国经济在全球化进程中获得参与制定规则和竞争的有利地位、中国积极参与世贸组织的多边谈判，推动世界贸易组织治理体系的不断完善，为世界经济发展做出了突出贡献等方面思考和作答，如中国加入世纪贸易组织，深层次参与经济全球化进程，使中国经济在全球化进程中获得参与制定规则和竞争的有利地位，从而获得更为广阔的发展空间，对经济体制改革和现代化建设产生深刻影响，标志着中国对外开放进入一个新的阶段，促进中国经济总量的快速增长，提高了中国的综合国力和人民生活水平。中国加入世界贸易组织，也为世界提供了一个空前广阔的市场，中国遵守世界贸易组织的规则，降低税率，积极参与世贸组织的多边谈判，推动了世界贸易组织治理体系的不断完善，稳定世界市场，促进了世界经济的发展，为世界经济发展做出了突出贡献等等。

20.【答案】示例视角一（中国古代史·政治制度发展）：1.明清皇宫（君主专制顶峰）、2.无大都城墙遗址（元代都城规划）；两者体现中央集权制度的演变。

示例视角二（中国近代史·列强侵略与民族危 机）：5.使馆界（东交民巷体现半殖民地化）、7.圆明园（英法联军侵华标志）；反映近代中国主权丧失。

示例视角三（中国近代史·民族抗争与探索）：3.北京大学红楼（五四运动策源地）、8.一二·九运动纪念

碑（抗日救亡运动）；展现民众觉醒与社会变革。

【详解】本题是开放创新题。时空是古代和近代的中国。考查北京历史遗址与历史进程的关联，需结合中国古代史和近代史视角，通过遗址对应的历史事件或现象，分析中国历史发展的不同阶段特征。解题分三步：1.选择视角：需涵盖古代和近代史，如古代政治制度、民族融合、近代救亡运动等；2.匹配遗址：每个视角需关联两个遗址，如选‘列强侵略’可对应圆明园（第二次鸦片战争)和使馆界(《辛丑条约》)；3.评述进程 ：需说明遗址事件如何体现历史趋势，如‘新民主主义革命’视角中五四大街北京大学红楼（五四运动）和一·二九纪念碑（抗日救亡）反映民众觉醒与社会变革。注意评述需结合史实，避免仅罗列事件。通过以上分析，可得出，示例视角一（中国古代史·政治制度发展）：1.明清皇宫（君主专制顶峰）、2.无大都城墙遗址（元代都城规划）；两者体现中央集权制度的演变。示例视角二（中国近代史·列强侵略与民族危 机)：5.使馆界（东交民巷体现半殖民地化）、7.圆明园（英法联军侵华标志）；反映近代中国主权丧失。示例视角三（中国近代史·民族抗争与探索）：3.北京大学红楼（五四运动策源地）、8.一二·九运动纪念碑（抗日救亡运动）；展现民众觉醒与社会变革。