2023 北京朝阳高三二模

历　　史

2023.5

第一部分

本部分共 15 小题，每小题 3 分，共 45 分。在每小题列出的四个选项中，选出最符合题目要求的一项。

1. 尧舜禹汤被历代誉为华夏族的四位最英明的帝王。近代以来，学者通常将尧、舜归入“传说时代”。

《易·系辞下》黄帝尧舜，垂衣裳而天下治，盖取诸乾坤。
《礼记·大学》尧舜率天下以仁，而民从之。
《史记·五帝本纪》以《诗》《书》等文献为依据，将尧舜作为真实的君主加以记载，为历代所认同。

中国早期历史的世代从自古以来的“尧舜禹汤”变为近代的夏商周，这主要是由于（　　）

A. 古学的发展推动研究的深入

B. 早期国家形态认识存在差异

C. 未发现夏朝以前的文化遗存

D. 《史记》所依据的资料业已失传

2. 自 1972 年云南江川李家山古墓群首次考古发掘以来，先后发掘和清理墓葬 87 座，分为四类即四期。从考古发现中我们可以看到（　　）

第一期墓葬	前郡县时期：（西汉武帝置郡以前）随葬品均为传统的滇文化典型器物
第二期墓葬	西汉中晚期：滇文化传统器物及具有当地特色的铜铁复合器大量出现；具有汉文化特征的器物出现，如铁削刀、铜弩机、铜镜等，以及以中原技术制作的金银卸（kòu，以金玉等装饰器物）漆器等
第三期墓葬	西汉晚期至东汉初年：滇文化器物和汉文化器物并存
第四期墓葬	东汉前期：具有本地特色的铜生产工具和兵器武备与来自中原及邻近地区的汉器和汉式器并存；以五铢钱随葬取代海贝随葬

①秦征服统一岭南百越诸部族设三郡强化中央集权

②在日趋明显的中原文化影响下古滇文化中断消失

③反映出五铢币作为法定铜铸币在当地的流通使用

④为中华文明多元一体格局形成和发展提供了实例

A. ①②　　B. ①④　　C. ③④　　D. ②③④

3. 下图为金章宗（1168年—1208年）在《女史箴图卷》中的题跋。结合所学知识，对以下选项表述的准确性进行判断，选出准确选项（　　）



A. 反映出“大定之治”的鼎盛

B. 金未能创制出本民族文字

C. 此时的书法成为一门艺术

D. 其书写的风格近于宋徽宗

4. 在“收同轮、路、电、邮经营权”的背景下，清政府邮传部上书慈禧太后，获准成立交通银行。1914年哈尔滨交通银行开始发行印有哈尔滨地名的“国币”券，直接面对沙俄卢布及日本的金融政策。对上述材料理解正确的是（　　）

A. 保路运动推动交通银行的创立

B. 成为官僚资本巧取豪夺的工具

C. 它终结了银元的法定货币地位

D. 发行“国币”券抵御经济侵略

5. 根据所学知识判断，右侧的进军路线图反映的历史事件发生于（　　）



A. 1895年　　B. 1931年　　C. 1945年　　D. 1948年

6. 2023年3月27日，俄罗斯捷杰耶夫与马林斯基交响乐团重返中国舞台，演奏在嘹亮高亢的号角声中开始。前奏部分的小号动机来自《义勇军进行曲》，“红旗主题”在灿烂的C大调上喷薄欲出，宽广的颂歌主题与铿锵的进行曲交映。作曲家吕其明于1965年春创作的这首《红旗颂》瞬间打动听众，掌声随即加入

了演奏。下列选项中，关于这一场景的分析合理、准确的是（　　）

A. 该作品诞生于庆祝粉碎“四人帮”的重大胜利

B. 歌颂祖国和人民的主题，引发强烈的情感共鸣

C. 反映出中苏（俄）之间全面战略协作伙伴关系

D. 是坚持“二为”方向、“双百”方针的成功实践

7. 某同学对下图信息做出的相关分析，准确的有（　　）

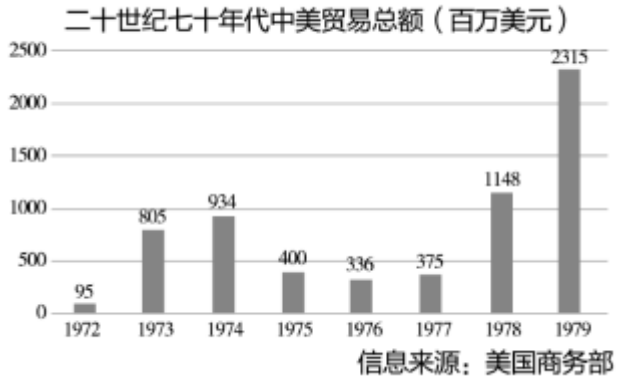

①增速最快阶段出现在中美建交之际

②处于世界范围内的产业结构调整期

③中国与外部关系出现重大调整突破

④对外开放促进国民消费水平的提升

A. ①②　　B. ①④　　C. ②③　　D. ③④

8. 2023 年春季，朝阳区亮马河游船实现了首航。沿途的二十四桥展现着特有的神韵和风采。其中体现出了“地脉传承，区情乡恋”的桥有（　　）

好运桥

好运街国际饮食深夜食堂

友谊桥　　蓝梦桥

邻燕莎友谊商城　　蓝色浪漫时尚梦幻

麦家桥

建设友好包容的“世界麦家”

琉璃桥 古玩城雨古都京韵文化

①饮马桥 永乐年间皇家御马苑所在地

观澜桥 《孟子》观水有术，必观其澜

②水碓桥 原水碓子公园，历史印记 百姓思念

碧沙桥 《咏水》骊泉紫阙映，珠浦碧沙沉

和光桥 《道德经》和其光，同其尘

问渠桥 问渠哪得清如许，为有源头活水来

春谷桥 连接樱花谷，春意盎然

③燕鸣桥 周武王封召公于燕。地在燕山之野，故国取名焉

彩虹桥《秋登宣城谢眺北楼》两水夹明镜，双桥落彩虹

④午阳桥 顺承郡王府正门前，《易经》五行属火，有向阳之意

银安西桥

银安桥

银安东桥

位于顺承郡王府正门前。郡王府内正殿——银安殿。郡王府原址位于西城区赵登禹路，1994年按照1:1比例迁建今址。

润泽桥 农展馆南路《风俗通义—山泽》泽者，言其润泽万物，以阜民用也

⑤仓廪桥 六里屯村“谎粮台”《宸垣识略》唐太宗东征高丽，屯兵虚设囤仓

活水桥 两湖连通渠终点，朱熹《观书有感》

日升桥 《诗经》如月之恒，如日之升

连心桥 红领巾湖形似心形

⑥织锦桥 “京棉巨轮”八里庄地区，北京人心中的“纺织城”

A. ①②③④ B. ①②⑤⑥ C. ①③④⑤ D. ③④⑤⑥

9. 尽管两河流域缺乏矿藏资源及熔炼金属所需要的可燃资源，但美索不达米亚及周边地区冶金技术深刻影响着古代世界的技术进步。推测促进这一地区出现青铜文明的原因是（ ）

①冶铁难度大工艺流失

②长途贸易网络的兴起

③赫梯王国的战争需求

④重要城市文明的崛起

A. ①② B. ①③ C. ②④ D. ③④

10. 帕提亚（安息）王朝早期，希腊语是官方语言之一，社会上层以精通希腊文化为荣，宫廷中经常上演希腊戏剧。造成这一现象的原因是（ ）

A. 亚历山大东征 B. 雅典民主制的辉煌

C. 丝绸之路开通 D. 罗马帝国的影响力

11. 在巴西的历史中，里约热内卢曾一度成为葡萄牙的首都。1807 年葡萄牙王室在若昂六世带领下出逃迁往巴西，完成了一个政府、一个国家的搬迁。与这一“搬迁”事件紧密相关的是（ ）

A. 宗教改革 B. 克里米亚战争

C. 工业革命 D. 拿破仑战争

12. 据 1831 年统计，76%的美国联邦公务员都在邮政局里工作。下图显示出 19 世纪美国的邮政系统经历了从几百所邮局到上万所邮局的增长与分布情况。对美国邮政系统的发展所作出的分析，最为准确合理的是（ ）

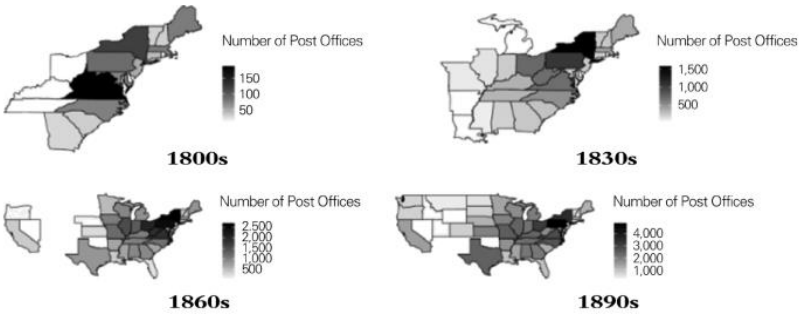

①引发北美独立战争　　③增强国家治理能力

②推动民主化的进程　　④显现领土扩张进程

A. ①②　　B. ③④　　C. ①③④　　D. ②③④

13. 20 世纪四五十年代的一场新的科技革命从美国开始，扩展到西欧、日本。分析这场新科技革命的原因时，有人做了如下归纳，准确的是（　　）

①	现实需要：大国博弈争霸的军备竞赛
②	扶持政策：国家对科教事业大力支持
③	创新驱动：合伙制股份制等企业形式
④	理论优势：力学体系和相对论的诞生

A. ①②　　B. ③④　　C. ①②③　　D. ②③④

14. 法国戴高乐总统“四两拨千斤”的外交谋略至今在国际外交界令人称道。以下是某同学进行探究学习时采用的素材，该同学研究的主题是（　　）

1958 年 9 月在致美国总统和英国首相的备忘录中提出组成美英法三国核心领导机构。

1958 年 11 月赴西德与阿登纳会晤，建立巴黎—波恩轴心。

1959 年 6 月拒绝美国在法国领土储存核弹头和在法国建立中程导弹基地。

1963 年 6 月法国从北约撤回大西洋舰队，不再参加北约联合军事演习。

1964 年 1 月中法建交，法国是第一个和中华人民共和国建交的西方大国。

1964 年走访 11 个拉丁美洲国家，签订了经济、贸易和技术合作协定。

1966 年 3 月正式通知北约盟国，法国结束对北约组织一体化的从属关系。

A. 冲击两极格局争取大国地位　　B. 强化国家干预推动欧洲联合

C. 加强国际合作维护世界和平　　D. 北大西洋公约组织东扩进程

15. 2023 年 4 月 6 日中国代表与欧盟委员会代表举行的会谈中，双方认为中国式现代化和欧洲一体化是双方各自着眼未来作出的战略选择。下列构成欧洲一体化发展的重要节点的选项是（　　）

A. 签订《威斯特伐利亚和约》，结束了欧洲混战局面

B. 在德法的《竞争力公约》基础上通过《欧元公约》

C. 签订《非战公约》，废弃以战争作为国家政策 T 具

D. 出台《国际联盟盟约》，以增进国际间合作与安全

第二部分

本部分共 4 大题，共 55 分。请用黑色字迹签字笔在答题卡上各题的答题区域内作答，在试卷上作答无效。

16. 家国情怀

《国语·郑语》《左传·昭公四年》之“九州”专指某国某地;《吕氏春秋》中将“九州”与天上星象对应起来，提出“天有九野，地有九州”，也有九个相对独立的自然区域之意；先秦时期“九土……‘九围……‘九有”、春秋时期齐侯缚钟“咸有九州”的铭文表达“天下”“中国”之意：邹衍认为“九州”是世界的一部分，除中国的“赤县神州”外，另有八州，成为一时之显学；唐代孔颖达将《毛诗·大雅》中“内奭（b1 本意是壮大）于中国”解释为“中国是九州”；“思九州之博大兮……‘但悲不见九州同”“九州生气恃风雷”，诗词作品中的“九州”意象，寄托了诗人们的爱国情怀。

（1）依据材料和所学知识，说明“九州”的内涵。

西汉至唐前期东南三地郡（州）县分布的变迁

	西汉	三国两晋南北朝	唐前期
苏南浙江	会稽郡北部 32 县	会稽等 5 郡 54 县	苏州等 13 州 74 县
江西	豫章郡 19 县	豫章等 5 郡 56 县	洪州等 7 州 34 县
福建	会稽郡南部 1 县	建安、晋安郡 12 县	福州等 5 州 28 县

《太平寰宇记》一书统计出，从唐中期到宋初的二百余年间，南方地区共建新县 110 多，其中在江西境内有 27，福建有 20，安徽、湖北各有 10 县，浙江 4 县，四川、湖南各 7 县，江苏 5 县。两宋时期，就江西一省而言，宋代已达 68 县，比唐前期翻了一番。

——改编自周振鹤著《中国地方行政制度史》

（2）依据材料，结合所学知识，阐释不同历史时期三地新置行政区的变化与经济开发程度的关系。

“内边防务”“外边防务”是研究中国古代边疆问题时常使用的概念。“内边防务”通常指中央政权对边疆民族地区的治理，“外边防务”多指维护国家统一对外防范的事务。

（3）概述我国汉唐、明清两个时期边疆政策的特点和表现。

17. 租借法案

①1939 年 10 月第九届“泛美”大会宣布，美洲人民通过坚强的和平意志和对人民的深厚情感，及对国际法、国家平等主权和个人自由的绝对遵守，对欧洲战争保持中立。

②1939 年 12 月美国参议员发出呼吁，如果日本取得与美国续订商约，必须首先取消其在华享受的一切优于其他国家的特权。

③1940 年 1 月罗斯福总统宣读咨文：今日美国的失业问题尚未解决，对中南美各国的睦邻政策业已顺利实现，举世各国舆论称美国是企求世界和平的有力因素，美国绝对不对外缔结同盟，以卷入他国之漩涡。

④1940 年 7 月丘吉尔致电罗斯福：我已将我们目前处境坦率奉告，你一定能竭尽所能立即给我们送来

50 或 60 艘你们最旧的驱逐舰。总统先生，我怀着崇高的敬意向你说明，在漫长的世界历史中，这是目前的当务之急。

⑤1940 年 9 月双方达成协议，英国将西印度群岛和百慕大群岛租借给美国，为期 99 年。美国取得在纽芬兰、百慕大群岛、巴哈马群岛、牙买加、安提瓜、圣卢西亚、特立尼达和英属圭亚那的海、空基地，美国立转交英国 50 艘逾龄驱逐舰。

⑥1940 年 12 月丘吉尔给罗斯福写了一封近万言的信“你们能够支援我们的军火和船只越迅速，越丰富的资源源源而来，我们美元存款就消耗的越快，已经超过大不列颠手中残存的全部外汇储备若干倍。我相信你会同意这样的看法，如果大不列颠用鲜血赢得了胜利，替美国争取了充分武装以防不测的时间之后却一贫如洗，这样的方针在道义上和经济上不符合我们任何一国的利益的”。

⑦1941 年 3 月罗斯福总统签署《增强美国防御法》（“租借法案”），只要总统认为某国的防御对美国防务至关重要，美国可以向这个国家出售、交换、租、借或转让任何军需品，等到战争结束后，在合适的时间内两国协商以美国所需要的物品偿还。1942 年 6 月签订《美一苏租借协定》。

选取相关材料（写序号），结合所学，说出美国政策的变化，并对“租借法案”进行评价。

18.“人类之网”



麦克尼尔写道：当学者们对 20 世纪 60 年代的狩猎者和采集者进行研究时，他们每天只需要花费几个小时的劳动，就可以获得足够的食物，且享受着比终日劳作农夫的食物更精美。但农业的出现，是人类经济和社会生活的第一次革命。

（1）依据材料结合所学，说出“从食物的采集者转变为生产者”对人类社会发展的影响。

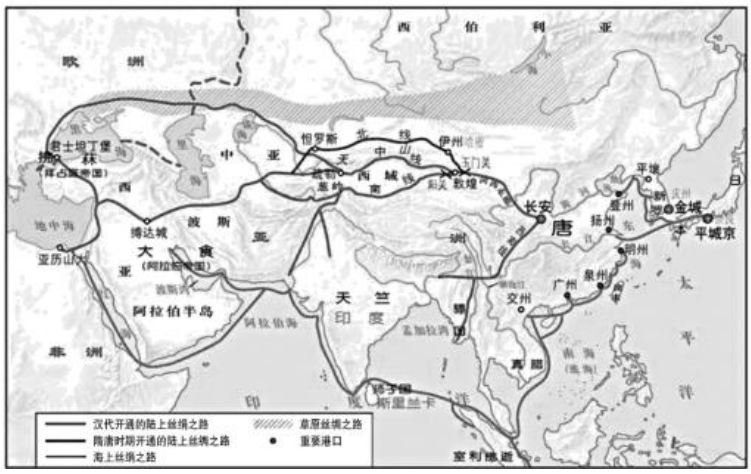

在公元1-1000年旧大陆网络体系不断成长。旧大陆文明间的互动导致一些重大后果，旧大陆的网络体系将各类型文明传播，将广袤地区中各个新的区域纳入进来，印度和西亚地区被抬升到一个新的富庶和影响层面。①印度步入了它的古典时代，在棉纺织业的领先位置直到18世纪被英国颠覆：佛教的游方僧和印度教的圣人沿商路旅行，在亚洲的不同区域享有各自信徒：②美索不迭米亚地区来自农业的财富和通过波斯湾获得贸易网络体系中的收益：而欧亚大陆诸文明之间的局面发生的重大改变，一个是来自③隋王朝完成的统一，另一个是④伊斯兰世界的兴起。

（2）依据材料结合所学，以上述材料中的四个国家（地区）任选一点入手，织一张“公元1-1000年的亚洲的网”。

要求：客观全面提取有效信息：准确把握相关特征及相互关系：对基本知识进行结构化理解，形成合理的网络结构。



科技求真，伦理向善，两者之间并非必然一致；科技的本性在于能动突破，伦理本质是平衡制约，两者之间在价值预设上具有明显的差异。科技尤其是现代科技是人类文明的重要

组成部分和发展动力，但往往需要突破以往的观念、理念、规则和实践，从而在认知活动、道德生活、社会秩序中产生巨大的不确定性。

——姚新中《科技伦理治理三论》

（3）简述二战后的世界经济在高科技的推动下迅速发展的表现。有人说“科技发明要有伦理，科技使用要有操守”。以“社会信息化”为例，谈谈你对这一问题的理解。

19. 博物馆

成立于1753年的大英博物馆，拥有世界各地文物和珍品800多万件，藏品之丰富、种类之繁多，为全世界博物馆所罕见。下表是“大英博物馆100件文物中的世界史”全球巡展的展品清单。

展厅	展品
序厅	（1）佘盆梅海特内棺
第一单元开端（公元前 2000000-前2500年）	（1）奥杜威砍砸器（2）奥杜威手斧（3）冰河时代野牛岩画(4)克洛维斯矛头(5)澳洲土著居民的篮子(6)绳纹陶器(7)鸟形杵(8)公牛头纹碗(9)埃及化妆品调色板(10)喀帕苏斯女性雕像(11)玉斧(12)玉琮
第二单元最初的城市（公元前 3000-前700年）	(1)王后竖琴(2)早期文字板(3)“大洪水”记录板(4)印度文明印章(5)奥尔梅克面具(6)康侯簋(7)米诺斯礼拜者(8)半月形项圈(9)拉美西斯二世雕像
第三单元权力与哲学（公元前 700-公元100年）	1)克罗伊斯金币(2)亚述浮雕板(3)塔哈尔卡的“沙伯提”雕像(4)琐罗亚斯德教人像(5)亚历山大银币(6)迪蒂摩斯墓碑(7)奥古斯都头像(8)阿马拉瓦蒂大佛塔雕刻(9)镈(10)索福克勒斯半身像(11)武士头盔
第四单元仪式与信仰（公元1-800年）	(1)六博俑(2)水獭形烟斗(3)仪式性球赛腰带(4)密特拉神像(5)阿拉伯铜手(6)萨珊国王狩猎盘(7)鸠摩罗笈多一世金币(8)犍陀罗佛像(9)度母像(10)约拿图像石棺(11)阿卜杜勒·马利克金币
第五单元贸易与侵略（公元 300-1100年）	(1)三彩文官俑(2)龙首双耳瓶(3)后宫壁画残片(4)基尔瓦陶壶碎片(5)婆罗浮屠的佛头(6)霍克森胡椒瓶(7)加洛林象牙雕板(8)戈尔兹伯勒窖藏(9)日本铜镜(10)莫切武士形壶(11)玛雅祭坛
第六单元变革与调整（公元 900-1550年）	(1)圣杰罗姆像(2)湿婆和雪山神女像(3)瓦斯特克神像(4)阿兹特克神像(5)印加金羊驼(6)双头人面界石(7)圣尤斯塔斯圣物匣(8)泰诺仪式用椅(9)日本太刀(10)刘易斯棋子(11)龙耳玉杯(12)伊费头像(13)元青花瓷盘(14)朝鲜粉青砂器(15)伊兹尼克彩瓷盘(16)希伯来星盘(17)丢勒的《犀牛》
第七单元邂逅与连结（公元 1500-1800年）	(1)环球航行纪念章(2)八里尔银币(3)柿右卫门瓷象(4)基督雕像(5)什叶派宗教游行仪仗(6)莫卧儿王子的细密画(7)宗教改革百年纪念宣传画(8)双面浮雕宝石(9)贝宁饰板：奥巴与欧洲人(10)“马尼拉”钱币(11)爪哇皮影戏偶(12)索维面具(13)毛利人铜棒(14)夏威夷编篮头盔(15)苏族儿童服饰(16)复式显微镜

第八单元我们创造的世界（公元 1800 年至今）	(1)皇家海军小猎犬号上的精密计时器(2)殖民地银行纸币(3)维多利亚早期的茶具(4)葛饰北斋漫画(5)美国大选徽章(6)俄国革命瓷盘(7)霍克尼的《两个二十三四岁的男孩》(8)阿富汗战争挂毯(9)战争盾牌(10)菲耶尔·多斯·桑托斯的《母亲》(11)信用卡(12)仿冒足球衣(13)太阳能灯具与充电器(14)宣布中国重返世贸组织的木槌和中国重返世贸组织的签字笔

从奥杜威峡谷出土的石质砍砸器到中国深圳生产的太阳能灯具，大英博物馆的全球巡展展品纵横两百万年，涵盖各大洲，以时间为序的九个部分解读各文明于互动中对人类历史发展的贡献。

（1）依据上述材料和所学，以某一布展单元展品为例，谈谈应如何认识博物馆在文化传承与交流中的作用。

在首都文化大篇章中，源远流长的古都文化是浓墨重彩的一笔。明十三陵的营建始于明永乐七年（1409 年），作为中国乃至世界现存规模最大、帝后陵寝最多的皇陵建筑群享誉海内外。l、选陵址是陵寝营建的首要环节，朝中一、二品官员率堪舆人员“外观山形，内察地脉”进行实地勘测。在天寿山东、西、北三面山麓上，陵寝建筑与山川形势、水流、植被自然协调。陵寝区域内还有行宫、神宫庙、祠祭署等众多附属建筑，延展至整个昌平区，明太祖朱元璋力主修建的居庸关长城、为皇帝北征及谒陵巡狩而修的巩华城、守卫皇陵的永安古城等传递出丰富的文化内涵。

明王朝 277 年间群星璀璨。天下为公、民为邦本、为政以德、革故鼎新、任人唯贤、天人合一、自强不息、讲信修睦、亲仁善邻等中华优秀传统文化都能在明文化中找到典型案例。

（2）我们可以采取哪些办法推动文物的活化利用，实现从守陵人到文化传播者的转变。在上述中华优秀传统文化内涵中任选其二，结合所学，对应写出明朝故事。

参考答案

第一部分

本部分共 15 小题，每小题 3 分，共 45 分。在每小题列出的四个选项中，选出最符合题目要求的一项。

1.【答案】A

【解析】

【详解】本题是单类型单项选择题。据本题次题干的提示词，可知这是原因题。据本题时间信息可知准确时空是：古代（中国）。根据材料“近代以来，学者通常将尧、舜归入‘传说时代’”可知，《易经》《礼记》《史记》这些书将中国早期历史的时代从“尧舜禹汤”开始，但随着近代古学的深入研究发展，近代学者将中国早期历史的时代从夏商周这些有考古遗迹印证的世代开始，A 项正确；材料强调的是对“尧舜禹汤”是否为中国历史世代的开始，不涉及早期国家形态认识，排除 B 项；C 项与史实不符，考古发现了很多夏朝之前的文化遗存，排除 C 项；《史记》所依据的资料有《诗》《书》等文献，并没有失传，排除 D 项。故选 A 项。

2.【答案】C

【解析】

【详解】本题是组合选择题。时空是中国古代汉朝云南地区。根据材料“以五铢钱随葬取代海贝随葬”可知，五铢钱在当地流通使用，材料反映了云南地区滇文化的发展及与中原文化的相互交融，体现了中华文化的多元一体的格局，③④C 项正确；材料反映汉朝以来对云南地区的统治，未涉及秦朝，①错误；根据材料可知，滇文化一直存在，与中原文化并存，②错误，排除 ABD 项。故选 C 项。

3.【答案】D

【解析】

【详解】本题是单类型单项选择题。据本题主题干设问词，可知这是推断题，时空是宋金时期。根据材料“金章宗（1168 年—1208 年）在《女史箴图卷》中的题跋。”及所学可知，瘦金体是宋徽宗赵佶所创的一种字体，是书法史上极具个性的一种书体，因其与晋楷唐楷等传统书体区别较大，个性极为强烈。瘦金体运笔灵动快捷，笔迹瘦劲，至瘦而不失其肉，其大字尤可见风姿绰约处。因其笔画相对瘦硬，故笔法外露，可明显见到运转提顿等运笔痕迹，是一种风格相当独特的字体。由此可见，金章宗在《女史箴图卷》中的题跋符合“瘦金体”的特征，D 项正确；大定之治是指金国在金世宗完颜雍在位期间出现短暂的稳定繁荣的局面，与题干时间不符，排除 A 项；随着金朝的建立，完颜希尹奉金太祖之令，参考汉文与契丹文创造了女真文，排除 B 项；魏晋时期的书法就已经成为了一门艺术，排除 C 项。故选 D 项。

4.【答案】D

【解析】

【详解】本题是单类型单项选择题。据本题主题干设问词，可知这是正向题，时空是 1914 年的中国。根据材料“1914 年哈尔滨交通银行开始发行印有哈尔滨地名的“国币”券，直接面对沙俄卢布及日本的金融政策。”可知，1914 年哈尔滨交通银行发行的“国币”券具有应对列强对华金融侵略的作用，D 项正确；清朝末年掀起的保路运动是四川、广东、湖南、湖北等省人民反对清政府将民办的川汉、粤汉铁路出卖给

帝国主义的群众运动，与交通银行的创立无关，排除A项；材料未涉及官僚资本的信息，国民党时期的四大银行是官僚资本巧取豪夺的工具，排除B项；1935年国民政府实行了币制改革，制定了“废两改元”的原则，终结了银元的法定货币地位，排除C项。故选D项。

5.【答案】C

【解析】

【详解】本题是单类型单项选择题。据本题主题干设问词，可知这是推断题，时空是1945年的中国。根据图示信息“哈尔滨、长春”及所学可知，反映的是1945年苏联红军出兵中国东北抗击日军的信息，C项正确，右侧的进军路线图与“1895年、1931年、1948年”的史实不符，排除ACD项。故选C项。

6.【答案】B

【解析】

【详解】本题是单类型单项选择题。据本题主题干的设问词，可知这是正向题。据本题时间信息可知准确时空是：现代中国。根据所学可知，《红旗颂》以红旗为主题，描绘了1949年10月1日中华人民共和国成立时第一面五星红旗升起的情景，表现了中国人民在红旗的指引下，英勇顽强，奋发向上的革命气概，热烈讴歌了伟大祖国蒸蒸日上的繁荣景象。演奏能瞬间打动听众，说明引发了观众强烈的情感共鸣，B项正确；粉碎“四人帮”是在1976年，与题目时间不符，排除A项；《红旗颂》是歌颂祖国和人民为主题，与中俄关系无关，排除C项；材料主要强调《红旗颂》能瞬间打动听众，引发情感共鸣，与“二为”方向、“双百”方针无关，排除D项。故选B项。

7.【答案】C

【解析】

【详解】本题是组合型选择题。据本题主题干设问词，可知这是推断题，时空是20世纪70年代的中国和美国。根据材料可知，①增速最快阶段出现在1977年至1978年，表述有误；②处于世界范围内的产业结构调整期，如第三产业的兴起，表述正确；③中国与外部关系出现重大调整突破，如中美正式建交，表述正确；④材料未涉及国民消费水平提升的信息，④项错误。C项正确，排除ABD项。故选C项。

8.【答案】B

【解析】

【详解】本题是组合选择题。时空是现代（中国）。

根据题意要求，选择体现“地脉传承，区情乡恋”的桥。亮马河区域原为明朝永乐年间皇家御马苑所在地，因过往马匹常在此清洗、晾晒而得名。为此，朝阳区设计打造了“饮马花溪”景观，附近的一座桥也因此被命名为“饮马桥”，①符合题意；“水碓桥”现处朝阳公园区域，原为水碓子公园，承载了历史印记和百姓思念，②符合题意；“织锦桥”所在八里庄街道在历史上的支柱产业是纺织，同时，织锦在民间有吉祥寓意，传达百姓对美好生活的向往，⑥符合题意；24桥中，像这样“地脉传承”且承载历史记忆的还有很多，如“仓廪桥”，⑤符合题意；燕鸣桥可追溯到“周武王封召公于燕”，寓意“建城伊始，生态初心”，③不符合题意；王府古宅及周边地区不属于“地脉传承，区情乡恋”，④不符合题意，故本题选B项。

9.【答案】C

【解析】

【详解】本题是组合型选择题。据本题主题干设问词，可知这是原因题，时空是古代两河流域文明。根据材料“但美索不达米亚及周边地区冶金技术深刻影响着古代世界的技术进步”及所学可知，材料未涉及冶铁难度大对工艺流失的影响，①项错误；材料反映了两河流域文明成果对古代世界的影响，这与长途贸易网络的兴起有关，②项正确；赫梯帝国对古代世界文明的发展产生了深远的影响，他们最先发明和使用铁器，大大推动了人类生产力的进步，不符合题意，③项错误；“重要城市文明的崛起”与青铜文明的出现有关，④项正确。C 项正确，排除 ABD 项。故选 C 项。

10.【答案】A

【解析】

【详解】本题是单类型单项选择题。据本题主题干设问词，可知这是原因题，时空是帕提亚（安息）王朝早期。根据材料“希腊语是官方语言之一，社会上层以精通希腊文化为荣，宫廷中经常上演希腊戏剧。”及所学可知，材料反映了帕提亚（安息）王朝崇尚古希腊文化的信息，结合所学可知，这主要是因为亚历山大东征促进了希腊化时代的形成，A 项正确；材料未涉及古希腊民主政治的信息，排除 B 项；材料信息与丝绸之路的开通无关，排除 C 项；材料未涉及罗马帝国的信息，帕提亚（安息）王朝建于公元前 247 年，开国君主为阿尔沙克，罗马帝国建立与公元前 27 年，时间不符，排除 D 项。故选 A 项。

11.【答案】D

【解析】

【详解】本题是单类型单项选择题。据本题主题干设问词，可知这是原因题，时空是 1807 年的葡萄牙。根据材料“1807 年葡萄牙王室在若昂六世带领下出逃迁往巴西，完成了一个政府、一个国家的搬迁。”及所学可知，19 世纪初期，法兰西帝国横空出世，开国皇帝拿破仑一世不断对外发动征服战争，当时整个欧洲除了英国和俄罗斯，其余国家要不变成法国领土，要不沦为法国附庸，由布拉干萨王朝统治的葡萄牙变成了法国领土。整个国家被侵占，布拉干萨王朝不甘心葡萄牙亡国，于是整个王室逃往海外殖民地巴西，把首都里斯本也迁往里约热内卢。D 项正确；宗教改革发生于 16 世纪，与此事件无关，排除 A 项；克里米亚战争是 1853 年至 1856 年间在欧洲爆发的一场战争，是俄罗斯与英国、法国为争夺小亚细亚地区权利而开战，战场在黑海沿岸的克里米亚半岛，是拿破仑战争以后规模最大的一次国际战争，排除 B 项；工业革命发生于 18 世纪 60 年代至 19 世纪中叶的英国，与此事件无关，排除 C 项。故选 D 项。

12.【答案】B

【解析】

【详解】本题是组合型选择题。据本题主题干设问词，可知这是推断题，时空是 19 世纪的美国。根据材料“19 世纪美国的邮政系统经历了从几百所邮局到上万所邮局的增长与分布情况”及所学可知，北美独立战争发生于 1775 年至 1783 年，属于 18 世纪的历史事件，①不符合题意；材料未涉及美国民主化进程的信息，②不符合题意；材料反映了 19 世纪以来美国邮局数量大幅增加的信息，其中 1831 年 76%的美国联邦公务员都在邮政局里工作，这说明美国联邦公务员数量在不断增加，这有助于增强国家的治理能力，③符合题意；材料反映了 19 世纪以来美国领土范围不断扩大的信息，④符合题意。B 项正确，排除 ACD 项。故选 B 项。

13.【答案】B

【解析】

【详解】本题是组合选择题。时空是20世纪四五十年代（美国、西欧、日本）。根据材料可知，20世纪四五十年代爆发了新的科技革命，其主要原因包括相对论的提出和量子力学的发展，为技术革命进一步提供了理论支持；合伙制股份制等企业形式的产生和发展，为科技发展提供创新驱动等等。③④符合题意，B项正确；经济发展的现实需要以及政府大力扶持高新技术产业，推动了科技革命的发展，①②不符合题意，排除ACD项。故选B项。

14.【答案】A

【解析】

【详解】本题是单类型单项选择题。据本题主题干设问词，可知这是推断题，时空是1958年至1966年的法国。根据材料“1963年6月法国从北约撤回大西洋舰队，不再参加北约联合军事演习。1964年1月中法建交，法国是第一个和中华人民共和国建交的西方大国。1966年3月正式通知北约盟国，法国结束对北约组织一体化的从属关系。”可知，反映了法国追求建立大国地位和摆脱北约组织的信息，这对两极格局产生了一定的冲击，A项正确；材料未涉及法国推动欧洲联合的信息，排除B项；材料未涉及法国维护世界和平的信息，排除C项；材料未涉及北大西洋公约组织东扩的信息，排除D项。故选A项。

15.【答案】B

【解析】

【详解】本题是单类型单项选择题。据本题主题干的设问词，可知这是正向题。据本题时间信息可知准确时空是：现代（中国和欧洲）。根据材料可知，“欧元公约”的核心是经济治理改革，促进成员国经济更加融合，有利于欧洲一体化发展，符合题意，B项正确；威斯特伐利亚和会被公认为是欧洲最早的一次国际会议。1648年“三十年战争”参战各国为了恢复欧洲和平，而在威斯特伐利亚召开会议结束战争。会议上法国和瑞典巩固了战场上所取得的成果，取得了与神圣罗马帝国同等的地位。它开创了用国际会议形式解决国际争端，结束战争的先例，并肯定了国家主权原则，标志着近代国际关系史和近代欧洲外交史的开端，对后世国际关系产生了深远的影响。不符合题意，排除A项；《非战公约》是第一次世界大战后，在全世界人民反对帝国主义战争，渴望和平的压力下缔结的，它是第一个正式宣布废弃以战争作为推行国家政策工具的普遍性国际公约。不符合题意，排除C项；《国际联盟盟约》是《凡尔赛和约》的第一部分，为建立国际联盟而制定的规则。不符合题意，排除D项。故选B项。

第二部分

本部分共4大题，共55分。请用黑色字迹签字笔在答题卡上各题的答题区域内作答，在试卷上作答无效。

16.【答案】（1）内涵：随着华夏认同观念的发展，儒家、阴阳家等学派对“九州”的内涵提出各自解释，“九州”由指某国某地某自然区域，变为代指整个中国之意，后成为家国情怀的意象，具有了地理、政治、人文属性，承载了中华民族对国家观念的文化记忆。

（2）变化：三地新置行政区多次调整；这一时期地方行政区划大致与经济开发吻合，表现出开发时间、程度的差异；三地的郡县、州县两级制日渐完备。

关系：苏南浙江地区承接先秦以来的发展，西汉时期行政单位数量高于其他两地；东汉末年起，北方战乱，南方政局相对稳定，北民南迁，充实了劳动力资源，促进了江南的开发，三地郡县数量增长明显；唐中后

期至两宋，随着中国政治经济文化中心的东移南迁，海上丝绸之路的发展，三地新置行政区数量增长迅速。

（3）特点：汉唐时期是统一多民族国家的巩固发展阶段，以“内边防务”为主；明清时期经略边疆，“内边防务、外边防务”并重，奠定统一多民族国家的版图。表现：汉代设置西域都护府、唐代实行羁縻制、明清实行闭关锁国政策。

【解析】

【小问 1 详解】

本题是特点类材料分析题，时空是古代中国。由材料“先秦时期“九土……‘九围……‘九有’、春秋时期齐侯缚钟‘咸有九州’的铭文表达‘天下’‘中国’之意：邹衍认为‘九州’是世界的一部分，除中国的“赤县神州”外，另有八州，成为一时之显学；……寄托了诗人们的爱国情怀。”及所学可知，随着华夏认同观念的发展，儒家、阴阳家等学派对“九州”的内涵提出各自解释，“九州”由指某国某地某自然区域，变为代指整个中国之意，后成为家国情怀的意象，具有了地理、政治、人文属性，承载了中华民族对国家观念的文化记忆。

【小问 2 详解】

本题是对比类材料分析题，时空是西汉至唐前期的东南地区。由材料“西汉至唐前期东南三地郡（州）县分布的变迁”可得出三地新置行政区多次调整；由材料“从唐中期到宋初的二百余年间，南方地区共建新县 110 多，其中在江西境内有 27，福建有 20，安徽、湖北各有 10 县，浙江 4 县，四川、湖南各 7 县，江苏 5 县。两宋时期，就江西一省而言，宋代已达 68 县，比唐前期翻了一番。”及所学可得出这一时期地方行政区划大致与经济开发吻合，表现出开发时间、程度的差异；三地的郡县、州县两级制日渐完备。由材料“苏南浙江”及所学可得出苏南浙江地区承接先秦以来的发展，西汉时期行政单位数量高于其他两地；东汉末年起，北方战乱，南方政局相对稳定，北民南迁，充实了劳动力资源，促进了江南的开发，三地郡县数量增长明显；由材料“苏南浙江、江西、福建”及所学可得出唐中后期至两宋，随着中国政治经济文化中心的东移南迁，海上丝绸之路的发展，三地新置行政区数量增长迅速。

【小问 3 详解】

本题是特点、表现类材料分析题，时空是汉唐至明清时期。由材料“‘内边防务’通常指中央政权对边疆民族地区的治理，‘外边防务’多指维护国家统一对外防范的事务。”及所学可知，汉唐时期是统一多民族国家的巩固发展阶段，以“内边防务”为主；明清时期经略边疆，“内边防务、外边防务”并重，奠定统一多民族国家的版图。结合所学可知，汉代设置西域都护府、唐代实行羁縻制、明清实行闭关锁国政策。

17.【答案】如③⑤⑦。中立自保；支持英国反抗法西斯侵略；建立世界反法西斯同盟，协同作战。租借法案的实施，对世界反法西斯战争的胜利起了重要的作用，美国推行的租借法案保存和壮大了自身实力，获得了海上霸权；扩大了对受援国的影响、世界霸主地位的确立，打下了基础。

【解析】

【详解】本题是对比、影响类材料分析题，时空是 1939 年至 1941 年的美国。根据材料选择③⑤⑦。由材料“1939 年 10 月第九届‘泛美’大会宣布，美洲人民通过坚强的和平意志和对人民的深厚情感，及对国

际法、国家平等主权和个人自由的绝对遵守，对欧洲战争保持中立。”可得出中立自保；由材料“你们能够支援我们的军火和船只越迅速，越丰富的资源源源而来，我们美元存款就消耗的越快，已经超过大不列颠手中残存的全部外汇储备若干倍。”可得出支持英国反抗法西斯侵略；结合所学可知，建立世界反法西斯同盟，协同作战。由材料“只要总统认为某国的防御对美国防务至关重要，美国可以向这个国家出售、交换、租、借或转让任何军需品，等到战争结束后，在合适的时间内两国协商以美国所需要的物品偿还。”及所学可知，租借法案的实施，对世界反法西斯战争的胜利起了重要的作用，美国推行的租借法案保存和壮大了自身实力，获得了海上霸权；扩大了对受援国的影响、世界霸主地位的确立，打下了基础。

18.【答案】（1）影响：拥有了较为稳定的食物来源，初步改变了人类纯粹依赖自然资源的状况；增加了食物供应，促进人口增长；农业技术的进步，人类历史进入新石器时代；由迁徙变为定居生活，逐渐形成聚落；农业和畜牧业的出现，农业和手工业的分工，及一部分人从事专门的文化创造]二作，推动原始音乐、文学和宗教产生，带功了天文、历法、数学等科学技术的发展；地理环境、资源禀赋的差异，不同的物种类型及农业发展的时间差异，形成各具特色的农业，产生了各自的经济形态，孕育出不同地区的文明；随着社会分工和交换产生，私有制、阶级和国家的出现，人类进入文明社会。

（2）要求：客观全面提取有效信息；准确把握相关特征及相互关系；对基本知识进行结构化理解，形成合理的网络结构。

（3）表现：新兴产业的发展和传统产业的升级，新材料技术和生物工程技术的不断突破，人类探索的空间扩展到太空、深海；自动化装置在生产中得到大量应用，劳动方式口益自动化和智能化，极大提高了生产效率，解放了劳动力，现代企业管理制度逐步发展，战后资本主义国家出现产业结构性调整，社会结构出现了新变化；社会发展进入信息时代，信息传递、运算、处理的速度大大加快，新型交通和通讯方式层出不穷，电子商务和网络金融日益普及，推动了经济全球化的发展进程。

理解：科技的本性在于能动突破，伦理本质是平衡制约，两者之间在价值预设上具有明显的差异。社会信息化的过程中，必须要坚守道德底线，维护人类社会的基本价值理念。

【解析】

【小问 1 详解】

本题是影响类题目，时空是古代世界。由材料“他们每天只需要花费几个小时的劳动，就可以获得足够的食物，且享受着比终日劳作农夫的食物更精美”可得出拥有了较为稳定的食物来源，初步改变了人类纯粹依赖自然资源的状况；结合所学可知，分别从增加了食物供应，促进人口增长；农业技术的进步，人类历史进入新石器时代；由迁徙变为定居生活，逐渐形成聚落；农业和畜牧业的出现，农业和手工业的分工，及一部分人从事专门的文化创造]二作，推动原始音乐、文学和宗教产生，带功了天文、历法、数学等科学技术的发展；地理环境、资源禀赋的差异，不同的物种类型及农业发展的时间差异，形成各具特色的农业，产生了各自的经济形态，孕育出不同地区的文明；随着社会分工和交换产生，私有制、阶级和国家的出现，人类进入文明社会等方面分析说明。

【小问 2 详解】

根据材料客观全面提取有效信息；准确把握相关特征及相互关系；对基本知识进行结构化理解，形成合理的网络结构。

【小问 3 详解】

本题是影响类材料分析题，时空是二战后的世界。第一问表现，结合所学可知，二战后的世界经济在高科技的推动下迅速发展的表现包括：新兴产业的发展和传统产业的升级，新材料技术和生物工程技术的不断突破，人类探索的空间扩展到太空、深海；自动化装置在生产中得到大量应用，劳动方式口益自动化和智能化，极大提高了生产效率，解放了劳动力，现代企业管理制度逐步发展，战后资本主义国家出现产业结构性调整，社会结构出现了新变化；社会发展进入信息时代，信息传递、运算、处理的速度大大加快，新型交通和通讯方式层出不穷，电子商务和网络金融日益普及，推动了经济全球化的发展进程。第二问理解，由材料“科技的本性在于能动突破，伦理本质是平衡制约，两者之间在价值预设上具有明显的差异。科技尤其是现代科技是人类文明的重要组成部分和发展动力”可知，科技的本性在于能动突破，伦理本质是平衡制约，两者之间在价值预设上具有明显的差异。社会信息化的过程中，必须要坚守道德底线，维护人类社会的基本价值理念。

19.【答案】（1）博物馆是进行国民教育的重要场所，向公众提供关于自然、文化各领域的知识，以一种特有的方式担负着文化传承和传播的使命。举例说明，如某一单元主题及展品，依据所学知识加以对接主题的合理阐释。

博物馆是征集、收藏、展示、研究自然和人类文化遗产的重要场所。近代西方国家的博物馆收藏了珍贵文物，为这些文物的保存、研究、传播做出了一定的贡献。大英博物馆迅速发展于殖民时代，其藏品大多从世界各地掠夺采集而来。随着殖民体系的解体，其藏品的正义性屡遭争议：从宏观的角度来看，展品是一些珍贵的文化碎片，脱离文化母体无法整合成较完整的文化系统。

（2）献计献策言之有理，例如：运用现代信息技术制作文物宣传片等。亲仁善邻：如，郑和下西洋。革故鼎新：如，张居正改革。天下为公：如，明末思想家顾炎武、黄宗羲等。天人合一：如明十三陵选址。

【解析】

【小问 1 详解】

本题是影响类材料分析题，时空是 1753 年后的大英博物馆。由材料及所学可知，博物馆是进行国民教育的重要场所，向公众提供关于自然、文化各领域的知识，以一种特有的方式担负着文化传承和传播的使命。例如，选择第五单元贸易与侵略。结合所学可知，博物馆是征集、收藏、展示、研究自然和人类文化遗产的重要场所。近代西方国家的博物馆收藏了珍贵文物，为这些文物的保存、研究、传播做出了一定的贡献。大英博物馆迅速发展于殖民时代，其藏品大多从世界各地掠夺采集而来。随着殖民体系的解体，其藏品的正义性屡遭争议：从宏观的角度来看，展品是一些珍贵的文化碎片，脱离文化母体无法整合成较完整的文化系统。

【小问 2 详解】

本题是特点类材料分析题，时空是古代中国。结合所学可知，我们可以运用现代信息技术制作文物宣传片等方式推动文物的活化利用，实现从守陵人到文化传播者的转变。由材料“明王朝 277 年间群星璀璨。天下为公、民为邦本、为政以德、革故鼎新、任人唯贤、天人合一、自强不息、讲信修睦、亲仁善邻等中华优秀传统文化都能在明文化中找到典型案例。”及所学可知，亲仁善邻：如，郑和下西洋。革故鼎新：如，张居正改革。天下为公：如，明末思想家顾炎武、黄宗羲等。天人合一：如明十三陵选址。