2025 北京顺义高三一模

历　　史

本试卷共 8 页，100 分。考试时长 90 分钟。考生务必将答案答在答题卡上，在试卷上作答无效。考试结束后，将本试卷和答题卡一并交回。

第一部分

本部分共 15 题，每题 3 分，共 45 分。在每题列出的四个选项中，选出最符合题目要求的一项。

1. 青铜铙是起源于商代中晚期的重要乐器。据考证，出土于长江中下游的青铜大铙来源于殷墟小铙，二者都与陶寺遗址出土的铜铃有渊源。早期大铙纹饰模仿殷墟小铙，后演化为南方青铜器典型纹饰。材料可以说明（　）

A. 新石器时代晚期礼乐制度形成　　B. 早期中华文明呈现多元一体的特征

C. 南方青铜铙铸造技术非常落后　　D. 商朝文化影响范围涵盖了岭南地区

2. 唐朝民间契约经常约定，若负债逾期不还，债权人可以夺取欠债人家资抵债。但《唐律疏议》规定，“公私债负……若不告官司而强牵掣财物……坐赃论（按非法获取公私财物论处）”。材料表明唐朝政府（　）

①严格限制民间经济活动 ②防止债权人滥用权利 ③保护债务人的经济利益 ④否认契约的法律效力

A. ①③　　B. ②④　　C. ②③　　D. ①④

3. 有史学家认为，“中国历史中主要的朝代，每个不同，而尤以赵宋为显著”，“经历过晚唐五代的社会变动，既有秩序被冲击，社会结构调整重组，平民化、世俗化、人文化趋势明显，王朝的务实基调体现在方方面面”。能支撑此观点的是（　）

①科举制度不断发展完善②佛教和“经世致用”的思想盛行

③崇文抑武导致积贫积弱④反映市民生活的“词”大量涌现

A. ①③　　B. ②③　　C. ②④　　D. ①④

4. 下列史料描述了中国古代不同时期的经济现象，按出现时间先后顺序排列正确的是（　）

①“大抵诸酒肆瓦市，不以风雨寒暑，白昼通夜”

②“方里而井，井九百亩，其中为公田。八家皆私百亩，同养公田”

③“舍本逐末，贤哲所非，日富岁贫，饥寒之渐，故商贾之事，阙而不录”

④“我吴市民，罔藉田业，大户张机为生，小户趁织为活……两者相资为生久矣”

A. ①③②④　　B. ③②④①　　C. ②③①④　　D. ④②①③

5. 明弘治年间，山西省共设 63 处巡检司维护治安，其中关隘津渡占九成，市镇不足一成。清代历任山西巡抚多次奏请将巡检司移设“烟户繁多，商贾云集”之地。至嘉庆末年，山西巡检司驻扎于市镇者占比达六成，涉及商业管理、市集整顿等多方面事务。这一变化反映出（　）

A. 明代开始设置关隘巡检司　　B. 巡检司职能呈现单一化趋势

C. 明清巡检司数量不断减少　　D. 山西市镇经济逐步发展繁荣

6. 1887年，张之洞创办水陆师学堂。除开设传统的经史课程以端其本外，学堂还开设轮机、枪炮、营造、矿学、化学、电学、植物学和公法学等课程，并聘请洋教授课。由此可见，该学堂（　）

①有利于培养新型军事人才②适应学堂选官制度的需要

③体现了学制改革的新成果④践行了“中体西用”思想

A. ①②　　B. ①④　　C. ②③　　D. ③④

7. 2025年是遵义会议召开90周年。这次会议开始确立以毛泽东为代表的马克思主义正确路线在党中央的领导地位，是我党历史上一次具有伟大转折意义的重要会议。这次会议（　）

①促成国共两党的第一次合作②开始了党对军队的绝对领导

③挽救了中国共产党、工农红军和中国革命④开启独立自主解决中国革命问题的新阶段

A. ①②　　B. ②③　　C. ③④　　D. ①④

8. 下表是中国人民抗日战争纪念馆珍藏的《论持久战》的相关信息。下列结论正确的是（　）

1938年7月	延安解放社出版了毛泽东的《论持久战》单行本
1938年7月25日	新华日报馆在武汉出版了《论持久战》单行本
1938年8月23日	上海《每日译报》开始连续登载《论持久战》
1938年10月	中共地下党员杨刚在《自由谭》（英文版）上公开连载《论持久战》，并秘密出版了英文版《论持久战》

①该书系统阐明了中国共产党的持久战方针②国统区的公开发行扩大了统一战线影响力

③进步报刊的刊载传播增强抗战胜利的信心④英文版的连载加速了第二次世界大战胜利

A. ①②③　　B. ②③④　　C. ①③④　　D. ①②④

9. 下图是1953年3月28日天津市第一工人文化宫画廊展出“婚姻法图解”的场景。这场展出（　）



A. 有利于新中国第一部《婚姻法》实施　　B. 标志着社会主义婚姻制度的基本确立

C. “图解”连环画形式缺乏艺术性和审美价值　　D. 彻底改变以“夫权”为核心的封建婚姻观念

10. 下表是1952年到1978年《中国统计年鉴》中各级各类学校招生人数的数据。据此可得出的结论有（　）

年份	普通高等学校	中等学校	高中	初中	小学

	（万人）	（万人）	（万人）	（万人）	（万人）
1952	7.9	174.6	14.1	124.2	1149.3
1962	10.7	298.8	41.7	238.3	1586.3
1978	40.2	2743.6	692.9	2006.0	3315.4

①各级各类学校招生数均有所增长②新中国成立后非常重视教育投入

③“科教兴国”战略实施效果明显　④高等教育招生人数位居世界前列

A. ①②　　B. ①④　　C. ②③　　D. ③④

11.《希腊罗马名人传》记载，亚历山大东征抵达印度河流域，士兵们发现当地的医学知识极为独特，尤其是草药运用与正骨医术。随军的希腊医生与印度医者相互交流切磋，将不少印度医术带回希腊地区，丰富了希腊医学体系。对上述材料理解正确的有（　）

①中国的医学知识在印度广为传播②印度河流域有发达的公共卫生体系

③印度医术对希腊医学有重要影响④战争客观上促进了人类文明的交流

A. ①②　　B. ①④　　C. ②③　　D. ③④

12. 中世纪欧洲教育长期为教会所垄断，教学内容主要集中在神学、拉丁文及经书抄写等方面。到了 11 世纪，西欧城市逐步展开了反对领主的斗争，迫切需要具有各方面知识的人才。一些城市自发地创办了世俗学校，学校根据城市生产、交换和社会生活的需要开设多种课程，大学由此产生。以上材料表明（　）

①西欧城市的兴起推动了大学产生②民族国家先于大学而产生

③教会学校无法满足社会发展需要④天主教会的权威已被动摇

A. ①②　　B. ①③　　C. ②④　　D. ③④

13. 17 世纪，牛顿发现万有引力定律。一时间，诸多启蒙思想家专程赶赴英国，深入学习研究牛顿力学体系，将其中蕴含的理性思维、对规律的探寻精神融入自己的著作。法国科学家频繁与启蒙学者交流研讨，前者用实验数据论证真理，后者则依据科学反思社会制度。由此可见（　）

①万有引力定律标志着近代科学兴起②启蒙思想家引入科学方法观察社会

③近代科学摧毁封建统治的精神支柱④启蒙运动推动着近代科学不断发展

A. ①②　　B. ①③　　C. ②④　　D. ③④

14. 19 世纪上半期，某一群体多为贵族军官出身，他们深受欧洲进步思想影响，试图以武装起义的方式改变俄国现状。对此，列宁评价道：“这些革命者的圈子是狭小的……但是，他们的事业没有落空。”这一群体（　）

①促进俄国思想启蒙 ②推翻沙皇专制统治 ③赢得民众广泛支持 ④推动俄国社会转型

A. ①②　　B. ②③　　C. ③④　　D. ①④

15. 下列选项中，史实与结论对应正确的是（　）

选项	史实	结论

A	17 世纪，清政府任命来自欧洲的汤若望、南怀仁等人主持钦天监工作，并招揽数学、医学、天文等方面的人才来到中国	西方自然科学知识获得中国社会各界认可
B	由于 1832 年的改革，英国全国选民人数从 1831 年的 48.8 万人上升到 1833 年的 80.8 万人，占总人口的比例从约 2%增加到 3.3%	资产阶级民主具有渐进性和局限性
C	参与到第一次世界大战中的这 17.5 万非洲士兵，在法兰西和佛兰德的壕沟里掘好了旧非洲的坟墓	非洲作为一战的主战场丧失了大量人口
D	1918 年，阿根廷第一个在拉美组建了共产党，随后墨西哥、乌拉圭、智利、巴西、古巴等先后成立了共产党	拉美近代工业迅速发展

A. A　　B. B　　C. C　　D. D

第二部分

本部分共 5 题，共 55 分。请将所有答案写在答题卡中。

16. 文物与历史

材料一 清华大学在 2008 年 7 月收藏了一批战国竹简，为研究先秦历史提供了珍贵资料。以下是涉及分封制的部分记载：“我（周公）亦上下辟于文武之受命，广戡（用武力平定）方邦”，“周成王、周公既迁殷民于洛邑，乃追念夏商之亡由，旁设出宗子，以作周厚屏，乃先建卫叔封于康丘，以侯殷之余民。”

材料二 （中国境内）东周至秦汉时期骆驼题材文物分布统计表

地区 / 时代	北方草原地区	农牧交错地区	中原地区及其边地	秦岭淮河以南
春秋	器物构件	饰牌、器物纹饰、器物构件		
战国	器物构件	饰牌、器物纹饰、器物构件	饰牌、器物纹饰、器物构件	
秦	器物构件	饰牌	饰牌、单体塑像	
西汉	器物构件	饰牌、器物纹饰、单体塑像	饰牌、单体塑像、器物构件、器物纹饰	器物纹饰、器物构件
东汉		饰牌、器物纹饰、画像砖石、器物构件	单体塑像、器物构件、画像砖石	画像砖石

（1）阅读材料一，归纳分封制的相关历史信息。

（2）依据材料二，概括春秋到东汉时期骆驼题材文物分布的变化，结合所学分析其原因。

17. 沉沦与探索

中国历史研究院主编的《中华文明史简明读本》按照文明成长的历程，宣示中国特色文明定义，揭示中华文明生成发展的内在动力，明确中华文明的核心精神基因、现代元素和突出成就。其中，用“沉沦探索”高度概括了中国近代旧民主主义革命时期的历史，并在某章列出四节具体内容：

第一节 文明蒙尘
1.西方文化侵略与渗透
2.文明自信的削弱
3.民族觉醒与浴血抗争
第二节 救亡图存
1.“师夷长技以制夷”
2.“中体西用”
3.改良与革命思潮兴替
第三节 新知识新体系
1.传统学术文化新成就
2.新式教育的探索
3.近代知识体系建立
第四节 社会新风貌
1.新兴阶层
2.日常生活
3.文明交流互鉴

阅读材料，任选一节大标题，自拟一个主题，结合旧民主主义革命时期的相关史实加以阐释。

要求：明确写出所选标题，自拟主题与标题相关，史论结合，逻辑清晰。

18. 铁路与交通

材料一

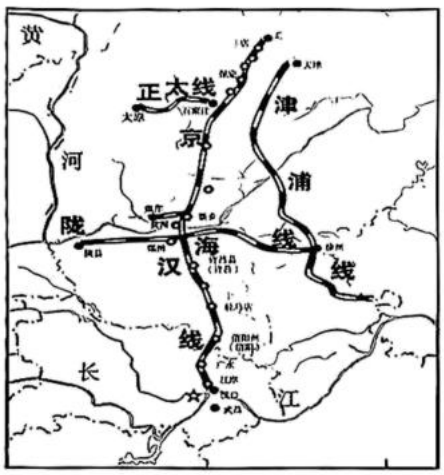

图1 晚清时期中国的铁路

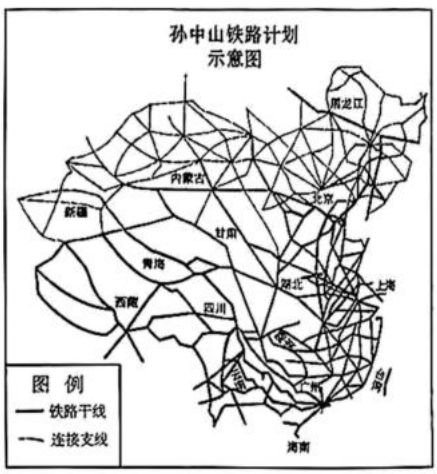

图2 民国时期孙中山的铁路梦想

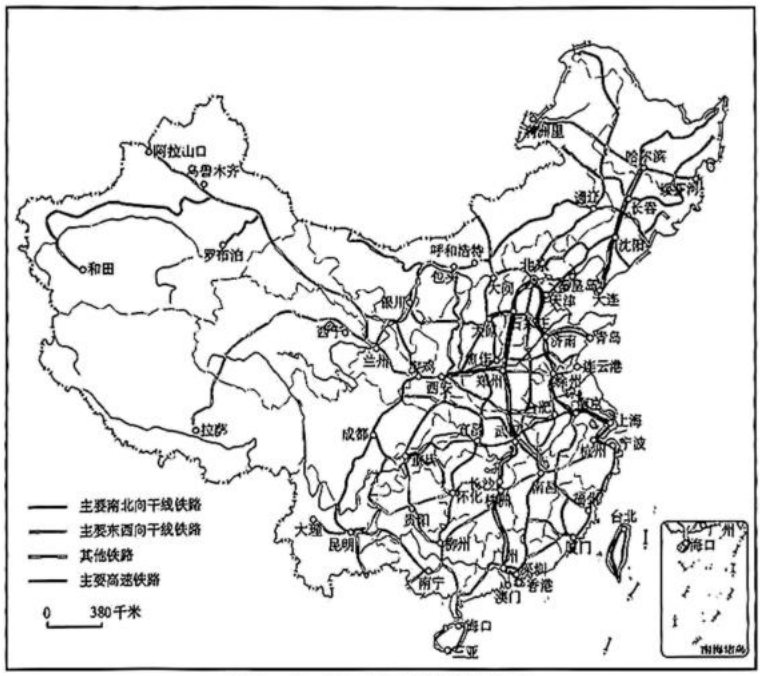

图3 21世纪中国建成的铁路网

材料二 晚清洋务运动期间，中国开始修筑铁路。1881年，唐山至胥各庄的铁路建成，这是中国人在自己国土上修建的第一条实用铁路。甲午战争以后，列强激烈争夺在华铁路的修筑权。面对列强侵略，修建铁路成为国人救亡图存的象征。詹天佑设计的京张铁路于1909年通车，成为里程碑。到1911年，铁路总长约9000千米，大部分由外国控制。民国以后，各条商路修筑权收归国有。因时局等因素，铁路建设始终未入正轨。

中华人民共和国成立后，铁路建设逐步恢复。从1953年开始，铁路建设进入有计划的发展阶段。经过五个五年计划的建设，取得了辉煌的成绩。到1978年底，全国铁路营业里程达49940千米，全国铁路网骨架基本形成。十一届三中全会后，中国铁路进入快速发展阶段。20世纪90年代，成功研发东风4D、东风11等主力机车型。21世纪初，中国又研发出“和谐号”动车组车型。2017年，具有完全自主知识产权的中国标准动车组“复兴号”正式投入运营。到2023年底，中国高铁运营里程达45000千米，稳居世界第一。中国高铁积极“走出去”，在众多国家开展高铁项目，为一带一路提供了保障。

依据材料一、二和所学，对近代以来中国铁路的发展历程进行解读。

19. 英国与埃及

英埃关系的部分相关史事

时间	部分史事
1936年	《英埃同盟条约》规定，英国终止对埃及的军事占领，承认埃及独立，但埃及需在外交、国防等关键领域与英国保持“协商一致”，英国有权在苏伊士运河区驻军，人数上限为10000人，保留军事基地4个，期限20年；埃及军队需接受英国军事顾问指导
1942年	“二月事件”爆发，英国大使代表政府向埃及发出提议，要求埃及改组内阁，任命亲英首相。在英军的武力胁迫下，埃及国王被迫接受英国的建议，由此英国加强了对埃及政府的控制

1954年	《英埃撤军协定》规定，英国承诺分阶段从苏伊士运河区撤军，第一阶段在6个月内撤走5000人，剩余军队在20个月内全部撤离；埃及需保证撤军期间运河区英国军队的后勤补给顺畅，不得干扰撤军行动；撤军后英国保留对运河区“紧急事态”下的干预权
1956年	英国正式承认埃及完全独立，放弃在埃及境内一切军事基地、驻军权利，苏伊士运河主权归埃及所有，双方外交关系重新定位为平等独立国家间关系，英国撤销对埃及内政的一切干预机制

（1）上述材料体现了英埃关系的变化。选择一种标准，完成阶段划分方案，并说明理由。

（2）结合所学，简述英国改变对埃及殖民政策的背景。

20. 女性与时代变迁

材料一 第二次世界大战期间，美国有600万以上的女性首次参加工作，其就业范围空前广泛，不仅有秘书、打字员等传统职务，国防工业也涌入200万女性。约有40万女性在军队服役，460多人在战争中丧生。很多女性还在海外服役，欧洲战区的战地女记者秉承着“如果你没法阻止战争，那你就把战争的真相告诉世界”的格言，用镜头和文字记录了亲身经历的二战。

材料二 第二次世界大战后，美国科技发展降低了生产过程对劳动者体力的直接依赖。同时，就业结构向服务业、高新技术产业转变，也为妇女参加工作创造了良好条件。20世纪50年代，第三产业共创造了近600万份工作。妇女就业人数从1950年的1600万上升到1960年的2230万，但男女在就业和报酬上的平等远没实现。美国妇女认识到争取女性自由和争取公民权利一样具有重要意义，故把女权运动与民权运动巧妙地结合起来。

材料三 随着美国女权运动的逐渐深入，美国两党及政府逐步转变了对待妇女的态度，把妇女问题逐渐纳入政府的工作日程当中。1961年12月，总统妇女地位委员会成立，推动了一系列法案的出台，如1963年《公平工资法》、1972年《平等就业机会法》，一定程度上保护了女性员工的权益和促进了性别平等。

（1）依据材料一，概括二战期间美国女性为战争胜利做出的贡献。

（2）依据材料二、三和所学，评析20世纪50年代到70年代的美国女权运动。

参考答案

第一部分

本部分共 15 题，每题 3 分，共 45 分。在每题列出的四个选项中，选出最符合题目要求的一项。

1.【答案】B

【详解】据本题主题干的设问词，可知这是本质题。据本题时间信息可知准确时空是：商代中晚期（中国）。根据材料可知，材料提及青铜铙起源于商代中晚期，长江中下游的大铙源自殷墟小铙，两者均与陶寺遗址的铜铃有渊源。长江中下游的青铜大铙纹饰从模仿殷墟小铙到形成地方特色，说明南方文明受到中原文明的影响，又形成了地方特色，印证了早期中华文明多元一体的特征，B 项正确；礼乐制度形成于西周，不是新石器时代晚期，排除 A 项；南方青铜铙由模仿到有自己的典型纹饰，反映了南方青铜铙铸造技术的进步，排除 C 项；岭南是中国南方五岭以南地区的概称，而材料涉及区域为黄河流域和长江流域，无法体现 D 项内容，排除 D 项。故选 B 项。

2.【答案】C

【详解】本题是组合选择题。时空是：唐朝（中国）。根据材料“不告官司而强牵掣财物”违法，明确限制债权人随意动用私力，防止其凭借优势地位过度侵害债务人，属于对权利滥用的规制，元素②正确；通过限制债权人私力救济，避免债务人因债权人单方面行动遭受财产损失（如超额抵债、暴力抢夺等），客观上保护了债务人权益，元素③正确，C 项正确；根据材料“唐朝民间契约经常约定，若负债逾期不还，债权人可以夺取欠债人家资抵债。但《唐律疏议》规定，‘公私债负……若不告官司而强牵掣财物……坐赃论（按非法获取公私财物论处）’”分析可知，材料中政府未否定契约本身，仅规范执行方式。若“严格限制”，应直接禁止民间自行约定债务处理，但《唐律疏议》仅要求通过官府程序，说明承认契约合法性，元素①错误；排除 A 项、D 项；法律仅规范执行程序，未否定契约本身的有效性，若“否认效力”，应宣布此类契约无效，但材料中无此表述，元素④错误，排除 B 项。故选 C 项。

3.【答案】D

【详解】本题是组合选择题。时空是宋朝时期的中国。根据材料“平民化、世俗化、人文化趋势明显，王朝的务实基调体现在方方面面”并结合所学可得出结论：宋朝科举制度通过扩大取士名额、推行糊名法等措施，打破门第限制，促进社会流动。此举体现平民化趋势，且以务实方式选拔人才，符合“务实基调”；宋词（尤其是婉约派）以市民生活为题材，反映城市经济繁荣下的世俗文化，直接印证“平民化、世俗化”特征，据结论可知①④正确。佛教在宋代影响有限，而“经世致用”实为明清思潮，与宋代主流理学不符，②错误；“崇文抑武导致积贫积弱”属政治军事结果，与社会结构调整、世俗化趋势无直接关联，③错误。D 项正确，排除 ABC 项。故选 D 项。

4.【答案】C

【详解】本题是组合选择题。时空是西周、北魏、宋朝、明朝（中国）。本题要求按时间先后顺序排列。①瓦市、酒肆通宵营业的现象在《东京梦华录》《梦粱录》中均有记载，是宋代打破市坊制度、夜市兴盛的标志；②土地分为公田和私田，描述的是西周时期的井田制；③出自《齐民要术·序》，为北魏贾思勰

所著。原文强调农业为根本，商业为末业，明确体现了南北朝时期的重农抑商思想；④机户（大户）与机工（小户）的雇佣关系，描述的是明代中后期资本主义萌芽，时间先后顺序是②③①④。故本题选C项。

5.【答案】D

【详解】据本题主题干的设问词，可知这是本质题。据本题时间信息可知准确时空是：明清（中国）。根据材料可知，材料指出明弘治年间山西巡检司九成设在关隘津渡，市镇不足一成，而到清嘉庆末年，驻扎市镇的巡检司增至六成且涉及商业管理，说明市镇经济在明清时期逐步发展繁荣，促使巡检司驻地调整以适应管理需求，D项正确；巡检司并非明代首创，唐代已有类似机构，且材料未提及设置开始时间，排除A项；巡检司从关隘移驻市镇，表明其职能增多，而不是呈现单一化趋势，排除B项；材料只体现巡检司驻地发生变化，未涉及数量变化，排除C项。故选D项。

6.【答案】B

【详解】本题是组合选择题。时空是1887年（中国）。根据材料可知，张之洞在1887年创办的水陆师学堂开设轮机、枪炮等军事技术课程，并聘请洋教授课，直接服务于近代军事教育，故①正确；学堂选官制度确立于1904年，与题干时间不符，故②错误；近代学制改革如壬寅学制、癸卯学制出现于20世纪初，此时尚未推行，故③错误；该学堂“开设传统的经史课程以端其本外”，同时学习近代自然科学，践行了“中体西用”思想，故④正确。因此，①④符合题意，B项正确；②③不符合题意，排除ACD项。故选B项。

7.【答案】C

【详解】本题是组合选择题。时空是：1935年的中国。依据所学可知，1935年1月，党中央在遵义召开政治局扩大会议，集中全力解决博古等人在军事上和组织上的错误，取消了博古在军事上的指挥权，肯定毛泽东的正确主张。会后确定军事上由毛泽东、周恩来等负责指挥。遵义会议确立了以毛泽东为核心的党中央的正确领导。这次会议挽救了党、挽救了红军、挽救了革命，是党的历史上生死攸关的转折点，开启了独立自主解决中国革命问题的新阶段，所以元素③④符合题意，C项正确；1924年召开的国民党一大促成国共两党的第一次合作，排除元素①；1927年三湾改编首创党对军队的领导制度，1929年古田会议从思想、政治、制度层面全面确立党对军队的绝对领导，排除元素②；由此分析排除A项、B项、D项。故选C项。

8.【答案】A

【详解】据本题主题干的设问词，可知这是正向题。据本题时间信息可知准确时空是：抗日战争时期的中国。根据材料信息并结合所学知识分析，《论持久战》是毛泽东全面阐述“以空间换时间”“持久抗战三阶段”战略的纲领性文献，逻辑严密，理论性强。材料中延安解放社的出版标志着中共正式发布这一方针，元素①符合史实；武汉当时是国民政府的临时首都（1938年10月沦陷），新华日报作为中共在国统区唯一合法报纸，其出版行为属于“国共合作”框架下的公开活动。此举通过合法渠道宣传中共主张，客观上扩大了抗日民族统一战线的影响力，元素②符合史实；上海《每日译报》是中共地下党支持的进步报刊，英文版《自由谭》则面向国际读者。二者的传播突破了日伪封锁，向沦陷区、国际社会传递中共的抗战理念，直接鼓舞了军民信心，符合“抗战相持阶段”凝聚共识的需求，元素③符合史实；《论持久战》英文版虽有助于国际了解中国抗战（如争取外援），但二战胜利的关键时间节点（如1941年太平洋战争爆

发）远晚于1938年，且中共的抗战理论对全球反法西斯战局的直接影响有限，元素④夸大了其作用，不符合史实，A项正确。带有元素④的选项都不符合题意，排除B项、C项、D项。故选A项。

9.【答案】A

【详解】据本题次题干的提示词，可知这是影响题。据本题时间信息可知准确时空是：1953年的中国。据材料可知，“婚姻法图解展”览以直观方式向工人群体普及婚姻法内容，如男女平等、婚姻自由等，增强法律意识，直接助力法律实施，1950年《婚姻法》是新中国颁布的首部法律，但传统封建婚姻观念根深蒂固，需通过宣传运动推动落实，A项正确；社会主义婚姻制度以1950年《婚姻法》颁布为确立标志，其核心内容（一夫一妻、废除包办婚姻）已通过立法形式固定。1953年的展览属于法律实施的“宣传推广”阶段，而非制度确立的标志，排除B项；新中国成立初期，大众文化水平较低，连环画、图解等通俗形式是重要的宣传教育工具，具有“大众化艺术”特征。展览形式服务于政治宣传目的，其艺术价值体现在传播效果而非传统审美标准，排除C脱项;《婚姻法》明确废除封建婚姻制度，提倡男女平等。展览通过宣传推动观念变革，与法律形成合力。 题目中“彻底改变”需理解为“政府目标”或“法律意图”，而非实际完成状态，观念变革是长期过程，排除D项。故选A项。

10.【答案】A

【详解】本题是组合选择题。时空是1952年到1978年中国。分析表格数据并结合所学可得出结论：普通高等学校、中等学校、高中、初中、小学所有类别在1952—1978年间均呈持续增长趋势；表格数据表明，从1952年到1978年，各级学校招生规模快速扩大，反映了政府通过扩大教育规模、增加资源投入来实现教育普及。这一趋势与新中国成立后“扫盲运动”和“普及基础教育”政策一致，据结论可知①②正确。“科教兴国”战略于1995年提出，而表格数据仅截止到1978年，时间上不匹配，③错误；1978年普通高等学校招生40.2万人，虽然比之前增长很多，但需要对比当时其他国家的数据，所以不能得出“世界前列”的结论，④错误。故本题选A项。

11.【答案】D

【详解】本题是组合选择题。时空是：古代的世界。根据材料可知，亚历山大东征期间，随军的希腊医生将不少印度医术带回希腊地区，丰富了希腊医学体系，可见印度医术对希腊医学有重要影响，③符合题意；根据材料“亚历山大东征”“士兵发现”“随军的希腊医生”“丰富了希腊医学体系”可知，亚历山大东征客观上促进了人类文明的交流，④符合题意，D项正确；根据材料“当地的医学知识极为独特”“印度医者相互交流切磋”“印度医术”等信息，不能说明“中国的医学知识在印度广为传播”，①不符合题意；公共卫生体系涵盖疾病预防、应急响应、医疗服务等多方面，而材料仅提及了印度的医学知识和医术，②不符合题意，排除A、B、C项。故选D项。

12.【答案】B

【详解】本题是组合选择题。时空是中世纪欧洲。根据材料并结合所学可知，材料明确指出，11世纪西欧城市为反对领主斗争和适应城市生产、社会生活需求，自发创办世俗学校，最终催生了大学，这直接表明城市的兴起与大学的产生存在因果关系；材料强调教会垄断的教育以神学、拉丁文和经书抄写为主，而城市发展需要“多方面知识的人才”（如商业、法律、医学等），世俗学校的兴起正是因教会教育无法满足实际需求，据结论可知①③正确。根据所学可知，中世纪大学（11-12世纪）诞生时，欧洲仍处于封建割

据状态，民族国家的形成是在中世纪末期至近代早期（15-16 世纪），晚于大学出现，②错误；中世纪教会仍长期主导政治、思想领域，材料仅反映教会对教育的垄断被打破，而非根本性权威瓦解，④错误。综上所述，①③正确，B 项正确；排除 A、C、D 项。故选 B 项。

13.【答案】C

【详解】本题是组合题。时空是：17 世纪至 18 世纪（欧洲）。据题干“启蒙思想家……牛顿力学体系……探寻精神融入著作……交流研讨”，并结合所学知识可知，牛顿力学体系为启蒙运动提供了科学依据和方法论启发，启蒙思想家将科学中的理性与实证精神应用于对社会制度的反思，②正确，同时，科学与启蒙思想的互动是双向的，启蒙运动倡导的理性与批判精神也推动了科学研究的深入发展，④正确，C 项正确；近代科学兴起的标志通常认为是哥白尼的“日心说”或伽利略的实验科学，而非牛顿的万有引力定律，①错误，排除 A 项、B 项；摧毁封建统治精神支柱（宗教神权）的主要是宗教改革和启蒙运动本身，而非近代科学直接导致，③错误，排除 D 项。故选 C 项。

14.【答案】D

【详解】本题是组合选择题。时空是 19 世纪上半期的俄国。根据材料“多为贵族军官出身”“他们深受欧洲进步思想影响”“他们的事业没有落空”并结合所学可知，19 世纪上半期，受欧洲启蒙思想影响的贵族军官即十二月党人，虽起义失败，但其主张宪政、废除农奴制的理念传播了自由思想，为俄国知识界播下革命火种，客观上促进了思想启蒙，①正确；起义虽败，但迫使沙皇政府正视改革压力，间接促成 19 世纪中后期农奴制改革，对俄国现代化进程有长远影响，④正确；十二月党人起义（1825 年）被镇压，沙皇专制制度直到 1917 年二月革命才被推翻，②错误；十二月党人脱离群众，起义局限于贵族军官阶层，未动员农民和底层民众，③错误。D 项正确，排除 ABC 项。故选 D 项。

15.【答案】B

【详解】根据题干设问词，可知本题是正向题。根据材料关键信息可知准确时空是：近现代的世界。根据材料和所学知识可知，英国 1832 年议会改革后，选民人数有所增加，体现了英国资产阶级民主在不断发展，具有渐进性；但选民人口比例仍较低，说明民主权利仍未广泛普及，存在局限性，B 项史实与结论对应正确，B 项正确；A 项史实仅能说明清政府在钦天监等方面任用西方人才，不能说明西方自然科学知识获得社会各界认可，当时中国传统思想根深蒂固，社会各界对西方科学知识接受程度有限，A 项史实与结论对应不正确，排除 A 项；C 项“在法兰西和佛兰德的壕沟里掘好了旧非洲的坟墓”意味着非洲士兵参战对非洲旧有的社会结构产生重大冲击，但不能说明非洲是一战的主战场，一战主战场在欧洲，C 项史实与结论对应不正确，排除 C 项；D 项拉美一些国家成立共产党，主要反映的是社会主义思想在拉美的传播以及工人运动的发展等，不能直接得出近代化工业迅速发展的结论，两者之间没有必然的因果关系，D 项史实与结论对应不正确，排除 D 项。故选 B 项。

第二部分

本部分共 5 题，共 55 分。请将所有答案写在答题卡中。

16.【答案】（1）信息：实施分封的背景是吸收夏、商覆亡教训；分封制目的是维护周王室的统治；分封的主要对象是血缘亲族（实行宗法制与分封制相结合）；周初大规模分封由周公在周成王时期推动。

（2）变化：骆驼文物从主要集中在北方草原和农牧交错地区逐步遍及全国大部分地区。

原因：春秋时期，北方游牧民族与中原地区交流相对较少，骆驼并未进入中原人们的视野；战国至秦时期，随着分裂走向统一、北方游牧民族与中原地区交流逐步增多，骆驼在贸易和交通中比较重要，人们对骆驼的认识逐渐加深；两汉时期，随着统一多民族国家的巩固，民族交融加强及丝绸之路的繁荣，骆驼作为重要的交通工具和贸易载体，其形象也被广泛运用于各地艺术品中。

【小问 1 详解】

本题是特点题。时空是西周时期的中国。据材料一“乃追念夏商之亡”由可知，实施分封的背景是吸收夏、商覆亡教训；据材料一“旁设出宗子，以作周厚屏”可知，分封制目的是维护周王室的统治；分封的主要对象是血缘亲族；据材料一“乃先建卫叔封于康丘”可知，分封的主要对象是血缘亲族；据材料一“我（周公）亦上下辟于文武之受命”“周成王、周公既迁殷民于洛邑”可知，周初大规模分封由周公在周成王时期推动。

【小问 2 详解】

本题是对比题、原因题。时空是春秋至东汉时期的中国。变化：据材料二“（中国境内）东周至秦汉时期骆驼题材文物分布统计表”可知，春秋时期骆驼题材文物主要集中在北方草原和农牧交错地区，战国和秦朝时扩展到中原地区，再到两汉时期扩展到秦岭淮河以南。由此得出，骆驼文物从主要集中在北方草原和农牧交错地区逐步遍及全国大部分地区。原因：结合春秋战国、秦朝和两汉时期的政局环境、民族关系、经贸往来等情况进行分析，由此分阶段归纳：春秋时期，北方游牧民族与中原地区交流相对较少，骆驼并未进入中原人们的视野；战国至秦时期，随着分裂走向统一，北方游牧民族与中原地区交流逐步增多，骆驼在贸易和交通中比较重要，人们对骆驼的认识逐渐加深；两汉时期，随着统一多民族国家的巩固，民族交融加强及丝绸之路的繁荣，骆驼作为重要的交通上具和贸易载体，其形象也被广泛运用于各地艺术品中。

17.【答案】示例：标题：救亡图存　主题：近代中国社会各阶级的救亡之路

阐释：鸦片战争后，中国逐步沦为半殖民地半封建社会。面对危局，社会各阶级提出不同的救国方案。首先是林则徐、魏源等人的探索。林则徐办译馆，译成《四洲志》；魏源在其基础上编成《海国图志》，提出“师夷长技以制夷”的主张。这些开眼看世界的仁人志士，初步提出了向西方学习以求自强的主张。其次，洪秀全发动太平天国农民起义，试图推翻清朝，建立“地上天国”，代表了近代中国人民寻求国家出路的早期探索。继而，清政府发动洋务新政，引进了资本主义国家的机器生产技术，是中国早期现代化的尝试。甲午战争后，民族危机不断加剧，康、梁等维新派掀起戊戌变法运动，促进了新思想的传播。《辛丑条约》签订后，中国完全陷入半殖民地半封建社会的深渊，清政府试图通过“新政”进行“自救”，最终失败。随着清政府统治危机的加深，以孙中山为首的革命党人领导了资产阶级革命，建立了中华民国。综上所述，面对列强侵略，无数仁人志士前赴后继、救亡图存。虽未实现民族独立、人民解放的历史任务，但由于救亡图存的合力，最终击碎了列强瓜分中国的野心。事实证明，即使遭遇重大挫折，中华文明也牢固凝聚，引领中华民族奋力探索，推动中国的现代化进程和民族团结事业的发展。

【详解】本题是评论解说题。时空是近代中国。本题为开放性试题，答案言之成理即可。如根据材料“沉沦与探索”中“第二节 救亡图存”的提纲可知，该节强调的是在列强入侵、民族危机日益加深的背景下，中国社会内部不同阶级围绕“如何救亡图存”展开的多种历史实践，包括思想主张与制度探索。因此

可以拟定的主题为：近代中国社会各阶级的救亡之路。关于阐释可从士大夫阶层的早期开眼看世界探索，代表人物如林则徐、魏源，通过办译馆、编撰《海国图志》等方式主张“师夷长技以制夷”，提出初步的西学之路；农民阶级的革命实践，洪秀全领导太平天国运动，试图通过“建天国”解决民族危机，尽管失败，但反映出底层人民探索出路的愿望；资产阶级的改良与革命尝试，辛亥革命最终推翻清朝，建立中华民国，虽未完成国家现代化，但揭开了资产阶级革命的序幕这些角度进行分析。突出强调“各阶级”在危机中所做的尝试，体现出论点的广度。最后进行归纳总结时，可强调，即使遭遇重大挫折，中华文明也牢固凝聚，引领中华民族奋力探索，推动中国的现代化进程和民族团结事业的发展。这些探索虽多次失败，但它们共同构成了中国近代从传统走向现代的历史进程中不可或缺的一部分，表现出中华文明的自我更新能力与不屈精神。若其它角度言之成理也可。

要求：明确写出所选标题，自拟主题与标题相关，史论结合，逻辑清晰。

18.【答案】解读：鸦片战争后，列强侵略不断加剧，为满足洋务企业的需要，清政府开始修筑铁路。由于保守势力阻挠和列强干预，铁路修建进展缓慢，仅修成几条干线，未形成铁路网。这一时期的铁路建设推动了近代交通的发展与社会生活的变迁。

民国期间，孙中山提出铁路修建计划，因军阀混战、社会动荡、国力不足等因素，计划并未完全实施，但为中国铁路开发提供了参考。

新中国成立后，铁路建设有计划地展开，铁路里程迅速增加，全国铁路网骨架基本形成，为国民经济发展提供了基础设施保障。

1978 年后，随着改革开放的开展，铁路自主研发能力不断增强，中国铁路进入快速发展阶段，既方便了民众的出行，提高了交通效率和便捷性，又推动了经济发展和区域之间的经济文化交流。

十八大以来，中国特色社会主义进入新时代。高铁技术不断创新，整体领先世界，并积极“走出去”，为一带一路和人类命运共同体做出贡献，提升了中国国际地位，增强了中国的国际影响力。孙中山先生的梦想基本实现。

总之，中国铁路发展历经曲折，在中国共产党的正确领导下，终在新时代实现飞跃，成为国家强盛与国际影响力提升的亮丽名片。从收回路权到高铁领先全球，中国铁路的发展见证了国家崛起，为世界经济文化交流做出重大贡献。

【详解】本题是评论解说题。首先阅读题干材料，明确材料信息，根据材料一的三幅图片图 1“晚清时期中国的铁路”、图 2“民国时期孙中山的铁路梦想”、图 3 “21 世纪中国建成的铁路网”可知，中国铁路发展的阶段历程；根据材料二可知，晚清和民国时期我国铁路发展的概况以及新中国成立之后几个阶段铁路建设情况；其次围绕“晚清”、“民国”、“新中国成立”、“改革开放”、“十八大以来”四个阶段从铁路发展状况的背景进行解读。如鸦片战争后，列强侵略不断加剧，为满足洋务企业的需要，清政府开始修筑铁路。由于保守势力阻挠和列强干预，铁路修建进展缓慢，仅修成几条干线，未形成铁路网。这一时期的铁路建设推动了近代交通的发展与社会生活的变迁。民国期间，孙中山提出铁路修建计划，因军阀混战、社会动荡、国力不足等因素，计划并未完全实施，但为中国铁路开发提供了参考。新中国成立后，铁路建设有计划地展开，铁路里程迅速增加，全国铁路网骨架基本形成，为国民经济发展提供了基础设施保障。1978 年后，随着改革开放的开展，铁路自主研发能力不断增强，中国铁路进入快速发展阶段，既方便了民众的出行，提

高了交通效率和便捷性，又推动了经济发展和区域之间的经济文化交流。十八大以来，中国特色社会主义进入新时代。高铁技术不断创新，整体领先世界，并积极“走出去”，为一带一路和人类命运共同体做出贡献，提升了中国国际地位，增强了中国的国际影响力。孙中山先生的梦想基本实现。最后形成总结性表述，总之，中国铁路发展历经曲折，在中国共产党的正确领导下，终在新时代实现飞跃，成为国家强盛与国际影响力提升的亮丽名片。从收回路权到高铁领先全球，中国铁路的发展见证了国家崛起，为世界经济文化交流做出重大贡献。

19.【答案】（1）示例：

标准：英国对埃及主权控制程度变化

方案：1936-1942 年加强控制阶段；

1954-1956 年逐步放松控制阶段。

理由：1936 年《英埃同盟条约》签订后，虽名义上承认埃及独立，但英国在外交、国防、苏伊士运河区驻军等关键领域保持强大控制权，埃及主权受限严重；1942 年“二月事件”爆发后，英国加强对埃及政府的控制；1954 年《英埃撤军协定》签订，英国开始分阶段撤军，英国对埃及主权的控制逐步放松，到 1956 年英国承认埃及完全独立，双方确定了平等独立的外交关系。

（2）国内背景：随着埃及民族资产阶级壮大，民族主义运动蓬勃兴起，以华夫脱党为代表，领导了大规模的示威游行、罢工、罢课等群众运动，要求英国撤军、实现埃及完全独立，显示出强大的民族凝聚力和反抗决心，极大地冲击了英国的殖民统治。20 世纪 50 年代，埃及成立共和国，总统纳赛尔宣布收回苏伊士运河主权。

国际背景：二战后，殖民主义急速衰落，民族自决原则成为国际潮流，英国作为老牌殖民帝国面临巨大国际舆论压力，继续维持对埃及的强硬殖民统治难以为继。同时，美苏两极对峙格局逐渐形成，埃及成为两大阵营争取的对象，美苏对埃及争取独立给予一定支持。

【小问 1 详解】

本题是背景题、特点题。时空是 1936 年至 1956 年英埃。标准：据材料 1936 年“埃及需在外交、国防等关键领域与英国保持‘协商一致”及 1942 年“英国加强了对埃及政府的控制”及 1956 年“英国正式承认埃及完全独立”可知，英国对埃及主权控制程度变化。 方案：据材料 1936 年“埃及需在外交、国防等关键领域与英国保持‘协商一致””及 1942 年“英国加强了对埃及政府的控制”可知，1936-1942 年加强控制阶段；据材料 1954 年“撤军后英国保留对运河区“紧急事态’下的干预权”及 1956 年“英国撤销对埃及内政的一切干预机制”可知，1954-1956 年逐步放松控制阶段。 理由：据材料“《英埃同盟条约》规定..承认埃及独立，但埃及需在外交、国防等关键领域与英国保持‘协商一致”可知，1936 年《英埃同盟条约》签订后，虽名义上承认埃及独立，但英国在外交、国防、苏伊士运河区驻军等关键领域保持强大控制权，埃及主权受限严重；据材料“二月事件爆发....英国加强了对埃及政府的控制”可知，1942 年“二月事件”爆发后，英国加强对埃及政府的控制；据材料“《英埃撤军协定》规定，英国承诺分阶段从苏伊士运河区撤军”“撤军后英国保留对运河区‘紧急事态’下的干预权”可知，1954 年《英埃撤军协定》签订，英国开始分阶段撤军，英国对埃及主权的控制逐步放松；据材料“英国正式承认埃及完全独立，放弃在埃及境内一切军事基地、驻军权利，苏伊士运河主权归埃及所有，双方外交关系重新定位为平等独立国家间关系”可知，到 1956 年英国承认埃及完全独

立，双方确定了平等独立的外交关系。

【小问 2 详解】

本题是背景题。时空是 1936 年至 1956 年英埃。结合埃及的反侵略运动可知，随着埃及民族资产阶级壮大，民族主义运动蓬勃兴起，以华夫脱党为代表，领导了大规模的示威游行、罢工、罢课等群众运动，要求英国撤军、实现埃及完全独立，显示出强大的民族凝聚力和反抗决心，极大地冲击了英国的殖民统治；结合埃及独立后的相关史实可知，20 世纪 50 年代，埃及成立共和国，总统纳赛尔宣布收回苏伊士运河主权；结合二战后的殖民帝国和新兴独立国家的发展变化可知，二战后，殖民主义急速衰落，民族自决原则成为国际潮流，英国作为老牌殖民帝国面临巨大国际舆论压力，继续维持对埃及的强硬殖民统治难以为继。同时，美苏两极对峙格局逐渐形成，埃及成为两大阵营争取的对象，美苏对埃及争取独立给予一定支持。

20.【答案】（1）贡献：大量女性参加工作，为战争期间的劳动力需求提供了重要支持。

女性就业范围逐渐广泛，为战争的物资生产和供应做出了贡献。

女性亲自参加战争，并有重大牺牲，为战争的胜利奠定了基础。

女性记者的记录和报道不仅向世界传递了战争的真相，也让人们更加深刻地认识到战争的残酷与无情。

（2）评析：二战后，随着国家的宏观调控和科技快速发展，美国的社会结构出现新变化，农业和工业的就业人口所占比重逐步下降，服务业人口比重迅速增加，为妇女参加工作创造了良好条件。

随着妇女更多参与社会工作，其经济地位也得以提高，女权运动兴起，其目的是争取享有与男子平等的政治、经济和社会等方面的权利。

在女权运动的推动下，美国政府和两党逐渐重视妇女问题，20 世纪 60、70 年代，出台了一系列法律法案并建立专门机构以保障妇女的权益，促进了性别平等，进一步提高了美国妇女的社会经济地位。

综上所述，20 世纪 50 年代到 70 年代，美国的女权运动取得了重要进展，不仅对美国社会产生了深远影响，也为全球妇女运动的发展提供了有益的借鉴。但也面临着诸多挑战，如性别歧视等问题。妇女在经济平等和社会公正方面要真正取得平权，还需要走很长的道路。

【小问 1 详解】

本题是影响题。时空是 1939-1945 年（美国）。据材料一“美国有 600 万以上的女性首次参加工作，其就业范围空前广泛”可知，大量女性参加工作，为战争期间的劳动力需求提供了重要支持；据材料一“国防工业也涌入 200 万女性”结合所学知识，女性不仅承担了传统的秘书、打字员等职务，还参与到飞机制造、弹药生产等关键领域，可知，女性就业范围逐渐广泛，为战争的物资生产和供应做出了贡献；据材料一“约有 40 万女性在军队服役，460 多人在战争中丧生”可知，女性亲自参加战争，并有重大牺牲，为战争的胜利奠定了基础；据材料一“欧洲战区的战地女记者秉承着‘如果你没法阻止战争，那你就把战争的真相告诉世界’的格言，用镜头和文字记录了亲身经历的二战”可知，女性记者的记录和报道不仅向世界传递了战争的真相，也让人们更加深刻地认识到战争的残酷与无情。

【小问 2 详解】

本题是认识题。时空是 20 世纪 50 年代至 70 年代（美国）。据材料二“美国科技发展降低了生产过程对劳动者体力的直接依赖”结合所学知识，自动化和技术进步减少了对体力劳动的需求，增加了对智力和技能型

工作的需求，可知，二战后，随着国家的宏观调控和科技快速发展，美国的社会结构出现新变化，农业和工业的就业人口所占比重逐步下降，服务业人口比重迅速增加，为妇女参加工作创造了良好条件。据材料二“妇女就业人数从1950年的1600万上升到1960年的2230万，但男女在就业和报酬上的平等远没实现”可知，尽管女性就业人数增加，但在就业和薪酬方面仍面临不平等；结合所学知识，随着妇女更多参与社会工作，其经济地位也得以提高，女权运动兴起，其目的是争取享有与男子平等的政治、经济和社会等方面的权利；据材料三“随着美国女权运动的逐渐深入，美国两党及政府逐步转变了对待妇女的态度，把妇女问题逐渐纳入政府的工作日程当中”可知，政府逐渐重视妇女问题；结合所学知识，1961年总统妇女地位委员会的成立以及随后一系列法律法案的出台，如《公平工资法》《平等就业机会法》，可知，在女权运动的推动下，美国政府和两党逐渐重视妇女问题，20世纪60、70年代，出台了一系列法律法案并建立专门机构以保障妇女的权益，促进了性别平等，进一步提高了美国妇女的社会经济地位。据材料三“一定程度上保护了女性员工的权益和促进了性别平等”可知，女权运动取得了显著成果；结合所学知识，20世纪50年代到70年代，美国的女权运动取得了重要进展，不仅对美国社会产生了深远影响，也为全球妇女运动的发展提供了有益的借鉴。然而，性别歧视等问题仍然存在，女性在追求经济平等和社会公正的道路上还需继续努力。