2025 北京门头沟高三一模

历　　史

2025.3

本试卷共 10 页，100 分。考试时长 90 分钟。考生务必将答案答在答题卡上，在试卷上作答无效。考试结束后，将本答题卡交回。

第一部分

本部分共 15 题，每题 3 分，共 45 分。在每题列出的四个选项中，选出最符合题目要求的一项。

1．宜侯矢（cè）簋是西周早期青铜器，其铭文记载：“锡（赐）土：厥畛三百……锡在宜王人[十]又七里……锡奠（职官）七伯，厥庐（附属人口）千又五十夫。”这一记载反映出此时

A.礼乐制度推动了文化认同

B.内外服制强化了国家管理

C.分封制授土授民巩固统治

D.甲骨文是记录历史的媒介

2.1965 年，在北京西郊西晋墓中出土了掐丝镶嵌银铃（如右图），具有西域风格。银铃整体采用了錾刻、焊接、镶嵌等多种繁杂的工艺，顶部有辟邪座环钮，四周以掐丝工艺制成八个乐人形象，中间带万向轴，无论银铃如何摆动，均可保持平衡。该文物佐证了西晋时期



A.手工业与科技结合的高超水平

B.中原与西域民族交融达到顶峰

C.佛教盛行影响了传统艺术创作

D.乐舞文化从贵族化转向平民化

3.《礼记 • 王制》中提出对待蛮戎夷狄要“修其教，不易其俗；齐其政，不易其宜”，即采取“因俗而治”的治理原则，以稳固边疆地区。唐朝政府秉承了上述边疆治理原则，使边疆、内地各民族呈现出前所未有的大交融局面。以下可为唐朝“因俗而治”提供史料佐证的是

序号	史料	出处
①	“自太宗平突厥……以其首领为都督、刺史，皆得世袭。”	《新唐书》
②	“（吐蕃）遣诸豪子弟入国学，习《诗》、《书》。又请儒者典书疏。”	《新唐书》
③	“诸化外人同类自相犯者，各依本俗法，异类相犯者，依法律论。”	《唐律疏议》
④	“接乎开元，朔方、陇右、河东、河西诸镇，皆置节度使。”	《新唐书》

A.①②　　B.①③　　C.②④　　D.③④

4．常平仓，司马光称其为“三代之良法也”，所谓：“常平仓法，以丰岁谷贱伤农，故官中比在市添价收籴（买入粮食）……凶岁谷贵伤民，故官中比在市减价出粜（卖出粮食）……物价常平，公私两利。”由此可见，常平仓

A.一定程度上增加了政府财政负担　　B.反映了古代粮食储备技术的进步

C.体现出了政府救济的重点在救灾　　D.能够有效调节粮价保障农民利益

5．侯官响在《明代万历时期苏州府的赋税结构》一文中，对 16 世纪中晚期的苏州府各赋税项目进行考察计算，得到苏州府万历初年的赋税结构（如下图）。该赋税结构数据表明当时苏州府

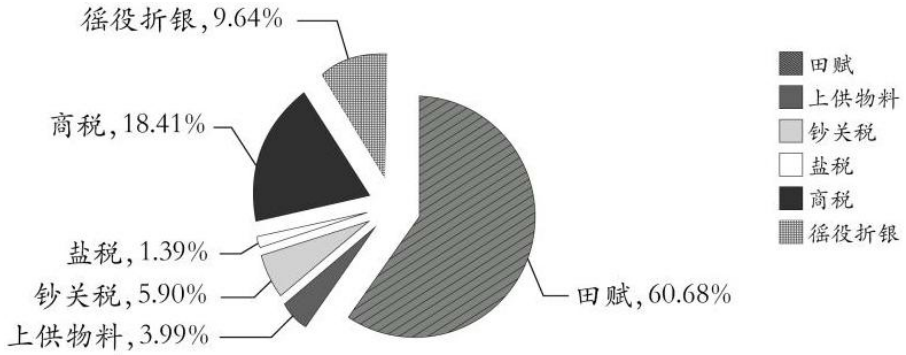

A.民众赋役负担沉重　　B.赋税总额在全国的占比最高

C.农业经营方式多样　　D.对百姓的人身控制有所放松

6．茶是中国对外贸易出口的重要商品。下表是 1838——1855 年广州、上海两地茶出口量的相关数据，下列说法中对两地茶出口量总体变化趋势的原因分析正确的是

年份	茶（磅）	
	广州	上海
1838——1842	42,353,000	_____
1843	17,727,730	_____
1844	69,327,500	1,149,000
1851	64,468,100	36,722,500
1852	36,127,100	57,675,000
1853	31,796,000	69,431,000
1855	16,700,000	80,221,000

①五口通商使中国旧有对外贸易格局发生变化

②广州民众自发抵抗英法联军使行商环境恶化

③太平天国运动致使原有的商贸体系难以维持

④东南互保章程使长江流域秩序免受战争破坏

A.①③　　B.①④　　C.②③　　D.②④

7．1912 年，蔡元培发表《对于教育方针之意见》一文，批判清末制定的“忠君”“尊孔”教育宗旨。他认为：“忠君与共和政体不和，尊孔与信教自由相违”，均须删除，提出应重视公民道德教育，并解释说：“何谓公民道德？曰，法兰西之革命也，所标揭者，曰自由、平等、亲爱。道德之要旨，尽于是矣。”这反映出蔡元培

①否定中国儒家传统伦理道德观念　　②推崇辛亥革命所建立的共和政体

③反对清末新政各项教育改革举措　　④顺应时代潮流主张进行教育变革

A.①②　　B.①③　　C.②④　　D.③④

8.以下为中华民国二十年十月份接连刊登于《申报》的广告，其共同反映了

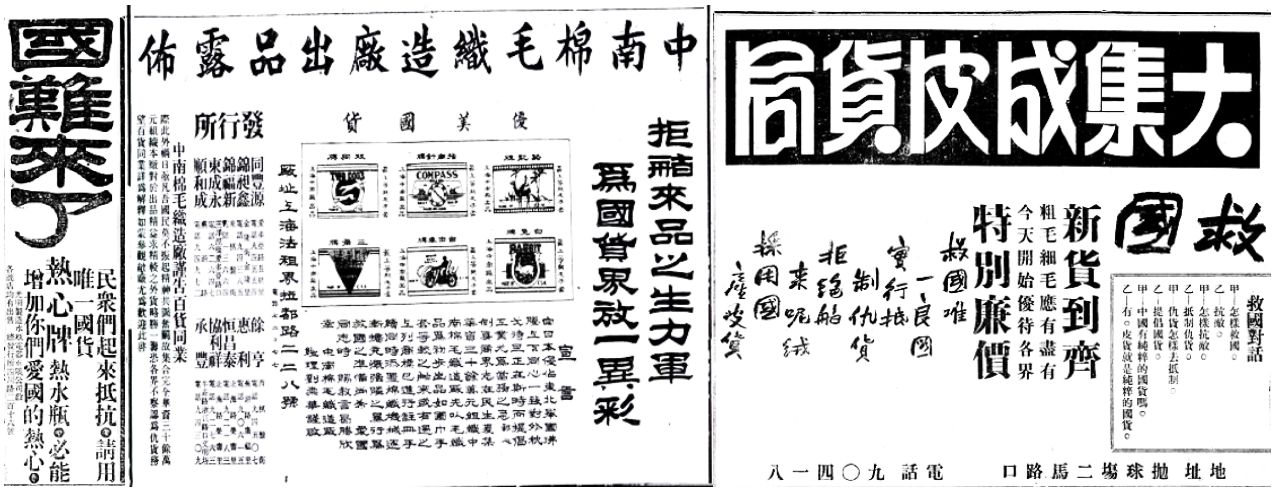

A.全国团结抗战局面初步形成　　B.民族资本主义发展迎来了短暂的春天

C.实业救国成为社会主流思想　　D.商业广告的创作与时局变化紧密相关

9.以下文件内容所反映的历史事件，按照时间先后顺序排列正确的是

①“农民正面的敌人，更是列强与军阀官僚，故中国的无产阶级应当最先竭全力参加促进此国民革命，并唤醒农民，与之联合而督促苟且偷安的资产阶级，以引导革命到底。”

②“历史已经证明这个方针是完全必要，完全正确，并且是完全成功的。但是，采取这样一种工作方式的时期现在已经完结。从现在起，从新开始了由城市到乡村，由城市领导乡村的时期。”

③“以西安事变和国民党三中全会为起点的国民党政策上的开始转变，以及蒋介石先生七月十七日在庐山关于抗日的谈话，和他在国防上的许多措施，是值得赞许的。”

④“所有封建地主、豪绅、军阀、官僚及其他大私有主的土地，无论自己经营或出租，一概无任何代价的实行没收。被没收来的土地，经过苏维埃由贫农与中农实行分配。”

A.①④②③　　B.①④③②　　C.④①②③　　D.④①③②

XX社区新时代文明实践站2024年1月活动计划		
活动时间	活动主题	活动地点
2024年1月4日下午2：00——4：00	移风易俗——防患于未“燃”	理论宣讲室
2024年1月8日下午2：00——4：00	普法宣传宪法进社区•普法惠民心	市民教育室
2024年1月12日下午2：00——4：00	弘扬时代文明新风爱心义诊暖人心	理论宣讲室
2024年1月15日下午2：00——4：00	全民阅读——阅读点亮人生	市民教育室
2024年1月19日下午2：00——4：00	科学普及——让沟通拉近亲子距离	科学宣传室
2024年1月22日下午2：00——4：00	学习《习近平关于全面从严治党论述摘编》	理论宣讲室
2024年1月26日下午2：00——4：00	全民健身——健康生活每一天	健身活动室
2024年1月29日下午2：00——4：00	文艺汇演——书画韵社区	文化活动室

①社区迅速成为基层自治的主要方式　　②社区承担着多方面的公共服务功能

③社区着力弘扬社会主义核心价值观　　④中国特色的社会保障制度优势明显

A.①②　　B.①④　　C.②③　　D.③④

11.《佛国记》记述了东晋僧人法显公元399年至413年西行求法的所见所闻，其中记载印度“民人富盛，

竞行仁义”“王治不用刑罔，有罪者但罚其钱，随事轻重，虽复谋为恶逆，不过截右手而已……”上述材料反映出

A.此时佛教在印度产生并且盛行　　B.笈多王朝统治下的印度经济发展、政治稳定

C.种姓制度使印度社会秩序稳定　　D.伊斯兰教的流行有利于印度经济与社会发展

12.史学家吴于廑认为,西欧中世纪城市的发展使之演变为封建制度的侵蚀物和对立物。可以支持此观点的是

①城市工商业发展培育新的社会力量　　②城市中的社区功能发展到多个方面

③城市兴办大学推动世俗文化的传播　　④城市以金钱人力支持王权促进统一

A.①②③　　B.①②④　　C.①③④　　D.②③④

13.英国经济学家亚当·斯密认为劳动是财富的源泉并决定商品的价值，大卫·李嘉图精辟指出商品价值决定于劳动时间，马克思和恩格斯在“劳动价值论”的基础上提出了剩余价值学说，这说明

①社会存在决定社会意识　　②人民群众是历史的创造者

③经济基础决定上层建筑　　④杰出人物对历史有决定作用

A.①③　　B.①④　　C.②③　　D.②④

14.20 世纪，国际法的范围和作用都有了进一步发展，下表中史实与结论对应准确的是

	史实	结论
A	一战后，成立了世界上第一个由主权国家参加的政治性国际组织一一国际联盟，规定了形成决议的“全体一致”原则	国联在决议过程中实现了公正与平等
B	1928 年，美、法等国签订了《非战公约》，宣布缔约各国在它们的相互关系中废弃以战争作为实行国家政策的工具	美、法等国认识到和平谈判是解决国际争端的最主要方式
C	1945 年,50 个国家的代表签署了《联合国宪章》，确定了和平解决国际争端和制裁侵略的机制，并赋予安理会制裁的权力	安理会避免了世界各地的军事冲突，维护了世界和平
D	二战后，在裁军、人权、环境、海洋、外层空间等方面，颁布了一系列具有国际法性质的公约或宣言	国际法的领域大大扩展

15．有学者认为，16 世纪至 20 世纪，世界货币体系先后经历了以西班牙银元为主导（16 世纪——19 世纪初）、以英镑为中心（19 世纪初——1944 年）、以美元为主导（1944 年以后）

的演变，下列选项中对这一演变进程描述正确的是

A.国际货币体系演变由主导国综合国力决定

B.经济全球化直接推动了世界货币体系变革

C.军事霸权在世界经济秩序中具有决定作用

D.科技进步是世界货币体系演变的根本动力

第二部分

本部分共 5 题，共 55 分。

16.（12 分）古代商业发展

材料一 两宋时期，东京“夜市直至三更尽，才五更又复开张”；临安“坊巷市井，买卖关扑，酒楼歌馆，

直至四鼓后方静”。交子、会子等纸币流通，“民间典卖田宅、马牛、舟车等如之，全用会子者听”。对于海外贸易，宋高宗曾说：“市舶之利最厚，若措置合宜，所得动以百万计。”

——摘编自《东京梦华录》《都城纪胜》等

材料二 辽宋夏金时期，榷场贸易频繁。辽以羊马、皮革换取宋的茶叶、丝绸，西夏的青盐、药材亦通过榷场流入中原。宋辽榷场贸易，北宋每年“岁获四十余万”。至南宋，泉州、广州等地设立市舶司，“掌市易南蕃诸国物货，航舶而至者”，商品远销高丽、占城、大食诸国。

——摘编自《宋史》《宋会要辑稿》等

（1）阅读材料一，概括两宋时期商业发展的特点，并结合所学分析其成因。（6分）

（2）结合材料二，说明辽宋夏金时期商贸活动对统一多民族国家发展的作用。（6分）

17.（12分）近现代中国外交

近现代中国外交史料选编

史料	出处
第三条（一）英王陛下认为一九零一年九月七日中国政府与他国政府包括英王陛下联合王国政府在北京签订之议定书，应行取销 第八条（一）缔约双方经一方之请求，或于现在抵抗共同敌国之战事停止后至迟六个月内，进行谈判签订现代广泛之友好通商航海设领条约。	《关于取消英国在华治外法权及其有关特权条约》（简称《中英新约》）（1943年）
第五十四条中华人民共和国外交政策的原则，为保障本国独立、自由和领土主权的完整，拥护国际的持久和平和各国人民间的友好合作，反对帝国主义的侵略政策和战争政策。	《中国人民政治协商会议共同纲领》（1949年）
和平共处五项原则早已载入中国宪法……新征程上，中国将继续弘扬和平共处五项原则，同各国携手推动构建人类命运共同体，为维护世界和平、促进共同发展作出新的更大贡献。	习近平《弘扬和平共处五项原则携手构建人类命运共同体》（2024年）

依据材料，结合所学，评析近代以来中国外交政策的变化。（12分）

18.（12分）非洲的灾难与抗争

材料一 1448年，葡萄牙人在几内亚的科纳克里获得了在西非的第一块殖民地。1483年，一支葡萄牙探险队抵达位于中非地区的刚果王国并建立商业关系。1502——1520年间，葡萄牙人以武力夺取了东非沿海地区的港口和城市。17世纪以后，荷兰、英国、法国等国陆续入侵非洲。总的来看，16——17世纪，西非、中非、南非和东非已经被纳入了欧洲人建立的贸易网络之中，欧洲从非洲进口黄金和奴隶，向非洲出口工业品或手工制品。1884年11月至1885年2月，15个欧美国家在德国召开柏林会议协商非洲问题……到1912年，西方列强已经占领了非洲95%左右的土地，非洲大陆已基本被瓜分完毕。

——摘编自徐蓝主编《世界近现代史1500-2007》

材料二 非洲独立进程示意图（截至1990年）

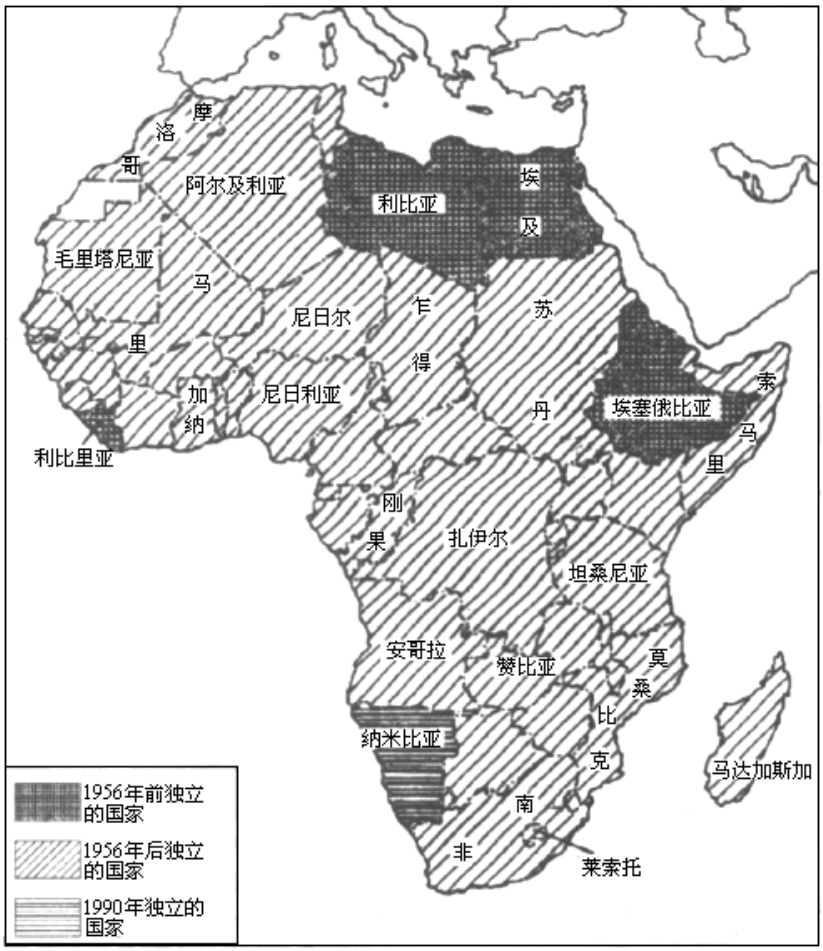

（1）阅读材料一，结合所学，概括西方侵略非洲的演变趋势。（6分）

（2）二战后，非洲大陆掀起民族独立风暴，帝国主义在非洲的殖民体系彻底崩溃，依据材料二并结合所学，简述其历程与意义。（6分）

19.（10分）地图是人类认识世界的产物

材料一 《郑和航海图》（局部）	材料二 《托斯卡内利世界地图》
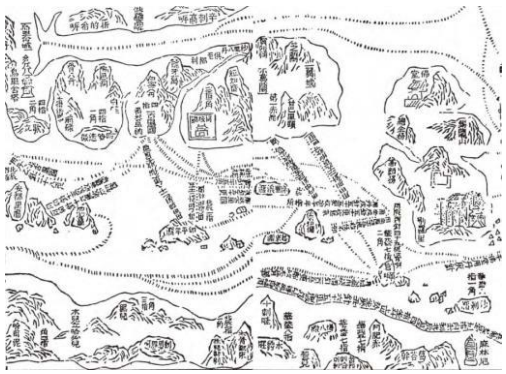	
明代茅元仪收入《武备志》的《郑和航海图》，是郑和最后一次下西洋航路的记录： 以宝船厂（今南京）为起点，出长江口沿海岸向南，经马六甲海峡进入印度洋，最远至非洲东岸。	1474 年，意大利人托斯卡内利依据托勒密的《地理学指南》绘制了一张世界地图，将亚洲东部海岸画在大西洋的西岸，与非洲、欧洲西部海岸之间只有很小的一块海洋。哥伦布从此图得知，从西班牙向西航行，可以到达中国的泉州。

材料三 描绘麦哲伦航线的世界地图 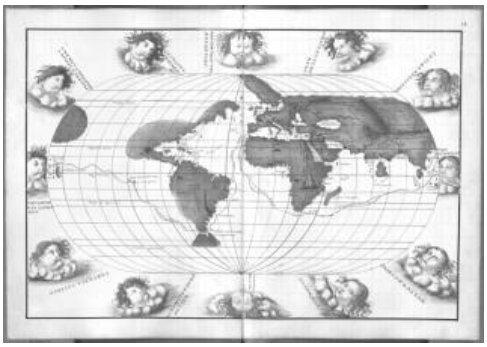 此图由意大利人巴蒂斯塔·阿格尼斯 1542 年前后绘制而成。这幅地图清楚地标出了麦哲伦船队航行的全部路线。在地图上，美洲已经明确地与亚洲分开。	**材料四** 《坤舆万国全图》（原刻本）  此地图是利玛窦和李之藻在利玛窦《山海舆地全图》的基础上，于 1602 年共同绘制而成。为迎合中国人心理，利玛窦将中国移至图的中央。《明史》记载：“万历时，其国人利玛窦至京，为《万国全图》，言天下五大洲。”

阅读材料，提炼一个主题，结合四幅地图反映的历史信息进行阐述。（10 分）

（要求：主题明确，史论结合，阐述充分，逻辑清晰。）

20.（9 分）中华文化的世界意义

材料一 北京中轴线历经元、明、清 3 个由不同民族建立的王朝以及近现代，逾 7 个世纪的城市历史演进而延续至今，既吸收前代都城规划设计理念和实践成果，延续古老的以中轴线为都城规划设计基准线的历史传统，又根据北京的自然地理环境和人文社会环境的变化而增加新的内容、赋予新的内涵，彰显了中华文明突出的连续性和创新性。

——北京市文物局《让文化遗产焕发时代新韵——北京中轴线成功申遗的历程、做法与启示》



北京中轴线示意图

材料二 乙巳年春节将是首个世界“非遗版”春节。中国年也是“世界年”，这不仅是一种印象，更是生动的现实。在即将到来的这个世界“春节周”，如果我们到英国伦敦的特拉法加广场走一走，在美国旧金山看一场盛大的花车巡游，去法兰克福庙会学做剪纸和糖画，到新加坡牛车水采购年货，当万盏灯笼点亮日本长崎冬夜，《茉莉花》的旋律在加拿大多伦多音乐会响起，我们必能深切体会春节如今在世界范围内的巨大影响力并为之感动。截至目前，全球已有近 20 个国家将春节定为法定节假日，举办春节民俗活动的国家和地区则达到近 200 个。

——环球时报 2025 年 1 月 27 日第 014 版《中国春节何以成为“世界时刻”》

（1）阅读材料一，结合所学，说明保护文化遗产“北京中轴线”的意义。（6 分）

（2）阅读材料二，结合所学，分析中国春节习俗风靡世界的原因。（3 分）

参考答案

第一部分共 **15** 题，每题 **3** 分，共 **45** 分

1	2	3	4	5	6	7	8	9	10	11	12	13	14	15
C	A	B	D	D	A	C	D	B	C	B	C	A	D	A

第二部分共 **5** 题，共 **55** 分

16.（12 分）参考答案要点：

（1）特点与成因（6 分）

特点：（特点每点 2 分，满分 4 分）

①城市商业打破时空限制（夜市兴盛、纸币流通）；

②海外贸易规模扩大，政府重视市舶收入。

成因：（成因每点 1 分，任答 2 点即可给 2 分，满分 2 分）

①经济：农业和手工业发展提供物质基础；

②政策：政府放宽商业限制（如坊市制度瓦解）；

③技术：造船和航海技术进步促进海外贸易。

（2）商贸活动的作用（6 分）（每点 2 分，任答 3 点即可给 6 分）

①经济互补：南北物资交换（如宋的茶叶与辽的羊马）促进区域经济协同发展；

②民族交融：榷场贸易推动文化互动（如儒家典籍传入辽国，影响其制度）；

③边疆治理：商贸税收增强中央财政，为边疆稳定提供经济支撑；

④中外联系：市舶司管理海外贸易，扩大中华文明影响力。

17.（12 分）参考答案示例：

抗日战争时期，中国积极加入世界反法西斯同盟，参与国际反法西斯斗争。中国战场是世界反法西斯战争的东方主战场（上述标紫 2 点背景，任答出 1 点即可给 1 分），为争取世界反法西斯胜利做出巨大贡献，国民政府通过外交谈判与英国达成协议，废除不平等条约、取消在华特权、订立新的条约，收回了部分主权（内容 1 分），这一系列外交成果提高了中国的国际地位（影响 1 分）。

新中国初期，为结束百余年来旧中国屈辱外交（背景 1 分），新中国奉行独立自主的和平外交方针，并按照“另起炉灶”“打扫干净屋子再请客”“一边倒”的方针（上述标紫 2 点内容，任答出 1 点即可给 1 分），开创了外交新局面（影响 1 分）。同时，倡导和平共处五项原则（内容 1 分）作为国际关系的准则，为维护世界和平起到了积极作用（影响 1 分）。

改革开放后，随着经济的发展，国家综合国力的提高（背景 1 分），中国积极引领国际社会发展，全面推进中国特色大国外交，构建新型国际关系，推动构建人类命运共同体（上述标紫 2 点内容，任答出 1 点即可给 1 分），为解决人类面临的各种复杂问题贡献了中国智慧和中国方案，展现出了负责任的大国担当（影响 1 分）。

随着综合国力的不断增强和国际形势的不断变化，近代以来的中国外交经历了从被动接受到尝试改变弱势处境，再到积极主动参与全球事务的过程，折射出了中国近代以来从屈辱到独立到民族伟大复兴的光辉历

程。（总结 1 分）

（答案分三个阶段，从抗日战争时期、新中国时期、改革开放以来三个时期中国外交政策产生的背景、内容和影响三个方面作答。）

18.（12 分）参考答案要点：

（1）演变趋势（6 分）（每个角度 2 分，任答 3 个角度，言之有理即可给分）

①侵略国家：由 15-16 世纪葡萄牙为主，到 17 世纪后扩大到荷兰、英国、法国等西欧国家，到 19 世纪末 20 世纪初扩展到欧美主要资本主义国家。（2 分）

②侵略区域：由沿海到深入广阔内地。（2 分）

③侵略方式：由建立商站、殖民据点，进行黑奴贸易，到 19 世纪末 20 世纪初瓜分非洲。（2 分）

（2）历程与意义（6 分）

历程：（每点 1 分，共 3 分）

①埃及于 1953 年成立埃及共和国；1956 年，收回苏伊士运河主权；（2 点中任答 1 点，即可给 1 分）

②1960 年，有 17 个非洲国家独立，这一年被称为“非洲年”；（1 分）

③1990 年，纳米比亚独立。（1 分）

意义：（每点 1 分，共 3 分，言之有理即可给分）

①非洲的独立沉重打击了帝国主义势力，推动了殖民体系的瓦解；

②非洲民族独立，为战后非洲经济社会的恢复与发展提供了政治保障；

③非洲独立壮大了第三世界力量，推动世界多极化趋势，影响了世界格局；

19.（10 分）参考示例：

主题：大航海时代推动了全球认知的拓展（主题明确 1 分）

《郑和航海图》展示了中国明代航海史上的伟大壮举。郑和下西洋加强了中外之间的经济文化交流，通过实际行动探索了东南亚、南亚、阿拉伯半岛及东非沿海水域，极大地拓展了明朝对外部世界的认知。然而，其目标局限于朝贡贸易，未推动全球地理认知。

《托斯卡内利世界地图》反映了 15 世纪欧洲人对世界的认知。该地图将亚洲东部海岸画在大西洋的西岸，显示了当时欧洲对全球地理的误解，但它仍为后来的航海家发现美洲提供了重要参考，进一步推动了全球认知的拓展。麦哲伦航线的世界地图，明确区分了美洲与亚洲，反映了 16 世纪欧洲对全球地理的更准确认识。麦哲伦的环球航行证明了地球是圆形的，这对全球认知的拓展具有里程碑意义，进一步推动了世界各地的联系与互动。

明末西方传教士利玛窦的《坤舆万国全图》，将欧洲地理大发现中的航海成就绘制在地图上，

并将中国移至地图的中央，迎合了中国人的地理认知心理，反映了中外文化交流中的碰撞与融合，拓展了当时中国人对全球的认知。（材料一至材料四内容说明各 1 分、影响各 1 分，共计 8 分）综上所述，大航海时代通过一系列伟大的海上探险与地图绘制，逐步打破传统的地理认知局限，推动全球认知的拓展。这一过程加深了世界各地之间的了解与合作，为世界一体化的发展奠定了基础。（总结深刻 1 分）

20.（9 分）参考答案：

（1）意义：（每点 2 分，任答 3 点即可给 6 分，满分 6 分，言之有理即可给分）

①保护“北京中轴线”有助于保持中华文化的连续性，“北京中轴线”是中华民族优秀传统文化的集中体现。“北京中轴线”体现了中华文化中对于都城建造格局的理想典范，体现了中国人对于“中”的追求，是了解中华文化的重要载体，具有很高的文化价值。

②“北京中轴线”中有许多具有代表性的皇家建筑与园林，其中故宫、天坛等本身就是世界文化遗产，是世界性的艺术瑰宝，具有很高的美学价值。

③保护“北京中轴线”有助于维护世界文化的多样性。中华文化以其独特的内涵和特点屹立于世界文化之林，“北京中轴线”就是其重要代表，体现了中国都城的规划理念，具有历史价值。

④保护“北京中轴线”有利于文化的创新性。“北京中轴线”经历了元、明、清三代，不同时期都对其加以继承与创新，赋予其时代价值与意义，证明“北京中轴线”能为中华文化带来不竭的创新动力。

⑤保护“北京中轴线”有助于北京城市化发展。“北京中轴线”除了有经济价值外，还能为北京城市发展提供很好的传统文化元素，助力北京可持续发展。

（2）原因：（每点 2 分，任答两点即可给 3 分，满分 3 分，言之有理即可给分）

①从历史角度来看，古往今来，有许多华人、华侨不断移居世界各地，为世界带去中华文化，也为春节的风靡提供了肥沃的土壤。

②从春节本身来看，春节是中华民族最重要的传统节日之一，历史悠久，在华人中有强大的影响力、凝聚力，体现中华民族的文化认同。

春节习俗本身也是重要的非物质文化遗产，体现着喜庆祥和、亲情与团圆，体现着人们对于美好生活的追求与企盼。

春节习俗有强大的包容力，在与世界各民族交融中得到创新。

③从现实需要来看，春节习俗也会为各地带来巨大的经济效益，带动旅游、购物，拉动内需。随着中国的和平崛起，中国在世界的外交影响力也进一步扩大，春节习俗中体现的中华优秀传统文化内涵如以文化人、与人为善等，也进一步被推广，被越来越多的国家政府所接受。