# 2024 北京东城高三一模

# 历　　史

2024.4

本试卷共 9 页，共 100 分。考试时长 90 分钟。考生务必将答案答在答题卡上，在试卷上作答无效。考试结束后，将本试卷和答题卡一并交回。

## 第一部分

**本部分共 15 小题，每题 3 分，共 45 分。在每题列出的四个选项中，选出最符合题目要求的一项。**

1.考古工作者在山西某地发现了规模宏大的城址，以及七百多座墓葬所组成的墓葬群（见下表）。此考古发现

| 规模 | 比重 | 随葬品 | 墓主人 |
|---|---|---|---|
| 大型墓 | 1.3% | 一、二百件，包括彩绘陶器、玉器、整猪骨架等，其中一座墓有鼍鼓（鳄鱼皮制）、雕刻石磬等礼器 | 均为男性 |
| 中型墓 | 11.4% | 几十件，包括彩绘陶器、猪下颚骨等 | 多为男性 |
| 小型墓 | 87.3% | 0～3 件 | |

A.是旧石器时代文化的典型代表

B.印证了农业和畜牧业开始出现

C.具备了国家的初始形态的特征

D.反映了礼乐制度的成熟和发达

2.春秋战国时期出现了军市，下表是典籍中对军市的相关记述。军市的出现

| 典籍 | 内容 |
|---|---|
| 《战国策·齐策》 | 士闻战，则输私财而富军市 |
| 《商君书》 | 令军市无得私输粮者，则奸谋无所于伏（藏） |
| 《史记》 | 李牧为赵将，居边，军市之租（收入）皆自用飨（奖赏）士 |

A.体现了“工商食官”的格局被突破　　B.反映了政府对商业直接管理

C.适应了战争需要，遍及边疆地区　　D.是导致诸侯割据的主要因素

3.唐制，朔望常朝以外，皇帝每逢一、五、九日接见诸宰相，宰相须同进同出。诸宰相“会食于政事堂”，皇帝还安排很多负实际行政责任的低级官员也进入政事堂。上述材料反映出

①唐代实行集体议政　　②宰相权力的逐步扩大

③外重内轻局面改善　　④决策的效率得到提高

A.①②　　B.①④　　C.②③　　D.③④

4.右图是元代刻本《百家姓》的首页，为方便汉族人学习八思巴字而编撰。其中左侧是八思巴字与汉字的对照，右侧是汉文序言。对此判断正确的是



蒙古字体

蒙古之书（文字），前乎学者之所未观。近风化自北而南，新学尚之……蒙古之学，设为专门。初学能复熟此编，亦可以为入仕之捷径云。

①八思巴字是由汉字改制而形成　②体现了元朝对汉族士人的吸纳

③是民族间文化交流的典型例证　④反映了理学成为科举考试内容

A. ①②　B. ①④　C. ②③　D. ③④

5. 明朝初年的一些贪腐大案使明太祖认为，中央官员如果和地方富商巨贾相勾结，则贻害无穷。为此明代实行

A. 自今科场取士……南士取六分，北士四分

B. 户口迁移登耗，责令随时报明，于门牌内改换填给

C. 非进士不入翰林，非翰林不入内阁

D. 凡户部官不得用浙江、江西、苏（州）、松（江）人

6. 1914 年北洋政府举行了首届县知事试验，考试内容有论文《管仲治齐、孔明治蜀、王猛治秦异同得失论》、国际条约的理解、地方行政、断案的策问等，共录取 619 人（多为前清官员），另有保荐免试 120 人。该县知事试验

①有利于保持地方行政的稳定　②杜绝了地方吏治腐败现象

③是文官考试制度建立的标志　④一定程度体现了时代需求

A. ①②　B. ①④　C. ②③　D. ③④

7. 1939 年 10 月 10 日，毛泽东起草了《目前形势和党的任务》的决定，提出了“坚持抗战，反对投降；坚持团结，反对分裂；坚持进步，反对倒退。”这三大政治口号

A. 推动国共两党团结抗战局面的初步形成

B. 标志着中国共产党全面抗战路线的形成

C. 有利于抗日民族统一战线的巩固和扩大

D. 指导了中国共产党争取和平民主的斗争

8. 1952年创作的歌曲《我们要和时间赛跑》唱道：“火车在飞奔，车轮在歌唱，装载着木材和食粮，运来了地下的矿藏，多装快跑快跑多装，把原料送到工厂，把机器带给农庄，我们的力量移山倒海，劳动的热情无比高涨。”这首歌曲

A. 吹响了全国土地改革的号角　B. 彰显了拼搏奋斗的时代精神

C. 掀起了社会主义改造的浪潮　D. 凸显“一五”计划的重大成就

9. 下表是新中国成立以来对“现代化”内涵的阐释，对此理解正确的是

| 时间 | 对“现代化”内涵的阐释 |
| --- | --- |
| 1964 年 | 把我国建设成为一个具有现代农业、现代工业、现代国防和现代科 |

| | |
|---|---|
| | 学技术的社会主义强国 |
| 1979 年 | 我们的四个现代化的概念，不是像你们（日本）那样的现代化的概念，而是“小康之家” |
| 2022 年 | 人口规模巨大的现代化、全体人民共同富裕的现代化、物质文明和精神文明相协调的现代化、人与自然和谐共生的现代化、走和平发展道路的现代化 |

A.上述的阐释体现了“求同存异”的外交方针

B.该理论推动中国历史上最深刻的社会变革

C.“四个现代化”的提出反映三线建设的成果

D.改革开放推动了“现代化”的内涵不断丰富

10.在《汉谟拉比法典》中，涉及盗窃、抢掠、高利贷、财产纠纷的条款最多，对债务奴隶和土地租佃也有不少规定，法典提及十项手工业，多与建筑、武器制造有关。该材料可以佐证此时的古巴比伦王国

①社会分化　②城市衰落　③社会稳定　④工商业发展

A.①③　B.①④　C.②③　D. ②④

11.呼罗珊大道（见下图）是指8-10世纪从巴格达去往阿拉伯帝国东部大呼罗珊省的道路，沿线的撒马尔罕建立了帝国第一家造纸厂，“撒马尔罕纸”后来成为西亚和欧洲对汉式绵纸的称呼，木鹿鲁泽等地还出土了长沙窑瓷器。呼罗珊大道的繁荣反映了

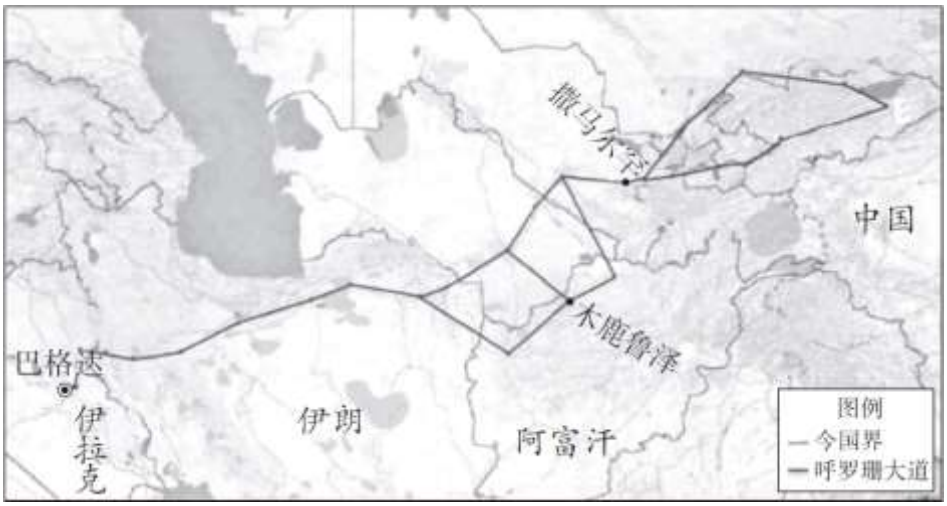


①新的希腊文化中心形成　②阿拉伯帝国是东西方文化交流的桥梁

③阿拉伯帝国地跨亚非欧　④阿拉伯帝国在丝绸之路中的重要地位

A．①②　B．①③　C．②④　D．③④

12.下列选项中，史实与结论相符的是

| | 史　实 | 结　论 |
|---|---|---|
| A | 光荣革命后，英国议会提出，允许保留君主制，但君主制要符合他们的要求 | 英国资产阶级主张自由放任 |

| | | |
|---|---|---|
| B | 《独立宣言》称“除非那些人民情愿放弃自己在立法机关中的代表权，但这种权利对他们有无法估量的价值，而且只有暴君才畏惧这种权利” | 美国倡导议会为中心的政治体制 |
| C | 普鲁士打败拿破仑后，收复莱茵地区，但当地居民仍坚持实施《法国民法典》而不接受普鲁士的民法典 | 德意志民族统一进程开启 |
| D | 巴黎公社规定，所有公职人员都由普选产生，选举者可以随时撤换被选举者 | 凸显了无产阶级的政治诉求 |

13.19世纪，英国政府实施了从本土向地广人稀的殖民地移民计划。当国内经济景气时，向海外移民减少；当国内经济陷入危机时，向海外移民增加。移民计划的实施

①有利于缓解英国本土社会危机　　②改变了殖民地的人口结构

③导致了经济危机波及世界各地　　④推动了国际贸易中心转移

A．①②　　B．①④　　C．②③　　D．③④

14.有当代学者评价 19 世纪末的世界“与今天我们这个时代也有许多相似的地方”。可以支持该观点的史事有

A．科技进步推动全球化进程　　B．世界殖民体系的建立

C．和平与发展成为时代主题　　D．全球治理机制的形成

15.冷战期间出现了两次美苏对话高潮。20 世纪 60 年代到 70 年代中期，美苏首脑多次互访，签署了《限制地下试验核武器条约》等文件。到 80 年代，双方首脑、外长、军方定期会晤，签署《关于消除两国中程和中短程导弹条约》，商定北约和华约削减在欧洲的常规武器，苏联撤出阿富汗。相较于前者，第二次对话高潮的成果是

①美苏双方形成均势地位　　②裁军方面取得了重要进展

③形成了多层次对话机制　　④两国关系整体上走向缓和

A.①②③　　B.①②④　　C.①③④　　D.②③④

## 第二部分

**本部分共 5 题，共 55 分**

16.（12 分）讲史小说

**材料一**　讲史小说大约兴起于北宋，在元明时期进入繁荣。作者借用“讲史”形式创作小说，以抒发对现实的情感和理想。《三国演义》就是典型的讲史小说。

——摘编自朱维铮《走出中世纪》

**材料二**

| 《三国演义》相关回目 | 涉及历史事件 |
|---|---|
| 第四十九回　七星坛诸葛祭风 三江口周瑜纵火<br>第五十回　诸葛亮智算华容 关云长义释曹操 | 赤壁之战 |
| 第七十七回　玉泉山关公显圣 洛阳城曹操感神 | 关羽兵败被杀 |
| 第七十八回　治风疾神医身死 传遗命奸雄数终 | 曹操去世 |
| 第八十回　曹丕废帝篡炎刘 汉王正位续大统 | 魏蜀吴建立 |

| | |
|---|---|
| 第八十二回　孙权降魏受九锡 先主征吴赏六军 | |

**材料三**　关羽本为三国时期蜀汉的武将。进入宋代以后，他不仅受到国家祭祀，宋徽宗还赐以“义勇武安王”的神号，作为保佑宋代军事行动的武神崇拜。

关羽的故乡解州（今山西运城）是重要的盐产地，元明清时期来此的商人都会拜访关帝庙以祈求旅途安全、生意兴隆。在元代杂剧《关云长大破蚩尤》中，关羽被塑造为山西盐商的守护神。

明朝万历年间发生蒙古王公和西南土司的叛乱，平叛期间皇帝敕封关羽为“关圣帝君”。清朝乾隆帝对《三国志》中关羽“壮（勇猛）缪（名实不符）侯”的谥号不满，下令“关帝之谥，改为忠义”，在全国遍立关帝庙。

——摘编自田海《关羽：由凡入神的历史与想象》等

（1）依据材料一、二，概括讲史小说的特点，并结合材料二内容举例说明。（4 分）

（2）阅读以上材料并结合所学，分析“关羽崇拜”逐步扩大的历史原因。（8 分）

17.（11分）礼仪

**材料一**　中国古代重视国家礼仪，政府对各种礼仪的内容都有统一要求，抑制了仪法多元各行其是的现象。《史记》记载西汉初年朝廷上“群臣饮酒争功”，刘邦命叔孙通制订了朝拜礼仪，后来进行岁首大典时，“诸侍坐殿上皆伏抑首，以尊卑次起上寿（敬酒）”，刘邦称“吾乃今日知为皇帝之贵也”。在中国影响下，古代东亚地区事实上也形成了一个“礼文化圈”。

——摘编自胡新生《礼制的特性与中国文化的礼制印记》等

**材料二**　《天津条约》签订后，英法等国要求按条约规定及国际惯例，派使节觐见清帝呈递国书，但此后十几年清廷一直阻止使节觐见。1873年，外国驻华公使向清廷发出照会，要求觐见同治帝。随后围绕礼仪问题几经交涉，最终商定公使以鞠躬礼觐见。以下是描述觐见的两则笔记：

使以次立读国书。居首者读至数句，即浑身发战，不能卒读。……令人掖之下阶，不能动步，坐地汗喘。……恭王（奕䜣）云：“说是大皇帝不可轻见，你们不信，今日如何？我中国叫此为草鸡毛！”

——平步青《霞外攟屑》

夷酋皆震栗失次，不能致辞，……盖此辈犬羊，君臣脱略，虽跳梁日久，目未睹汉官威仪，……今一仰天威，便伏地恐后，盖神灵震慑，有以致之也。

——李慈铭《桃花圣解盦日记》

**注：**平步青：经学家，1872年辞官归隐。

李慈铭：被誉为“旧文学的殿军”，1880年入仕。

（1）依据材料一，概述中国古代国家礼仪的作用。（4分）

（2）材料二两则笔记记述的场景是否可信？请说明理由。（7 分）

18.（11 分）晚清铁路建设

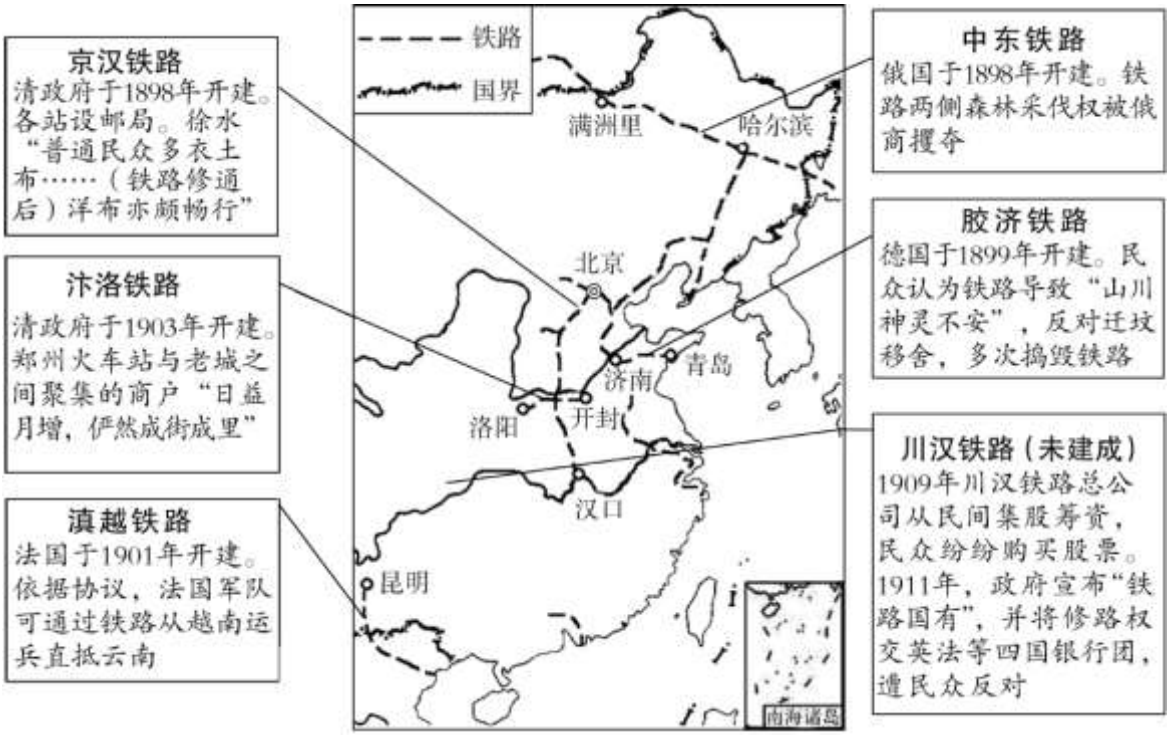


晚清铁路建设示意图

依据材料和所学，围绕“晚清铁路建设折射出鲜明的时代风貌”进行论述。（11 分）

要求：提取信息充分，史论结合，论述全面，逻辑清晰。

19.（11 分）区域国别研究

区域国别研究发端于 16—19 世纪逐渐形成的东方学，代表作有葡萄牙航海家皮列士的《东方志：从红海到中国》、英国旅行作家哈克卢伊特的《英吉利民族的主要航海、航行、贸易和发现》、英国传教士大卫•利文斯顿的《在南非的传教旅行与研究》等。其主要研究对象是以语言和宗教为代表的古代文明，东方被描述为落后的、僵化的“他者”，有待西方的统治和引导。他们收集的东方地理和人文资料，受到西方的广泛关注。

二战后，美国招募各国最杰出的专家“对涉及国家安全的所有信息进行搜集和整理”，为美国的决策提供参考，区域研究涵盖地球各个角落，最受重视的是苏联学和中国学。1958 年，国会通过《国防教育法案》，向高校提供资金，资助其区域研究。这一时期还涌现了“世界区域研究专委会”等一批学术团体。

从 20 世纪 80 年代开始，中国高校设立以特定地区为名称的研究中心。2011 年，教育部启动高校区域国别研究专项，目前已做到了对世界各地区研究的全覆盖。中国的研究植根于研究地的社会文化，依靠合作机制，让当地学者为自己发声，从而构建真正意义上的“本土性”知识。同时，关注当今世界面临的危机和挑战，阐明人类社会的共识，为问题的解决提供有益借鉴。

——摘编自朱晓中《区域与国别研究：缘起、内涵、知识生产和挑战》等

依据材料并结合所学，评析近代以来区域国别研究的发展变化。（11 分）

20.（10分）国际石油价格变化

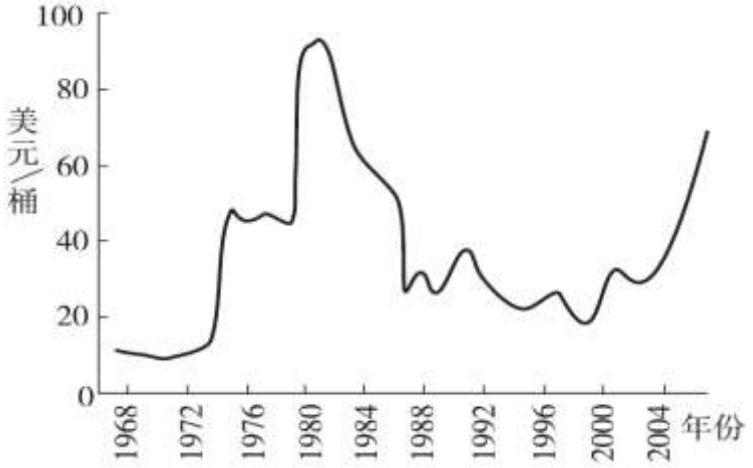


国际石油价格变化示意图

20世纪70年代以前，石油的生产销售受西方控制，国际油价长期处于低水平。1960年，以西亚产油国为主组成的石油输出国组织（欧佩克）成立，围绕着石油定价权不断与西方石油资本进行斗争。到70年代初，西亚产油国在实现石油资源国有化的基础上，联合夺取了国际石油定价权。1973年第四次中东战争，西亚产油国对西方发达国家实行石油禁运，造成西方国家第一次能源危机。

80年代初，两伊战争爆发使伊朗与伊拉克的石油出口量锐减。80年代国际油价的决定主体从欧佩克单方面决定，转向由欧佩克、石油需求和西方石油资本共同决定的局面。1990—1991年海湾战争时，国际油价曾出现短期大的涨落。90年代后期，亚洲一些国家经济萧条，石油需求减少。21世纪初，世界经济强劲增长拉动需求。

——摘编自汪莉丽《世界石油价格历史演变过程及影响因素分析》等

（1）依据材料，概述20世纪70年代以来国际石油价格变化的历程。（4分）

（2）阅读材料，归纳影响国际石油价格的因素，结合史实对其进行说明。（6分）

# 参考答案

**第一部分　共 15 题，每题 3 分，共 45 分。**

| 题号 | 1 | 2 | 3 | 4 | 5 | 6 | 7 | 8 | 9 | 10 | 11 | 12 | 13 | 14 | 15 |
|---|---|---|---|---|---|---|---|---|---|---|---|---|---|---|---|
| 答案 | C | A | B | C | D | B | C | B | D | B | C | D | A | A | D |

**第二部分　共 5 题，共 55 分。**

16.（12 分）

（1）特点一：以历史为素材进行文学演绎。

如《三国演义》描写赤壁之战时增加了诸葛亮“借东风”等情节；关羽之死被神话。

特点二：表达一定的价值判断。

如《三国演义》从维护纲常礼教的角度出发，将沿用汉朝国号的刘备视为“正位”“大统”，挟天子以令诸侯的曹操视为“奸雄”，将曹丕称帝称为“废”“篡”。（4 分）

（2）宋与辽、西夏、金等民族政权的并立与冲突，明朝平定各地叛乱，推动武将关羽成为了国家的军事保护神，得到官方的封号和祭祀。

随着理学兴盛，忠孝仁义思想传播，统治者将关羽提升为“忠义”的化身，以教化百姓。

元明以来，长途贸易的发展和晋商的兴起，因关羽是山西人而被晋商当作保护神。

元明清时期，许多以三国人物为题材的市民文学流行，扩大了关羽在民间的影响力。（8 分）

17.（11 分）

（1）国家礼仪区分等级尊卑，有利于维护统治秩序。

统一的国家礼仪，有助于维护文化的统一。

国家礼仪树立了君主的威严，适应了加强皇权的需要。

中国礼仪传播到邻国，推动了东亚文化圈的形成。（4分）

（2）示例：

不可信。

从记载内容看，两则笔记都记录了外国公使被皇帝天威震慑，狼狈不堪。由于第二次鸦片战争失败，外交谈判失利，所以清政府处于弱势；19 世纪近代外交制度发展，西方已形成了常驻公使机制，作为专业外交人员不可能如此。因此，该记载内容不符合历史。

从笔记作者的身份看，二人并非当朝官员，不可能亲历觐见仪式。

从笔记作者的视野和立场看，同为守旧的士大夫，不知外部世界，愚昧自大，其认知仍带有天朝上国色彩。（7 分）

18.（11 分）

示例：

晚清铁路建设反映了列强侵略和人民斗争。甲午战后，列强掀起瓜分狂潮，借修筑铁路掠夺沿线利权，划分势力范围，扩大经济侵略，使民族危机加剧；人民抗争不断，典型事件是四川民众的保路运动，成为了辛亥革命的导火索。

晚清铁路建设体现了近代中国经济与社会生活的变迁。清政府利用西方铁路技术，建成多条铁路干线，促进了近代交通业的发展，便利了中部、东部地区经济的开发和沿线城市的发展；为解决资金困难，运用了公司、股票等近代商业经营形式；铁路发展促进了邮政通讯的进步，还推动了人们观念的改变，民众逐渐接受并积极参与修筑铁路。

晚清铁路建设暴露了近代中国发展的困境。列强大量攫取筑路权，中国的铁路主要掌握在列强手中；铁路集中在中部、东部地区，进一步加剧了地域发展的不平衡；清政府软弱无力，出卖路权；民众观念落

后，一度反对修建铁路。

晚清铁路建设折射出近代中国社会的半殖民地特征，凸显了新旧并呈、曲折发展的时代风貌。（11 分）

19.（11 分）

示例：

16 世纪以来，新航路开辟和殖民扩张推动了东方学兴起，是区域国别研究的开端。主要研究者是欧洲的探险家、传教士和学者，研究范围是亚非地区，研究内容是古代文明。区域国别研究的兴起带有明显的殖民主义特征，服务于欧洲殖民掠夺。

二战后，美国实力空前强大，力图称霸全球，推动了美国区域国别研究。政府招募的各国人才、受政府支持的高校以及学术团体是主要研究者，研究的范围扩展到全球各区域，因为冷战的需要，以研究中苏为首要，研究内容围绕国家安全问题。区域国别研究为美国战略决策提供了参考。

20世纪80年代以来，中国改革开放的深化、积极参与国际事务、以及“一带一路”倡议，推动了区域国别研究的发展。政府支持下的高校，与研究地的学者合作，关注当地以及人类面临的共同问题，研究范围涵盖世界各区域。中国的区域国别研究是对文化多样性的尊重，体现了构建人类命运共同体的主张，为世界和平与发展提供了中国方案。

总之，自近代以来，区域国别研究从个人行为发展为国家行为，其研究内涵随国家发展的需要而不断变化，成为国家软实力的重要体现。（11分）

20.（10分）

（1）20世纪70年代到80年代初，国际油价急剧上涨；80年代，国际油价急剧下降；80年代末到90年代末，国际油价在波动中维持较低水平；21世纪初，国际油价上涨。（4分）

（2）

①各种国际力量的角逐导致国际石油定价权转移。20世纪70年代，西亚产油国从西方石油资本手中夺取了定价权，提高了国际油价；80年代，西方石油资本再次获得部分定价权，国际油价下降。

②战争影响产油国的石油出口。第四次中东战争、两伊战争、海湾战争导致产油国的石油出口下降，使国际油价上涨。

③经济形势变迁影响石油需求。1997年的亚洲金融风暴冲击了亚洲一些国家的经济，石油需求减少，国际油价下降；21世纪初，世界经济发展，石油需求提高拉动国际油价上涨。

④第三世界产油国的斗争。20世纪70年代，产油国实现石油资源国有化，成立欧佩克开展联合斗争，维护自身权益。（6分）