2026 北京顺义高三二模

地　　理

2026.5

本试卷共 10 页，100 分。考试时长 900 分钟。考生务必将答案答在容题卡上，在试卷上作答无效。考试结束后，将本试卷和答题卡一并交回。

第一部分

本部分共 15 题，每题 3 分，共 45 分。在每题列出的四个选项中，选出最符合题目要求的一项。

“十五五”规划纲要提出加快构建新型能源体系，图 1 为我国清洁能源基地布局示意图。读图，回答第 1、2 题。

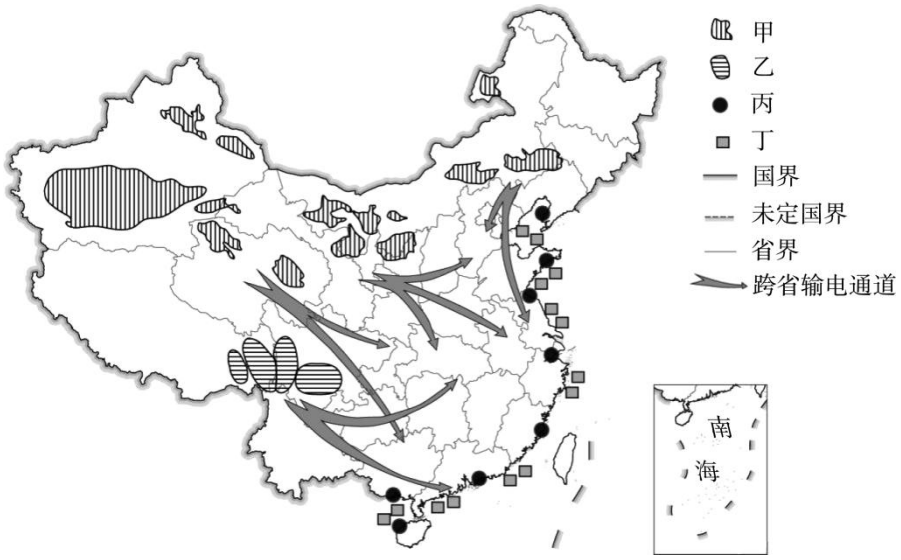

图 1

1.图中甲、乙、丙、丁四种清洁能源基地分别是

A.风电光伏基地、水风光基地、沿海核电基地、海上风电基地

B.水风光基地、风电光伏基地、海上风电基地、沿海核电基地

C.风电光伏基地、水风光基地、海上风电基地、沿海核电基地

D.水风光基地、风电光伏基地、沿海核电基地、海上风电基地

2.跨省输电通道建设

①提升我国西部地区核电开发水平　　②改善我国东部地区能源消费结构

③促进湘、鄂、皖等省的水能开发　　④推动我国“双碳”目标早日实现

A.①③　　B.①④　　C.②③　　D.②④

我国某市 2014 年和 2024 年社会经济主要数据如表 1 所示。读表，回答第 3 题。

表 1

年份	人口自然增长率（‰）	人口机械增长率（‰）	城镇化率（%）	国内生产总值（千亿元）	产值比重（%）		
					第一产业	第二产业	第三产业
2014	2.14	27.3	82	16	1.3	49.4	49.3
2024	-1.97	1.97	86	18	1.6	34.5	63.9

3.与 2014 年相比，2024 年该市

①第二产业的产值下降　　②第三产业为主导产业

③大量人口向农村迁移　　④成为人口净流出地区

A.①②　　B.①③　　C.②④　　D.③④

石臼湖与长江通过姑溪河相互补给。安徽省马鞍山市在姑溪河河口建设当涂闸水利工程，调节石臼湖水量，工程预计 2027 年建成，每年 11 月至次年 3 月是工程建设的黄金时期。读图 2，回答第 4、5 题。

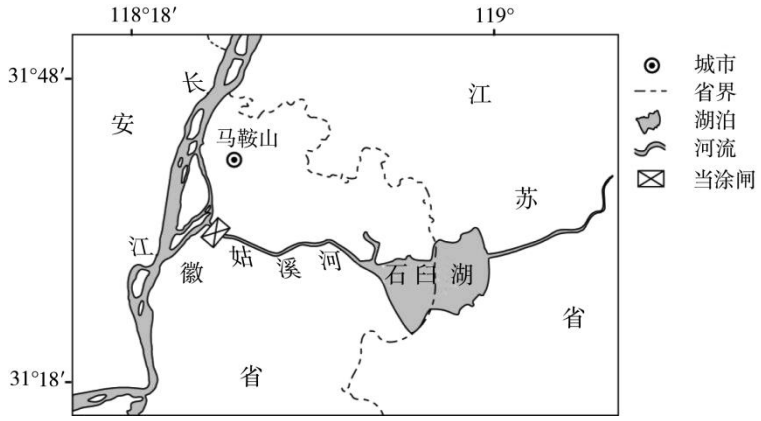

图 2

4.每年 11 月至次年 3 月是当涂闸建设黄金时期，主要是由于当地

A.受副热带高气压带控制，晴天日数多　　B.河流处于枯水期，洪水威胁小

C.正午太阳高度小，受太阳活动干扰小　　D.白昼逐渐变长，可施工时间多

5.当涂闸建成后，夏季发挥的主要功能是

A.增加石臼湖的水资源，保障湖泊生态系统稳定性

B.提升石臼湖蓄水功能，减轻长江下游的洪涝灾害

C.阻挡长江水进入石臼湖，控制湖泊水位上涨幅度

D.增加长江水进入石臼湖，稳定石臼湖的通航能力

图 3 示意柔鱼 7—11 月洄游路径。读图，回答第 6、7 题。

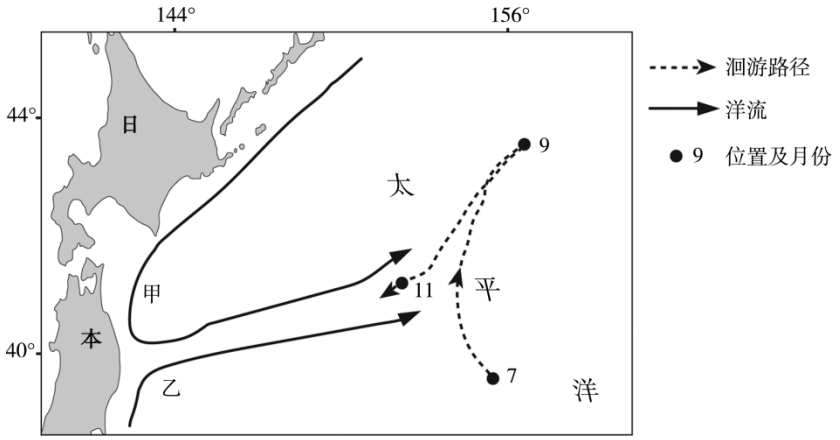

图 3

6.柔鱼向北洄游

A.沿途海域表层海水盐度逐渐升高　　B.期间西北太平洋海域热带气旋活动频繁

C.速度和方向受盛行西风影响强烈　　D.期间该海域海—气之间水热交换量减少

7.图中

A.甲洋流使所经过海面及附近地区气温偏高

B.乙洋流降低日本东侧沿海空气湿度和温度

C.乙洋流使沿海地区亚热带常绿硬叶林广布

D.甲、乙洋流交汇扰动海水使浮游生物繁盛

桐庐县地处浙江省杭州市西北部，该县建设物流仓储配送体系，包括 1 个县中心、9 个乡镇中心和 181 个村级快递驿站。读图 4，回答第 8、9 题。

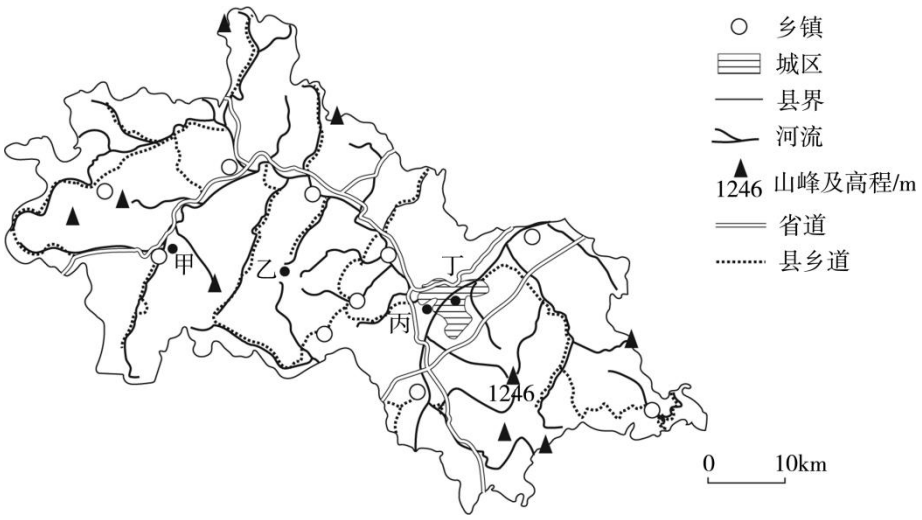

图 4

8.该县

A.土层深厚，是我国春小麦的主要分布区　　B.技术先进，可实现大规模机械化耕作

C.以低山丘陵为主，县乡道多沿河谷分布　　D.全年湿热，茶叶和热带水果种植广泛

9.图中四地，适合建县级物流仓储配送中心的是

A.甲　　B.乙　　C.丙　　D.丁

图 5 为某古生代和中生代地层的地质剖面图。读图，回答第 10、11 题。

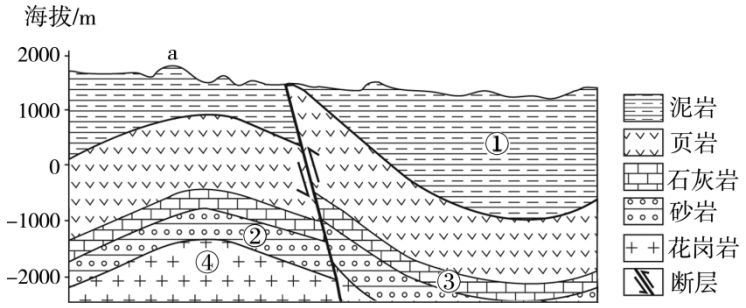

图 5

10.图中

A.a 处地貌符合向斜成山规律　　B.②岩层形成比③岩层早

C.断层在水平张力作用下形成　　D.岩层最深处已达上地幔

11.在泥岩中发现中生代煤层，可推测

A.①岩层形成的年代爬行动物盛行　　B.②岩层经过变质作用后形成

C.③岩层形成于新生代的海洋环境　　D.④岩层可能发现三叶虫化石

通勤圈是首都都市圈规划的重要一环，以半径约 50 公里范围为基础，考虑综合交通 1 小时可达。读图 6，回答第 12 题。

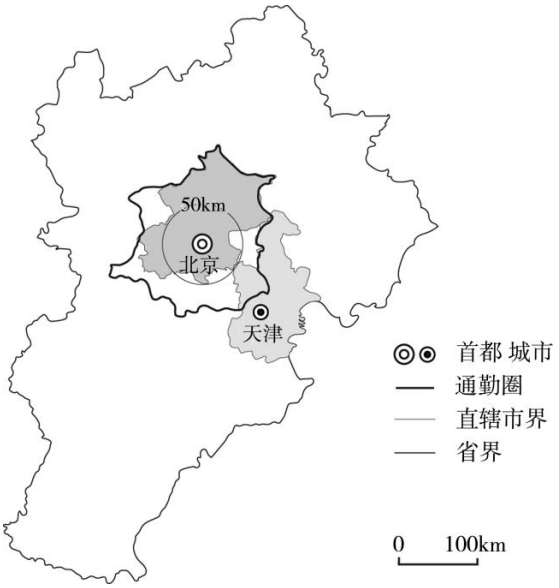

图 6

12.通勤圈的实际半径远大于 50 公里，主要原因是

A.城际铁路和市域交通发展　　B.北京市产业结构升级

C.京津冀行政边界逐渐模糊　　D.远程办公技术的普及

2026 年 2 月 12 日，中国援建的卫星地面数据接收站正是移交给纳米比亚，该站主要用于遥感信息获取及处理。图 7 为纳米比亚及周边地区示意图。读图，回答第 13—15 题。

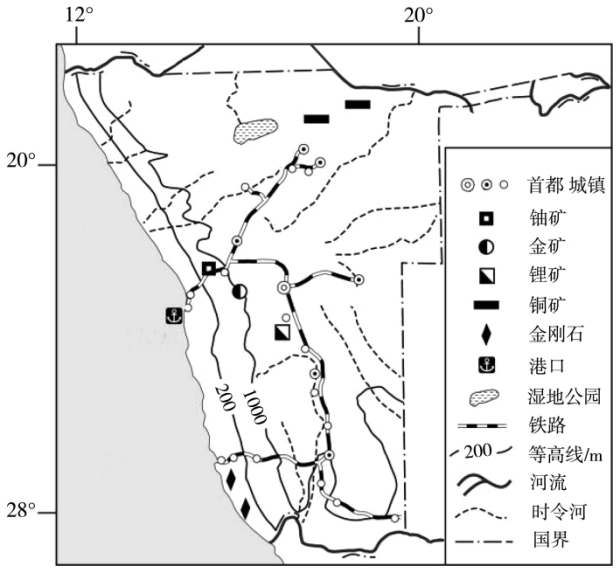

图 7

13.纳米比亚

A.常年受东北信风带的控制　　B.西临大西洋

C.海岸线曲折，多深水良港　　D.水能较丰富

14.纳米比亚适宜发展

A.木材加工业　　B.金融业

C.大数据产业　　D.采矿业

15.卫星地面数据接收站建成有助于当地

A.监控深层海水密度　　B.精准定位野生动物

C.监测土地利用变化　　D.分析各项经济数据

第二部分

本部分共 5 题，共 55 分。

16.（14 分）

某校学生到河北省井陉县于家村开展“古村传智”综合实践活动。图 8（a）为于家村及周边地区等高线

地形图，图 8（b）为学生设计的实践活动方案。读图，回答下列问题。

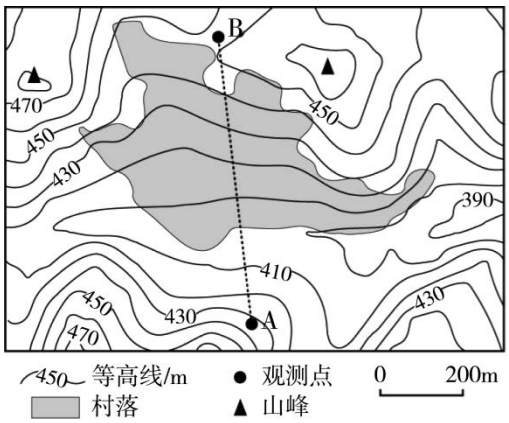

图 8（a）

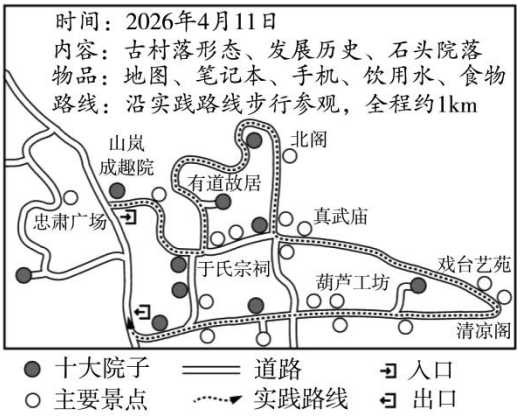

图 8（b）

任务一 探寻古村落的选址

于家村是“中国历史文化名村”，距今有 500 多年历史，最初为于谦的后裔于有道及家眷的隐居地。村落选址考虑了隐居、御寒、避灾等需求。

（1）阐述该村落选址该地的理由。（4 分）

任务二 观察古村落的形态

学生在村前和村后分别选择 A、B 两个观察点，观察古村落形态。

（2）绘制 A、B 两个观察点之间的地形剖面图，说出可观察到村落全貌的观察点及依据（5 分）

任务三 评价实践活动方案

考察后，同学们对考察活动进行总结和探讨。

（3）请对本次实践活动方案进行评价。（5 分）

17.（14 分）

图 9（a）为 2026 年 3 月 20 日 14 时我国局部地区海平面气压分布示意图。图 9（b）为东川和关岭当日天气相关数据。读图，回答下列问题。

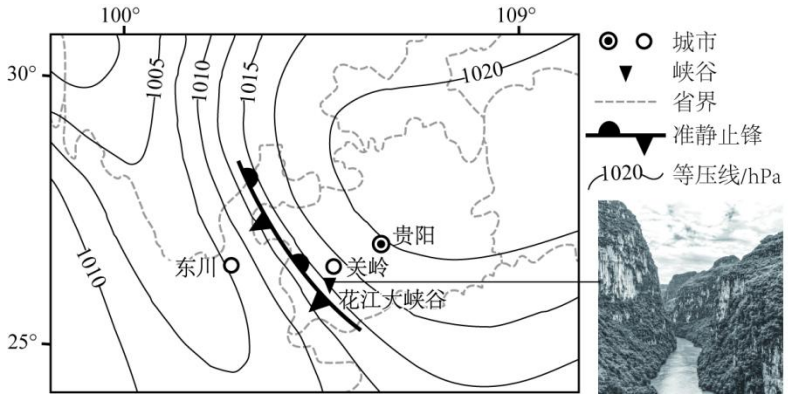

图 9（a）

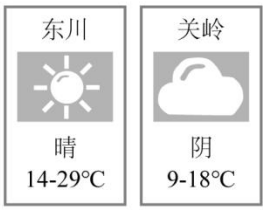

图 9（b）

（1）与关岭相比，说明该日东川的气温特点及依据。（5 分）

花江大峡谷伴随云贵高原抬升逐渐形成，是典型的喀斯特高原峡谷。徐霞客游览此地曾写下“东西两崖，相距不十五丈，而高且三十丈，水奔腾于下，其深又不可测”的语句。

（2）概括花江大峡谷地貌特点，并分析原因。（6 分）

关岭石漠化严重，土层薄。当地种植根系浅、耐旱耐贫瘠的花椒，发展花椒产业。

（3）简述当地发展花椒产业的意义。（3 分）

18.（9 分）

玻利维亚是多民族国家，官方语言为西班牙语和克丘亚语等 36 种印第安民族语言。图 10 示意玻利维亚主要城市和海拔 500 米以下地区民族语言分布。读图，回答下列问题。

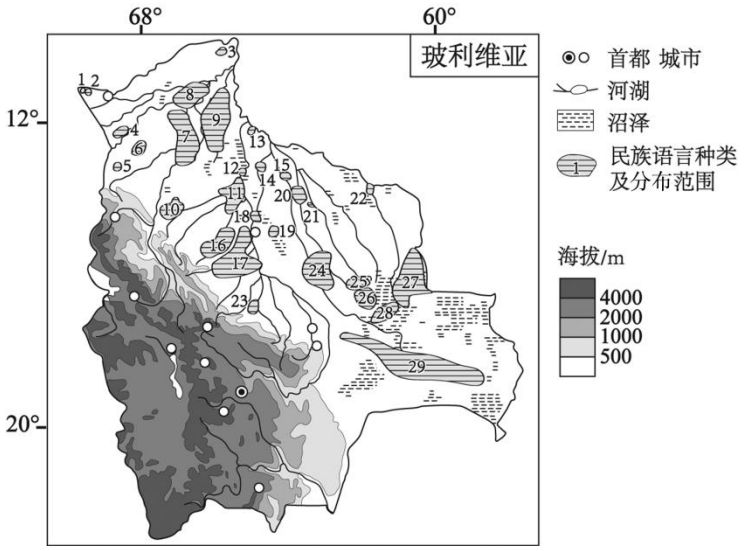

图 10

（1）概括玻利维亚城市分布特点，并分析原因。（5 分）

（2）概述该国海拔 500 米以下地区民族语言种类多，分布范围小的地理条件。（4 分）

19.（11 分）

亚儿的父母出生在浙江省宁波市古林镇，这里被称为“中国蔺草之乡”。20 世纪 70 年代当地传统蔺草编织盛行，亚儿跟随母亲学习编织技艺。随着市场需求的变化，21 世纪初这里蔺草产业逐渐衰落，传统蔺草编织技艺面临消失危机。如今，亚儿作为宁波草编非物质文化遗产传承人，致力于蔺草产业重焕新生。读图

11，回答下列问题。

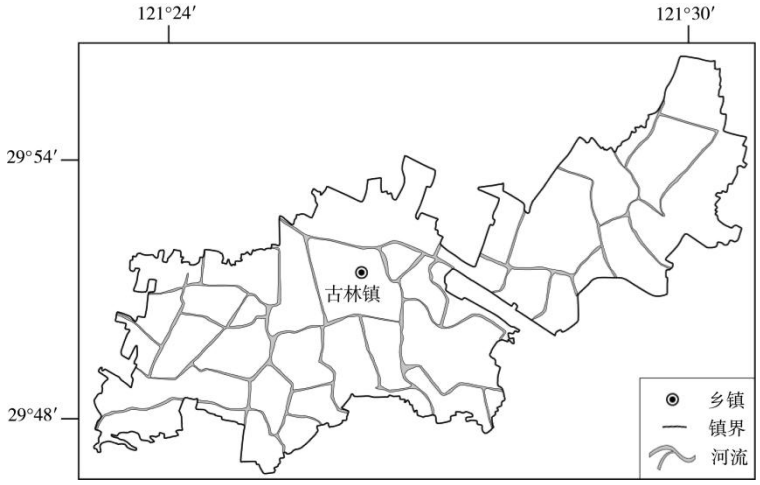

图 11

蔺草喜温暖湿润环境,当地引进专家团队，指导蔺草科学种植。

（1）简述古林镇种植蔺草的有利条件。（4 分）

2020 年古林“蔺草-水稻”轮作模式入选我国重要的农业文化遗产。每年 6、7 月份蔺草收割，剩余部分和根系还田，随后种植晚稻。晚稻较常规单季稻亩产增加百余公斤。

（2）与常规单季稻相比，说明“蔺草-水稻”轮作模式的优势。（4 分）

为弘扬草编非遗文化，亚儿成立草编研学中心，在高校开设课程，将传统工艺融入现代设计理念，开发文创摆件、卡通草帽等产品，参加中国国际家居夏凉用品供应链博览会，积极与企业搭建产销平台。

（3）概述弘扬草编非遗文化对该地蔺草产业发展的积极作用。（3 分）

20.（7 分）

城乡融合发展是中国式现代化的必然要求，通过生产要素双向流动与公共资源合理配置，推动城乡互动，补齐乡村人才不足、产业单一等发展短板，实现全体人民共同富裕。图 12 为我国城乡融合发展相关资料。读图，回答问题。

浙江省：

建设 87 条省级“县城—中心镇—重点村”发展轴。2025 年新（改）建农村公路 1551 公里，城乡公交一体化率为 93%。农村地区宽带网络与城市水平基本持平。生活污水治理覆盖 96%的行政村，推进城乡学前义务教育优质均衡发展。

河南省许昌市建安区：

以“村内建社区工厂、村外建现代农场”为抓手，让产业链条在城乡间无缝衔接。2025 年，建安区已建成社区工厂 147 家，涵盖非遗文创、纺织制造等门类，推动城市产业向农村下沉。建成家庭农场 884 家，形成“一乡一特色、一村一品牌”布局。

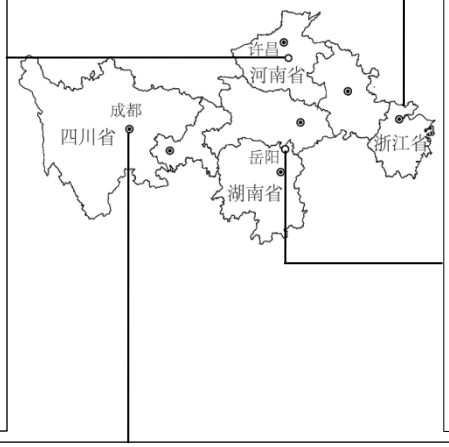

湖南省岳阳市君山区：

曾经闲置的荒地、卫生死角，如今绿树成荫、花团锦簇，蜿蜒的步道旁设置了休闲座椅，健身器材一应俱全。油菜花节盛开时节，游客从城市涌来，在花海里拍照、在农家吃饭、在村里住下，还带回了蜂蜜、土鸡蛋等绿色农产品。

四川省成都市蒲江县西来镇铁牛村：

以“未来乡村公园社区”为发展定位，积极引导新村民回流、城市游客回归，系统推动人才聚集与产业深度融合。80 多位常驻新村民和 500 多位“候鸟”新村民从事的行业涵盖规划建造、文旅开发、艺术策划、生态农业等。

图 12

结合材料，论述城乡融合发展的意义。

参考答案

第一部分

题号	1	2	3	4	5	6	7	8	9	10
答案	A	D	A	B	C	B	D	C	C	B
题号	11	12	13	14	15					
答案	A	A	B	D	C					

第二部分

16.（14 分）

（1）（4 分）

地处山间谷地（盆地），周围山地形成天然屏障，比较隐蔽，利于隐居；

位于山地南（阳）坡，光照和热量条件好；

北部山地阻挡冬季风，躲避严寒；

等高线稀疏的缓坡地带，地势较平坦开阔，减少滑坡、泥石流等灾害的影响。

（2）（5 分）

绘图略（3 分）

A 观察点；无地形阻挡，视野开阔。

（3）（5 分）

优点：4 月气温适宜，降水较少，利于户外活动；线路不重复，沿线涵盖大多数景点和院落，综合性强/满足研学内容需求；路程 1.1km，距离适中，适合步行；物品考虑学习与水分和能量补充等多种需求。（选 3）

缺点：没有关注天气，未准备防晒或防雨用具；未考虑徒步需要的运动鞋及必要药品；权少对古村落文物（环境）保护措施等。（选 2）

17.（14 分）

（1）（5 分）

东川日均温高，气温日较差大 （2 分）

东川处于准静止锋的暖气团一侧，天气晴朗，光照充足；天气晴朗，白天对太阳辐射强削弱少，增温快，夜间大气逆辐射弱，降温快，温差大。（3 分）

（2）（6 分）

河谷深度大、岸壁较陡、谷底狭窄（2 分）；可溶性石灰岩广布，岩石易被溶蚀；地壳抬升，地势起伏大，河流流速快，亚热带季风气候区，河流流量大，流水侵蚀强烈。

（3）（3 分）

提高植被覆盖率，减少水土流失；带动花椒相关产业的发展；增加居民就业和收入。

18.（9 分）

（1）（5 分）

西部高原山地多，东部平原少；地处低纬（热带），东部平原地区气候湿热，不适宜人类居住，西部高原山地海拔高，气温凉爽，适宜人类居住。

（2）（4 分）

该区域河流、沼泽众多，被分割成多个地理单元；交通不便，受外界影响小；气候湿热不适宜人类居住，人口数量少，活动范围小。

19.（11 分）

（1）（4 分）

亚热带季风气候，水热充足；河网密布，水源充足；种植历史悠久，经验丰富；有专家指导，耕种技术水平高。

（2）（4 分）

一年两熟，提高土地利用率，增加农产品类型；增加单产，增加水稻（粮食）产量；蔺草剩余部分和根系还田，增加土壤有机质，保护和改良土壤。

（3）（3 分）

传承和发扬传统文化，文化赋能产业持续发展；提升创新能力，促进产业转型升级；提高产品附加值，拓展海外市场。

20.（7 分）

表现水平	水 平 描 述
水平 4	视角丰富，实例恰当，逻辑严谨，条理清晰，准确运用地理术语
水平 3	视角较丰富，实例较恰当，逻辑较严谨，条理较清晰，运用地理术语
水平 2	视角单一，有实例，缺乏逻辑，无条理，无地理术语
水平 1	作答与试题无关，或重复试题内容，或没有作答

参考角度：

城乡公共资源合理配置；乡村对城市发展意义；城市对乡村的辐射（人才、产业）等