2026北京东城高三二模

历　　史

本试卷共9页，100分。考试时长90分钟。考生务必将答案答在答题卡上，在试卷上作答无效。考试结束后，将本试卷和答题卡一并交回。

第一部分

本部分共15题，每题3分，共45分。在每题列出的四个选项中，选出最符合题目要求的一项。

1．科学家用DNA技术研究陕西石峁古城遗址（距今约4300-4000年）时发现，其居民主体遗传成分与本地仰韶晚期人群一脉相承，少数个体中检测到来自北方草原和南方沿海人群的遗传痕迹。据此可知，石峁古城遗址

A．处于母系氏族社会阶段

B．印证了不同区域间的广泛商贸交往

C．具备商周文化典型特征

D．为研究早期文明的交流提供了证据

2．云南河泊所遗址群中发现了大量汉代官府简牍，反映了古滇国的状况。《史记》载：汉武帝时"滇王举国降，请置吏入朝"。据以下图文材料可知，西汉时期



自左向右三枚简牍上的文字分别为：

·益州郡滇池（县）庑同（地名）里

·滇池以亭行（以事为节点传遽）

·始元四年（公元前83年）十月丙戌朔辛丑史索时（人名）敢言之

注：“敢言之”为汉代下级官员向上级行文的格式

①运用文书行政加强边疆基层治理

②修筑了遍及全国的驿站

③在此地设置了较完备的行政体系

④在当地实行"改土归流"

A．①②　　B．①③　　C．②④　　D．③④

3．唐代禅师洪昉在龙光寺“建病坊，常养病者数百人”。武周时“置使专知（监管）”“官以本钱收利给之”。安史之乱后，政府增设“普救病坊”，收容流民。武宗时派名德崇高的耆老负责病坊，划拨土地作为其经济来源。上述现象表明，唐代

①多种力量进行社会救助

②宗族内部的救助活动逐渐兴起

③在安史之乱后由盛转衰

④政府力图建立救济的长效机制

A．①③　　B．①④　　C．②③　　D．②④

4．北宋平定几个割据政权后，割据江浙的吴越国主上表北宋皇帝：“（陛下）削平诸夏，凡在率滨之内，悉归舆地之图”“（吴越）版籍未归于有司……愿以所管十三州献于阙下执事。”此举使该地“富完安乐”。吴越“纳土归宋”

①践行了崇文抑武方针　　②丰富了羁縻制度的内涵

③体现了大一统政治观　　④利于江南经济持续发展

A．①②　　B．①③　　C．②④　　D．③④

5．元初有多部历法，“各成体系，不能通行全国”。郭守敬等人奉元世祖命“复测候日月星辰消息运行之变”，间采阿拉伯天文之说，制成《授时历》。其后太史院奉圣旨印造《授时历》，每册“钞五百文”，“敢有私造者，以违制论”。元朝还向周边藩属国“赐历”。这表明，《授时历》的颁行

A．推动了朝贡贸易的发展　　B．兼具社会和政治意义

C．旨在增加国家财政收入　　D．开启西学东渐的潮流

6．晚清某大臣在《请在天津设局制造军火机器折》称“练兵之要，制器为先……此时虽在（江）苏省开设炸弹三局，渐次著有成效，惟一省仿造，究不能敷各省之用……（直隶）一旦有事，较往他省调拨，匪惟接济不穷”。该折意图

①创办军事工业以“自强”

②增强京畿地区防御力量

③反思甲午中日战争的失败

④扭转“东南互保”造成的局面

A．①②　　B．①③　　C．②④　　D．③④

7．以下是《六市新设民族资本面粉厂日产能力及在全国总量中的占比表》（单位：包）。由此折射出，民族工业的发展

年份	哈尔滨	上海	天津	武汉	济南	无锡	全国
1897—1912	5850（15.4%）	15700（41.2%）	480（1.3%）	2700（7.1%）	—	3400（8.9%）	38057

1913—1921	37430（18.3%）	55600（27.2%）	13540（6.7%）	8100（4.0%）	22200（10.9%）	12500（6.1%）	203585
1922—1936	14020（7.2%）	18000（9.3%）	40050（20.7%）	5360（2.8%）	15750（8.1%）	5450（2.8%）	193515

①北方始终优于南方　　②在一战期间尤为显著

③受国内外政局影响而波动　　④逐步形成了完善的工业体系

A．①③　　B．①④　　C．②③　　D．②④

8．1947 年秋，一位农民说：“从前咱种的是地主的地，打下粮先给地主交租子，连肚子都填不饱；现在咱有了自己的地，种多少都是自己的！蒋介石要抢咱的地，咱就拿起枪跟他干！”这一现象反映出

A．土地革命稳定了苏维埃政权的基础

B．减租减息政策赢得了农民的支持

C．土地改革激发了农民的革命积极性

D．国共两党力量对比发生根本逆转

9．“准备劳动与卫国体育制度”兴起于苏联。1954 年我国在学校中全面推行该制度，项目涵盖体能训练、手榴弹掷远、武装行军等。1964 年因“不够中国化”，被“青少年体育锻炼标准”所取代，改以跑、跳、投等基础项目为主。这反映了新中国

①社会主义基本制度的建立　　②学习苏联经验的同时独立探索

③学校体育锻炼与国防结合　　④人民群众自力更生、艰苦奋斗

A．①②　　B．①④　　C．②③　　D．③④

10．下表为 2018 年以来我国部分城市推出的民生服务项目。由此可知，我国的民生服务

城市	服务项目	服务亮点
北京	一刻钟便民生活圈	覆盖居民日常生活刚需，营造“家门口”的便捷生活场景
武汉	渔民驿站	传承“渔文化”，打造“渔民家园”，帮助退捕渔民转产
广州	银龄长者学堂	提供“老年智能手机课堂”，把社区变成生活乐园

①呈现出全国统一化的趋势　　②全方位实现了社会信息化

③凸显基层治理的地域特色　　④坚持以人民为中心的理念

A．①②　　B．①④　　C．②③　　D．③④

11．公元前5世纪雅典有两个中心：一个是拥有城邦政治机构的主城，另一个是比雷埃夫斯。雅典人曾修筑长墙连接二者，使它们成为防御统一体。比雷埃夫斯有许多泊船位和仓库，便于地中海地区商船频繁出入。比雷埃夫斯

A．是公民大会的定期召开地　　B．依靠贵族寡头直接管理

C．与非洲加纳等国开展贸易　　D．保障了雅典城邦的繁荣

12．1664年，路易十四宣布：“设立一个专门讨论商业问题的委员会，在朕亲自主持下……（决定）促进商业恢复的一切办法……每年拨出一百万锂来鼓励工业和增进航运，至于经营东、西两印度公司所付出的巨大款项，尤不在话下。”由此反映出，当时法国

①君主强力主导工商业发展　　②鼓励对外殖民

③实行自由放任的经济政策　　④民族认同加强

A．①②　　B．①④　　C．②③　　D．③④

13．1850年，马克思根据法国工人起义的斗争经验，首次使用了“无产阶级专政”的概念，用以区分科学社会主义和空想社会主义，但尚未具体说明无产阶级专政的“样子”。1871年，他在《法兰西内战》中总结巴黎公社的经验教训时，对无产阶级专政的原则、政治形式进行了理论提炼。这表明

A．工人运动必须与民族解放事业紧密结合

B．工人运动的实践丰富了马克思主义学说

C．社会主义革命可能首先在一国取得胜利

D．社会主义实现从理想到现实的伟大飞跃

14．1924年苏联在纽约组建苏美贸易公司。通过该公司，苏联从美国采购了近千万美元的石油化工、汽车生产等设备，美国也大量购进苏联的锰、镍、木材等。1933年两国建交后，斯大林建议美国政府，将两国贸易的业务均交给该公司。据此可知

A．苏联利用西方的技术推进工业化建设

B．在经济合作中双方坚持意识形态优先

C．美苏经贸合作始于经济大危机

D．苏联推行“新经济体制”改革

15．下列图片反映的历史事件，按时间顺序排列正确的是

			
①甘地进行“食盐进军”	②中国战区日本投降签字仪式	③纳赛尔与埃及群众庆祝收回苏伊士运河主权	④埃塞俄比亚孟尼利克二世在阿杜瓦战役中

A．①②③④　　B．①③④②　　C．④①②③　　D．④①③②

第二部分

本部分共 5 题，共 55 分。

16．（13 分）经济调整

隆庆至万历年间（1567—1620），明朝政府在经济上进行了调整。

明太祖时“片板不许入海”。隆庆元年（1567 年），开放福建漳州月港作为私人海外贸易往来的港口，是为“隆庆开洋”。设督饷馆进行管理，“漳闽之人，与番舶夷商贩方物，往来络绎于海上”。万历年间，“凡福之绸丝，漳之纱绢……下吴越如流水。其航大海而去者，尤不可计”
隆庆五年（1571 年），对蒙古鞑靼部“许互市于边”，在宣府、大同等边镇开设马市、民市等。万历末年颁布“市法五款”，对货物种类、贸易责任主体等做了规定
隆庆年间，山东、苏南地区以一县徭役分摊于一县之丁、田，统一征银

（1）依据材料，归纳隆庆至万历年间明朝政府经济调整的表现。（3 分）

（2）结合所学，分析上述经济调整的原因。（10 分）

17．（10 分）晚清黄河治理

中国历代重视黄河治理。清前期，朝廷建立了整套治河体系，设专职河督统一管理，经费由中央拨付。

咸丰五年（1855 年），黄河冲决了铜瓦厢堤岸，一改原本横穿苏北汇入黄海的故道，而是向北经山东入海，多地受灾。清政府因“军务未平、饷糈不继”，无法统筹治河。河水因无固定河道肆意漫流十余年。

同治年间，朝廷内部就“复归故道”还是“顺势新道”展开长期争论。山东巡抚为主导的“复故道派”力主“堵口挽河复故道”，痛陈山东“州县尽成泽国，漕运岌岌可危”；江苏巡抚为主的“改新道派”以

“复道需帑数百万，国库实难支应”为由，坚持“就新道筑堤”。双方相持不下，朝廷三十余年治河始终无统一规划。

光绪年间，清廷最终放弃恢复故道，正式承认新河道，治河全责转归山东巡抚。直到1902年，河督被裁，治河归地方全权处理。

黄河改道后，临清、聊城等运河沿线城市萧条。当年农业繁盛的鲁西南、鲁西北等地区出现大量灾民，加入捻军，曾国藩认为其“祸烈于洪、杨”。大量传教士趁灾荒来到山东，民教矛盾激烈。

——摘编自贾国静《黄河铜瓦厢决口改道与晚清政局》等

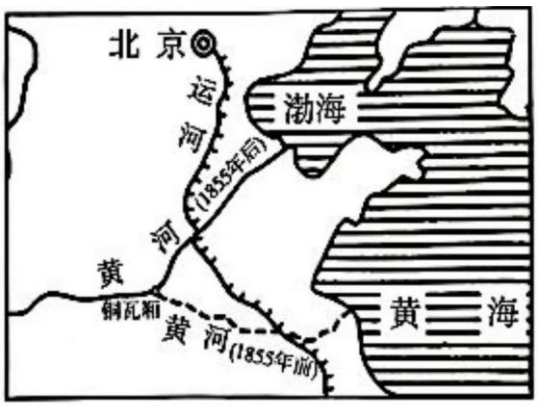

1855年黄河改道示意图

黄河失治加剧了晚清国家与社会的失序。依据图文材料并结合所学，谈谈你的理解。（10分）

18.（12分）中国人民的朋友

材料一 埃德加·斯诺是第一个在红色区域进行采访的西方记者。在1936年他来到陕北苏区之前，外界对中共的认知被国民党严密封锁和扭曲。次年，他的作品《红星照耀中国》出版，很快在国内外引起轰动。他说：“我每走到一个（中国的）地方，总有那些肋下夹着一本《红星照耀中国》的青年，问我怎样去延安的学校。”

出处	《红星照耀中国》内容摘编
1938年作者自序	（此书大部分）是毛泽东（等人口述）……（我只是）作一番公平的、客观的无党派之见的报告。红军成了一种不可征服的力量
1944年作者自序	在印度，我发现许多学生使用《红星照耀中国》作为思想源泉，来发动印度青年反对法西斯主义和帝国主义
第五章	（长征是）现代史上无与伦比的、史诗般的、军事史上最伟大的业绩

材料二 白求恩在信里说：“要问我为什么去中国，请读《红星照耀中国》，读后你们必将与我同感。”美国友人阳早和寒春也是在看了《红星照耀中国》后相继来到延安，并将一生献给了中国。

——摘编自黄黎《红星何以照耀中国》

材料三 白求恩是医学博士，曾当选英国皇家外科学会会员，在加拿大任多所医院的外科主任。1935年，加入加拿大共产党。1938 年，白求恩率援华医疗队抵达延安，随后在晋察冀前线投入工作：给伤员做手术和治疗、组织筹建示范医院、为医护人员授课、帮助根据地建立公共卫生系统。1939 年他在抢救伤员时感染，于 11 月 12 日不幸逝世，延安各界举行了追悼大会。毛泽东撰写《纪念白求恩》一文，盛赞他“毫不利己专门利人”的精神、“对同志对人民的极端的热忱”；“把中国人民的解放事业当作他自己的事业”的“国际主义的精神”，号召每个共产党员都要学习他。

——摘编自穆阿妮《毛泽东〈纪念白求恩〉一文发表始末》等

材料四 中国共产党自抗战以来……已经获得了很大的发展……在思想上、政治上、组织上巩固党，成为我们今天极端严重的任务……必须在党内开展正确的思想斗争，保证党内思想上的一致……团结全中国人民，引导抗战到最后的彻底的胜利。

——1939 年 8 月 25 日中共中央政治局作出的《关于巩固党的决定》

注：自 1937 年 7 月至 1938 年底，中共党员人数从 4 万多发展到 50 余万。

（1）阅读材料一、二，概括《红星照耀中国》在当时的意义。（4 分）

（2）阅读材料三、四，结合所学，对毛泽东盛赞白求恩加以阐释。（8 分）

19．（12 分）海洋权益

材料一 15 世纪末，西班牙和葡萄牙在“新世界”的矛盾尖锐。经谈判，双方于 1494 年签订了《托德西利亚斯条约》（简称《托约》），规定“在佛得角群岛以西 370 里格处划定一条从北极点直到南极点的分界线”，该线以西所发现的土地归西班牙所有，以东归葡萄牙。双方约定，《托约》提请教皇批准后才能生效，这就是“教皇子午线”。麦哲伦环球航行后，西班牙和葡萄牙都进入太平洋地区并爆发冲突。1529 年双方签署《萨拉戈萨条约》，确定了以马鲁古群岛以东 17°作为补足《托约》的地球东方的另一条“教皇子午线”，至此两国完全分割了世界。

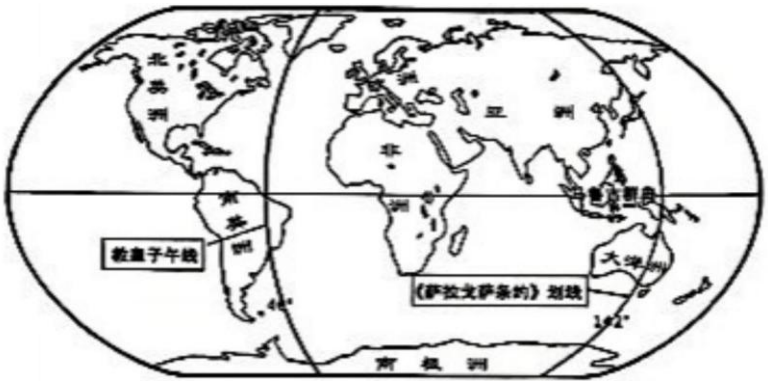

——摘编自屈文生等《〈托德西利亚斯条约〉与世界秩序的形成》

材料二 1603 年，荷兰在马六甲海峡捕获葡萄牙商船。葡萄牙认为荷兰无权在其“海洋主权领域”航行与捕获。为此，荷兰法学家格劳秀斯提出“海洋属于全人类，任何国家不得独占，各国都有航行与贸易的自由”。1651 年英国颁布《航海条例》，垄断了不列颠周边海域航行与运输的主导权。18 世纪以来，大国围绕领海范围、公海航行规则、海底资源归属，分歧更加明显。

1958 年联合国召开第一次海洋法会议，有 86 个国家的代表参加，会议最后制定了《日内瓦海洋法公约》。1982 年，130 个国家缔结了《联合国海洋法公约》，规定了领海范围，沿海国可建 200 海里专属经济区等，还规定公海海底及其资源是人类的共同财产。

——摘编自姜延迪《国际海洋秩序与中国海洋战略研究》等

（1）依据材料一，分析“教皇子午线”的制定所折射出的时代特征。（6 分）

（2）阅读上述材料，概述近代以来划分海洋权益的主导力量和方式的演变。（6 分）

20．（8 分）粮食危机

粮食危机指因粮食供应短缺引发的饥饿人口激增等社会困境。2024 年，逾 2.95 亿人处于粮食危机状态，多数生活在发展中国家。

独立初期的非洲国家，急于追求工业化，对农业的投入非常有限。近年来马达加斯加计划种植 15 万公顷中国援助的杂交水稻，有望成为首个实现粮食自给的非洲国家。非洲联盟制定《非洲农业发展综合计划》，旨在实现粮食安全、减少贫困，要求成员国将至少 10%的国家预算投入农业领域。非盟还依托非洲大陆自贸区促进区域内农产品贸易，提高非洲在全球农业贸易中的议价能力。

印度、孟加拉等国高度依赖进口粮食和化肥。欧美地区的全球主要粮食出口国，时常通过禁运、出口限制、控制优质化肥出口等手段，造成国际粮价上涨。中国实施粮食安全战略，建设高标准农田和智慧农业，这些经验正被应用于中非农业合作。

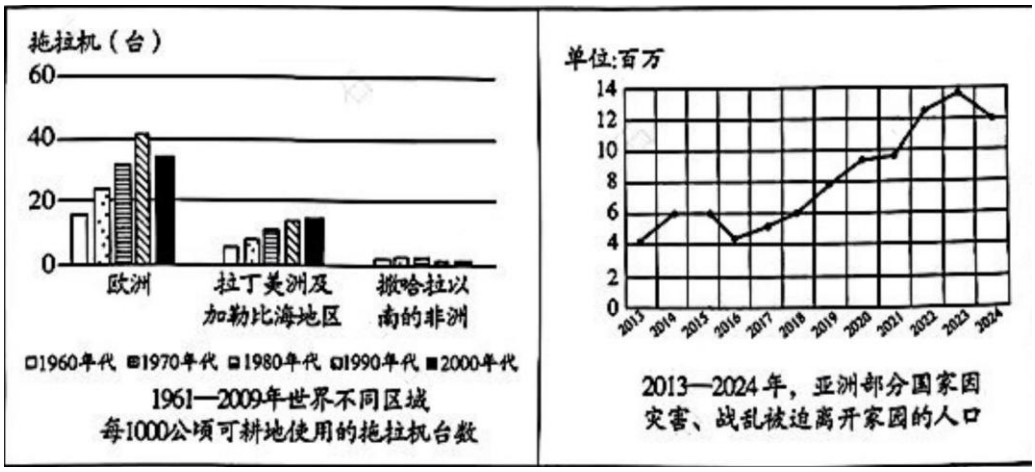

——以上材料整理自中国农业农村信息网等

阅读材料，简析发展中国家面临粮食危机的原因，指出他们应对粮食危机所作出的努力。（8 分）

参考答案

第一部分　共 15 题，每题 3 分，共 45 分。

题号	1	2	3	4	5	6	7	8	9	10	11	12	13	14	15
答案	D	B	B	D	B	A	C	C	C	D	D	A	B	A	C

第二部分　共 5 题，共 55 分。

16.(13 分)

(1)适度开放民间边镇互市和海外贸易；设置专门机构、制定法规；实行赋役合并、一概折银。(3 分)

(2)明朝与俺答汗订立和议，通过恢复互市，缓和与蒙古鞑靼部的矛盾。

新航路开辟后，国际市场对中国商品的大量需求，刺激了东南沿海地区工商业和海外贸易的发展，客观上需要调整政策。

明初严禁海外贸易，走私活动猖獗，倭患严重。明中期重创倭寇，形势稳定，为放松私人海外贸易的限制提供了条件。

白银大量流入，加速了白银货币化进程，推动赋役制度改革。

随着海外贸易和互市贸易的扩大，为了加强管理、规范秩序并增加财政收入，政府设置机构制定法规。(10 分)

17.(10 分)参考答案示例：

黄河失治反映了清王朝国家治理的失序。面对黄河决口改道，清王朝因忙于应对太平天国运动而无暇顾及，各派官员对黄河治理方案争论不休，朝廷始终没有采取有效措施，最终传统治河体系不复存在。

黄河失治反映了晚清中央与地方关系的失序。治河从中央专管变为地方负责，体现了中央权力下移。

黄河失治反映了晚清区域经济与民生根基的失序。黄河长期泛滥使鲁西南、鲁西北的农业凋敝，漕运被破坏，昔日繁盛地区迅速没落，民生陷入绝境。

黄河失治造成了晚清社会秩序受到全面冲击。持续灾荒导致大量灾民参加农民起义，阶级矛盾尖锐。长期的灾荒为传教士势力渗透提供了可乘之机，民教矛盾激烈。

治理黄河是对国家综合治理能力的考验，其治理成效关系到国计民生。晚清黄河失治，是清王朝走向衰亡的缩影。

18.(12 分)

(1)该书客观、公正地报道了红军长征等革命斗争；宣传了中国共产党和红军的正面形象；吸引了广大爱国青年和外国友人奔赴延安、投身中国革命事业；对其他国家的革命起到了引领作用。(4 分)

(2)参考答案示例：

抗战以来，敌后抗日根据地条件艰苦，亟需医疗等方面的帮助。白求恩作为一名医学专家，不仅救助伤员，而且为根据地的医疗建设做出了突出贡献；他不远万里援助中国抗战，牺牲于前线，表现出不计个人得失、超越国界的国际主义精神。毛泽东盛赞白求恩，既是对白求恩及国际援华组织的感谢，也是对国际联合反法西斯斗争的认同。

同时，随着党组织迅速壮大，也需要在党内及时开展思想建设。毛泽东号召全党学习白求恩的崇高精神，践行全心全意为人民服务的宗旨，投身到全民族抗战中。

毛泽东盛赞白求恩，说明中国共产党在反法西斯斗争中珍视一切国际支援，也是党重视自身建设的生动体现。(8 分)

19.(12 分)

(1)教皇子午线划定西葡两国的势力范围，折射出此时欧洲海外探险和殖民活动活跃，引发对世界争夺。

西葡两国对未占领土地预先进行分割，表明此时两国主导殖民霸权。

教皇子午线的多次划定，说明人类认识世界的视野更为开阔。

经教皇裁定，两国条约生效，反映教会对国际政治事务具有重要影响力。(6 分)

(2)二战前，西班牙、葡萄牙、荷兰、英国等海上强国，从本国利益出发制定规则，各国没有对划分海洋权益达成共识，以争夺和冲突为主，霸权主导海洋权益的划分。

二战后，联合国成为推动海洋权益划分的主导力量，海洋法公约被多数国家接受，实现了多边协商、国际共治，国际法成为划分海洋权益的主要依据。(6 分)

20.(8 分)

原因：近代以来长期遭受殖民压迫，生产力落后，农业机械化生产程度比较低；自然灾害以及地区冲突，造成人口流离失所，破坏农业生产；自身发展政策失误，对农业生产投入低；发达国家操纵国际粮食市场。

努力：制定农业与粮食安全发展战略；提高农业技术水平；积极推动国际经济新秩序的建立；开展国际合作，吸纳中国等国的经验和智慧。(8 分)