2026 北京西城高三（上）期末

历　　史

2026.1

本试卷共 8 页，100 分。考试时长 90 分钟。考生务必将答案答在答题卡上，在试卷上作答无效。考试结束后，将本试卷和答题卡一并交回。

第一部分

本部分共 20 题，每题 2.5 分，共 50 分。在每题列出的四个选项中，选出最符合题目要求的一项。

1. 在陶寺遗址出土的器物中，既有双耳罐、高领折肩罐等成套陶器，其器型及组合方式与位于陕晋高原的石峁文化相似：也有成组的“V”字形石刀，其渊源可追溯到良渚文化。据此可知，陶寺文化（　　）

A. 是旧石器时代的典型代表

B. 反映了区域文化的交流融合

C. 展现了中原文化的影响力

D. 发展出了领先的手工业技术

2. 西周铭文中有大量“对扬……休”的句式，它通常是下级在接受上级赐赠或册命后的回应。西周中期的青铜器簋铭文中记载，自称“臣弟”的虘在接受了其称为“君公”的兄长赏赐的土地后，“对扬伯休”。虘簋铭文可用于研究西周（　　）

①血缘和政治的结合情况　②土地私有制的推广程度

③统治阶级内部等级关系　④青铜器的礼仪载体作用

A. ①②③　　B. ①②④　　C. ①③④　　D. ②③④

3. 历史上农牧分界线的变化通常与气候、社会因素有关。下图为学者所绘农牧分界线位置移动图。影响分界线从 a 到 b 变化的社会因素可能是（　　）

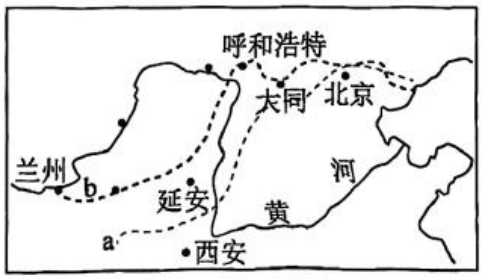

(a) 公元前5世纪—前2世纪中叶
(b) 公元前2世纪中叶—公元1世纪初

A. 商鞅变法期间推行县制　　B. 秦朝迁徙六国豪强至关中

C. 汉武帝向北方移民屯田　　D. 西汉时期设置西域都护府

4. 东晋南朝“始尚姓已”。“谱牒所以别贵贱，明是非”，不仅官方主持修谱活动，如《姓氏簿状》“甄析士庶无所遗”，也有不少私人编写的氏族谱问世。这反映了当时（　　）

A. 士族门第观念盛行　　B. 王朝统治基础扩大

C. 户籍管理制度完善　　D. 儒学已渗透到基层

5. 北宋开封有商家为城市居民“供猫食并小鱼”，南宋临安猫市提供猫的“衣、食、住”甚至养护等方面的专门服务。宋人文集中频频出现爱猫诗词，陆游夸赞猫能“尽护山房万卷书”。这反映了宋代（　　）

①城市服务业发展细化　②文学创作呈现世俗化倾向

③工商业市镇大量兴起　④雕版印刷术开始得到普及

A. ①②　　B. ①④　　C. ②③　　D. ②④

6. 茶是各民族交往交流交融的纽带。以下与茶相关的史事，按时间先后排序正确的是（　　）

①被册封为阐化王的乌斯藏僧人受赐巴茶

②文成公主将汉地饮茶风俗带入藏区

③宣政院辖地雅州所产西番茶成为御用品

④理藩院奏准川藏之间进行茶叶贸易

A. ②④①③　　B. ④①③②　　C. ③②①④　　D. ②③①④

7. 1862 年，《大清律例》西班牙语译本在古巴发行。该书以英译本为底本，增加了 11 条西班牙语注释，其中对“犯罪存留养亲”给予高度评价，认为应“被纳入所有文明国家的法典之中”。译文还被西班牙殖民政府用于古巴华工的司法实践。以下理解正确的是（　　）

A. 《大清律例》开创了律例合编的体例

B. 中法西传有助于增进世界对中国的了解

C. 此书标志着中国融入近代国际法体系

D. 礼法结合成为拉丁美洲立法的重要原则

8. 某时事杂咏诗中写道：“北海鲸鲵跋怒潮，奔腾杀气直冲霄。联盟岂第全商务，抗命方能保圣朝。半壁河山资保障，满天风雨几漂摇。”据其内容判断，该时事的背景是（　　）

A. 鸦片战争爆发　　B. 阿古柏入侵新疆　　C. 八国联军侵华　　D. 军阀混战和割据

9. 1919 年 5 月，英美烟草公司的代理人发表声明，指证南洋兄弟烟草公司总经理简照南有日本国籍。此事一出，南洋公司面临巨大的政治和社会压力。简照南放弃日籍以维护企业的国货形象，却难以完全切断企业与西方的技术及业务联系。此事件反映了（　　）

①近代民族工业面临复杂的政治和商业环境

②外资企业由于实力不济长期敌视民族工业

③爱国热情高涨对民族工业的发展产生影响

④美日趁着欧洲列强忙于一战加紧侵略中国

A. ①②　　B. ①③　　C. ②④　　D. ③④

10. 1932 年中华苏维埃共和国国家银行成立后，严格执行纸币发行的准备金制度，确保纸币可随时兑换银元；通过投放食盐、布匹等物资支撑币值，设立多处兑换处方便群众兑换；同时向农业、手工业发放低息贷款，并以严厉法规打击制造假币、破坏货币信用的行为。这些举措意在（　　）

A. 构建起支持革命战争的金融秩序

B. 建立全国统一的货币流通渠道

C. 实现苏区与国统区货币对等兑换

D. 开创社会主义性质的金融制度

11. 抗日战争进入相持阶段后，晋察冀根据地军民在“自己动手，丰衣足食”号召下开展大生产运动，并推行“劳武结合”——农民耕作时携带武器，遇日军“扫荡”则迅速转入战斗。这一做法（　　）

A. 改变了敌后根据地的经济结构

B. 旨在改善根据地工业落后面貌

C. 彻底消除了根据地的阶级矛盾

D. 助力敌后根据地坚持持久抗战

12. 某部解放战争史著作中有以下几章：第一章光明与黑暗的交锋、第三章调动深厚战争伟力、第五章中国之命运的决战等。以下内容属于第三章的应是（　　）

A. 制定《中国土地法大纲》　　B. 重庆谈判“以和为贵”

C. 首战辽沈解放东北全境　　D. 工作重心向城市转移

13. 1954 年在贵州省麻江县宣传宪法草案时，苗族人民传唱“当家作主真高兴，讨论宪法要认真”“男女一律都平等，封建思想要改正”“农民要想都富裕，互助合作大道行”。宪法草案的宣传（　　）

①增强了民众对人民民主原则的认同

②反映了农业社会主义改造的完成

③以法律形式确立民族区域自治制度

④有利于转变人民群众的思想观念

A. ①②　　B. ①③　　C. ①④　　D. ③④

14. 在非洲、亚洲、欧洲、美洲都出现过“金”字形的巨大建筑。对以下建筑解释合理的是（　　）



公元前 3 千纪中期，埃及金字塔，由巨石砌成，是法老陵墓

公元前 3 千纪晚期，乌尔金字形神塔，用于供奉和祭祀月神

公元前 1 世纪晚期，塞斯提伍斯金字塔陵墓，混凝土结构外覆大理石

公元 9 世纪，羽蛇神金字塔，塔顶有祭祀神灵和观察天象的神庙

A. 埃及是世界上最早进入文明的地区

B. 文明的交流使其发展具有同一性

C. 塔型结构适应人类早期的居住需要

D. 区域文明既呈现多元又具有共性

15. 下图是某同学在查阅资料时所做的笔记图示。该图示（　　）

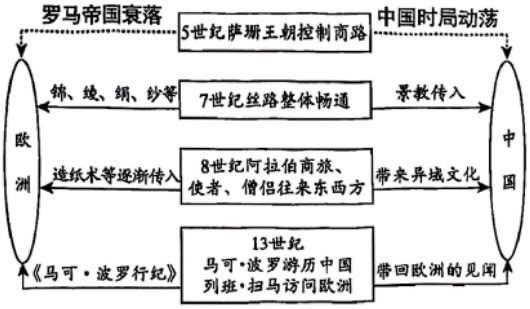

①呈现了中古时期中外交流的完整脉络

②体现了中外政局的变动对交流产生影响

③反映了中西方交流内容丰富、方式多样

④肯定了阿拉伯人在交流中的桥梁作用

A. ①②③　　B. ①②④　　C. ①③④　　D. ②③④

16. 1864 年 9 月 28 日国际工人协会成立，出席大会的有英、法、德、意等国的工人代表以及一些资产阶级民主人士等。大会选出临时委员会，马克思负责制定组织的纲领和章程。该组织的成立体现了当时工人运动的发展状况是（　　）

A. 无产阶级开始登上历史舞台

B. 从分散斗争走向国际联合

C. 推翻欧洲各国封建专制统治

D. 建立统一的无产阶级政党

17. 1871 年 10 月 8 日芝加哥发生严重火灾，300 多人丧生，10 万人无家可归。芝加哥消防局在灾后重组，将全市划分为 18 个责任区，每区配备若干消防队，并推行军事化管理。1877 年，全市消防站均装备电力报警系统，并可与消防报警办公室直接通话。这反映了（　　）

①城市公共安全事业发展

②科技进步助推城市治理水平提升

③市民消防意识普遍提高

④美国政府加强对社会生活的干预

A. ①②　　B. ①④　　C. ②③　　D. ②④

18. 一战爆发后，英国文官的职责由常规行政事务迅速转向战时动员统筹，如贸易委员会和劳工部需确保工业转向军工生产，农业与渔业委员会负责最大限度提高粮食产量，交通部负责快速高效地运送部队和补给等。由此可知，英国文官制度（　　）

A. 维护了自由放任政策　　B. 层次过多影响战时效率

C. 主导军事战略的决策　　D. 具有因时而变的灵活性

19. 20 世纪二三十年代，亚洲民族解放运动浪潮迭起：在中国，国共合作下的国民革命蓬勃发展；在印度，甘地领导的反抗英国殖民统治的斗争持续开展；印尼在苏加诺推动下发起反荷兰殖民统治的斗争等。这些运动的共同之处在于（　　）

①以非暴力手段争取民族独立

②具有鲜明的民族民主运动特征

③推动民族意识的进一步发展

④摧毁了列强在亚洲的殖民体系

A. ①②　　B. ①③　　C. ②③　　D. ③④

20. 下图是创作于 1949 年的漫画《又打扮起来了》，画面中美国正给坐在标有“军国主义”凳子上的日本进行“取消赔偿”的重新武装，原本规定“中美英三国勒令日本无条件投降、根除日本军国主义”的《波茨坦公告》被扔进了垃圾桶。该漫画反映了（　　）



A. 反法西斯同盟国放弃对日本的处置权

B. 日本凭综合国力免除了战后赔偿责任

C. 美国基于冷战战略需求调整对日政策

D. 当时的国际局势总体趋向缓和与稳定

第二部分

本部分共 5 题，共 50 分。

21. 长安城

材料一　汉高祖时，在秦朝兴乐宫、章台的基础上，“治长乐宫”“营作未央宫”并“立东阙、北阙、前殿、武库、太仓”。惠帝时筑城墙，建西市；筑城时因北垣临近渭河支流，故而随河斜行。武帝时期，大力增筑新宫殿，主要有桂宫、明光宫、建章宫。西汉晚期，礼制建筑以南郊最为集中，其中有成帝时所立圜丘、平帝时所立辟雍等。

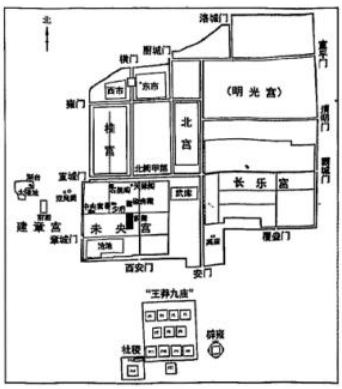

图 1 汉长安城平面复原图

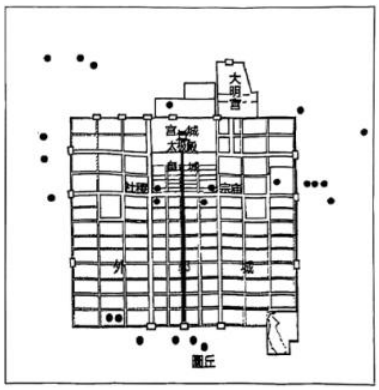

图 2 唐长安城主要礼制建筑分布示意图

材料二　唐长安城（图 2）基本符合《周礼》所记“方九里，旁三门，国中九经九纬，经涂九轨，左祖右社”的都城建制，其布局坐北朝南，以面南为尊。宫城的位置对应天帝所在的北辰，太极殿是皇帝举行登基、册封等仪礼之地。《大唐开元礼》分吉、宾、军、嘉、凶五礼。吉礼以圜丘祭祀为首，皇帝于冬至日率众人经城市南北轴线至南郊圜丘祭祀，以示天子受命于天，此外还有在城外四郊举行的郊祀等。在宫城或大明宫举行的元旦大朝会是嘉礼中最隆重的仪典之一，有上万人参加，不仅有各州朝集使，也有羁縻州首领与周边诸国使节。“户部尚书奏诸州贡献，礼部尚书奏诸蕃贡献”，列席者可以亲身体验到唐朝统治疆域之广。长安城的布局不仅成为古代都城的典范，也是日本平安京等城市效仿的对象。

（1）依据材料一和图 1，归纳汉长安城的特点。

（2）围绕“礼与唐长安城”这一主题，结合所学对材料二加以解释。

22. 总理船政总理船政是清朝特设的海防机构，由左宗棠倡议，1866 年设立于福州马尾，沈葆桢为首任船政大臣，下设制造、教育、军事等多个部门。

材料一　①左宗棠《试造轮船先陈大概情形折》：“窃维东南大利，在水而不在陆……有事之时，以之筹调发……匪特巡洋缉盗有必设之防，用兵出奇有必争之道也……是非设局急造轮船不为功。”

②左宗棠《详议创设船政章程购器募匠教习折》：“开设学堂，延致熟习中外语言文字洋师，教习英法两国语言文字、算法、画法，名曰求是堂艺局。”

③曾被聘为船政正监督的法国人日意格认为：“船厂在此兴建，距省会较近.容易使高级官宪目睹制造，发生兴趣。此处又有重要的海关，船厂的经费较易筹措。停船处能泊吃水至二十二三尺的船，深度正适宜船厂拟造的舰船。”

④《英国驻华各口岸领事商务报告》（1872 年）“福州船政局当局……• 难于供给其炮船以燃料，显然为英国的煤荒所迫，他们已开始注意台湾的矿藏。

⑤沈葆桢等《闽厂轮船不敷调遣应行添造抄片》（1874 年日本侵台后）“辰下海防吃紧，扬武、飞云、安澜、靖远、振威、伏波皆兵船也……臣拟派此六号常驻澎湖，随之练习合操阵式……合恳天恩，准将闽厂轮船续行兴造，以利海防。”

材料二



总理船政地理区位示意图


“万年清”是清朝建造的第一艘蒸汽动力军舰。自古以来，福州就是重要的造船基地，在此船的建造中，工匠们应用了多项传统造船技术。

总理船政设于马尾有何优势？依据材料，结合时代背景，对此加以阐述。

23. 马尼拉大帆船贸易

材料一　1571 年，西班牙攻占马尼拉。1573 年 7 月，两艘载着中国货物的大帆船借助季风扬帆首航，自马尼拉出发前往美洲，11 月抵达墨西哥阿卡普尔科。为避开北太平洋的台风季，船队须在 3 月底前离开

墨西哥返回马尼拉。中国商品每年在马尼拉海关交纳的进口税，在总额中的占比几乎都超过50%，最高年份达到92%。大帆船贸易至1815年结束。

材料二　东洋则吕宋（今菲律宾吕宋岛），其夷佛郎机（明代对西班牙和葡萄牙的混称）也。其国有银山出银，夷人铸作银钱，独盛我中国……（人）若贩吕宋，则单是得其银钱而已……是以中国湖丝百斤，值银百两者，至彼悉得价可二三百两。而江西之瓷器，臣福建之糖品、果品诸物，皆所嗜好。

——（明）何乔远《请开海禁疏》

材料三



图1



图2

图1明朝织有双头鹰的“西班牙织物”

图2油画《着马尼拉披肩的女人》，菲律宾阿亚拉博物馆藏。披肩采用中国典型纹样和技法，是西班牙人的经典配饰

在大帆船贸易存续期间，大约有4至6万亚洲人通过太平洋上的航线进入美洲，其中包括菲律宾人、日本人、中国人等。

“Parián”是个流传至墨西哥的菲律宾词，意为“市场”。该词在菲律宾语中确切指代中国华侨在菲律宾建立的市场，因词义与华人商贸相关，有推测指出该词源于闽南语中“balian”（八连）的发音。有学者指出，“Parián”一词在18世纪后半叶之前被广泛使用，用来指马尼拉的华人社区。

（1）阅读材料并结合所学，对马尼拉大帆船贸易加以阐释。

（2）在工业时代到来之前，马尼拉大帆船贸易处于经济全球化的黎明期。结合所学，简述此观点的合理性

24. 非洲与柏林会议

材料一　1884年，俾斯麦主持召开了柏林会议。他在发言中指出，这次会议的目的在于促进非洲土著“文明化”，使非洲内陆为商业开放，并提出三点具体建议：一是列强在刚果河流域自由通商；二是刚果河与尼日尔河自由通航；第三，要为未来“有效地占领土地，达成正式的协定”。各国代表随后转入秘密谈判，最终达成瓜分非洲的“总协议”。

材料二　1972年，拉美史学家罗德尼写成《欧洲如何使非洲欠发达》一书。他将欧洲人对非洲的影响分为两个阶段：一是前殖民主义时期的奴隶贸易阶段；二是以1885年《柏林条约》为标志的帝国主义瓜分非洲及随后的殖民主义时期，非洲生产的剩余价值加速外流，资本主义世界与非洲之间的差距愈发拉大，“这意味着处于同一辩证过程中的欧洲的发达和非洲的欠发达”。他认为：“资本主义的辩护士是一种迅速消逝的社会制度的代言人……苏联、中国、朝鲜和东欧一些国家是与资本主义和帝国主义彻底决裂

的国家。”“在过去的500年，国际资本主义体系一直是致使非洲欠发达的主要作用机制，非洲的发展只有建立在与这一体系进行彻底决裂的基础上才有可能。”

（1）阅读材料一，结合历史背景，分析俾斯麦主张的目的。

（2）结合两则材料，对罗德尼的这本著作进行简要评价。

25. 邮票上的对外开放



图1



图2



图3

材料一　图1是《中国共产党成立100周年》纪念邮票第10枚“对外开放”。邮票主体图案为深圳“拓荒牛”雕塑；上半部分的四幅小图分别为厦门、汕头、珠海经济特区，以及上海南浦大桥（连接浦西与浦东新区），展现了这些区域作为“引进窗口”的角色定位。

材料二　图2《中国加入世界贸易组织》是国家邮政局为了庆祝中国加入世界贸易组织特别发行的邮票。图案由华表、世界贸易组织标志和中国国际贸易中心大厦组成。它不仅记录了中国社会主义市场经济体制逐步建立和完善的过程，也是中国融入经济全球化的真实写照。

材料三　图3是《新疆维吾尔自治区成立七十周年》纪念邮票第3枚“开放高地”。邮票图案以中欧班列穿行霍尔果斯国门为主体，远景融入乌鲁木齐国际机场、光伏电站等基础设施，展现了新疆作为“一带一路”核心区的发展活力；博格达峰则预示着宽广的视野与攀登精神。

结合以上材料及所学知识，选择两个视角，谈谈对我国对外开放发展的认识。要求：信息提取充分，史论结合，逻辑清晰。

参考答案

一、选择题（共 50 分）

1	2	3	4	5	6	7	8	9	10
B	C	C	A	A	D	B	C	B	A
11	12	13	14	15	16	17	18	19	20
D	A	C	D	D	B	A	D	C	C

二、非选择题（共 50 分）

21.（10 分）参考答案要点：

（1）建城规划上，依托前朝原有建筑发展，注重因地制宜。营建过程上，经历了长期的修建和完善。外形轮廓上，呈现不规则方形布局。功能分区上，宫殿区占主体，礼制建筑集中于南郊，市场位于城北。（4 分）

（2）唐长安城契合《周礼》规制，礼制建筑众多，既彰显了都城的核心政治功能，又体现了统治者对礼治的提倡。

都城中轴对称、坐北朝南的布局，宫城和太极殿的位置设计以及圜丘祭天的礼仪安排，凸显了皇权至上的理念，并赋予政权正统性与合法性。

在宫城或大明宫举行的元旦大朝会，汇集地方官员、边疆民族首领及周边诸国使节参与盛大仪典，既展示了大一统王朝中央集权的统治秩序和民族向心力，也折射了唐代对外交流的活跃。

唐长安城将国家礼仪制度融入城市空间布局，不仅对后世影响深远，也被邻国借鉴参考，反映了唐代礼治文明的历史地位和对东亚地区的辐射作用。（6 分）

22.（10 分）参考答案示例：

两次鸦片战争以来，列强从海上对中国的威胁日益加剧，左宗棠等官员认识到强化东南海防的必要性。19 世纪下半叶，随着日本对台湾的侵略，边疆危机加剧，清政府急需加强对台湾、台湾海峡地区的管辖和防务。在此形势下，马尾地区的战略价值不断显现。

马尾地理位置优越，一方面具有天然良港；另一方面地处闽江下游，航道狭窄，两岸险要的地形以及炮台的部署，为船政提供了天然和军事屏障。船政临近台湾，便于获取工业生产和船政航运所需的燃料。船政设于马尾，便于就近从闽海关调拨经费。

福州自古以来造船业发达，为船政的发展提供了技术条件。福州是最早开放的通商口岸之一，西学在这一地区的传播便利了向西方学习，有利于洋务运动的开展。

综上所述，福州船政设于马尾，不仅体现了洋务派“师夷长技”的战略眼光，也反映了晚清在内外压力下寻求现代化的努力。（10 分）

23.（12 分）参考答案示例：

（1）随着新航路开辟和欧洲殖民扩张，美洲的墨西哥和亚洲的菲律宾沦为西班牙的殖民地。16 世纪至 19 世纪初，西班牙在这两个殖民地之间经营横跨太平洋的“马尼拉大帆船贸易”，以马尼拉和阿卡普尔科为枢纽，中国的生丝、瓷器等产品是主要商品，西班牙从美洲开采的白银大量输入中国。

大帆船贸易对相关国家和地区的经济、文化发展产生了一定影响。它促进了中国的白银货币化及东南沿海地区经济的发展；为西班牙带来了高额的垄断利润；同时丰富了菲律宾马尼拉市场的商品种类，带动了该地区经济的发展。商贸活动的开展也推动了人口的流动和迁徙，华人到菲律宾和墨西哥经商、定居，为当地发展作出了贡献；商贸活动还促进了文化的传播与交流，中国的纺织品、西班牙服饰和墨西哥语言都在互动中吸收了新元素，产生了新变化。（8 分）

（2）“黎明期”既意味着发展早期的不成熟，也是全新阶段的开始。前者表现为贸易仍使用依赖自然

条件的帆船、贸易商品为手工生产，这些都远不及工业时代使用蒸汽船运输以及机器大生产所带来的贸易规模。后者则体现为它在亚洲和美洲之间建立了直接的商贸联系，是正在形成中的世界市场的重要组成部分。（4 分）

24.（10 分）参考答案要点：

（1）随着第二次工业革命的开展，欧洲主要资本主义国家为获取市场、原料和投资场所，对非洲内陆的争夺日趋激烈；德意志帝国完成统一后虽然快速发展，但在非洲殖民扩张中起步较晚。在柏林会议上，俾斯麦的主张是为了调解列强之间的矛盾、确立瓜分非洲的规则，也为本国介入殖民争夺、争取自身利益创造有利条件。（4 分）

（2）《欧洲如何使非洲欠发达》是 20 世纪非洲史、全球殖民史研究领域的重要著作。它产生于亚非拉民族解放运动高涨与美苏两极对峙的时代背景之下，运用马克思主义揭示了殖民主义与非洲欠发达之间的内在联系，反映了基于反殖民、反霸权现实需要的历史反思，展现了史学家的全球视野与学术担当，有力质疑了“殖民推动文明进步”的西方叙事，也有助于非洲新兴国家对于发展道路的探索。（6 分）

25.（8 分）参考答案示例：

我国的对外开放在空间拓展、层次深化的实践推进中，精神内涵也在继承中不断发展。

空间扩展：从兴办经济特区，到后来开放沿海港口城市、沿海经济开放区、建立上海浦东新区，再到向内陆、沿边地区延伸，逐渐形成全方位开放的格局。

层次深化：从最初侧重于吸引外资、引进技术，到加入世贸组织后更注重对接国际经贸规则，完善社会主义市场经济体制，再到依托“一带一路”建设契机，加强国际合作，通过陆路、航空等方式推动生产要素国际流动，逐步深度融入经济全球化进程。

精神发展：从开放初期的开拓与创业精神，至扩大开放后的突破与进取精神，再到当今的合作共赢与责任担当精神，精神的传承与超越不断推动着开放实践。

综上，在中国共产党的领导下，我国的对外开放持续拓展广度与深度，为中国式现代化建设提供了有力支撑。（8 分）