2026 北京朝阳高三（上）期末

历　　史

（考试时间 90 分钟；满分 100 分）

第一部分（选择题共 45 分）

本部分共 15 小题，每小题 3 分，共 45 分。在每小题列出的四个选项中，选出最符合题目要求的一项。

1. 阿尔及利亚塔西利-恩-阿耶是世界上最大的史前艺术收藏地之一，洞壁岩画是人类艺术史上的瑰宝。岩画内容丰富多样，描绘了河马、长颈鹿、帆船等以及人类狩猎、采集、播种、畜牧等生产生活场景。这些岩画反映了（　　）

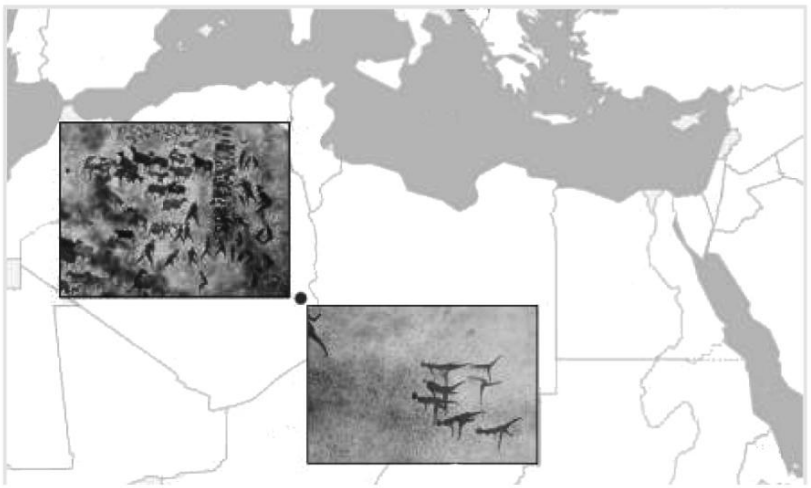

A. 古代北非农业技术的起源与传播

B. 撒哈拉地区气候变迁与人类适应

C. 地中海文明对非洲内陆深远影响

D. 艺术手法从写实到抽象演进过程

2. 公元前 6 世纪结束时，明确的自我称谓——“希腊人”一词被广泛接受，清晰的古希腊认同意识形成。下列选项中，对此起到了推动作用的有（　　）

①荷马史诗的广泛传播，塑造了共同的英雄记忆与价值观念

②以本土模式建立的海外殖民城邦，推动区域经济文化互动

③城邦政治制度从多样到趋同，为统一的文化认同奠定基础

④腓尼基字母被改造为希腊字母，为文化交流提供便捷工具

A. ①②③　　B. ①③④　　C. ①②④　　D. ②③④

3. “倭在韩东南大海中，依山岛为居，凡百余国。自武帝灭朝鲜（公元前 108 年灭卫氏朝鲜，设汉四郡），使驿通于汉者三十许国，国皆称王，世世传统”。下列各项中，与日本列岛这一局面的改变直接相关的是（　　）

A. 秦汉移民　　B. 大化改新　　C. 幕府统治　　D. 明治维新

4. 2024 年 11 月正式启用的钱凯港，开创了“从钱凯到上海”的新时代亚拉陆海新通道。聚焦秘鲁，以下相关表述正确的是（　　）

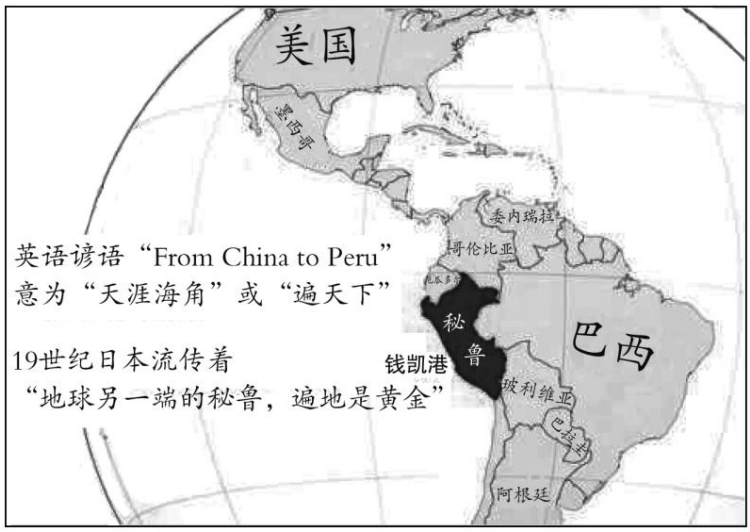

①这里是阿兹特克文明的摇篮

②麦哲伦船队环球航行经停地

③圣马丁等领导反抗西班牙殖民斗争

④印第安人是该国人口重要组成部分

A. ①②　　B. ①④　　C. ②③　　D. ③④

5. 腓力二世是法国历史上唯一一位获得“奥古斯都”称号的国王。他利用了教皇发起对法国南部清洁派（卡特里派）的讨伐；他击败了英国国王约翰，成功收复了诺曼底、安茹等大片领土。在他的统治时期，巴黎真正成为了法国的政治、经济和文化中心。有学者称“他的身上，见证了 13 世纪英法两国王权与各种势力之间关系所经历的深刻调整”。对这段历史的理解准确的是（　　）

A. 法国依赖教皇支持扩张海外，英国脱离教廷控制

B. 法国通过集权巩固了王权，英国则走向有限王权

C. 法国进入等级君主制阶段，英国内阁掌握了实权

D. 法国以城市为中心崛起，英国以地方自治为核心

6. 18 世纪中后期，欧洲启蒙运动的思想交锋日趋深入。英国哲学家休谟提出：“人类的知识来源于经验，我们无法通过理性推理得出超出经验范畴的结论，对于那些无法被经验验证的概念，其真实性是值得怀疑的。”休谟的这一理论探索（　　）

A. 标志英国启蒙运动进入高潮阶段

B. 主张回归古希腊罗马的人文精神

C. 形成重视经验的理性化思维方式

D. 促使思想家重新审视理性的边界

7. 1902 年，英、德、意三国因委内瑞拉未能偿还债务，封锁其港口并炮击海岸。美国随即介入，援引“美洲事务应由美洲国家自主处理”的原则，要求欧洲国家接受仲裁。对美国行为的解释合理的是（　　）

A. 维护美洲独立，抵制欧洲的殖民扩张

B. 美西战争获胜后，企图主导全球秩序

C. 借助门罗主义，扩大对拉美事务干预

D. 凭借强大实力，使欧洲放弃武力行动

8. 1919年3月至4月是印度历史上一个重要的历史时期。3月21日，虽遭印度议员集体抵制，印度中央立法议会最终通过“对煽动叛乱嫌疑犯可以不加审判即予监禁”的《罗拉特法》，随后4月的印度发生了一系列事件。这些事件产生的影响是（　　）



1919年4月13日，约2万名群众集会示威，英军制造了379人被打死、1200多人受伤的惨案。

A. 引发了甘地领导全国性非暴力不合作运动

B. 推动提拉克为代表的激进派登上历史舞台

C. 在华夫脱党领导下展开多种形式护宪斗争

D. 英国当局被迫同意印度成为独立的自治领

9. “帝国主义是发展到垄断组织和金融资本的统治已经确立、资本输出具有突出意义、国际托拉斯开始瓜分世界、一些最大的资本主义国家已把世界全部领土瓜分完毕这一阶段的资本主义”。下列说法中，对这段材料理解正确的是（　　）

A. 对外投资等同于帝国主义　　B. 资本主义发展至最高阶段

C. 实现国家垄断可消除竞争　　D. 瓜分完毕以实现矛盾调和

10. 下列作品所对应的历史事件，按时间顺序排列正确的是（　　）



①宪章运动



②芝加哥工人运动



③巴黎公社



④攻占冬宫

A. ①②③④　　B. ②①③④　　C. ①③②④　　D. ①③④②

11. 下表是20世纪30年代美国政府外贸政策调整

1930年	《斯姆特-霍利关税法》	将进口商品关税提高至历史新高，引发多国报复性关税。
1934年	《互惠贸易协定法》	授权政府谈判降低关税，并成立专门机构协调外贸政策。

政策的转变体现出（　　）

A. 强化国家干预调整国际经济关系

B. 保护本国企业自主参与国际竞争

C. 提高关税壁垒保护本国国内市场

D. 依赖国际组织积极解决贸易纠纷

12. 1941年6月，当纳粹德国对苏联发动“巴巴罗萨计划”时，日本关东军集结百万兵力，开展了大规模军事演习；与此同时，东条英机承认“共产军在华北发动的大规模攻势”所造成的损失“需要耗费长时间和巨额资金才能恢复”。从整个战局来看，德日未能实现其计划的原因是（　　）

A. 远东地区极端的气候和地理条件，削弱德日战斗力

B. 德军陷入了两线作战困局，严重分散了兵力和资源

C. 联盟各国进行广泛合作，全力对抗轴心国及其附庸

D. 亚洲战场牵制侵华日军，阻碍轴心国东西战略会师

13. 1947年的希腊处于内战形势严峻的局面，英国因财政危机无力继续援助。美国总统杜鲁门随即在国会发表演说，要求向希腊、土耳其提供4亿美元紧急援助，并宣称：“自由人民在抵抗企图征服他们的武装少数派或外部压力时，应得到我们的支持。”对杜鲁门此举的根本意图最合理的解释是（　　）

A. 填补英国权力真空，重新划分势力范围

B. 构建集体安全体系，奠定北约组织基础

C. 实施马歇尔计划，控制两国的经济命脉

D. 推行全球干预战略，确立美国霸权地位

14. 它成立于1949年。在其存在的41年间，经历着经济恢复、计划协调、经济一体化等几个时期。成员国每年至少召开一次首脑会议。在1985年的会议上要求加强成员国长期科技合作，规定在2000年前各成员国在经济电子化等领域取得突破性进展。这个组织是（　　）

A. “经互会”　　B. “欧共体”　　C. “华约”　　D. “东盟”

15. 第二次世界大战后，美国、联邦德国、日本就业人口分布发生显著变化。下列分析理解准确的有（　　）

第二次世界大战后美国、联邦德国、日本就业人口分布的变化

经济部门	年份	美国	联邦德国	日本
农业	1950年	12.2%	23.2%	50.7%
	1990年	2.8%	5.1%	7.2%

工业	1950 年	34. 7%	42. 2%	22. 2%
	1990 年	25. 8%	40. 5%	33. 6%
服务业	1950 年	48. 9%	32. 4%	26. 6%
	1990 年	71. 4%	54. 4%	59. 2%

①农业是战后日本的核心产业部门，小农经济是日本主要经济特征

②机械化、化肥、良种技术的进步，农业生产对劳动力的依赖度降低

③深厚工业基础和技术传统及马歇尔计划援助，德国工业保持稳定

④科技革命带来了从传统劳动密集型向现代知识密集型的结构升级

A. ①②③　　B. ①②④　　C. ①③④　　D. ②③④

第二部分（非选择题共 55 分）

16. “发现”

材料一

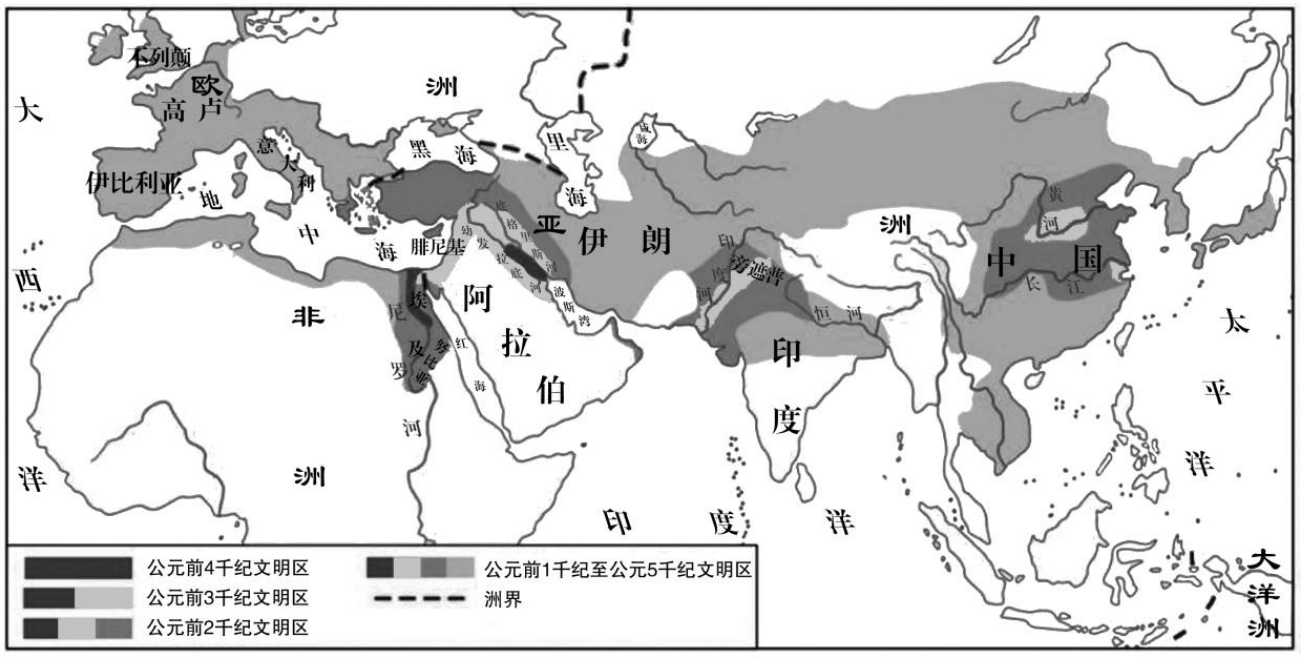

材料二

《史记》 司马迁	臣在大夏时，见邛竹杖、蜀布。问安得此？大夏国人曰：吾贾人往市之身毒国（印度）。……以骞度之，大夏去汉万二千里，居西南。今身毒又居大夏东南数千里，有蜀物，此其去蜀不远矣。
《历史》 希罗多德	公元前 5 世纪，波斯国王大流士曾派遣探险家斯基拉克斯从印度河出发，向西航行，最终抵达埃及。这次航行证明了亚细亚（除其东部边缘）和利比亚（非洲）一样，是完全被海水所环绕的。

（1）依据材料，说出公元前 4 千纪至公元前 2 千纪，人类文明起源在时间和空间分布上的突出特点。图中公元前 1 千纪后，文明区域呈现出明显的发展态势。以亚欧大陆为例，说明导致这一趋势的重要因素。

（2）为什么说材料二中的两段素材可以成为研究古代世界的重要证据？

（3）有人说 15-16 世纪的欧洲是一个“物质与精神”双重复合的“大发现时代”。从“发现天、地与发现人”两个角度加以简要说明。

17. 神圣 • 罗马 • 帝国

962 年，德意志国王被教皇加冕为罗马人的皇帝，德意志王国逐渐演变为神圣罗马帝国。1125 年，一部分德意志诸侯选举萨克森公爵罗退尔为“罗马人民的国王”，罗退尔以承认他们的选举权为代价换取支持。此后，国王由诸侯选举成为制度。他们选举的国王再经过罗马教皇加冕，正式称神圣罗马帝国皇帝。1356 年，皇帝查理四世为了能让自己的儿子继承皇位，发布“黄金诏书”，确认由七大封建诸侯选举“罗马人民的国王”的合法性，这七大诸侯被称为“选帝侯”。

“（1648 年）所有罗马帝国的选侯、邦君和各邦，应根据本协议确定和确认享有他们自古以来的权利、特权、自由、优惠、自由行使领土权，不论是宗教的，还是政治的或是礼遇性的权利，因而他们永远不能，也不应受到任何人以任何借口进行的骚扰……参加协议的所有各方应有义务保卫和保护本和约的每一项条款不受任何人的侵犯，不论其信奉何宗教……”

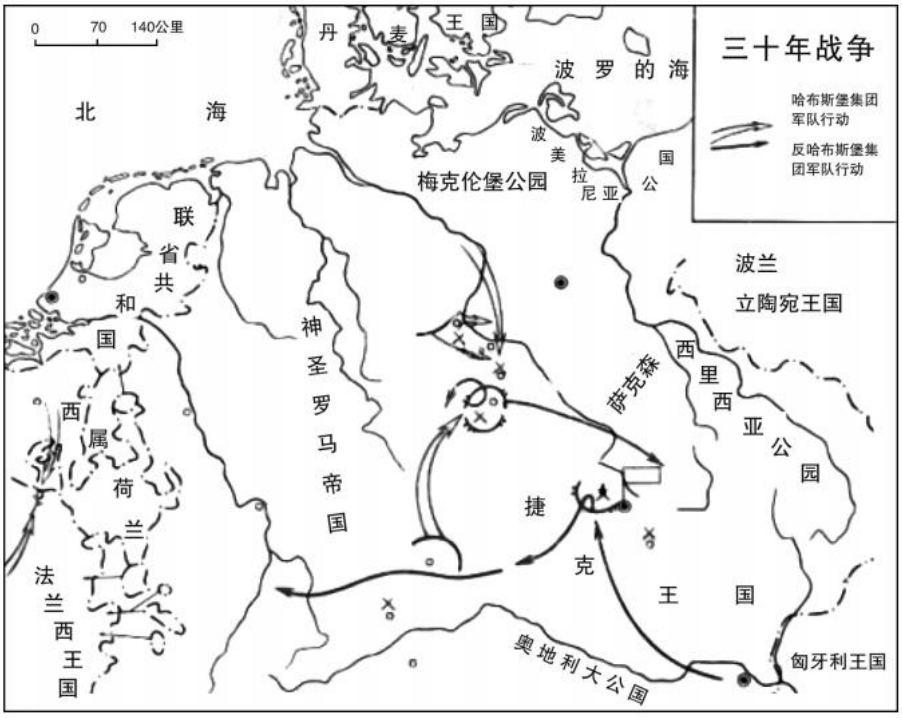

1806 年 8 月 6 日，弗朗茨二世宣布放弃神圣罗马帝国皇帝的称号，神圣罗马帝国正式解散。一个延续了近千年的帝国结束，欧洲向着现代社会前行。

（1）阅读理解材料，结合所学，对以下观点进行辨析。

①神圣罗马帝国是一个由教廷赐予特权的中央集权帝国。

②“黄金诏书”确立了现代意义的民主选举原则。

③“1648 年协约”确立了现代民族国家的“主权平等”原则。

（2）结合材料与所学知识，分析该帝国最终走向解体的历史必然。

18. 工业革命

材料一　从现存文献可知，18世纪末至19世纪初，法国官员在信件里描述当时法国工业化进程时，就已使用“工业革命”这一词汇；英国诗人华兹华斯在《汽船、高架桥和铁路》《世界与我们同在》等诗篇中指出，人们沉迷于获取和消费、享受工业设施带来的便利，却也破坏了自然之美和人类情感。他认为新社会秩序的产生基于工业大变革，这一观点被英国空想社会主义者欧文所接纳。1844年，恩格斯在《英国工人阶级状况》中描绘了大工业给英国社会带来的巨大变化，并提及“工业革命”的概念。随后，马克思和恩格斯指出“蒸汽和新的工具机把工场手工业变成了现代的大工业，从而把资产阶级社会的整个基础革命化了”“由于一切生产工具的迅速改进，由于交通的极其便利，资产阶级把一切民族甚至最野蛮的民族都卷到文明中来了。……它按照自己的面貌为自己创造出一个世界。”1881年，英国史学家阿诺德·汤因比在演讲中认为，工业革命的本质是用竞争取代了先前控制财富生产和分配的中世纪法规，并于1884年出版的《英国工业革命演讲稿》中呼吁通过法律和制度来调节竞争，实现社会的公平与和谐，他使“工业革命”这一术语在英语世界广泛流传。

材料二　工业革命与农业的发现一样，皆是人类历史上具有重大里程碑意义的事件，引发了后人的诸多思考。比如，“我们建设现代化国家，走美欧老路是走不通的，再有几个地球也不够中国人消耗”；又如，后发国家的工业化路径需要回应两个关键问题：如何打破技术依赖？如何平衡增长与公平？如今，在全球科技竞争的大背景下，人工智能成为新质生产力的重要引擎。2024年《政府工作报告》指出，要“深化大数据、人工智能等研发应用，开展‘人工智能+’行动”。人工智能在赋能各行各业的同时，也引发了关于就业替代、数据隐私、伦理安全等方面的全球性探讨。

（1）相较于“工业革命”这一术语在被认知和传播过程中的各种角度，依据材料结合所学知识，简述为什么马克思、恩格斯是从更宏观的视角界定了工业革命的影响？

（2）依据材料结合所学知识，简述工业革命对当今发展的启示。

19.“世界”

材料一　1870年、1913年主要资本主义国家在世界贸易中的占比

年份	国家				
	英国	美国	德国	法国	俄国
1870年	22%	8%	13%①	10%	–
1913年	15%	11%	13%	8%	4%

注：①为1872年数据。

——根据[德]库钦斯基著，陈东旭译《资本主义世界经济史研究》编制

1914年欧洲部分列强占有的殖民地统计表

国家	占有的殖民地数/个	殖民地人口/人
英国	55	3.9亿

法国	29	6235 万
德国	10	1307 万
比利时	1	1500 万
葡萄牙	8	968 万
荷兰	8	3741 万
意大利	4	139 万

材料二　1985—2010 年跨国公司海外分支机构经营情况

年份	海外分支机构总产值占 GDP 的比例	海外分支机构销售额占 GDP 的比例	海外分支机构出口总额占全球出口额的比例
1985 年	4. 77%	20. 02%	30. 30%
1990 年	6. 27%	23. 56%	26. 41%
1995 年	5. 99%	27. 63%	14. 86%
2000 年	9. 63%	47. 70%	44. 67%
2005 年	9. 03%	46. 18%	32. 31%
2010 年	10. 24%	39. 98%	33. 04%

——根据卢进勇、杨国亮、杨立强等编著《中外跨国公司发展史》编制

1985-2010 年世界主要跨国公司演变概览

时段	代表性跨国公司
1985-1991 年	通用汽车（美）埃克森（美）丰田汽车（日）索尼（日）壳牌（英/荷）西门子（德）联合利华（英/荷）
1992-2000 年	微软（美）英特尔（美）思科（美）沃尔玛（美）通用电气（美）三星电子（韩）沃达丰（英）
2001-2010 年	苹果（美）谷歌（美）亚马逊（美）埃克森美孚（美）丰田/大众（日/德）三星电子（韩）中石油/中石化（中）华为（中）海尔（中）Facebook（美）

（1）结合材料与所学知识，分析资本主义世界体系从 20 世纪初到 21 世纪初在主导力量、扩张形式方面的显著变化，并说明导致这些变化的主要原因。

（2）有学者认为，资本主义世界体系的演变始终伴随着“中心”与“边缘”的共生与对立。结合具体史

实，谈谈你对这一观点的理解。要求：观点明确，史论结合，逻辑清晰。

参考答案

2026.1

1	2	3	4	5	6	7	8	9	10	11	12	13	14	15
B	C	B	D	B	D	C	A	B	C	A	D	D	A	D

16.（18 分）

（1）诞生时间的阶段性；起源多源性；北半球大河流域；独立产生和发展；（2 分）

铁器使用和生产力发展、游牧民族的迁徙催生新文明区；波斯、亚历山大、罗马等帝国通过征服打破文明界限，加强了区域联系；丝绸之路与海上贸易连通亚欧，促进商品、技术、文化交流。（6 分）

（2）《史记》与《历史》是东西方古代史学经典。它们涵盖了广泛的历史时期与事件，通过整理多元史料并辅以实地考察，注重客观记录与分析。两者在内容深度、史料价值、研究方法及后世影响等方面具有共通性，为史学研究提供重要参考。（4 分）

（3）新航路的开辟是人类历史从分散走向整体过程中的重要节点，推动了世界各地人口的迁移和物种的大交流，改变了世界的人文地理格局和自然环境状态；文艺复兴的精神内核是人文主义，提升人的地位，肯定人的价值和尊严，重视发挥人的才智和创造力；宗教改革进一步解放了人们的思想；近代科学的兴起促进了思想解放和社会进步。（6 分）

17.（9 分）

（1）略（3 分）

（2）帝国地域广袤、民族众多，民族凝聚力匮乏；从“选帝侯制度”到《威斯特伐利亚和约》承认各邦诸侯的独立权，神圣罗马帝国长期处于封建割据的松散政治格局；宗教改革与三十年战争加剧了宗教势力的对抗以及帝国的分裂；大航海时代之后，欧洲经济重心向大西洋沿岸转移，近代民族国家和民族意识兴起，对传统欧洲秩序造成冲击；拿破仑战争的冲击，加速了帝国的解体进程。（6 分）

18.（12 分）

（1）其他视角：从局部或单一维度展开，如描述现象、以法国为例说明工业化进程、诗人探讨工业革命对道德情感的影响、空想社会主义者思考社会矛盾与改良，或史学家分析竞争推动进步并呼吁社会公平。

马克思、恩格斯将工业革命视为一场**多重维度相互交织、具有世界历史意义的系统性变革**。肯定了工业革命带来的生产力飞跃及其历史进步意义，指出这不仅是技术层面的进步，更是**生产方式的转变、上层建筑的变革，对整个社会结构的变化产生了深刻影响，**还深入到**阶级斗争与社会革命**的深层动力之中；工业革命从英国或欧洲的范围扩展至全球，世界市场、国际分工和殖民体系**成为全球性扩张的起点，**重塑了全球格局，加强了世界各地之间的联系，促进了文化的交流和思想的传播，对不同国家和民族的社会发展产生了深远影响。（历史发展的辩证视角、全面的社会变革视角、全球化的视角） （8 分）

（2）启示：必须坚持科技是第一生产力，推动技术革命和产业升级，掌握核心科技作为现代化建设动力；发展要满足人民美好生活需求，保障劳动者权益，注重公平共享，同步推进社会建设，完善分配、社

会保障和劳动保护制度，维护社会和谐稳定，体现以人民为中心；要坚持人与自然和谐共生，将生态文明融入经济社会发展全过程，实现高质量发展。（4 分）（评分说明：本题为开放性试题，答案须紧密围绕材料，逻辑清晰、言之有理即可酌情给分。）

19.（16 分）

（1）从以英国为代表的欧洲列强占据主导地位，演变为以美国为核心的发达国家与跨国公司形成复合主导局面；从直接进行领土殖民与瓜分，转变为凭借资本、技术和生产网络使各国的生产活动连成一体。（4 分）

两次世界大战极大地削弱了欧洲列强的综合国力，摧毁了其殖民体系的经济与军事根基。二战之后，亚非拉地区的民族解放运动兴起，旧有殖民体系分崩离析，新兴独立国家发展迅速；20 世纪以来，美国的工业生产能力、科技创新能力以及市场规模全面超越欧洲，在两次世界大战期间国力迅速增长，战后借助“马歇尔计划”“北约”等举措掌控了西欧的经济军事命脉，实现了权力中心的转移；以美元为核心的国际货币体系和以美国为主导的国际贸易体系，进一步巩固了美国的经济霸权地位；第三次科技革命为企业开展全球生产、运营创造了条件，跨国公司的迅猛发展，将世界各国纳入全新的国际生产分工体系，使得各国的生产活动紧密相连、相互依存、相互渗透，融为一体。（6 分）

（2）20 世纪初，以英、法、德等欧洲列强为“中心”，其广袤的殖民地和半殖民地构成“边缘”。这种关系建立在武力征服、主权丧失以及不平等交换的基础之上，争取民族独立成为众多国家和地区实现自主发展的基本前提；二战后至 21 世纪，“中心”演变为以美国为核心的发达国家为依托的跨国公司，“边缘”则是承接产业转移的发展中国家。跨国生产网络与金融渗透致使利润、核心技术以及品牌价值仍集中于中心国家，独立自强、自主创新，坚持经济全球化正确方向，成为当今时代最为积极且最具建设性的核心体现。（6 分）